اللآلى البهيه
فى الهندسة الوصفيه

بسم الله الرحمن الرحيم

حمدك يامن عرف بكمال الوصفيه وتنزه عن التشبيه والجسميه اكمل واجب
قام بحقه اللسان واحسن حلية يتحلى بها الانسان واجل ممدود من افواه
المحابر واحسن مرسوم فى صدور الدفاتر وشكرك ياذا النعمة والعطاء
مجلبة لزيادة الالاء فسبحانك يامصور اشكال المخلوقات ومزين مساقط
الغيب بانواع النبات وحافظ الطير فى الفراغ من السقوط وممسك السماء
بلا عمد عن الهبوط ارسيت الجبال على مستوى الغبراء وزينت بالانجم
الزهر محيط الجرباء نسألك ياذا العزة الباهره والقدرة التامة القاهره
ان تصلى على مركز دائرة الكمال نبيك المبعوث فى خير آل محمد القاطع
بالبتر الحداد رؤس اهل الشرك والعناد صلى الله عليه وسلم وشرف وكرم
وعظم وعلى آله الذين اقاموا عمود الدين بمستقيم الحجج والبراهين

ما استبان الضياء ودرجت الظباء وتلونت الحرباء فى هاجرة البيداء (وبعد)
فالرياضة غذاء الارواح ومناط جل مصالح الاشباح بها كمال النفوس
البشرية واصلاح كل خلل مملكى ورزية فهى عند العقلاء اجل صناعه
يربح سعيه من اتخذها بضاعه بل بها تزداد القوة العاقلة وتقوى فى ميدان
المناضلة لكونها غير ظنية الدلائل فلا يؤثر فيها سهم المناضل بل هى
قطعية البراهين مؤسسة على المشاهدة واليقين ولا يبعد ان تكون سببا
للنجاح ومجلبة لرضاء الفتاح لان بها صلاح العباد وزوال مايعتريهم
من ضرر العناد وبالجملة فهى بكل ثناء حريه لاسيما الهندسة الوصفيه
التى هى لغة المهندس ولسانه من عرفها جل عند العقلاء مكانه ومن
لم يعرفها لم يعرف رسما ومن كان فى هذه اعمى فهو فى الآخرة اعمى فلا
يمكنه وصف مشاهد سواء تقارب منه اوتباعد هذا ومن جملة ماانتظم
فى سلك التعريب وتداولته ايدى التصحيح والتهذيب كتاب فى هذا الفن
جديد الاعمال حسن الترتيب ليس له مثال ترجمه الماهر اللبيب والعاقل
الاريب صاحب الاخلاق الحسان ابراهيم افندى رمضان ولما اكمل
تعريبه وتدريسه فى مدرسة الهندسة النفيسه المهندسخانة الخديوية
معدن النفائس الرياضية تداولته ايدى التصحيح ونقحته غاية التنقيح فقابله
على اصله الفرنساوى من هو للمهارة حاوى صاحبى الذى أثق به ودليلى
حسن افندى المصحح الجبيلى فاطلق عنان قلمه فيه وصححه وامعن نظره فى
ترجمته واصلحه ثم وصل الى يد راجى غفر الاوزار ابراهيم الدسوقى عبد الغفار
فهذب عباراته ومبانيه وحرر بعد السؤال معانيه وبذل فيه غاية
المجهود ونظمه نظم اللآلى فى العقود مع مقابله الثانى ومترجمه الاول
ليكون بذلك اتقن واكمل ولا يلزم على تحسين مبناه الاخلال بشئ
من معناه كان ذلك بامر من يجيبه السعد بلبيك سعادة امير اللواء ادهم
بيك لازال محفوفا بالالطاف الخفية مشمولا بالاسعافات الداورية
وفاء بواجب خدمة صاحب السيادة والعطايا الموروثة للسعادة من ملك

بجوده رقاب العباد وعم كرمه منهم الحاضر والباد رب الفطنة القوية والرأى العلى ولى نعمتنا الحاج محمد باشا على ايد الله بمنه وكرمه دولته وسدد بقهره وقوته صولته ولازال مسعود الاوقات دائم الحظوظ والمسرات مجاب المنادى مكبوت المعادى بجاه من ركب البراق وارتقى السبع الطباق ولما تهيأ للتمام ولبس وشاح الختام وسمته باللآلى البهية فى الهندسة الوصفية وقد آن ان نشرع فى المقصود فنقول بعون الله الملك المعبود

(الجزء الاول)

(فى النقطة والمستقيم والمستوى)

(الباب الاول)

(تنبيهات اوليه)

(١)

الهندسة العادية تبين تبيينا تاما الوضع النسبى لاجزاء شكل ما كائن كله فى مستو واحد لكنها غير كافية فى بيان العمليات اللازم اجراؤها فى الفراغ كما يظهر ذلك بامثلة سهلة جدا

ومن المعلوم ان بعد نقطة عن مستوى يقدر بالعمود النازل من هذه النقطة على هذا المستوى لكن كيفية تبيين اتجاه هذا العمود وكيفية تعيين نقطة تقابله بالمستوى لا تنحلان بالهندسة العادية لان طرقها الرسمية غير كافية فى ذلك فلذا لزم استعمال طرق خصوصية تتعلق معرفتها بالهندسة الوصفية فعلى هذا تعريف الهندسة الوصفية بان الغرض منها معرفة رسم ذى الثلاثة ابعاد على فرخ من ورق ذى بعدين فقط غير صواب لان هذا الغرض ليس الا جزءا واهيا منها فانها زيادة عن ذلك تبين طرق بحث يصح تطبيقها مع الفائدة التامة على جميع المسائل العملية للوضع النسبى وبالتحليلات الجبرية يمكن حل مسائل النسب الميترية وبالجملة فبمجموع هذين الفرعين الرياضيين يمكن حل اى مسئلة كانت

وقد قال المهندس مينج فى الهندسة الوصفية انها لغة المهندس فلا بد له حينئذ من معرفة قراءة لغته وكتابتها

ثم ان جميع اشغال المهندس لا تخرج عن مسئلتين

الاولى الوصف اعنى رسم صورة جسم او عدة اجسام على فرخ ورق بحيث

يمكن تكوينها فيما يراد تكوينها فيه من المحال

الثانية التصور اى انه بعد تخيل جسم اوعدة اجسام يعمل رسمها بحيث يمكن ابرازها خارجا بالضبط بواسطة هذا الرسم

(٢)

متى تحرك مستو اواى سطح كان لايعتريه تغير فى جزء من اجزائه ولا فى اوضاع النقط بالنسبة الى بعضها ولا فى اوضاع خطوطه فى وقت تام من اوقات الحركة ولا فى مقادير الزوايا الحادثة بين خطوطه ولا فى طول خطوطه المحدودة ومتى دور مستو حول خط تقاطعه بمستو آخر حتى اتحد معه يقال لذلك انطباق المستوى الاول على الثانى وهذه العملية تتكرر كثيرا فى الهندسة الوصفية لتحويل بعض تراكيب على فرخ من ورق لم تكن فيه ويتحصل ذلك ايضا باعتبارات اخرى كثيرة الفائدة

(فى بيان النقطة)

(٣)

متى امكن ايجاد جميع نقط اى جسم اوسطح اوخط بواسطة معالم علم الجسم اوالسطح او الخط فيجب حينئذ قبل كل شئ معرفة ثبوت وضع اى نقطة فى الفراغ * ويستعمل لذلك عدة طرق نشرحها فيما بعد اسهلها هو اعتبار مستويين يتقاطعان فى زوايا قائمة كما فى (شكل ١) بفرض احدهما قَ قَ افقيا والآخر رَ رَ رأسيا وخط تقاطعهما خ ض يسمى بخط الارض وكل من هذين المستويين اللازم تصورهما ممتدين الى غير نهاية يقطع الآخر الى جزئين او جهتين يسمى الجزء خ ض ق من المستوى الافقى الكائن امام الرأسى بالجزء المقدم والجزء خ ض قَ الكائن خلف المستوى الرأسى يسمى بالجزء المؤخر والجزء خ ض ر من المستوى الرأسى الكائن فوق المستوى الافقى يسمى بالجزء الاعلى والجزء خ ض رَ الموجود اسفله يسمى بالجزء الاسفل ويتكون ايضا من هذين المستويين اربع زوايا زوجية

تميز باسماء الاجزآء المكونة هى منها

فالزاوية ق خ ض ر تسمى الزاوية المقدمة العليا ويرمز لها بالرمز $\overline{م ع}$

والزاوية قَ خ ض ر تسمى الزاوية المؤخرة العليا ويرمز لها بالرمز $\overline{خ ع}$

والزاوية قَ خ ض رَ تسمى الزاوية المؤخرة السفلى ورمزها $\overline{خ س}$

والزاوية ق خ ض رَ تسمى الزاوية المقدمة السفلى ورمزها $\overline{م س}$

(٤)

اذا تقرر ذلك يقال اذا انزلنا من النقطة الفراغية م عمودا م ↄ على المستوى الافقى ق قَ تسمى النقطة ↄ التى هى اثر هذا الخط بمسقط النقطة م الافقى والعمود م ↄ بالخط المسقط افقيا للنقطة م وكذلك اذا انزلنا م ع على ر رَ يكون الاثر ع لهذا المستقيم مسقط النقطة م الرأسى ويكون خط ع م الخط المسقط رأسيا للنقطة م

(٥)

اذا امر مستو من م ↄ و م ع يكون الشكل م ↄ و ع الكائن فى هذا المستوى بالضرورة مستطيلا ويكون المستوى زيادة عن ذلك عمودا على ق قَ وعلى ر رَ فيكون بالضرورة عمودا على خ ض فينتج اولا ان البعد م ↄ اى من النقطة م الى المستوى الافقى يساوى البعد ع و اى من مسقطها الرأسى الى خط الارض

وثانيا ان البعد م ع اى من النقطة م الى المستوى الرأسى يساوى البعد ↄ و اى بعد المسقط الافقى عن خط الارض

وثالثا اذا انزلنا من مسقطى نقطة واحدة عمودين على خط الارض فانهما يقطعانه فى نقطة واحدة

(٦)

المسقطان ↄ و ع للنقطة م يعينان موضعها فى الفراغ وذلك ان

النقطة توجد على عمود المستوى ق قَ القائم من المسقط الافقى ﻫ على بعد يساوى وع فحينئذ اذا اخذ بعد ﻫم = وع تكون النقطة م هى النقطة المطلوبة وتحصل ايضا بأخذ ع م = وﻫ على عمود قائم من النقطة ع على المستوى الرأسى رَ رَ وبالجملة فالعمودان القائمان من النقطتين ﻫ و ع على المستويين ق قَ و رَ رَ يكونان فى مستو واحد فحينئذ يتقاطعان فى النقطة م التى مسقطاها ﻫ و ع

(٧)

وتتعين النقطة اذا كانت على مستقيمين اوعلى مستقيم ومستو وبهذه الكيفية تتعين النقطة دائما لان معنى تعين مسقطى نقطة ما كون النقطة على مستقيمين عمودين على مستويى المسقط ومارين من المسقطين المعلومين

(٨)

وقد اعتبرنا فيما ذكر مستويين فلتحويل التراكيب على فرخ الرسم يفرض ان المستوى الرأسى رَ رَ يدور حول خط الارض خ ض كباب يدور على عقبه حتى ينطبق على المستوى الافقى بحيث ينطبق الجزء الاعلى خ ض ر على الجزء المؤخر خ ض قَ والجزء الاسفل خ ض رَ على الجزء المقدم خ ض ق

وبهذه الحركة يتحرك المسقط الرأسى ع وكذلك خط وع فينطبق فى وكَ على امتداد ﻫو بحيث انه بعد انطباق المستوى الرأسى على المستوى الافقى يكون المسقطان ﻫ و وكَ لنقطة واحدة فراغية على عمود واحد على خط الارض فمن ذلك ينتج ان كل نقطتين منتخبتين اختيارا لايدلان على مسقطى نقطة واحدة فراغية الاان كانتا على عمود واحد على خط الارض

(٩)

ولنرمز من الآن فصاعدا الى اى نقطة فراغية بحرف صغير من حروف الهجاء ولمسقطيها بعين هذا الحرف موضوعا فوقه حرف و ان كان المسقط افقيا و ر ان كان المسقط رأسيا

فالنقطة م الفراغية مثلا يرمز لمسقطها الافقى بالرمز م وللراسى م انظر (الشكل ٢) وتعين اى نقطة فى الهندسة الوصفية بمسقطيها والنقطة المعلومة هى النقطة المعلوم كل من مسقطيها الافقى والرأسى ومتى طلب ايجاد نقطة فراغية فالمراد ايجاد مسقطيها

ومتى وصف اى شكل فراغى وجب رسمه حالا على فرخ الرسم وبالعكس اى انه متى وجد رسم اى شكل لزم تصوره فى الفراغ ومن ثم متى علمت مساقط اى نقطة وجب ان يتصور وضعها الفراغى وبالعكس اى متى علم موضعها الفراغى وجب ان يستنتج منه حالا اوضاع مسقطيها

(فى بيان اوضاع النقطة)

(١٠)

النقطة يمكن ان تشغل عدة محال فراغية يدل عليها باوضاع مسقطيها بالنسبة لخط الارض كما يدل على الاوضاع المذكورة فى الهندسة التحليلية بعلامات وهى مقادير الخطوط الاحداثية ولنذكر الاوضاع فنقول

(اولا) اذا كانت النقطة فى احدى الزوايا الاربع الزوجية الحادثة من مستوى المسقط يسهل مشاهدة وجود مسقطيها على الجزئين المكونين لهذه الزاوية من المستويين وتتضح اوضاعها الاربع التى تشغلها فى هذه الحالة من الشكل (٣)

(ثانيا) اذا كانت النقطة على احد مستوى المسقط فلا مسقط لها على هذا المستوى الا نفسها واما مسقطها الآخر فيكون بالضرورة على خط الارض ولذلك اربع حالات تظهر لك من الشكل (٤) المبين فيه انه لا علامة فوق رمز النقطة ليدل ذلك على ان النقطة هى التى على المستوى لا احد مسقطيها

(ثالثا) اذا كانت النقطة على خط الارض فلا مسقط لها الاهى ولذا لم يكتب بجوارها الاحرف م فقط كما هو مبين فى (الشكل ٥)

(رابعا) اذا كانت النقطة فى احدى الزوايا الاربع الزوجية امكن ان تكون على بعد واحد من مستوى المسقط اى انه يمكن ان يكون وُم = وم انظر (الشكل ٢) و (بند ٥) ومتى كان المسقطان فى جهة واحدة من جهتى خط الارض انطبقا على بعضهما ولذلك حالتان مبينتان فى (الشكل ٦) ومن هنا ينتج

اولا ان جميع النقط الممتازة المساقط والمتساوية البعد عن خط الارض توجد على المستوى القاسم للزاويتين مع و خس الى قسمين متساويين

وثانيا ان كل نقطة اتحد مسقطاها توجد على المستوى القاسم للزاويتين خع و م س الى قسمين متساويين

(فى بيان المستقيم)

(١١)

اذا انزلنا من جميع نقط مستقيم اعمدة على المستوى الافقى تكون اثارها اى مواقعها المساقط الافقية لنقط المستقيم ويكون الخط الجامع لها المسقط الافقى للمستقيم وتكون جميع هذه الاعمدة فى مستو واحد عمود على المستوى الافقى ويكون تقاطعه مع هذا المستوى مسقط المستقيم وكذا يقال فى سقوط اى مستقيم على مستو ما فحينئذ يكون مسقط المستقيم على مستو ما خطا مستقيما

وكيفية تحصيل مسقطى مستقيم ان يمر بهذا المستقيم مستويان عمودان على مستوى المسقط يسمى احدهما بالمستوى المسقط افقيا للمستقيم والآخر بالمستوى المسقط رأسيا للمستقيم

(١٢)

ولنرمز من الآن فصاعدا لاى مستقيم فرانى بحرف كبير ولمسقطيه بعين الحرف المذكور موضوعا عليه حرف ق ان كان المسقط افقيا و ر ان كان المسقط رأسيا فرمزى و ق و ر بدلان على المسقطين الافقى والرأسى للمستقيم و كما فى (الشكل ٧)

وقد يرمز للمستقيم بنقطتين من نقطه لكن المستقيم المحدد الطول يرمز اليه دائما بنقطتى نهايتيه

(١٣)

اى مستقيم يتعين على العموم بمسقطيه لانه اذا اقيم من و ق مستو عمود على المستوى الافقى ومن و ر اخر عمود على المستوى الرأسى يوجد المستقيم و على هذين المستويين معا فيكون بالضرورة خط تقاطعهما ومن هنا ينتج ان المستقيم المعلوم بمسقطيه يعلم حقيقة بالمستويين حيث انه خط تقاطعهما ويتعين ايضا اى مستقيم تعينا تاما بنقطتين من نقطه لانهما يعينان نقطتين من كل من مسقطيه

ولنعتبر اعتبارا زائدا من نقط المستقيم النقطتين اللتين يقطع فيهما المستقيم المذكور مستويى المسقط ويسميان باثرى المستقيم لانهما صالحتان كل الصلاحية لتعيين اتجاهه

(١٤)

(المسئلة الاولى) اذا كان المعلوم اثرى مستقيم والمطلوب ايجاد مسقطيه يقال

اذا فرض ان ا الاثر الافقى للمستقيم د و ـ اثره الرأسى كما فى الشكل (٧) يكون ا و ـ ق على خط الارض انظر (ثانيا من نمرة ١٠) وعلى العمودين النازلين على هذا الخط من النقطتين ا و ـ ق انظر بند (٨) ومن هنا يتحصل نقطتان ا و ـ ق من و

واخريان ـ و أ من وُ فبهذا يعلم المسقطان

(١٥)

(المسئلة الثانية) اذا كان المعلوم مسقطى مستقيم والمطلوب ايجاد اثريه يقال

حيث ان الاثر الافقى كما فى (شكل ٧) على المستقيم و والمستوى الافقى يوجد مسقطه الرأسى بالضرورة على وُ وعلى خ ض فيكون حينئذ فى أ وتكون النقطة ا هى مسقط نفسها الافقى فتكون حينئذ على وُ وعلى عمود واحد على خط الارض مع أ اى انه يكون فى نقطة تقاطع هذين المستقيمين ا وكذلك اذا كان الاثر الرأسى على و وعلى المستوى الرأسى يكون مسقطه الافقى فى واما النقطة نفسها فتكون فى ـ

ومن هنا ينتج انه يلزم لايجاد اثر مستقيم ان يمد المسقط المخالف للاثر فى الاسم الى خط الارض وان يقام من نقطة التقابل عمود على الخط المذكور فتكون نقطة تقاطعه مع المسقط الآخر الاثر المطلوب

(١٦)

قد لا ينحصر المستقيم الممتد الى غير نهاية فى زاوية واحدة وحينئذ يكون الجزء الكائن فى الزاوية م ع مشاهدا لكن كل ما يكون منه خلف المستوى الرأسى او اسفل الافقى يكون مخبأ باحد هذين المستويين وبين ذلك على الشكل بطريقة رسم مساقط اجزاء هذا المستقيم وقد اصطلح على رسم مسقطى الجزء المحصور فى الزاوية م ع بخطين اتصاليين وعلى رسم مسقطى جزء المستقيم المحصور فى احدى الزوايا الثلاث الاخر بخطين نقطيين ذوائى نقط مستطيلة كما يظهر ذلك من اشكال الامثلة الآتية ومن المعلوم ان الجزء المشاهد من المستقيم يكون مسقطه الافقى تحت خط الارض بخلاف مسقطه الرأسى فانه يكون فوقه

لكن لا يليق هذا الاصطلاح الا بالخطوط الاصليه من الشكل اعنى الخطوط الدالة على معاليم المسئلة او مجاهيلها المطلوبة واما الخطوط غير الاصلية فتنقسم

(اولا) الى الخطوط المساعدة وهى وان لم تكن من جملة الخطوط الاصلية لها وقع عظيم فى الشكل وترسم بخطوط متقطعة بمعنى انها مكونة من اجزاء مستقيمة متفاصلة بنقطة او عدة نقط وتسمى بالخطوط المركبة

(وثانيا) الى خطوط العمل وقد تسمى بخطوط السقوط وتعتبر عدمية لقلة نفعها فى الرسم وترسم بخطوط نقطية مكونة من اجزاء اصغر وادق من الاجزاء الداخلة فى تركيب الخطوط المساعدة

وقد يوجد زيادة على اجزاء الشكل المخبأ بمستوى المسقط اجزاء اخر يمكن ان تكون مخبأة باجزاء الشكل الامامية لكن لعدم تكثير خطوط الشكل النقطية المضر بوضوحه نفرض غالبا ان اجزاء الشكل المذكورة تكون مبينة بالخطوط المرسومة على مستوى المسقط الكافية لتعيينها

(فى بيان اوضاع المستقيم)

(١٧)

يمكن ان يشغل المستقيم عدة اوضاع فراغية تبين باوضاع المساقط بالنسبة لخط الارض وبرسم هذه المساقط ولنذكر ذلك فنقول

(اولا) قد يكون المستقيم مايلا بالنسبة لمستوى المسقط وجزؤه المحصور بين الاثرين فى احدى الزوايا الاربع الزوجية فحينئذ يكون اثرا المستقيم المذكور كائنين على جزئى المستويين المكونين للزاوية المذكورة فبذلك يتحصل معنا اوضاع اربعة كما فى (الشكل ٨) وتسهل معرفتها بمجرد رسمها ولاجل بيان هذا الرسم نقول حيث كان فى الوضع الاول الجزء ا ـ الكائن فى الزاوية

م ع مشاهدا يكون الجزآن ا ـ و ا ـ من المستقيمين مرسومين

بخطين

بخطين اتصاليين لكن المستقيم و بعد مجاوزته نقطة ا يمر تحت المستوى الافقى وبمجاوزته النقطة ـ يمر خلف المستوى الرأسى ومن ثم رسم اجزاء المسقط الافقى الكائنين خارج النقطتين ا و ـ وجزء المسقط الرأسى الكائنين خارج النقطتين أ و ـ بخطوط نقطية وبهذه الكيفية يصنع الرسم اللازم اجراؤه فى الحالات الثلاث الاخر

ولنفرض الآن ان المستقيمات مرسومة بدون رمز فنقول لاجل الاستدلال بكيفية الرسم على مسقط المستقيم الافقى يقال ان جزء المستقيم المرسوم مسقطاه بخطين اتصاليين لابد وان يكون فى الزاوية مع فى الوضع الرابع مثلا يكون جزء المستقيم الذى على يسار النقطة ا هو الموجود فى الزاوية الاولى فيكون مسقط هذا الجزء الافقى تحت خط الارض ومسقطه الرأسى فوقه وبذلك تكون النقطة ا اثر المستقيم الافقى والنقطة ـ اثره الرأسى ويقاس على ذلك ايجاد اتجاه المستقيم فى الاوضاع الثلاثة الباقية

(وثانيا) قد يكون المستقيم موازيا للمستوى الافقى فيكون مسقطه الرأسى حينئذ موازيا لخط الارض لان جميع نقط المستقيم و على بعد واحد من المستوى الافقى واما المسقط الافقى فيكون حيثما اتفق وتأتى هنا الاوضاع الثلاثة المبينة فى (الشكل ٩) باعتبار كون المستقيم و فوق المستوى الافقى او داخله او اسفله

(وثالثا) قد يكون المستقيم موازيا للمستوى الرأسى فيكون مسقطه الافقى موازيا لخط الارض واما مسقطه الرأسى فيكون حيث ما اتفق وتأتى هنا الاوضاع الثلاثة المبينة فى (الشكل ١٠) باعتبار كون المستقيم و امام المستوى الرأسى او داخله او خلفه

(ورابعا) اذا كان المستقيم كما قد يتفق موازيا للمستويين المسقط معا فيلزم ان يكون موازيا لخط الارض فيكون مسقطاه حينئذ موازيين لخط الارض خ ض

ومن هنا يتحصل معنا اوضاع تسعة اربعة منها فيما اذا كان المستقيم فى احدى الزوايا الاربع الزوجية كما فى (الشكل ١١) واربعة منها فيما اذا كان المستقيم على احدى اربع جهات مستوية المسقط كما فى (الشكل ١٢) والتاسع فيما اذا كان المستقيم متحدا مع خط الارض كما فى (الشكل ١٣)

وهذه الاوضاع التسعة عين تسعة اوضاع النقطة المبينة فى (الشكل ٣ و ٤ و ٥) فيكفى فيها ان تبدل النقط م و م و م الخ فى (الشكل ٣ و ٤ و ٥) بالمستقيمات و و و و الخ الموازية لخط الارض فاذا كان المستقيم فى هذه الحالة متساوى البعد عن المستويين كان مسقطاه متساويى البعد عن خط الارض ولو كان مسقطاه فى جهة واحدة لانطبقا على بعضهما كما فى (الشكل ١٤) وكان المستقيم حينئذ فى المستوى القاسم للزاويتين م س و خ ع الى قسمين متساويين

(وخامسا) اذا كان المستقيم عمودا على المستوى الافقى يؤل مسقطه الافقى الى نقطة واحدة ويكون مسقطه الرأسى عمودا على خط الارض لان المستوى المسقط للمستقيم رأسيا والمستوى الرأسى للمسقط يكونان عمودين على المستوى الافقى ويكون للمستقيم فى هذه الحالة ثلاثة اوضاع باعتبار كونه امام المستوى الرأسى او داخله او خلفه كما فى (الشكل ١٥)

(وسادسا) اذا كان المستقيم عمودا على المستوى الرأسى كان له كذلك ثلاثة اوضاع متشابهة باعتبار كونه فوق المستوى الافقى او داخله او اسفله كما فى (الشكل ١٦)

وينتج من هاتين الحالتين ان وم كما فى (الشكل ٢) هو المسقط الرأسى للمستقيم المسقط افقيا للنقطة م ومسقطه الافقى النقطة م واما وم فهو المسقط الافقى للمستقيم المسقط رأسيا للنقطة م ومسقطه الرأسى م

(وسابعا) اذا كان اتجاه المستقيم فى الفراغ عمودا على خط الارض صار مسقطاه

مستقيما

مستقيما واحدا عمودا على خط الارض لانا لو امررنا من المستقيم و مستويا رأسيا لكان هذا المستوى عمودا على خ ض فعلى ذلك يكون تقابلاه مع مستوى المسقط و ر و عمودين على خ ض وقاطعين له فى نقطة واحدة فينطبقان على بعضهما بالضرورة بعد انطباق المستوى الرأسى على الافقى ومن هنا ينتج لنا ان مسقطى المستقيم العمودين على خط الارض غير كافيين لتعيين اتجاهه فى الفراغ لكن اذا علم منه نقطتان تعين الاتجاه تعينا تاما ويكون له حينئذ اربعة اوضاع بحسب انحصار الجزء الكائن بين الاثرين فى احدى الزوايا الاربع الزوجية كما فى . (الشكل ١٧)

(وثامنا) اذا قابل المستقيم خط الارض اتحد اثراه ا و ب فى نقطة واحدة من الخط المذكور وقد يتفق فى هذه الحالة ان المسقطين و ر و ر يصنعان كما فى (الشكل ١٨) مع جزء واحد من خ ض زاويتين حادتين احداهما فوقه والاخرى تحته وهذا ينتسب بالضرورة للمستقيم النافذ فى الزاويتين م ع و ح س واما اذا كانت الزاويتان الحادتان مصنوعتين من المسقطين مع جزءى خ ض كما فى (الشكل ١٩) دل ذلك بالضرورة على مستقيم نافذ فى الزاويتين ح ع و م س فاذا كانت الزاويتان الحادتان متساويتين يكون المستقيم اما على المستوى القاسم للزاويتين م ع و خ س الى قسمين متساويين واما على المستوى القاسم للزاويتين خ ع و م س كذلك انظر رابعا من ثمرة (١٠) وفى هذه الحالة يصير المسقطان مستقيما واحدا كما فى (الشكل ٢٠)

(وتاسعا) اذا كان المستقيم المقابل لخط الارض عمودا عليه فان مسقطاه يتحدان ويصيران خطا واحدا عمودا على خ ض ولا يكفيان حينئذ لتعيينه فيلزم اخذ نقطة تما من المستقيم المذكور كما فى (الشكل ٢١)

وينتج مما ذكر جميعه ان المستقيم يكون معينا بالكلية بمسقطى نقطتين من نقطه

الا فى احوال مخصوصة فان مسقطاه لا يكفيان فى تعيينه

(١٩)

اى مستقيمين ليسا عمودين على خط الارض يدلان ابدا على مسقطى مستقيم فراغى لانا اذا اتخذنا المستويين المسقطين من المستقيمين يتقاطعان فى مستقيم معين وقد يكون المستقيم غير معين اذا اتحد مسقطاه وصارا خطا واحدا عمودا على خ ض واى مستقيمين احدهما عمود على خط الارض او كل منهما عمود عليه ولا يقطعانه فى نقطة واحدة لا يصح ان يكونا مسقطى مستقيم واحد فراغى

(٢٠)

المستقيمان الفراغيان اما ان يتقاطعا او يتوازيا او لا يكونان فى مستو واحد ولنبين ذلك فنقول

(اولا) اذا تقاطعا كما فى (الشكل ٢٢) كان مسقطا نقطة تقابلهما م على مساقط و و وَ حينئذ يلزم ان يكون مُ و مُ على عمود واحد على خط الارض انظر ثمرة (٨)

(وثانيا) اذا توازيا فمسقطاهما المتحدا الاسم يكونان متوازيين كما فى (الشكل ٢٣) لان المستويين المسقطين متوازيان

(وثالثا) اذا لم يكونا فى مستو واحد فنقطة تقاطع مسقطيهما الرأسيين لا تكون مع نقطة تقاطع مسقطيهما الافقيين على عمود واحد على خط الارض كما فى (الشكل ٢٤)

(٢١)

ثم ان عكس هذه الدعاوى الثلاث صحيح ايضا اعنى

(اولا) اذا تقاطعت مساقط المستقيمين فى نقطتين على عمود واحد على خط الارض كما فى (الشكل ٢٢) تقاطع المستقيمان فى الفراغ لان مسقطى النقطة م حيث انهما على مسقطى المستقيم و تكون النقطة على هذا الخط وبذلك تكون ايضا على مستقيم وَ

وثانيا

(وثانيا) اذا توازى المسقطان المتحدا الاسم كما فى (الشكل ٢٣) توازى المستقيمان فان المستويان الاربعة المسقطة متوازية مثنى ومثنى وينبنى على ذلك ان خطوط التقاطع الاربعة التى من جملتها مستقيما و وَ متوازية ايضا

(وثالثا) اذا تقاطعت مساقط مستقيمين فى نقطتين ليستا على عمود واحد على خط الارض لا يكون المستقيمان فى مستو واحد كما فى (الشكل ٢٤) فان اى مستقيمين على مستوان لم يتقاطعا يتوازيا فحينئذ تكون مساقطهما مرتبة كما فى (الشكل ٢٢ و ٢٣) وينتج من ذلك انه اذا توازى المسقطان الافقيان فقط او الرأسيان فقط لا يكون المستقيمان متوازيين

(٢٢)

متى كانت مساقط مستقيمين اعمدة على خ ض كانت متوازية ولا يلزم من ذلك ان يكون المستقيمان الفراغيان كذلك

لكن اذا كان و وَ كما فى (الشكل ٢٥) متوازيين واتخذنا على كل من المستقيمين نقطتين ا و ـ و اَ و ـَ وتوهمنا رأسيين نازلين من النقطتين ـ و ـَ واقفين مارين من النقطتين ا و اَ وقاطعين للرأسيين فى نقطتين رمزهما ـ و ـَ حدث مثلثان ا ـ ـ و اَ ـَ ـَ متشابهان لان اضلاعهما المتناظرة متوازية فيحدث

ـ ا : ـ ـ :: ـَ اَ : ـَ ـَ

لكن حيث ان

ـ ا = ا ـ و ـ ـ = اَ ـَ و ـَ اَ = اَ ـَ و ـَ ـَ = اَ ـَ

يحدث بالتبديل

ا ـ : اَ ـَ :: ا ـ : اَ ـَ

(٢٣)

ويقال فى عكس ذلك متى حصلت هذه المتناسبة يكون المستقيمان و وَ متوازيين لان المثلثين ا ـ ـ و اَ ـَ ـَ القائمى الزاويتين فى ـ و ـَ

يكونان بعد تصوّرهما كما ذكر متشابهين لان فيهما زاويتين متساويتين كل منهما محصورة بين ضلعين متناسبين مع ضلعي الاخرى وموازيين لهما كل لنظيره ومنه يحدث ان الوترين ا ب و اَ بَ اوالمستقيمين و و وَ متوازيان

(٢٤)

(المسئلة الثالثة) اذا اريد ان يمرّ من نقطة معلومة مستقيم موازلاخر معلوم يقال

لابد كما في (الشكل ٢٦) ان يمرّ مسقطا المستقيم المفروض س بمسقطي النقطة المعلومة م كل بنظيره وان يكونا موازيين لمسقطي المستقيم المعلوم و كل لنظيره

(في بيان الخطوط المنحنيه)

(٢٥)

اذا انزلنا من جميع النقط ا و ب و ج .... م كما في (الشكل ٢٧) اعني نقط المنحنى ج اعمدة على المستوى الافقي تكوّن من الاثار اٌ و بٌ و جٌ ..... مٌ اعني اثار الاعمدة المذكورة الخط جٌ وهو المسقط الافقي للمنحنى المذكور ج واما الاعمدة نفسها ااٌ و ببٌ و ججٌ ..... ممٌ فتكون متوازية ويحدث عنها سطح سوف نسميه بالسطح الاسطواني ويقال له ايضا سطح مسقط اواسطوانة مسقطة افقيا للمنحنى ج واذا انزلنا ايضا اعمدة على المستوى الرأسي تكوّن منها اسطوانة مسقطة رأسيا للمنحنى ج فالمنحنى ج حينئذ هو تقابل سطحين

واذا كان المنحنى ج مرسوما داخل مستو عمود على المستوى الافقي مثلا كانت جميع المستقيمات ااٌ و ببٌ الخ في المستوى المذكور وكان جٌ تقابل هذا المستوى بالمستوى الافقي ومنه ينتج ان

مسقط المنحنى ج الافقى خط مستقيم وان الآخر منحنى بالضرورة واما اذا كان المنحنى ج فى مستو عمود على خ ض فكل من مسقطيه يكون مستقيما

(٢٦)

(المسئلة الرابعة) اذا كان المراد ايجاد نقط تقابل المنحنى بمستوى المسقط يقال ان النقط التى يتقابل فيها المنحنى ج مع المستوى الافقى كما فى (الشكل ٢٨) تسقط انسقاطا رأسيا على ج وعلى خ ض انظر ثانيا من (نمرة ١٠) فحينئذ يكون المسقطان ا و ـ فى تقاطعهما وتكون النقطتان ا و ـ على ج وعلى العمودين القائمين من النقطتين ا و ـ على خ ض ومن المعلوم ان هذين العمودين يقابلان ج وما ج فى عدة نقط يمكن جعلها كلها بلا تمييز آثارا للمنحنى ج مالم يكن هنالك حالة تجبرنا على عدم اعتبار بعضها آثارا كما لو فرضنا مثلا ان ا و ـ ليسا اثرين للمنحنى ج وبمثل ذلك يكون ايجاد الاثرين الرأسيين

تنبيه قد يوجد جزء من ج غير مقابل لجزء من ج فلا يكون بالضرورة مسقط جزء من المنحنى ج كما ان هنالك جزءا من ج ليس جزءا من مسقط المنحنى ج وسنشرح ذلك

(فى بيان المستوى)

(٢٧)

يمكن ان يمر مستو واحد بمستقيمين متوازيين او متقاطعين او بمستقيم ونقطة وينتخب من المستقيمات التى يمكن ان تعين موضع مستو فراغى المستقيمان اللذان يقطع ذلك المستوى فيهما مستويى المسقط ويسميان باثرى المستوى ومن المعلوم انه لابد وان يقابل اثرا مستو ما خط الارض فى نقطة واحدة هى نقطة تقابل الخط المذكور بالمستوى

ولنرمز لاى مستو فراغى بحرف من حروف الهجاء ولاثريه الافقى والرأسى

بالحرفين ق ، ر عليهما رمز المستوى كما فى (الشكل ٢٩)
فرمز ق م ، ر م يدلان على اثرى المستوى م ومتى علم مستو بمستقيمين
رمز له برمزى المستقيمين المذكورين موضوعين بين قوسين فرمز (أب) مثلا
يدل على المستوى المعين بكل من المستقيمين ا ، ب كما رمز للمستوى المعين
بالمستقيم ا والنقطة ا برمز (ا ا) ورمز (ا ـ ج) يدل على
المستوى المار بالنقط الثلاث ا ، ـ ، ج

(٢٨)

(المسئلة الخامسة) اذا كان المسقط الافقى لمستقيم على مستو معلوم باثريه
معلوما والمطلوب ايجاد مسقطه الرأسى يقال
من المعلوم كما فى (الشكل ٢٩) ان اثرى المستقيم على مستو يكونان
بالضرورة على اثرى المستوى فيكون الاثر الافقى للمستقيم و النقطة ا التى
هى تقابل ق م بالمسقط و ق ومن ذلك نستخرج النقطة ا من المسقط و ر
وايضا حيث ان الاثر الرأسى للمستقيم و ينسقط افقيا فى النقطة ـ ق
التى هى تقابل و ق ، خ ض وان النقطة نفسها فى ـ على ر يعلم و ر
واذا علم و ر استنتج منه ايضا و ق

(٢٩)

(المسئلة السادسة) اذا كان المسقط الافقى لنقطة على مستو معلوم باثريه
معلوما والمطلوب ايجاد مسقطها الرأسى يقال
اذا امر رنا فى مستوى م خطا مستقيما و من النقطة م كما فى
(الشكل ٢٩) يمر و ق من م ق ومنه ينتج و ر انظر (بند ٢٨)
وحيث ان م ر يوجد على و ر وعلى العمود النازل من النقطة م ق على
خ ض يكون م ر فى تقابل هذين المستقيمين وكذلك اذا علم م ر يستنتج منه
بالكيفية المذكورة م ق ومن هنا ينتج ان المستوى يتعين باثريه تعينا كليا

(٣٠)

ويتعين ايضا المستوى بمستقيمين حيث ما اتفق يتقاطعان

وبيان ذلك ان يفرض ان م ق كما فى (الشكل ٣٠) المسقط الافقى لنقطة من المستوى (ا ب) انظر بند (٢٧) فيمر من النقطة م فى المستوى المذكور مستقيم ما س ق فيمر س ق من م ق ويقابل بالضرورة المستقيم س المستقيمين ا و ب فى النقطتين ا و ـ اللتين مسقطاهما الافقيان هما ا ق و ـ ق وهما تقابل س ق مع ا ق ومع ب ق ومن هنا ينتج ا و ـ اللذان يعلم منهما المسقط س الذى يكون المسقط الرأسى م للنقطة م عليه فحينئذ تتعين هذه النقطة ولا يخفى انه لو كان المستقيمان ا و ب متوازيين لحدث مثل ذلك

(٣١)

(المسئلة السابعة) اذا علم مستو بمستقيمين واريد ايجاد اثريه يقال ان اثرى كل مستقيم لابد وان يوجدا على اثرى المستوى المذكور كما فى (الشكل ٣١ ، ٣٢) فاذا بحثنا عن الاثار المذكورة بالكيفية المقررة فى نمرة (١٥) نجد نقطتين ا و ـ من الاثر ق وآخرين ا و ـ من ر ولابد ان يقطع هذان الاثران خط الارض خ ض فى نقطه واحدة وهذا برهان على صحة الاعمال

ولنذكر على سبيل الاستطراد ان احسن طرق حل المسائل المراد حلها الاقتصار بقدر ما يمكن على طرق تصحيحها بدون زيادة ينشأ عنها عدم سهولة الاعمال

(٣٢)

ولو اريد ايجاد اثرى مستو معلوم بالمستقيم و والنقطة م للزم ان يمر من النقطة المذكورة مستقيم و موازل المستقيم و اوقاطع له ثم يبحث عن اثرى المستوى (و و)

واذا كان المستوى معلوما بثلاث نقط حدث لنا بجمعها مثنى ثلاث مستقيمات والاحسن ان يجمع بين اثنين منها بمستقيم ويمد من النقطة الثالثة موازله وبذلك يسهل حل هذه المسائل المختلفة

(فى بيان اوضاع المستوى)

(٣٣)

يمكن ان يشغل المستوى عدة اوضاع فراغية نذكرها فنقول

(اولا) قد يكون المستوى مائلا بالنسبة لمستوى المسقط فله حينئذ حالتان متميزتان كما فى (الشكل ٣٣) بحسب كون الاثرين يصنعان مع جزء من خ ض اومع جزئين منه مختلفين زاويتين حادتين ا و ـ

(وثانيا) يمكن فى الحالتين المذكورتين ان تكون الزاويتان ا و ـ متساويتين وفى الحالة الثانية فقط يتطبق الاثران كما فى (الشكل ٣٤)

(وثالثا) قد يكون المستوى م عمودا على المستوى الافقى فيكون اثره الرأسى عمودا ايضا على المستوى المذكور كما فى (الشكل ٣٥) ويلزم بالضرورة ان يكون عمودا على خط الارض

(ورابعا) قد يكون المستوى عمودا على المستوى الرأسى كما فى (الشكل ٣٦) فيكون اثره الافقى عمودا على خط الارض بالضرورة

(وخامسا) قد يكون المستوى عمودا على خط الارض فيتطابق اثراه بالضرورة ويصيران مستقيما واحدا عمودا على خط الارض كما فى (الشكل ٣٧)

(وسادسا) قد يكون المستوى موازيا للمستوى الرأسى فيكون اثره الافقى موازيا لخط الارض خ ض ولا يوجد له حينئذ اثر رأسى والاولى ان يقال انه يوجد لانهائيا وحينئذ يشغل المستوى وضعين ايضا كما فى (الشكل ٣٨)

(وسابعا) قد يكون موازيا للمستوى الافقى فحينئذ لا يكون له اثر افقى واما اثره الرأسى فيكون موازيا خ ض ويمكن ان يشغل وضعين ايضا كما فى (الشكل ٣٩)

(وثامنا) قد يكون المستوى موازيا لخط الارض فيكون اثراه موازيين خ ض لانهما لو لم يكونا كذلك لتقابل خط الارض بالمستوى ويمكن ان يكون للمستوى م اربعة اوضاع بحسب كينونة اثريه على جزءين من اجزاء مستويي المسقط كما في (الشكل ٤٠)

(وتاسعا) قد يكون المستوى ماثلا بالنسبة لمستويي المسقط ايضا ميلا متساويا فيكون اثراه حينئذ متساويي البعد عن خط الارض وينطبقان كل منهما على الآخر اذا كانا في جهة واحدة كما في (الشكل ٤١)

(وعاشرا) لا يمكن تعيين المستوى المار بخط الارض باثريه الذين لا يكونان الا مستقيما واحدا لكن اذا كان المستوى معينا بمستقيم ونقطة اختير خط الارض واما النقطة فتؤخذ حيث ما اتفقت ويرمز لها بعين رمز المستوى المذكور فيكون له حينئذ كما في (الشكل ٤٢) وضعان بحسب قسمه للزاوية م ع والمقابلة لها او قسمه للزاويتين الاخريين الزوجيتين

(وحادي عشر) قد يكون المستوى احد مستويي المسقط فيكون احد مسقطي النقطة على خط الارض

وينتج مما ذكر جميعه انه يمكن تعيين المستوى بمستقيم ونقطة وان اثريه غير كافيين في حالة مخصوصة

ويجب ان يميز من المستقيمات الممكن رسمها على اى مستو المستقيمات التي هي

(اولا) افقيات المستوى وهي مستقيمات كائنة على المستوى المذكور وموازية للمستوى الافقي

(وثانيا) رأسيات المستوى وهي مستقيمات كائنة على المستوى المذكور وموازية للمستوى الراسي

(وثالثا) الخطوط الاعظم ميلا من غيرها المستو بالنسبة للمستوى الافقي وهي

مستقيمان اعمدة على الاثر الافقى لهذا المستوى بيان ذلك كما فى (الشكل ٤٣) انا اذا انزلنا من النقطة م من المستوى م ع الخط م و عمودا على م ن والخط م ك ما يلاعليه وانزلنا ايضا م ع عمودا على المستوى ا ن ووصلنا ع بكل من نقطتى و ، ك يحدث ع و ، ع ك فيكون ع و عمودا على م ن واما ع ك فيكون ما يلاعليه ومن هنا ينتج ان ع و < ع ك وحينئذ يكون $\frac{ع م}{ع و} > \frac{ع م}{ع ك}$ لكن حيث ان هاتين النسبتين تسميان بميلى م و ، م ك على المستوى ا ن يكون م و الخط الاعظم ميلا من غيره

ولننبه على ان $\frac{ع م}{ع و}$ = ظا ا وينتج من ذلك ان ميل اى مستقيم اومستو على مستو آخر يتبين بالظل المساحى للزاوية الحادثة من المستقيم المذكور اومن المستوى مع المستوى الآخر

(ورابعا) الخطوط الاعظم ميلا من غيرها المستو بالنسبة للمستوى الرأسى وهى مستقيمات اعمدة على الاثر الرأسى للمستوى المذكور واثبات ذلك كاثبات ماسبق

(٣٦)

(المسئلة الثامنة) * اذا كان المراد رسم افقى ورأسى لمستو يقال حيث ان الافقى و للمستوى م موازللمستوى الافقى كما فى (الشكل ٤٤) يكون مسقطه الرأسى وَ موازيا خ ض واثره الرأسى لابد وان يكون على رَ وعلى وَ فيكون فى النقطة ـ التى مسقطها الافقى ـ وحيث ان المستقيم و موازللاثر قَ فلابد وان يكون مسقطه الافقى ايضا وَ موازيا للاثر المذكور قَ انظر (ثانيا من بند ٢٠) ومارا بالنقطة ـ

وحيث كان الرأسى ب للمستوى م موازيا للمستوى الرامى يكون

مسقطه

مسقطه الافقى ب موازيا خ ض ومسقطه الرأسى ب موازيا للاثر ر

وحيث ان المستقيمين و ب كائنان على المستوى م فانهما يتقاطعان فى نقطة واحدة م فيكون م و م بالضرورة على عمود واحد على خ ض وهذا برهان على صحة الاعمال

(٣٧)

(المسئلة التاسعة) اذا كان المطلوب رسم خطين اعظم ميلا من غيرهما فى مستو معلوم يقال

ان (الشكل ٤٣) يثبت ان المسقط ع و للخط الاعظم ميلا من غيره م و من المستوى ع م بالنسبة للمستوى ان عمود على م ن الذى هو خط تقابل المستويين

اذا تقرر هذا فلا بد وان يكون المسقط الافقى و للخط الاعظم ميلا من غيره بالنسبة للمستوى الافقى عمودا على ق كما فى (الشكل ٤٥) ومنه يستخرج و بمقتضى (بند ٢٨) وايضا حيث ان المسقط الرأسى ك للخط الاعظم ميلا من غيره بالنسبة للمستوى الرأسى عمود على ر يستخرج منه المسقط الافقى ك

وحيث ان المستقيمين و ك الكائنين على المستوى م يتقاطعان فى نقطة واحدة م يجب ان يكون م و م على عمود واحد على خ ض

(٣٨)

ويشاهد مما ذكر ان الخط الاعظم ميلا من غيره بالنسبة لمستو يكفى لتعيينه تعيينا تاما حيث يمكن بواسطته ان يحدث عدة افقيات اورأسيات بقدر ما يراد

للمستوى المذكور يتقاطع منهما اثنان

(٣٩)

(المسئلة العاشرة) اذا كان المطلوب ان يمر من نقطة معلومة مستو موازلآخر معلوم يقال

من المعلوم ان الآثار المتحدة الاسم لمستويين متوازيين متوازية وانه زيادة على ذلك اذا كان معنا مستويان متوازيان م و ك امررنا من نقطة ما م من نقط المستوى ك مستقيما موازيا لمستقيم كائن فى المستوى م يكون كله محصورا فى المستوى ك

اذا ثبت ذلك نمر فى المستوى المعلوم م كما فى (الشكل ٤٦) مستقيما ما و ثم نمر من نقطة م مستقيما آخر ط موازيا و فيكون فى المستوى المطلوب ك ومن هنا ينتج ان اثره الافقى ا نقطة من نقط ق واثره الرأسى ـ نقطة من ر وحيث انه زيادة على ذلك لابد وان يكون الاثر الاول موازيا للاثر قم والثانى موازيا للاثر رم يكونان معلومين ويجب تحقيقا للعملية ان يتقاطعا على خ ض فى نقطة واحدة

ويمكن ان يقال انه لاحاجة الى امرار المستقيم و لانا لو امررنا من النقطة المعلومة م افقيا ط للمستوى ك كما فى (الشكل ٤٧) لصار ط موازيا للاثر قك فحينئذ يكون موازيا ايضا الى قم ويكون ط موازيا خ ض ويكون الاثر الرأسى ـ لهذا المستقيم نقطة من ر الذى يجب ان يكون موازيا للاثر رم ومقابلا لخط الارض فى نقطة ك منها يمر الاثر قك ويوازى الاثر قم ولو امررنا بدل الافقى رأسيا للمستوى لوجدنا بلا واسطة نقطة من قك

(٤٠)

واذا كان المستوى م ليس معلوما باثريه بل بمستقيمين متقاطعين ك فى بالضرورة ان يمر من النقطة المعلومة مستقيمان موازيان للمستقيمين المفروضين

كل لنظيره وبهما يتعين المستوى المطلوب

واما اذا كان المستوى م المذكور معلوما بمستقيمين متوازيين اوبمستقيم ونقطة اوبثلاث نقط فيرجع اولا لاحد الحالتين المذكورتين قبل وذلك امابرسم اثرى المستوى المعلوم كما فى (بندى ٣١ و ٣٢) اوبرسم مستقيمين كائنين فيه ومتقاطعين ويتعين حينئذ المستوى ك كالمذكور قبله فى بند (٣٩)

(٤١)

ولنبين مزايا اصطلاح الرمز المستعمل فى الاشكال المتقدمة فى هذا الكتاب فنقول ان (الشكل ١٨) تكرر فى اول حالة من احوال (الشكل ٣٣) وان المقصود من الرمز فى (الشكل ١٨) مستقيم يقابل خط الارض ومنه فى (الشكل ٣٣) مستوما فالرمز بالحروف المعلمة للمستوى الرأسى غير كاف لاشتراكه بين المستقيمات والمستويات معا وان الحالة الاولى والثالثة من (شكلى ١١ و ٤٠) لايختلفان ايضا الا بالرمز وان (الشكل ١٢) تكرر بعينه (فى شكلى ٣٨ و ٣٩) وان الرمز المستعمل فى (الشكل ١٤) يدل على ان المقصود مستقيمان متحدا المساقط لامستقيمان مرسوما حدهما على الجزء المؤخر من المستوى الافقى والآخر على الجزء الاسفل من المستوى الرأسى كما فى (الشكل ١٢) ولامستويان موازا حدهما للمستوى الرأسى كما فى (الشكل ٣٨) والآخر للمستوى الافقى كما فى (الشكل ٣٩) وانه بدون الرمز المستعمل فى (الشكل ٤١) لايعلم مستويان موازيان لخط الارض متطابقا الآثار بل يعلم مستويان احدهما موازللمستوى الافقى كما فى (الشكل ٣٩) والآخر للمستوى الرأسى كما فى (الشكل ٣٨) وان (الشكل ٤٢) لايدل بدون الرمز المستعمل فيه الا على مسقطى نقطة ولايمكن ان يدل على مستوما رمن خط الارض ولينبه الى ان تنقيط الخطوط فى الامثلة التى ذكرت لايجبر وحده خلل عدم كفاية الرموز المصطلح عليها فالامثلة المذكورة صالحة جدا الان تدل على نفع الرموز التى اصطلحنا عليها

(الباب الثانى)

فى المسائل الاصليه من الهندسة الوصفيه

فى تغيير مستوى المسقط وفى تدوير الاشكال حول محور

(٤٢)

متى كانت معادلة خط اوسطح معقدة يبحث بالتحليلات عن اختصارها وذلك بان ينسب المنحنى اوالسطح الى محاور جديدة منتخبة بحيث تنعدم بعض الحدود كحدود مستطيلات الاحداثيات والحدود ذات الدرجة الاولى التى تكون فى معادلات المنحنيات اوالسطوح ذات الدرجة الثانية ويمكن فى الهندسة الوصفية ان يكون الشكل المرسوم على مستوى المسقط معقدا جدا ومن الخطوط التى هى سبب فى تعقيده مايكون ناتجا من طبيعة المسئلة وحينئذ لايمكن التخلص منه ومنها مايكون حادثا من وضع مستوى المسقط بالنسبة للشكل الفراغى المراد بيانه فيمكن فى هذه الحالة ازالته باننخاب مستوى المسقط انتخابا مستحسنا ويمكن ايضا ابقاء مستوى المسقط وتغيير وضع الشكل وهذه العملية تجرى دائما بتدوير الشكل حول محور فيتحصل من ذلك مسئلتان نذكرهما فنقول

(الاولى) ان يكون مسقطا شكل فراغى على مستويين قائمى الزوايا معلومين والمطلوب ايجاد مسقطيه على مستو ثالث عمود على احد المستويين المذكورين

(الثانية) ان يكون مسقطا شكل فراغى على مستويين قائمى الزوايا معلومين والمطلوب ايجاد مسقطيه على عين المستويين المذكورين بعد تدويره حول محور ثابت بقدر زاوية معلومة ويتفرع كل من هاتين المسئلتين الى مسائل عديدة مقصودنا من هذا الباب ذكرها مفصلة

(٤٣)

ولننبه قبل الشروع فى ذلك على انه يرمز لكل خط ارضى بالرمزين خ و ض

مع وضع اشارة عليه اوبدونها ويوضعان بحيث لوفرض الانسان انه فوق المستوى الافقى وامام المستوى الرأسى لرأى الرمز خ على يساره والرمز ض على يمينه بحيث يدل وضع كل من هذين الرمزين على جزء فرخ الرسم الذى يراد ان يبحث فيه عن جهتى كل من مستوى المسقط وعلى ان يوضع ايضا على كل من رموز مسقط النقط اوالخطوط الكائنة على مستوى المسقط الجديدين الرمز ر او ق وعليه عين الاشارة التى على خ و ض الدالين على خط الارض الجديد ليدل ذلك على ان المساقط هى عين مساقط النقط المعلومة اوالخطوط كذلك منتسبة للمستوى الرأسى او الافقى الجديدين وعلى ان يرمز كذلك للآثار الجديدة للمستويات بالرمزين ر او ق عليهما عين الاشارات المذكورة وقد لايوضع خصوصا فى مسائل التطبيق رمز على خط الارض وانما تظلل جهة الجزء المقدم من المستوى الافقى ولنشرع فى ذكر المسائل فنقول

(٤٤)

(المسئلة الاولى) اذا كان المطلوب تغيير المستوى الرأسى بالنسبة لنقطة يقال

ليفرض كما فى (الشكل ٤٨) ان م ق و م ر مسقطان للنقطة م على المستويين المرموز لهما برمز خط الارض خ ض وان المطلوب البحث عن مسقطها على مستو آخر رأسى قاطع للافقى فى خ ض فيدل وضع الرموز على ان الجزء الاعلى للمستوى الرأسى منطبق على المستوى الافقى جهة يسار الرسم وان الجزء الاسفل كذلك جهة يمينه فحيث لم يتغير المستوى الافقى لا يتغير المسقط م ق ويبقى ارتفاع النقطة م عن المستوى المذكور على ما كان عليه فحينئذ يكون مسقطها الرأسى الجديد م ر مع م ق على عمود واحد على خ ض كما فى بند (٨) وعلى الجزء الاعلى للمستوى الرأسى الجديد انظر (اولا من ثمرة ١٠) وعلى

بعد وَمَ من خَضَ يساوى البعد ومُ الكائن بين النقطة م والمستوى الافقى انظر (اولا من نمرة ٥)

ويمكن بيان ذلك على الشكل بان يمر من النقطة ے التى هى تقابل خض مع خَضَ المستقيم ےل عمودا على خض والمستقيم ےط على خَضَ ثم يمر ايضا مُل موازيا للخط وے ويرسم من المركز ے القوس لط والمستقيم طمَ موازيا للمستقيم ےوَ فينتج بالضرورة

$$\text{ومُ} = \text{ےل} = \text{ےط} = \text{وَمَ}$$

(٤٥)

(المسئلة الثانية) اذا كان المطلوب تغيير المستوى الافقى بالنسبة لنقطة يقال

هذه المسئلة كما فى (الشكل ٤٨) لا تخالف ماقبلها الا فى اجراء العملية التى عملت فى المستوى الرأسى على المستوى الافقى

فاذا اريد تغيير مستويى المسقط معا لزم اجراء العمليتين على التوالى فيفرض انه بعد اجراء التغيير المذكور فى المستوى الرأسى اريد تغيير المستوى الافقى فيفرض ان خط الارض الجديد هو خً ضً بشرط ان يكون الجزء المقدم من المستوى الجديد تحت خً ضً وجزؤه المؤخر فوقه فحيث لم يتغير المستوى الرأسى يكون مَ باقيا على حاله وتكون النقطة م باقية دآئما امام المستوى المذكور وعلى بعد واحد منه فحينئذ يجب ان يكون المسقط الافقى الجديد مً مع مَ على عمود واحد على خط الارض خً ضً كما فى نمرة (٨) اى انه يكون تحت هذا الخط الارضى انظر (اولا من نمرة ١٠) وعلى بعد منه وًمً = وَمً انظر (ثانيا من نمرة ٥) وبرسم هذه المتساوية رسما

مماثلا للاعمال المتقدمة ينتج

وَمْ = ـَ لَ = ـَ طَ = وًمْ

ويمكن بتغييرات متوالية فى المستويين الافقى والرأسى ان تنسب نقطة لاى مستويين قائمى الزوايا يسمى احدهما دآئما مستويا افقيا والآخر رأسيا

(٤٦)

(المسئلة الثالثة) اذا كان المطلوب تغيير مستويى المسقط بالنسبة لمستقيم يقال

كما يمكن حل المسئلتين المذكورتين بالنسبة لنقطة يمكن حلهما بالنسبة لمستقيم لان المستقيم لما كان يتعين بنقطتين كفى فى ذلك ايجاد مساقط نقطتين من نقطه على المستويين الجديدين فاذا فرضنا ان خَ ضَ اثر مستو رأسى جديد كما فى (الشكل ٤٩) تبين لنا من وضع الرموز على خط الارض الجديد هذا انطباق الجزء الاعلى على يمين فرخ الرسم والجزء الاسفل على يساره انظر (بند ٤٣) فاذا اخذنا من المستقيم و نقطتين مثل م و ن لا يتغير مسقطاهما الافقيان وحيث انهما فوق المستوى الافقى يجب ان يكون مسقطاهما الرأسيان الجديدان على يسار خَ ضَ وعلى بعدين

وَمَ = ومُ و عَنَ = عنُ انظر (بند ٤٤)

وحيث ان الاثر الافقى ا للمستقيم و لا يتغير يقال اذا اجريت العملية بالضبط لابد وان يكون المستقيم اا عمودا على خط الارض الجديد خَ ضَ وكان يمكن لاجل ايجاد المسقط الجديد وَ للمستقيم ان تنتخب النقطة ا ونقطة ما اخرى منه ولننبه بمقتضى ما شوهد من هذه المسئلة على مزية رمزنا فنقول انه ليس قاصرا على تبيين وضع كل خط واتجاهه والمقصود منه فى الفراغ تبيينا تاما على الشكل بل هو مع ذلك يبين جهة انطباق

المستويات التى ليست منطبقة على فرخ الرسم كما يبين ان علامات الرمزين ق و ر المشابهة لاشارات خط الارض المقابل لهما تدل بمجرد النظر اليها على كيفيات تنقل مساقط الشكل الفراغى المتوالية ولو استعملنا الرموز المعلمة لما حصل ذلك الا بغاية المشقة

وحينئذ يسهل ايجاد مسقط المستقيم و على مستو افقى جديد اى على مستو عمود على المستوى الرأسى خَ ضَ لكن لا نبحث عن ذلك هنا حذرا من تعقد الشكل

(٤٧)

(المسئلة الرابعة) اذا كان المطلوب تغيير مستوى المسقط بالنسبة لمستو يقال

نفرض كما فى (الشكل ٥٠) المستوى معلوما باثريه قَ م و رَ م ثم نبحث عن اثريه على مستوى المسقط الجديدين ونفرض ان المطلوب ايجاد اثر المستوى م على مستو راسى جديد قاطع للمستوى الافقى فى خَ ضَ فحيث ان الاثر الافقى قَ م لا يتغير تكون النقطة وَ التى يتقابل فيها ذلك الاثر مع خط الارض الجديد خَ ضَ نقطة من نقط الاثر المطلوب انظر ثمرة (٢٧)

واذا فرضنا على المستوى م مستقيما ما تكون نقطة تقابله مع المستوى الرأسى الجديد هى النقطة الثانية من نقط الاثر المذكور انظر (بند ٢٨) وبذلك تنحل هذه المسئلة

ثم ينتخب للاختصار الافقى ط لان نقطه حينئذ تكون على بعد واحد ـَـ ق من المستوى الافقى الذى لا يتغير فحينئذ اذا مددنا ط ق الى خَ ضَ فى النقطة ـَـ ق واقمنا من هذه النقطة عمودا على خَ ضَ واخذنا عليه بعدا ـَـ ق ـَـ = ـَـ ق ـَـ يحدث لنا الاثر الجديد الرأسى ـَـ للافقى ط

الكائن فى المستوى م كما فى (بند ١٥) فحينئذ يكون الاثر المذكور
كائنا بالضرورة على ر م الذى هو الاثر الجديد الرأسى للمستوى م
ولننبه على انه لا حاجة لنا برسم المسقط الرأسى للمستقيم ط وكان يكفى ان
نعين النقطة ـ التى نفعنا استعمالها
والاحسن ان نستعمل من افقيات المستوى م الافقى ا الذى يمر مسقطه
أ بنقطة تقابل خ ض مع خَ ضَ ان امكن ذلك وحيث ان النقطة ا
فى المستويين الرأسيين تعتبر على المستوى الرأسى القاطع للمستوى الافقى فى
خَ ضَ واذا اتفق ان الاثر الافقى ق م لم يتقابل مع خط الارض الجديد خَ ضَ
فى حدود الرسم ولم يوازيه لا تعلم النقطة وَ ويلزم حينئذ ايجاد نقطتين من الاثر
الرأسى ر م بلا واسطة باخذ افقيين للمستوى م فان خرج فى هذه
الحالة الاثر الرأسى الجديد عن حدود الرسم اخذ على المستوى م مستقيمان
يمكن ايجاد مسقطيهما الرأسيين الجديدين فيتعين المستوى تعينا كليا
بالمستقيمين المذكورين انظر (بند ٢٧)
ثم انه يلزم لتغيير المستوى الافقى اجراء مثل ما ذكر وذلك باستعمال رأسى
اور أسيين للمستوى المفروض بحسب تقابل الاثر الرأسى للمستوى المذكور
مع خط الارض الجديد فى حدود الرسم او عدم تقابله به مع عدم موازاته له

(٤٨)

(المسئلة الخامسة) اذا كان مسقطا نقطة على مستويين قائمى الزوايا
معلومين والمطلوب ايجاد مسقطها على مستو ثالث يقال
حيث ان المستوى م كما فى (الشكل ٥١) ليس عمودا على المستوى الافقى
ولا على المستوى الرأسى فلا يعتبر مستويا جديدا رأسيا ولا افقيا للمسقط
لكن اذا اردنا اعتباره افقيا يجب ان نغير اولا المستوى الرأسى وتتخذ
المستوى الجديد عمودا على المستوى م فيلزم ان يكون ق م عمودا

على خَ ضَ انظر (رابعا من بند ٣٣) ثم نبحث عن اثر المستوى م كما فى (بند ٤٧) وعن مسقط النقطة م على هذا المستوى الجديد الرأسى كما فى (بند ٤٤) ثم نعتبر المستوى م مستويا افقيا وبذلك لا يكون خط الارض الجديد الا رَ م فنجد حينئذ م ق كما فى (بند ٤٥) وهى مسقط النقطة م على المستوى م

واذا اعتبرت هذه النقطة م ق نقطة من المستوى م واريد معرفة مسقطيها على المستويين الاصليين المبينين بخط الارض خ ض رمز لهذه النقطة بالرمز ه وحيث انها موجودة على المستوى الافقى خً ضً يجب ان يكون مسقطها الرأسى على خط الارض فى النقطة هَ واذا اعتبر المستويان المتقاطعان فى خَ ضَ بدل المستويين المتقاطعين فى خً ضً لا يتغير المسقط هَ ويكون المسقط الجديد الافقى فى ه ق على عمود على خط الارض خَ ضَ نازل من نقطة هَ وعلى بعد

ـَ ه ق = هَ ه = ـَ م ق

ثم تعتبر المستويين المتقاطعين فى خ ص بتغيير المستوى الرأسى فيحدث المسقط هَ على عمود نازل من النقطة ه ق على خ ض وعلى بعد

ـ ه = ـَ هَ

(٤٩)

تنبيه حيث ان المستقيم م ه ق مواز خَ ضَ يكون عمودا على ق م وحيث ان المستقيم م ه الفراغى عمود على المستوى م يكون م ه ق مسقطه الافقى وكان يمكن بدل اعتبار المستوى م افقيا اعتباره

رأسيا كان يلزم على ذلك اولا تغيير المستوى الافقى وانتخاب آخر قاطع الرأسى فى خ ض عمودا على ر م فيكون بذلك ق م خط الارض الجديد خ ض ولو بحثنا ايضا عن مسقطى النقطة م معتبرة كالنقطة ه من المستوى م لوجدنا اولا ه مع م على عمود واحد على ر م فيكون حينئذ م ه المسقط الرأسى للعمود م ه للمستوى م وينتج من هذه المسئلة ان مسقطى عمود على مستو عمودان على اثرى المستوى المذكور اى ان كلا من المسقطين عمود على موافقه اسما من الاثرين وستثبت هذه النظرية فيما بعد

(٥٠)

(المسئلة السادسة) اذا كان المطلوب جعل مستقيم موازيا لاحد مستويى المسقط يقال

يلزم لجعل المستقيم و موازيا للمستوى الرأسى كما فى (الشكل ٥٢) ان يكون و ق موازيا لخط الارض كما فى (ثالثا من بند ١٧) ويكفى حينئذ جعل خ ض موازيا للمستقيم و ق والبحث عن المسقط و ر للمستقيم و على هذا المستوى الجديد الرأسى انظر (بند ٤٦) واذا اريد جعل المستقيم موازيا للمستوى الافقى لزم تغيير المستوى الافقى وجعل خ ض موازيا للمسقط و ر انظر (ثانيا من بند ١٧)

(٥١)

(المسئلة السابعة) اذا كان المطلوب جعل مستقيم عمودا على احد مستويى المسقط يقال

اذا كان المستقيم و ك فى (الشكل ٥٢) موازيا للمستوى الرأسى يكون كل مستو عمود على هذا المستقيم عمودا ايضا على المستوى الرأسى ويمكن انتخابه مستويا افقيا للمسقط مع المستوى الرأسى اما اذا كان المستقيم و موازيا للمستوى الافقى فيكون كل مستو عمود عليه عمودا على المستوى الافقى

ويمكن ايضا ان يعتبر مستويا رأسيا جديد اللمسقط مع المستوى الافقى واما اذا كان المستقيم المذكور ليس موازيا للمستوى من مستويى المسقط فلا يكون المستوى العمود على هذا الخط عمودا على مستو من المستويين الافقى والرأسى فلا يمكن اعتباره بالضرورة مستويا افقيا ولا رأسيا للمسقط مع واحد من المستويين الاصليين ومن ثم يلزم لحل هذه المسئلة ان نبتدء بجعل المستقيم المفروض موازيا لاحد مستويى المسقط كما هو مبين فى (بند ٥٠) فان اردنا مثلا جعل المستقيم و عمودا على المستوى الافقى نجعله اولا موازيا للمستوى الرأسى ثم نغير المستوى الافقى بالتنبيه على انه اذا كان المستقيم و عمودا على المستوى الافقى يكون مسقطه الرأسى عمودا على خط الارض انظر (خامسا من بند ١٧)

فحينئذ نأخذ خَ ضَ عمودا على وَ رَ فيكون المسقط الافقى حينئذ نقطة واحدة رَ وَ كائنة على امتداد وَ رَ امام خَ ضَ وعلى بعد منه اَوَ = اا رَ وهو بعد اى نقطة من المستقيم و عن المستوى الرأسى

(٥٢)

(المسئلة الثامنة) اذا كان المطلوب جعل مستو عمودا على احد مستويى المسقط يقال

ان هذه المسئلة قد افحلت فى (بند ٤٨) فقد شاهدنا انه يلزم لجعل المستوى م المعلوم عمودا على المستوى الرأسى للمسقط تغيير المستوى الرأسى للمسقط واخذ خط الارض الجديد عمودا على قَ م وانه يلزم ايضا لجعل المستوى م عمودا على المستوى الافقى تغيير المستوى الافقى للمسقط واخذ خط الارض الجديد عمودا على رَ م

(٥٣)

(المسئلة التاسعة) اذا كان المطلوب جعل مستو عمودا على خط الارض يقال

انه يجب ان يكون المستوى عمودا على المستويين الافقى والرأسى معا فنغير

اولا

اولا المستوى الرأسى باخذ خَ ضَ مثلا عمودا على قَ ونستنتج منه رَ كما فى (بند ٤٧) ثم نغير المستوى الافقى باخذ خَ ضَ عمودا على رَ فيبقى المستوى دائما عمودا على المستوى الرأسى السابق ويكون مع ذلك عمودا على المستوى الافقى الجديد وحينئذ يكون عمودا على تقاطعهما اى على خط الارض الجديد

(٥٤)

(المسئلة العاشرة) اذا كان المطلوب جعل مستو موازيا لخط الارض يقال

ان اثرى المستوى الموازى لخط الارض كما فى (الشكل ٥٣) يكونان موازيين للخط المذكور انظر (ثامنا من بند ٣٣) فاذا اردنا حينئذ حل هذه المسئلة بتغيير المستوى الرأسى لزم اخذ خَ ضَ موازيا للاثر قَ ثم لاجل ايجاد نقطة من نقط رَ يمكن ان يرسم فى المستوى م مستقيما ويبحث عن تقاطعه مع المستوى الرأسى الجديد وكيفية الوصول لذلك سهلة جدا وذلك ان المستويين الرأسيين والمستوى م متقاطعة فى النقطة ا التى مسقطها الافقى أ بالضرورة نقطة تقابل خطى الارض خ ض و خَ ضَ وباتساب هذه النقطة للمستوى الرأسى خ ض تكون فى ا على رَ واذا اتسبت للمستوى الرأسى خَ ضَ تكون على عمود على خَ ضَ وعلى بعد منه أ ا = أ ا فتكون النقطة ا نقطة من رَ

ولو اريد حل المسئلة بتغيير المستوى الافقى لزم ان يؤخذ خط الارض الجديد موازيا للاثر رَ فيوجد بكيفية مشابهة للكيفية المذكورة نقطة من نقط الاثر الافقى الجديد

(٥٥)

(المسئلة الحادية عشر) اذا كان المطلوب جعل مستو موازيا لاحد مستويى

المسقط يقال

ان المستوى الموازى لاحد مستويي المسقط يكون بالضرورة عمودا على الاخر وحينئذ يلزم لحل هذه المسئلة ان يبتدء بجعل المستوى المفروض عمودا على احد مستويي المسقط كما فى (بند ٥٢) ثم يجعل موازيا للمستوى الآخر فاذا اريد مثلا ان يجعل المستوى المفروض وهو م موازيا للمستوى الراسى فاليجعل اولا عمودا على المستوى الافقى ثم يغير المستوى الرأسى باخذ خط الارض الجديد موازيا للاثر ق م كما فى (سادسا من بند ٣٣) واما اذا اريد جعل المستوى م موازيا للمستوى الافقى فاليجعل اولا عمودا على المستوى الرأسى ثم يغير المستوى الافقى باخذ خط الارض الجديد موازيا للاثر ر م كما فى (سابعا من بند ٣٣) ومن المعلوم انه لا يوجد فى التغيير الثانى اثر للمستوى حتى يبحث عنه

(٥٦)

وقبل الشروع فى حل مسئلة دوران الاشكال حول محور نشرع فى ثلاث قواعد واضحة لها وقع عظيم فنقول

(اولا) ان كل شكل فى مستو موازلاحد مستويي المسقط ينسقط على هذا المستوى وينطبق على شكل مثله وبيان ذلك انك اذا انزلت من نهايتى مستقيم اعمدة على مستوى المسقط يتكون معك شكل متوازى الاضلاع قائم يكون مسقطه الضلع المقابل للمستقيم المنسقط فكل شكل يحدد بخطوط مستقيمة متناهية فى الصغر

(وثانيا) ان كل شكل كائن فى مستو عمود على احد مستويي المسقط ينسقط عليه فى اثر المستوى المشتمل عليه لان الاعمدة النازلة من كل نقطة من الشكل المذكور لا تخرج عن المستوى المذكور

(وثالثا) انه متى دار شكل حول محور يدور ايضا مسقطه على المستوى العمودى على المحور المذكور حول اثر المحور بقائه دائما كما هو واما مسقطه على مستو آخر فيتغير فى اى وقت من اوقات الحركة اذا ثبت هذا امكن

تدوير شكل حول محور عمود على احد مستوى المسقط او موازله او على اى اتجاه كان ثم بعد تدوير الشكل الفرانى تتغير مواضع اجزائه المختلفة والحق ان يقال انه صار شكلا آخر مساويا للاول نبحث عن مساقطه ولاجل ذلك نسم رموز النقط والخطوط والمستويات دون اسس رموز مستوى المسقط

(٥٧)

(المسئلة الثانية عشر) اذا كان المطلوب تدوير نقطة حول محور رأسى بمقدار زاوية معلومة وايجاد مسقطيها فى وضعها الجديد يقال

لنفرض كما فى (الشكل ٤٥) ان النقطة المفروضة هى م وان المحور الرأسى هو ا فاذا انزلنا من النقطة م عمودا على المحور يكون افقيا وينسقط بالضرورة انسقاطا افقيا فى ر بمقداره الاصلى انظر (اولا من ثمرة ٥٦) واما مسقطه الرأسى ر فيكون موازيا لخط الارض خ ض انظر (ثانيا من ثمرة ١٧) فاذا دورنا الجملة بقى العمود ر دائما عمودا على المحور ا وعلى طوله الاصلى ورسم بالضرورة دائرة تكون فى مستوى عمود على ا اوافقى ومركزها على المحور ومسقطها الافقى ج دائرة مساوية لها مركزها فى أ ونصف قطرها يساوى ر ومسقطها الرأسى ج مستقيم موازلخط الارض خ ض وحيث ان النقطة م لا تخرج عن المحيط المذكور يكون مسقطاها على ج و ج فاذا فرضنا ان النقطة م تدور حول ا بمقدار الزاوية ا على اتجاه السهم ف صار نصف القطر ر فى وضع ر فيحدث ر مع ر الزاوية ا وحيث انه لابد وان يتكون من المسقطين الافقيين عين الزاوية المذكورة يكفى ان يعد ر بحيث يحدث مع ر الزاوية ا فتكون نقطة تقابل المستقيم المذكور مع ج المسقط الافقى م للنقطة م بعد

الدوران واما مسقطها الرأسى فحيث انه يجب ان يكون على المسقط الرأسى للدائرة ج يكون فى نقطة م ر ولو حصل الدوران فى جهة عكس المذكورة كما يظهر ذلك من السهم فـ لصار نصف القطر ر فى رً والنقطة م فى مً

(٥٨)

(المسئلة الثالثة عشر) اذا كان المطلوب تدوير نقطة بقدر زاوية معلومة حول محور عمود على المستوى الرأسى يقال

ان هذه المسئلة كما فى (الشكل ٥٥) لا تخالف ما قبلها فى شئ سوى ان الدائرة المرسومة هنا بالنقطة م كائنة فى مستو موازٍ للمستوى الرأسى بحيث ان الزاوية المفروضة ا لابد وان تكون حادثة من المسقطين الرأسيين ر و رً اللذين هما مسقطا نصفى قطرى الدائرة المذكورة المارة بالنقطتين م و مً

(٥٩)

(المسئلة الرابعة عشر) اذا كان المطلوب دوران مستقيم بقدر زاوية معلومة حول محور رأسى او عمود على المستوى الرأسى يقال

ان المستقيم المذكور يمكن ان يشغل ثلاثة اوضاع مختلفة بالنسبة للمحور ولنذكر ذلك فنقول

(اولا) قد يكون المستقيم موازيا للمحور فيرسم سطحا اسطوانيا ذا قاعدة مستديرة كما هو معلوم فى الهندسة الاصلية

(وثانيا) قد يقطعه فى نقطة فيرسم حينئذ سطحا مخروطيا ذا قاعدة مستديرة كما هو معلوم ايضا من الهندسة الاصلية

(وثالثا) قد لا يكون كائنا معه فى مستو واحد فيرسم سطحا يسمى بسطح القطع الزائد الدائر ذى الطية وسنبينه ولنشرح هذه الاحوال الثلاثة فنقول

(الاولى) ان يفرض ان المحور الرأسى هو ا كما فى (الشكل ٥٦) وان المستقيم الموازى له هو و الذى هو بالضرورة رأسى فتكون جميع نقط

المستقيم و الدائرة حول ا باقية على البعد الكائن بينها وبين المحور المذكور فحينئذ يكون و و ا متوازيين دائما ويرسم حينئذ الاثر الافقى للمستقيم و الزاوية اِ وبذلك يصير المستقيم و فى وَ

(الحالة الثانية) ان يفرض ان المحور الرأسى ا كما فى (الشكل ٥٧) وان المستقيم القاطع له فى نقطة م هو و فتى دور المستقيم و بقدر الزاوية اِ حول المحور ا فلا بد وان يستمر مارا من النقطة م ويكفى حينئذ لمعرفة الوضع الجديد لهذا المستقيم معرفة تامة ان يعين الموضع الذى شغلته نقطة من نقطه فتأول المسئلة حينئذ الى تدوير احدى نقط المستقيم و حول المحور ا والاحسن ان ينتخب من نقط هذا المستقيم اثره الافقى ا ان كان موجودا فى حدود الرسم لان الدائرة ج التى يرسمها تكون فى المستوى الافقى ومسقطها الرأسى بالضرورة على خط الارض كما ان مسقط النقطة اَ يكون كذلك فاذا اوصلنا هذه النقطة بالنقطة م حدث المستقيم وَ ومن حيث ان الاثر الرأسى ـ يخرج مدة الحركة من المستوى الرأسى لا يكون وضع الاثر الرأسى الجديد جَ الوضع الحادث للنقطة ـ ولذا رمزنا له برمز آخر

(الحالة الثالثة) ان يفرض ان المحور الرأسى هو ا كما فى (الشكل ٥٨) وان المستقيم الذى ليس معه فى مستو واحد هو و فلاجل معرفة وضع المستقيم المذكور بعد دورانه حول المحور ا بقدر زاوية معلومة اِ يكفى بالضرورة تعيين الوضعين الجديدين لنقطتين من نقط المستقيم المذكور كما هو معلوم ولنفرضهما عليه م و ه فيرسمان مدة الدوران قوسى دائرتين ج و جَ فى مستويين عمودين على المحور ومتوازيين بالضرورة للمستوى الافقى فتصير حينئذ النقطة م فى مَ و ه فى هَ ولعدم رسم الزاوية اِ بعد دوران النقطة مَ كما علم ذلك من (بند ٥٧) يمد نصف القطر المار من ه الى ر ويؤخذ قوس رسـ = م م ويرسم

المستقيم سـ اَ فيقطع هذا المستقيم الدائرة جَ فى النقطة دَ ومن ذلك ينتج دَ رَ

وتختصر العمليات باخذ نقطتين مسقطاهما الافقيان على بعد واحد من اَ لان الدوائر التى ترسمها هاتان النقطتان متحدة المسقط الافقى فلو اخذنا مثلا النقطتين ا و م لاجرى على احديهما وهى م ما اجرى عليها قبل فى (ثمرة ٥٧) ولايجاد النقطة اَ نأخذ على الدائرة جً او جَ البعد اا = م م

ثم انه يمكن انتخاب النقطتين بكيفية خاصة بواسطتها تحل المسئلة وهى ان ينزل من اَ عمود ن على وَ يقطعه فى النقطة عَ التى هى المسقط الافقى للنقطة ع من نقط المستقيم و ثم نفرض ان جملة المستقيم و والمسقط الافقى وَ والرأسى ن تدور حول المحور بقدر الزاوية اِ فيصير الرأسى فى نَ صانعا مع ن الزاوية اِ ويبقى المستقيم وَ مدة الدوران عمودا على ن ومسقطا افقيا للمستقيم و فى جميع اوضاعه كما فى (ثالث بند ٥٦) فحينئذ اذا مدينا وَ عمودا على نَ او مماسا لدائرة جً يحدث معنا المسقط الافقى للمستقيم و بعد الدوران ونقطة اخرى عَ من المسقط الرأسى فاذا علم اتجاه هذا المسقط او نقطة ثانية منه امكن رسمه ويمكن ايجاد النقطة اَ بجعل النقطة ا فى اَ على وَ برسم قوس دائرة من اَ معتبرة مركزا ومن المعلوم انه يمكن انتخاب اى نقطة غير النقطة ا

ويمكن حل المسئلة التى الغرض منها دوران مستقيم حول محور عمود على

المستوى الرأسى بهذه الكيفية نعم ينبغى ان نجرى على المستوى الرأسى العمليات التى اجريت على المستوى الافقى وبالعكس

(٦٠)

(المسئلة الخامسة عشر) اذا كان المطلوب دوران مستو بقدر زاوية معلومة حول محور رأسى يقال

ان الوضع الجديد للمستوى المفروض يعلم اذا علم وضع المستقيمين الكائنين على المستوى المذكور والاحسن ان ينتخب من المستقيمات مستقيمان افقيان ويؤخذ الاثر الافقى للمستوى بدل احدهما لكونه لا يخرج مدة الحركة عن المستوى الافقى فاذا انزلنا من النقطة أ كما فى (الشكل ٥٩) عمودا ن على قَم فانه يقابل الاثر المذكور فى النقطة ع التى ترسم مدة الدوران دائرة ج يكون الاثر الافقى مماسا لها دائما وحيث ان المستقيم المذكور يصير فى الوضع نَ الصانع مع ن الزاوية المفروضة اِ تكون النقطة ع فى عَ واذا اخذنا للدائرة ج مماسا فى النقطة عَ كان هو الاثر الافقى قَم للمستوى م بعد الدوران وانتسبت النقطة بَ التى يقابل فيها الاثر المذكور خط الارض للاثر الرأسى الجديد للمستوى المذكور ثم نستعمل لايجاد نقطة ثانية منه افقيا ط من المستوى م فيبقى مدة الدوران على بعد واحد من المستوى الافقى فيكون بالضرورة مسقطه الرأسى على خط واحد موازٍ لخط الارض خ ض دائما واما مسقطه الافقى فيبقى موازيا للاثر الافقى للمستوى فحينئذ طَ يقطع المستقيم ن فى النقطة كَ المنتقلة فى كَ على نَ فاذا امررنا من هذه النقطة المستقيم كَ طَ موازيا للاثر قَم يكون هو المسقط الافقى للخط الافقى ط بعد الدوران كما فى (ثالثا من بند ٥٦) وتكون النقطة ـَ التى يقطع فيها طَ المستوى الرأسى النقطة الثانية المطلوبة من الاثر رَم فاذا اوصلنا

بين ـَ و ـَبـ نجد الاثر المذكور

وكان يمكن بدل انزال العمود ن على قـ ان نبحث عن الوضعين الجديدين لنقطتين حيث ما اتفق لكن يكون فى العمليات تطويل ولو انتخبت النقطتان المذكورتان على بعد واحد من النقطة اـ فقد اخذنا افقيا ما ط وكان يمكن اختصار الشكل لو فرضنا الافقى المار بالنقطة التى يقابل فيها المحور ا المستوى م فيكون مسقطه الافقى مارا بالنقطة اـ

فلو لم يقابل الاثر الافقى قـ خط الارض فى حدود الرسم لما حدثت النقطة بـ من الاثر الرأسى فنجبر على استعمال مستقيم آخر يستحسن انتخابه افقيا ونبحث عن اثره الرأسى بعد الدوران فيحدث لنا نقطة من رـ اذا وصلت بنقطة ـَ يحدث لنا الاثر المطلوب

ويمكن ان تحل المسئلة ايضا باخذ محور عمود على المستوى الرأسى ولا تستعمل فى هذه الحالة الا رأسيات المستوى

(٦١)

(المسئلة السادسة عشر) اذا كان المطلوب جعل مستقيم فى وضع موازٍ لاحد مستويى المسقط يقال

انه يمكن كما فى (الشكل ٦٠) بدل دوران المستقيم بقدر زاوية معلومة ان يطلب تدويره حتى يصير فى وضع معين بالنسبة لمستويى المسقط فاذا اريد مثلا دوران المستقيم و حول المحور الرأسى ا حتى يصير موازيا للمستوى الرأسى يكون فى هذا الوضع مسقطه الافقى موازيا لخط الارض انظر (ثالثا من بند ١٧) ويكفى حينئذ معرفة احدى نقطه ويسهل معرفة انه يجب ان يستعمل هنا الحال الاخير المقرر فى (ثالثا من بند ٥٩) فنزل من النقطة اـ عمودا على وـ يقابله فى النقطة عـ التى هى المسقط الافقى للنقطة ع من المستقيم و فاذا تصورنا الآن الجملة المتحصلة من

المستقيم

المستقيم و ومن مسقطه الافقى وَ ومن الرأسى النازل من النقطة ع ومن المستقيم ن ودورناها حول المحور ا لبقيت المستقيمات الاربع على وضع متناسب فيكون وَ اما عمودا على نَ اوعماسا للدائرة المرسومة من اُ معتبرة مركزا بالنصف قطر ن وموازيا فى هذه الحالة الثانية لخط الارض خض وتصير النقطة ع فى عَ على ارتفاع واحد فوق المستوى الافقى وكذلك تصير النقطة ا فى اَ وبذلك يصير وَ المسقط الرأسى للمستقيم فى حالة وضعه الجديد

وحيث ان نقط المستقيم ترسم اقواس دوائر افقية يتضح انه ينتج من الشكل الزاوية اِ المرسومة بالنصف قطر ن والتى تدور بقدرها اجزاء الشكل الباقية اذا وجدت خطوط اخرى تابعة لحركة المستقيم و

(٦٢)

واذا لم يعلم المحور ا من قبل ينتخب مارا بنقطة من المستقيم و لما فى ذلك من اختصار الشكل ولننبه على اننا مجبورون فى جعل المستقيم و موازيا للمستوى الرأسى على انتخاب المحور رأسيا ومن المعلوم ان المسئلة تنحل فى هذه الحالة كما ذكر واما لو كان المحور عمودا على المستوى الرأسى لرسمت جميع نقط المستقيم و دوائر موازية للمستوى الرأسى وكان لها بالضرورة بعد واحد عن المستوى المذكور فلا تكون جميع نقط و بعد الدوران على بعد واحد عن المستوى الرأسى ولا يكون المستقيم المذكور موازيا لهذا المستوى بالضرورة ولا يمكن بما ذكر جعل المستقيم و فى وضع موازٍ للمستوى الافقى الا بحركة دوران حول محور عمود على المستوى الرأسى

(٦٣)

*(المسئلة السابعة عشر) * اذا كان المطلوب جعل مستقيم فى وضع عمود على احد مستويى المسقط يقال

متى كان مستقيم عمودا على احد مستويى المسقط كما فى (الشكل ٦١) يكون

بالضرورة موازيا للآخر وحينئذ يلزم لجعل مستقيم موازيا للمستوى الرأسى ان يدور ذلك المستقيم حول محور رأسى كما فى (بند ٦٢) لكن جميع نقط المستقيم مدة هذه الحركة تبقى على بعد واحد من المحور فلا يمكن ان يوازيه بالضرورة اصلا وذلك لان كل مستقيم دائر حول محور عمود على المستوى الرأسى لا يمكن ان يكون موازيا له ان لم يكن كذلك قبل الدوران فيستحيل حينئذ جعل مستقيم رأسيا لدورانه بحركة بسيطة جدا حول محور واحد لكن باول حركة حول محور رأسى ا يجعل المستقيم و فى وضع كوضع وَ موازٍ للمستوى الرأسى كما فى (بند ٦١) ثم يجعل هذا المستقيم بثانى حركة دوران حول المحور ب العمود على المستوى الرأسى فى وضع رأسى كوضع وَ لان المسقط وَ يشغل مدة الدوران الثانى جميع الاوضاع المماسة للدائرة جَ فلا بد ان يبقى فى وقت من اوقات الحركة برهة صغيرة عمودا على خ ض فيكون المستقيم وَ حينئذ رأسيا كما فى (خامسا من بند ١٧)

ولاجل جعل المستقيم المفروض فى وضع عمود على المستوى الرأسى يلزم ان يجعل اولا موازيا للمستوى الافقى بتدويره حول محور عمود على المستوى الرأسى وان يجعل فى الوضع المطلوب بحركة دوران اخرى حول محور رأسى

تنبيه يمكن ان يتحصل من العملية زاويتان ا و ح حادثتان من دوران المستقيم و حول المحورين فلو وجدت خطوط اخرى او نقط كذلك تابعة للمستقيم فى هذه الحركات للزم دورانها بمقادير زوايا متساوية

(٦٤)

*(المسئلة الثامنة عشر) اذا كان المطلوب جعل مستو فى وضع عمود على احد مستويى المسقط يقال

لنفرض كما فى (الشكل ٦٢) ان المستوى هو م وان المحور الرأسى هو ا وان المطلوب دوران المستوى م حول المحور ا حتى يصير عمودا على

المستوى الرأسى فيكون اثره الافقى فى وضعه الجديد عمودا على خ ض ولو
انزلنا من النقطة أ عمودا كالعمود ن على قَ وقابله فى النقطة ر
لرسمت هـذه النقطة دائرة كدائرة ج يمسها دائما الاثر الافقى
للمستوى ويصير العمود ن موازيا خ ض اما فى نَ واما فى نَّ
بحسب كون الدوران من اليمين الى اليسار او بالعكس ثم اذا رسمنا
مماسا للدائرة ج عمودا على خ ض نجد قَ او قَّ ولايجاد الاثر
الرأسى ننبه على ان المحور ا يقطع المستوى م فى نقطة غير متغيرة مدة
الدوران ومسقطها الرأسى على الاثر الرأسى الجديد للمستوى كما فى
(ثانيا من بند ٥٦) فاذا رسمنا افقيا كالافقى ط للمستوى م
مقابلا للمحور فى النقطة م تكون النقطة مُ احدى نقط الاثر الرأسى
المطلوب ونقطة عَ او عَّ التى يقابل فيها الاثر الافقى خط الارض خ ض
نقطة ثانية له وبذلك يتعين الاثر رَ او رَّ

ولواريد جعل المستوى عمودا على المستوى الافقى للزم تدويره حول محور عمود
على المستوى الرأسى

(٦٥)

(المسئلة التاسعة عشر) اذا كان المطلوب جعل مستو فى وضع عمود
على خط الارض يقال

ان المستوى فى وضعه الجديد عمود على مستويى المسقط معا كما فى (الشكل ٦٣)
وحيث شوهد انه لم يمكن جعله عمودا على المستوى الافقى بحركة دوران
حول المحور الرأسى كما تقدم لنا ذلك فى (بند ٦٤) لايمكن حل مسئلتنا
هـذه الا بتدويرين احدهما حول المحور الرأسى ا لجعل المستوى م
فى وضع كالوضع مَ عمود على المستوى الرأسى للمسقط نقط والآخر حول
محور كالمحور ب عمود على المستوى الرأسى للمسقط لجعل المستوى

مَ فى الوضع مَّ اى الوضع العمودى على المستوى الافقى وحيث ان وضع المستوى مَ بالنسبة للمستوى الرأسى للمسقط لا يتغير فى التدوير الثانى كما فى (ثالثامن بند ٥٦) يكون المستوى مَّ عمودا على مستوى المسقط معا فيكون عمودا بالضرورة على خط الارض ويختصر الشكل بامرار المحورين بالنقطة م التى هى احدى نقط المستوى المعلوم م

(٦٦)

(المسئلة العشرون) اذا كان المطلوب جعل مستو فى وضع موازٍ لخط الارض يقال

يمكن كما فى (الشكل ٦٤) حل المسئلة بتدوير المستوى م حول المحور الرأسى ا حتى يصير اثره الافقى موازيا خ ض انظر (ثامنا من بند ٣٣) ثم لايجاد الاثر الرأسى الذى يجب ان يكون موازيا ايضا خ ض لا يصح ان يستعمل افقى من افقيات المستوى كما هو معلوم لان المستقيم يصير بعد الدوران موازيا خ ض ولا يقابل بالضرورة المستوى الرأسى لكن يبحث عن النقطة م التى هى تقابل المحور ا بالمستوى م وهذه النقطة ثابتة فاذا امررنا منها فى المستوى م المستقيم و الذى لم يرسم فى الشكل غير مسقطه الافقى وَ فلا بد وان يستمر مارا بالنقطة م نفسها ويصير اثره الافقى ا فى النقطة اَ كما يصير المستقيم و فى الوضع وَ الذى فيه اثره الرأسى هو النقطة بَ فحينئذ اذا امررنا من هذه النقطة موازيا للخط خ ض كان هو الاثر المطلوب رَ

ومن المعلوم انه يصح ان يستعمل بدل الاثر ا نقطة اخرى من المستقيم و

(٦٧)

(المسئلة الحادية والعشرون) اذا كان المطلوب جعل مستو فى وضع موازٍ لاحد مستويى المسقط يقال

ان المستوى الموازى للمستوى الرأسى يكون ايضا عمودا على المستوى الافقى واثره الافقى موازيا لخط الارض فيلزم اولا جعل المستوى المفروض م

عمودا على المستوى الافقى بحركة دوران حول محور عمود على المستوى الرأسى كما فى (بند ٦٤) ثم يجعل بحركة دوران ثانية حول محور رأسى موازيا للمستوى الرأسى

ولجعل مستو فى وضع موازٍ للمستوى الافقى يجعل اولا عمودا على المستوى الرأسى بحركة دوران حول محور رأسى ثم يجعل بحركة دوران اخرى حول محور عمود على المستوى الرأسى موازيا للمستوى الافقى

(٦٨)

ويمكن بحركات دوران كالحركات السابقة جعل اى مستو فى وضع به يكون اثره الافقى مثلا موازيا لمستقيم معلوم فى المستوى الافقى كما يصح تعيين حد الحركة اللازم اجراؤها على المستوى المذكور

(٦٩)

ويمكن حل جميع المسائل الهندسية الوصفية بواسطة تغييرات مستوى المسقط وبحركات دوران حول محور عمود على احد مستويى المسقط وهذا فى الحقيقة يرجع للتغييرات وذلك لان تغيير المستوى الرأسى للمسقط مثلا يرجع بالضرورة لدوران المستوى الرأسى القديم حول محور رأسى حتى يصير فى الوضع الجديد المطلوب وضعه فيه غاية ما فيه ان الفرق بين هاتين الطريقتين الاصليتين ان الذى يدور فى الاولى حول محور عمود على المستوى الآخر ليصير فى وضع لائق بالنسبة للشكل المراد اسقاطه هو احد مستويى المسقط وان الذى يدور فى الثانية حول محور كالاول ليصير فى وضع لائق بالنسبة لمستويى المسقط هو الشكل نفسه ومن هنا ينتج ان المسائل تنحل غالبا بتغييرات مستويى المسقط او بحركات دوران او بهما معا ومع ذلك فيشاهد ان فى استعمال احديهما دون الاخرى اختصارا وسهولة فى بعض الاحيان وسنذكر مسائل لا يمكن حلها الا باحدى هذه الطرق

ويشاهد مما سبق ان الاخصر فى جعل مستو فى وضع موازٍ لخط الارض تغيير المستوى لا حركة الدوران لانها تستلزم استعمال مستقيم لا حاجة له فى الاولى لكن يختار استعمال حركة الدوران عن استعمال تغيير

مستوي المسقط عند انتخاب المحاور انتخابا مستحسنا لجعل مستوى في وضع عمود على خط الارض فالمسئلة المقررة في (بند ٦٨) لايمكن حلها بتغييرات المستوى بالضرورة

(٧٠)

وقد يضطر غالبا في المسائل العملية الى دوران شكل حول محور ليس عمودا على احد مستوي المسقط لكنه في العادة موازلاحدهما والغالب ان يكون في احد هذين المستويين وتحل هذه المسائل ايضا بتغييرات المستويات وبحركات الدوران حول المحاور العمودية على احد مستوي المسقط

(٧١)

(المسئلة الثانية والعشرون) اذا كان المراد تدوير نقطة اومستقيم بمقدار زاوية معلومة حول محور موازلاحد مستوي المسقط يقال

ليفرض ان ا مثلا محور افقي مائل بالنسبة للمستوى الرأسي كما في (الشكل ٦٥) وان المراد تدوير النقطة م اوالمستقيم و بمقدار زاوية معلومة ا حول المحور المذكور فترسم النقطة م وجميع نقط المستقيم و اقواس دائرة كلها في مستويات عمودية على المحور ا فتكون بالضرورة رأسية وتنسقط انسقاطا رأسيا بدوائر مساوية لها اذا كان المستوى الرأسي للمستقيم عمودا على المحور ا ولذا يغير اولا المستوى الرأسي ويختار آخر عمود على ا فيؤل الحال الى تدوير النقطة م والمستقيم و حول محور عمود على المستوى الرأسي للمسقط وقد تقدم لنا في (بندى ٥٨ و ٥٩) كيفية ايجاد مسقطي النقطة مَ والمستقيم وَ على المستويين اللذين يتقاطعان في خَضَ لكن يلزم نسبة النقطة والمستقيم الى مستوي المسقط القديمين فيكفي لذلك ان ننزل من النقطة مَ عمودا على خض وان نأخذ

رمَ = رَمَ و رَ = رَ

فيحدث المسقط الرأسي لنقطة ثانية من المستقيم وَ وبهذا يتعين المستقيم

تعينا

تعينا كليا وكذلك النقطة م

(٧٢)

ثم ان الجزء الاول من المسئلة مبنى على جعل المحور ا عمودا على احد مستوى المسقط ومن المعلوم انه كان يمكن الوصول لذلك بحركة دوران حول محور رأسى كما فى (بند ٦٣) لكن ماتبعناه من العمليات سهل جدا كما لايخفى ذلك لتوصيلها للمطلوب بلا واسطة

اذا اريد تدوير النقطة او المستقيم حول محور موازللمستوى الرأسى ينبه الى ان الدوائر الحادثة من دوران كل نقطة اعمدة على هذا المحور فتكون بالضرورة اعمدة على المستوى الرأسى وبهذا يتوصل اولا الى جعل هذا المحور رأسيا بأخذ مستو افقى جديد يكون عمودا عليه لان هذه الدوائر تنسقط كلها على هذا المستوى الجديد بدوائر مثلها

(٧٣)

(المسئلة الثالثة والعشرون) اذا كان المطلوب تدوير مستو بقدر زاوية معلومة حول محور موازلاحد مستويى المسقط يقال

ليفرض كما فى (الشكل ٦٦) ان المحور ا موازللمستوى الرأسى ومائل بالنسبة للمستوى الافقى ثم يبحث عن ايجاد اثرى المستوى م بعد دورانه حول المحور ا بمقدار زاوية معلومة فجميع نقط المستوى م ترسم مدة الحركة اقواس دوائر كائنة فى مستويات اعمدة على المحور وتنسقط كلها بدوائر مثلها اذا كان المستوى الافقى عمودا على ا ولذا نغير اولا المستوى الافقى ونجعله عمودا على ا ولابد ان يكون حينئذ خط الارض خ ض عمودا على ا وان يكون المسقط الافقى للمحور ا نفس النقطة ا متباعدة عن خ ض بمقدار مساولبعد ا عن خ ض ولايجاد ق م نمد ر م حتى يتلاقى مع خ ض فى النقطة و ثم نعين نقطة ثانية كالنقطة ـ بواسطة الرأسى ط للمستوى م فاذا انزلنا من ا عمودا ا ع

على قَ م ورسمنا قوس دائرة مركزها أَ ونصف قطرها هو أَ ع
ورسمنا أَ عَ بحيث يصنع مع أَ ع الزاوية المفروضة ا ثم رسمنا من عَ مماسا
لقوس الدائرة المرسومة نجد الاثر الافقي قَ مَ للمستوى في وضعه الجديد ومن
ذلك يستخرج الاثر الرأسي رَ بواسطة افقي ب للمستوى نعلم منه
النقطة عَ فيتحصل معنا الاثر الافقي قَ مَ للمستوى مَ على المستوى
القديم بمد رَ الى خ ض ان امكن ذلك ثم نعين نقطة اخرى كالنقطة دَ
بواسطة الرأسي هَ للمستوى مَ
ولدوران المستوى حول محور موازٍ للمستوى الافقي يلزم اولا ان يؤخذ مستو
جديد رأسي عمودا على هذا المحور ويمكن بدل التحديد بالزاوية ان يجعل المستقيم
او المستوى في وضع معين

(٧٤)

(المسئلة الرابعة والعشرون) اذا كان المطلوب تدوير نقطه او مستقيم
بقدر زاوية معلومة حول محور ما يقال

ليكن المحور ا كما في (الشكل ٦٧) معلوما بمسقطيه أَ و أُ والنقطة
م معلومة بمسقطيها ايضا مَ و مُ والمستقيم و معلوما ايضا بمسقطيه
وَ و وُ فيلزم ايجاد مسقطي المستقيم اللذين هما وَِ و وُِ للمستقيم و
والمسقطين مِ و مُِ للنقطة م بعد تدوير و م بمقدار الزاوية ا حول
المحور أ ففي مدة الدوران ترسم النقطة م وجميع نقط المستقيم و
اقواس دائرة كائنة في مستويات اعمدة على المحور ا تنسقط بدوائر
متساوية اذا كان المحور ا عمودا على احد مستويي المسقط فيلزم حينئذ
جعله في هذا الوضع بانتخاب مستو جديد للمسقط عمودا على ا لكن لا يصير
المستوى المذكور عمودا على مستو من المستويين المنسوب اليهما الشكل

الآن فيضطر الى تغيير المستوى مرتين بان نأخذ

(اولا) مستويا رأسيا جديدا موازيا للمحور ا ولاجل السهولة والاختصار فى ذلك ينتخب المستوى المسقط افقيا لهذا المحور وبذلك يكون خط الارض الجديد هو المسقط أ وحيث ان المساقط الافقية أ و م و و لا تتغير تكون المساقط الرأسية الجديدة ا و م و و على المستوى الرأسى الجديد انظر (بند ٤٤ و ٤٦) وبذلك يؤل الحال الى تدوير النقطة م والمستقيم و حول المحور ا الموازى لاحد مستويى المسقط اى الى المسئلة المتقدم حلها فى (بند ٧١) ثم يغير الآن المستوى الافقى بان يجعل خ ض عمودا على المحور ا فيكون مسقط المحور الافقى نفس النقطة أ وحيث ان المسقطين الرأسيين م و لا يتغيران يكون المسقطان الافقيان عينى م و ثم لتدوير م والمستقيم و حول المحور ا الذى هو الآن عمود على المستوى الافقى يلزم ان يوصل بين أ و م ويجعل هذا المستقيم نصف قطر ترسم به دائرة تقطع و فى نقطة ثانية ك ثم تصنع الزاوية ا بواسطة المستقيم أ م فيتحصل نقطة م ويجعل ك ك = م م يتحصل معنا نقطة ثانية من و ولكون المسقطين م و ك يوجدان على خطين موازيين لخط الارض خ ض ومارين بالمسقطين م و ك يتحصل معنا و فيلزم الآن تغيير المستوى الافقى وانتخاب خ ض خطا ارضيا بشرط ان يؤخذ م خلف هذا الخط و ك امامه كوضعى م و ك بالنسبة الى خ ض انظر (بند ٤٣) ومن هذا ينتج و ومنه ينتج و انظر (بند ٤٦)

(٧٥)

(المسئلة الخامسة والعشرون) اذا كان المطلوب تدوير مستو بقدر زاوية معلومة حول محور ما يقال

ليفرض كما فى (الشكل ٦٨) ان المحور ا معلوم بمسقطيه $\overset{ق}{ا}$ و $\overset{ر}{ا}$ وان المستوى م معلوم ايضا باثريه $\overset{ق}{م}$ و $\overset{ر}{م}$ والمطلوب تدوير المستوى م بقدر زاوية معلومة ا حول المحور ا ففى مدة الدوران ترسم جميع نقط المستوى م اقواس دائرة فى مستويات اعمدة على ا وبذلك لاتكون موازية لاحد مستويى المسقط ولا اعمدة عليه فقد آل الامر اولا الى تغيير المستوى الرأسى كما فى المسئلة المتقدمة فحينئذ يؤخذ المستوى الجديد موازيا للمحور اومارا بالمحور نفسه وهو اخصر فينطبق خط الارض خَضَ على $\overset{ق}{ا}$ ثم لايجاد وضع المحور على هذا المستوى يبحث عن وضعى نقطتين من نقطه ا و م فيتحصل المحور ا وحيث ان الاثر $\overset{ق}{م}$ لايتغير يعين الاثر الرأسى $\overset{ر}{م}$ بافق ب من المستوى ثم يغير المستوى الافقى بانتخابه عمودا على المحور فيكون خط الارض خَضَ عمودا على ا والمسقط الافقى للمحور هو عين $\overset{ق}{ا}$ فلا يتغير الاثر الرأسى $\overset{ر}{م}$ ويتحصل الاثر الافقى $\overset{ق}{م}$ بواسطة الرأسى ط للمستوى ثم يلزم تدوير المستوى م المعلوم باثريه $\overset{ق}{م}$ و $\overset{ر}{م}$ حول المحور ا الذى هو الآن عمود على المستوى الافقى للمسقط بان ننزل $\overset{ق}{ا}$ ع عمودا على $\overset{ق}{م}$ ونرسم الزاوية ا ثم نرسم قوس دائرة بجعل $\overset{ق}{ا}$ مركزا فيتحصل معنا النقطة عَ وباخذ $\overset{ق}{م}$ مماسا فى هذه النقطة للدائرة ج يحدث الاثر الافقى للمستوى فى وضعه الجديد ويقابل الاثر الرأسى $\overset{ر}{م}$ المحور فى نقطة ث ثابتة مدة الدوران ومنتسبة بالضرورة الى الاثر

الرأسى رَ م ايضا ثم نغير الآن المستوى الافقى بان نأخذ خَ ضَ خطا ارضيا فيتبعين الاثر الافقى قَ م بواسطة الرأسى رَ ثم نغير ايضا المستوى الرأسى بان نأخذ خ ض خطا ارضيا فنجد الاثر الرأسى رَ م بواسطة افقى سَ

(٧٦)

اذا علم شكل مستو فى الفراغ كان من المهم معرفة هيئته الحقيقية فيلزم لذلك جعل المستوى المحتوى على ذلك الشكل فى وضع موازلاحد مستويى المسقط انظر (اولا من بند ٥٦) ويتوصل الى ذلك بعمليتين مختلفتين هما

(اولا) ان يؤخذ مستو جديد للمسقط موازلمستوى الشكل المذكور او يعتبر اختصارا هذا المستوى عينه مستويا جديدا للمسقط لكن اذا لم يكن هذا المستوى عمودا على احد المستويين الاصليين يجب البدء بجعله فى هذا الوضع الخاص

(وثانيا) ان يدور مستوى الشكل المذكور حول محور وينتخب محورا فى العادة احد اثريه وتسمى العملية حينئذ عملية الانطباق وحيث ان هذه الحركة حاصلة حول محور موازلاحد مستويى المسقط احتيج فى ذلك الى عمليتين انظر (بند ٧٣) فيتحصل من ذلك انه اذا اريد ايجاد هيئة الشكل الحقيقية لاى شكل كائن فى مستو ما وجب اجراء عمليتين الغرض من اولاهما جعل مستوى الشكل عمودا على احد مستويى المسقط ومن الثانية جعله منطبقا على المستوى الآخر للمسقط او جعله اقل ما هنالك موازيا له وكلتا هاتين العمليتين يمكن اجراؤهما اما بتغيير مستو او بحركة دوران ومن ذلك يتحصل اربع طرق لحل هذه المسئلة هى

(اولا) ان تحل بتغيير المستويين

(وثانيا) بتغيير المستوى ثم حركة دوران

(وثالثا) بحركة دوران ثم بتغيير المستوى

(ورابعا) بحركتى دوران

ومن المعلوم ان هذه الطرق قد انحلت حلا كافيا فيما سلف ولنشرع الآن فى بيان تطبيقها على حل المسائل الاربع الآتية التى توصلنا الى مسئلة العكس وهى ان يكون المعلوم وضع نقطة على المستوى المنطبق او المعتبر مستويا للمسقط والمطلوب معرفة مسقطيها على مستويين معلومين عموديين على بعضهما

(٧٧)

(المسئلة السادسة والعشرون) اذا اريد رسم مثلث متساوى الاضلاع على مستقيم معلوم يقال

ليفرض كما فى (الشكل ٦٩) ان المستوى المراد اجراء العملية المطلوبة عليه م ومن المعلوم ان المستقيم ا ـ لايكون معلوما الا بمسقطه الافقى ا ق ـ وبشرط وجوده فى المستوى م حيث يتعين به مسقطه الرأسى ا ب انظر (بند ٢٨) والاحسن ان يقال من حيث ان المستقيم محدود بالنقطتين ا و ـ يبحث عن مسقطى هاتين النقطتين الرأسيين كما فى (بند ٢٩) بان يستعمل لذلك افقيان من المستوى م اذا تقرر ذلك فلا يمكن اجراء العملية المطلوبة الا بعد جعل المستوى م منطبقا على احد مستويى المسقط وتستعمل فى ذلك الطريقة الاولى انظر (بند ٧٦) اعنى تغيير المستويين وذلك بان يجعل المستوى م افقيا للمسقط فيلزم ان ينتخب اولا مستور أسى جديد عمودا على المستوى م فيكون خط الارض خ ض بالضرورة عمودا على ق م انظر (رابعا من بند ٣٣) ولاجل ايجاد ر م يستعمل افقيان قد رسما لايجاد ا و ـ ثم يجعل المستوى م مستويا افقيا للمسقط فيصير تقاطعه بالمستوى الرأسى اى ر م خط الارض الجديد خ ض ويكون المسقطان الافقيان للنقطتين ا و ـ هما عينهما وايجادهما يكون بالطرق المعلومة فى (بند ٤٥)

وبعد ايجاد المستقيم ا ـ يرسم المثلث المتساوى الاضلاع المطلوب ولمعرفة

مسقطى هذا المثلث على مستويى المسقط الاصليين ينبغى ان يتنبه الى انه لم يبق علينا بعد معرفة مساقط رأسى المثلث ا و ب الا معرفة مسقطى الرأس ج ويتوصل اليهما بتغييرى المستويين على عكس ماسبق اعنى ان ينتقل من المستويين المتقاطعين فى خً ضً الى المتقاطعين فى خَ ضَ بتغيير المستوى الافقى للمسقط ثم ينتقل من هذا الى الاصليين المتقاطعين فى خ ض بتغيير مستوى المسقط الرأسى

فلو اعتبرنا المستوى م مستويا رأسيا لكان الاليق تعيين اُ و بُ برأسيين من المستوى م يتقعان فيما بعد لايجاد الاثر قَ م على مستوى المسقط الجديد الافقى العمود على المستوى م الذى كان يلزم اعتباره قبل اعتبار المستوى م مستويا رأسيا للمسقط

(٧٨)

(المسئلة السابعة والعشرون) اذا اريد ان يرسم على قاعدة معلومة الطول ا ب مناظرة للضلع ا ب مثلث ا ب ج مكافىء لمثلث معلوم ا ب ج ورأسه فى ج على مستقيم معلوم الوضع يفرض

ان المستوى كما فى (الشكل ٧٠) المراد اجراء جميع العمليات عليه م ومن حيث ان كلا من المستقيمين ا ب و و الكائنين على المستوى م لايعلم الا بمسقط واحد يستنتج المسقط الآخر بمقتضى (بند ٢٨) وحيث انه لايمكن اجراء عمليات المسئلة الا بعد جعل المستوى م منطبقا على احد مستويى المسقط يفرض ان المطلوب انطباقه على المستوى الافقى وتستعمل فى ذلك الطريقة الثانية المقررة فى (بند ٧٦) وهى تغيير مستو ثم حركة دوران

ويلزم لاجل انطباق المستوى م على المستوى الافقى تدويره حول قَ م معتبرا محورا لكن من حيث ان هذا المحور افقى يجب ان يجعل اولا عمودا على

المستوى الرأسى انظر (بند ٧٣) بان يغير المستوى الرأسى للمسقط فيؤخذ
خَضَ عمودا على قَم ويبحث عن رَم الذى لابد وان يحتوى على
أ و ـ رَ وَ معاكما فى (ثانيا من بند ٥٦) وبعد انطباق المستوى
م على المستوى الافقى ينبه على ان النقطة ا مثلا ترسم قوس دائرة ج
موازية لمستوى المسقط الرأسى القاطع لمستوى المسقط الافقى فى خَضَ ومن
حيث ان هذه النقطة لابد وان تصير على المستوى الافقى يكون مسقطها الرأسى
حينئذ على خط الارض فى أَ رَ فتكون النقطة نفسها بالضرورة فى أَ
وتحصل ايضا النقطة الاخرى ـَ والمستقيم وَ ثم يرسم المثلث المطلوب
أَ ـَ جَ على المستوى م المنطبق ثم لاجل معرفة مسقطى
هذا المثلث على مستويى المسقط الاصليين ننبه على انه حيث ان الرأسين
ا و ـ معلومان وان الرأس الثالث موجود على المستقيم و لم يبق
علينا الا ان نتزل من الرأس جَ عمودا على قَم فيقطع ذلك العمود المسقط
قَ و فى النقطة جَ ومنه ينتج جَ وبايصال مسقطى هذه النقطة جَ
بمساقط النقطتين ا و ـ يتحصل مسقطا المثلث المطلوب ا ـ ج
ولو اريد انطباق المستوى م على المستوى الرأسى لكان يلزم اولا تغيير المستوى
الافقى بجعل خط الارض الجديد عمودا على رَم ثم تدوير المستوى م
حول هذا الاثر الرأسى وكانت العمليات مشابهة للمذكورة آنفا

(٧٩)

(المسئلة الثامنة والعشرون) اذا اريد ان يرسم داخل محيط دائرة معلوم
مخمس منتظم احدى رؤوسه منطبقة على نقطة معلومة يقال
ان محيط الدائرة كما فى (الشكل ٧١) يتعين بمركزه وبنقطة من المحيط
اذا علم المستوى المحتوى عليه فاذا فرض ان المستوى المذكور هو م

وان المسقطين الافقيين وَ وَ أ للمركز و وللنقطة ا معلومان يستنتج المسقطان الرأسيان انظر (بند ٢٩) بان يستعمل لذلك رأسيان و و ا للمستوى م ثم انه لا يمكن اجراء العمليات المطلوبة الا بعد انطباق المستوى م على احد مستويي المسقط ولاجل جعله في هذا الوضع تستعمل الطريقة الثالثة المقررة في (بند ٧٦) اعني حركة دوران ثم تغيير مستو فاذا اريد جعل المستوى م مستويا جديدا رأسيا للمسقط لزم جعله اولا عمودا على المستوى الافقي بتدويره حول محور عمود على المستوى الرأسي انظر (بند ٦٤) الى ان يصير رَم في وضع رَم عمود على خ ض وحيث ان المحور اختياري يلزم ان يجعل مارا كما هو الاخصر بنقطة تقاطع الاثرين وهذا الاختيار يتعلق ضرورة بترتيب الشكل الخاص ثم لاجل ايجاد مساقط النقطتين و و ا بعد الدوران يمكن استعمال رأسيين قد رسما ولكن يمكن ايضا تبديل هذين الرأسيين بخطين اعظم ميلا للمستوى م بان نتصور مثلا في المستوى م من النقطة و خطا ط اعظم ميلا بالنسبة للمستوى الرأسي فيكون مسقطه الرأسي عمودا نازلا من وَ على رَم انظر (بند ٣٧) وقاطعا رَم في النقطة ع وهي الاثر الرأسي لهذا المستقيم الاعظم ميلا فتصير النقطة ع في النقطة عَ والمستقيم ط يبقى عمودا على رَم وعلى طوله الاصلي كما في (ثالثا من بند ٥٦) فحينئذ اذا اخذنا عَ وَ = ع و عمودا على رَم تكون النقطة وَ مسقط النقطة و الرأسي في وضعها الجديد ويبقى مسقطها الافقي على بعد واحد من خ ض فيكون حينئذ في وَ على المسقط الافقي للرأسي و من المستوى م الذي سبق استعماله لايجاد وُ ويمكن بهذه الكيفية ايجاد المسقطين

اَ وِ اَ اوينبه على ان النقط الثلاث نَ وِ وَ وِ اَ لابد وان توجد على
قَ المعينة فيما سلف بالمسقط الرأسى نَ والمسقط الافقى وَ ومن هنا
يستخرج وَ فيكون اَ على قوس دائرة مرسوم من المركز نَ بنصف
قطر نَ اَ

ولنجعل الآن المستوى مَ مستويا رأسيا للمسقط فيصير اثره الافقى قَ خط
الارض الجديد خَضَ فيحدث المسقطان الرأسيان للنقطتين اَ و وَ
كما فى (بند ٤٤) اللذان ليسا فى الواقع الا النقطتين نفسهما وباجراء العملية
المعلومة وهى قسمة نصف القطر وَاَ فى النقطة ےَ الى جزئين اكبرهما
وسط متناسب بين الخط بتمامه وجزئه الاصغر فيكون اَ ےَ ضلع المعشر
فاذا زيد على هذا الضلع مثله بان جعل من اَ الى ےَ يكون اَ
ضلع المخمس المطلوب وبعد رسم المخمس اَ ےَ جَ دَ هَ يؤول الامر الى البحث
عن ايجاد مسقطيه على مستويى المسقط الاصليين بعمليات عكس العمليات
المتقدمة بان ننتقل من مستويى المسقط المتقاطعين فى خَضَ الى المتقاطعين فى
خَضَ ويكون ذلك بتغيير المستوى الرأسى ثم ندور المستوى مَ حول المحور
اَ فى جهة مخالفة لجهة الدوران المبين بسهم القوس بقدر زاوية مساوية
للزاوية فِ التى دارها المستوى فى العملية الاولى

فحيث ان النقطة ےَ مثلا تسقط اسقاطا افقيا فى ےِ على خَضَ
يكون حينئذ مسقطها الرأسى ےَ باخذ ےَ ےَ = ےِ ےَ على عمود نازل
من ےِ على خَضَ واذا جعل بعد ذلك المستوى مَ فى وضعه الاصلى
م تحركت النقطة ےَ تحركا موازيا للمستوى الرأسى للمسقط وصارت
على الرأسى بِ للمستوى م الذى يمر مسقطه الافقى بِ بالنقطة ےِ
بالضرورة وحينئذ يعلم ايضا بِ اذا تقرر ذلك وجب ان يكون المسقط الرأسى

ـ رُ على كل من بـ رُ ومن قوس الدائرة المرسوم من المركز نـ رُ بنصف قطر نـ رُ ـ فيعلم المسقط حينئذ وبه يعرف ـ ق الواجب ان يكون على المسقط الافقى بـ ق وبهذه الكيفية لو جد مساقط رؤس المخمس الباقية وبتوصيل هذه الرؤس بعضها واحدة بعد الاخرى بمستقيمات يتحصل معنا مسقطا المخمس نفسه

فاذا اريد جعل مستوى الشكل مستويا افقيا للمسقط لزم اولا جعله فى وضع مَ عمود على المستوى الرأسى بحركة دوران حول محور رأسى ثم جعل هذا المستوى مَ مستويا افقيا للمسقط وبهذا يصير رَ خطا ارضيا جديدا

(٨٠)

(المسئلة التاسعة والعشرون) اذا اريد ايجاد المركز ونصف قطر الدائرة المرسومة خارج مثلث معلوم يقال

يرسم كما فى (الشكل ٧٢) اولا اثر المستوى م الكائن عليه المثلث المعلوم ا ـ ج كما فى (بند ٣٢) ثم يطبق المستوى م على المستوى الافقى للمسقط لامكان اجراء العمليات اللازمة لحل المسئلة بان تستعمل مثلا الطريقة الرابعة المقررة فى (بند ٧٦) اعنى حركتى دوران بان يجعل اولا المستوى م عمودا على المستوى الرأسى بحركة دوران اولى حول محور رأسى ا فيرسم الاثر قَم زاوية فـ فيجب حينئذ ان ترسم النقط ا و ـ و ج عين الزاوية التى رسمها الاثر ولذلك نرسم من النقطة ا معتبرة مركزا بانصاف اقطار ا ا و ا ـ و ا ج اقواس دوائر عليها تؤخذ بالابتداء من النقط ا و ـ و ج مقادير مساوية للمقادير المحصورة فى الزاوية فـ فتحصل حينئذ المساقط الافقية اَ و ـَ و جَ واما المساقط الرأسية فتبقى على

ما كانت عليه من الارتفاع عن خط الارض خ ض وتوجد كلها على ر م وهذا برهان على صحة العمليات ثم يدور المستوى م ح حول المحور ق م لينطبق على المستوى الافقي للمسقط وتصير المساقط الرأسية على خ ض في النقط أ و ت و ج واما النقط نفسها أ و ت و ج فتكون على مستقيمات موازية لخط الارض خ ض ومارة من المساقط الافقية أ و ت و ج كل مستقيم من مسقط اذا تم ذلك نرسم المركز و والنصف قطر و أ للدائرة المرسومة خارج المثلث أ ت ج ولتحصيل مساقطها بدور المستوى دورتين مساويتين للدورتين اللتين اجريتا قبل ذلك لكن الى جهة عكس جهتيهما فبذلك تصير اولا النقطة و في النقطة و بدورانها حول ق م ثم في و بدورانها حول المحور ا فيتحصل معنا المسقطان و ا و و ا لنصف قطر الدائرة المذكورة

واذا اريد انطباق المستوى م ح على المستوى الرأسي بتدويره حول اثره الرأسي للزم اولا جعل هذا الاثر عمودا على المستوى الافقي بحركة دوران اولى حول محور عمود على المستوى الرأسي

(الباب الثالث)

مسائل في النقطة والمستقيم والمستوى في المستقيمات والمستويات الاعمدة على بعضها

(٨١)

مسقطا المستقيم العمود على مستو يكونان عمودين على اثر المستوى كل مسقط على نظيره لانه اذا اخذ المستوى المسقط افقيا للمستقيم مستويا رأسيا للمسقط

انطبق خط الارض على وَ وصار الاثر قَ عمودا عليه كما فى (رابعا من بند ٣٣) وصار ايضا وُ و رُ عمودين على بعضهما ويمكن ايضا اثبات هذه الدعوى النظرية بسهولة بواسطة حركة دوران لانه بتدوير جملة الشكل حول محور رأسى الى ان يصير المستوى م عموداعلى المستوى الرأسى يكون حينئذ المستقيم و موازيا لهذا المستوى فعلى ذلك يكون وَ موازيا لخط الارض خ ض والاثر قَ عمودا عليه فحينئذ يكون وَ و قَ عمودين على بعضهما وبتدوير جملة الشكل حول محور عمود على المستوى الرأسى للمسقط الى ان يصير المستوى م عموداعلى المستوى الافقى للمسقط يثبت ان وُ و رُ عمودان على بعضهما وبالجملة فهذا الاثبات يرجع للاول انظر (بند ٦٨) ويسهل رسم الشكل المتعلق بذلك كما يسهل رسم الاول

(٨٢)

(المسئلة الاولى) اذا كان المطلوب امرار مستقيم عمود على مستو معلوم من نقطة معلومة ع يقال

انه يكفى انزال عمودين من مسقطى النقطة المعلومة ع على اثرى المستوى المعلوم لكن اذا لم يكن المستوى معلوما باثريه وكان هذان الاثران خلف حدود الرسم وجب اجراء العملية هكذا

بان يفرض ان المستوى المعلوم كما فى (الشكل ٧٣) هو (ا ب) فيمر خط ما افقى ج فى هذا المستوى فيكون مسقطه الرأسى جُ موازيا لخط الارض خ ض وقاطعا اُ و بُ فى النقطتين اُ و بُ وهما المسقطان الرأسيان للنقطتين ا و ب فيتحصل منهما بدون واسطة المسقطان الافقيان ثم يتحصل ايضا جَ لكن جَ موازللاثر الافقى للمستوى فاذا

انزلنا من المسقط ع عمودا على ج يكون ن المسقط الافقى للعمود المطلوب واذا امررنا ايضا رأسيا ط على المستوى (ا ب) حدث ن ثم اذا لم يكن لكل من الخطين الافقى والرأسى من المستوى مسقطان فى حدود الرسم يجب تغيير مستوى المسقط بان يجعل اولا مثلا المستوى الجديد الافقى المستوى المسقط رأسيا لاحد المستقيمين ا ثم ينتخب مستو جديد رأسى مارا بالمستقيم ب بحيث يكون المستقيمان ا و ب اثرين للمستوى المعلوم على مستوى المسقط الجديدين فينزل على هذين الاثرين حينئذ عمودين من المسقطين الجديدين للنقطة المعلومة ثم ينتقل من مسقطى هذا الرأسى على المستويين الجديدين الى مسقطيه على المستويين الاصليين

(٨٣)

(المسئلة الثانية) اذا كان المطلوب امرار مستو عمود على مستقيم معلوم و من نقطة معلومة م يقال

من النقطة م كما فى (الشكل ٧٤) يمر الافقى ط للمستوى المطلوب م فيكون مسقطه الافقى بالضرورة موازيا للاثر الافقى للمستوى فحينئذ يكون ذلك المسقط عمودا على و ويكون الاثر الرأسى ا للافقى ط نقطة من الاثر الرأسى للمستوى م ولابد ان يكون الاثر الرأسى لهذا المستوى عمودا على و فاذا انزلنا من النقطة ع التى هى تقابل ذلك الاثر مع خ ض عمودا على و كان ذلك العمود هو الاثر المطلوب ق م

فان لم يتقابل الاثر ر م بخط الارض خ ض فى حدود الرسم عينت بلا واسطة نقطة من ق م بان يمر من النقطة م الرأسى ج للمستوى م وقد يكون اثرا هذين المستقيمين ط و ج خارجين عن حدود الرسم ففى هذه الحالة يلزم اولا ان ينتبه الى انهما يكفيان فى تعيين المستوى

المطلوب

المطلوب بدون حاجة لايجاد اثريهما لكن اذا اريد تحصيل جزئى اثرى المستوى الكائنين فى حدود الرسم امكن بواسطة الافقى ط والرأسى ج المارين من النقطة م تعيين جملة مستقيمات اخر غير متناهية كائنة كلها فى المستوى المطلوب بالتوصيل بين اى نقطتين من هذين المستقيمين احداهما يمكن ان تكون على بعد غير متناه

(٨٤)

(المسئلة الثالثة) اذا كان المطلوب امرار مستو عمود على مستو معلوم من مستقيم معلوم يقال

ليفرض ان المستقيم المعلوم و والمستوى المعلوم م فاذا انزلنا من نقطة ما من نقط و عمودا ن على المستوى م لايخرج عن المستوى المطلوب فيكون هذا المستوى معينا بالمستقيمين و و ن انظر (بند ٣١)

فاذا كان المستقيم و نفسه عمودا على المستوى م لايكون معنا الا مستقيم واحد ومن المعلوم ان كل مستو مار من مستقيم عمود على مستو آخر يكون عمودا على هذا المستوى فاذا اخذ بدل المستقيم و نقطة لم يتغير العمل

(٨٥)

(المسئلة الرابعة) اذا كان المطلوب امرار مستقيم عمود على مستقيم معلوم من نقطة معلومة يقال

اذا كانت النقطة المعلومة خارجة عن المستقيم المعلوم لايمكن ان ينزل من مثل هذه النقطة الا عمود واحد على المستقيم ويمكن حل المسئلة بعدة طرق هى ان يقال (اولا) من حيث ان المستقيم المعلوم و والنقطة المعلومة م كما فى (الشكل ٧٥) يعينان مستويا (و م) انظر (بند ٢٧) يمكن جعل ذلك المستوى احد مستوى المسقط او انطباقه على احد مستوى المسقط المتقاطعين فى خ ض باستعمال احدى الطرق الاربعة المقررة فى (بند ٧٦) ولنتخب الثانية منها بفرض تطبيق المستوى (و م) على المستوى الافقى للمسقط ويلزم لذلك اولا ان يؤخذ مستو جديد رأسى للمسقط عمود على المستوى (و م) بحيث

يكون خَضَ عمودا على الاثر الافقى لهذا المستوى بالضرورة ولا يلزم مع ذلك ايجاد هذا الاثر بل يكفى امرار افقى ط للمستوى (و م) من النقطة م فيلزم حينئذ ان يمر طُ من مُ ويكون موازيا للخط خ ض ويقابل وُ فى النقطة ـُ ومنها يستنتج ـُ ق الذى يلزم ان يكون كائنا على وُ ق فاذا اوصلنا ـُ ق بالمسقط م ق حدث المسقط ط ق الذى يجب ان يكون خَضَ عمودا عليه ولاجل الاختصار ينتخب المستوى الرأسى الجديد للمسقط مارا من النقطة م ومن حيث ان هذه النقطة والمستقيم و يوجدان على مستو عمود على المستوى الجديد الرأسى للمسقط يوجد مسقطاهما الرأسيان م و وُ على مستقيم واحد ويجب ان يكون ايضا الاثر الرأسى رَم للمستوى م او (و م) واما ق م فيجب ان يكون عمودا على خَضَ ويمكن ان يكون كائنا ما كان فى حدود الرسم بوضع خط الارض الجديد وضعا لائقا فاذا دورنا بعد ذلك هذا المستوى حول ق م انطبق المستقيم و والنقطة م على وَ وَ م اى كل على نظيره فاذا انزل من النقطة مَ العمود نَ على المستقيم وَ قابل ذلك العمود وَ فى النقطة عَ وبارجاع هذه النقطة الى الوضع الاصلى للمستقيم و يحصل المستطان عَ وُ عُ فاذا اوصلنا مساقط النقطتين م و ع بخطين مستقيمين كانا مسقطى العمود المطلوب وكان يصح اعتبار رَم خطا ارضيا جديدا واستعمال الطريقة الاولى المذكورة فى (بند ٧٦) ويمكن ايضا استعمال احدى الطريقتين الاخريين لذلك تنبيه *الطريقة التى سلكناها هنا اسهل الطرق المذكورة فى كتب هذا الفن لان الانسان قد يكون مجبورا فى هذه الطريقة الاخيرة على امرار مستقيم من النقطة م قاطع للمستقيم و اوموازله كما يكون مجبورا ايضا على ايجاد اثرى المستوى المعين بهذين المستقيمين قبل اجراء الانطباق

(وثانيا) من حيث ان المستقيم المطلوب ن يقطع المستقيم و فى النقطة

ع التى منها يمكن امرار مستقيم آخر ن ن عمود على المستقيم و المذكور فيكون المستوى (ن ن) عمودا على و ويقطعه فى النقطة ع فبهذا يتوصل الى امرار مستو عمود على مستقيم و من النقطة م كما فى (بند ٨٣) والى البحث عن نقطة تقابل هذا المستوى بالمستقيم و فاذا اوصلنا نقطة التقابل ع بالنقطة المعلومة م تحصل معنا المستقيم المطلوب لكن هذه الطريقة المذكورة دائما فى الكتب منفردة تستدعى حل مسئلة تتعلق بعدة مسائل سيأتى حلها واما المسئلة التى نحن بصددها فهاهو محل حلها والحل الاول حينئذ هو المناسب لها حقيقة ومزيته ان يستنتج منه تطبيق جديد للاصول وهذا برهان آخر على عمومية تلك الاصول

(٨٦)

(المسئلة الخامسة) اذا كان معلوما مسقط افقى لمستقيم عمود على مستقيم معلوم فى نقطة معلومة والمطلوب ايجاد مسقطه الرأسى يقال

اذا كانت النقطة المعلومة كما فى (الشكل ٧٦) على المستقيم المعلوم امكن فى مسئلتنا هذه امرار عدة اعمدة على هذا المستقيم غير محصورة لكن يختار منها معرفة ما كان معلوم المسقط الافقى ولنفرض حينئذ ان و هو المستقيم المعلوم و ن المسقط الافقى المعلوم للخط العمودى على المستقيم و المأخوذ من النقطة م ومن حيث ان المستقيم ن كائنا فى المستوى م العمود على المستقيم و فى النقطة م يتوصل بعد ايجاد اثرى هذا المستوى كما هو مبين فى (بند ٨٣) الى البحث عن المسقط الرأسى لمستقيم كائن فى مستو ومعلوم المسقط الافقى كما فى (بند ٢٨)

(فى تقاطع المستقيمات والمستويات)

(٨٧)

كل سطح يتولد على العموم من خط فراغى متحرك بطريقة معلومة والسطح

عموما وجهان خارجي وداخلي ولا امتياز لاحدهما عن الآخر في هذا العلم لكن ينبغي تميز احدهما عن الآخر فيما يتعلق بالصنايع

(٨٨)

كل سطحين مثل س و سَ يتقاطعان في خط لا يمكن ايجاده دائما بمجرد تولدهما بل لابد مع ذلك من تعيينه نقطة فنقطة ولهذا تؤخذ جملة سطوح متوالية مساعدة يقطع كل منها السطح المذكور س في خط كخط ج والسطح سَ في خط كخط جَ فيتقاطع الخطان الكائنان على سطح واحد مساعد هـ في نقطة م من التقاطع المطلوب للسطحين المذكورين س و سَ وينبغي ان يختار في كل حالة السطح المساعد هـ المذكور لطبيعته ووضعه بحيث تتحصل مساقط تقاطعيه مع السطحين المعلومين بطريقة اسهل من الطريقة التي يتحصل بها مسقطا تقاطع هذين السطحين نفسهما فاذا كان السطحان س و سَ مستويين فمن المعلوم ان السطوح المساعدة كالسطح هـ تكون بالضرورة مستوية ايضا واختيار هذه المستويات المساعدة يكون اولا بكيفية ان آثارها تقطع آثار المستويين المعلومين في حدود الرسم وثانيا ان تقاطعي المستوى المساعد مع المستويين المعلومين يتقاطعان في حدود الرسم

(٨٩)

(المسئلة السادسة) اذا كان المطلوب ايجاد تقاطع مستويين آثارهما متقاطعة في حدود الرسم يقال

من المعلوم ان النقطتين ا و ب اللتين هما نقطتا تقاطع آثار المستويين المعلومين كما في (الشكل ٧٧) نقطتان من تقاطع المستويين المذكورين وهما ايضا اثراه انظر (بند ٢٨) وبهذا يسهل ايجاد مسقطي هذا المستقيم انظر (بند ١٤)

(٩٠)

(المسئلة السابعة) اذا كان المطلوب ايجاد التقاطع ى للمستويين م و ك اللذين اثراهما الافقيان متوازيان يقال

من المعلوم ان النقطة ـ التى هى نقطة تقاطع الاثرين الرأسيين للمستويين كما فى (الشكل ٧٨) اثر رأسى لتقاطع المستويين فيرحينئذ ى بالمسقط ـ ويقابل بالضرورة الاثرين قم و قك فى نقطة تقاطعهما اللانهائى ومن ثم يكون ى موازيا لهما ويمر كذلك المسقط ى ضرورة بالنقطة ـ ويقطع خ ض فى نقطة لانهائية فيها النقطة ا ومن هنا يكون موازيا له كما ان ى لما كان موازيا للاثر قم يكون المستقيم ى افقيا للمستوى م المشتمل عليه فحينئذ يكون المسقط ى موازيا بالضرورة للخط خ ض ثم لابد وان يكون خط التقاطع ى افقيا بالاولى لانه لو لم يكن كذلك لقطع المستوى الافقى فى نقطة ا مشتركة بين قم و قك فلا يكونان متوازيين وهذا خلف ويكون ايضا خط تقاطع المستويين المتوازيين الاثرين الرأسيين موازيا للمستوى الرأسى

(٩١)

(المسئلة الثامنة) اذا كان المطلوب ايجاد تقاطع مستويين اتحد اثرا كل منهما وصارا مستقيما واحدا يقال

حيث ان الاثرين ا و ـ لهذا التقاطع كما فى (الشكل ٧٩) متحدان فى نقطة واحدة يكون التقاطع ى بالضرورة فى مستوى عمود على خ ض وحينئذ يكون مسقطاه عمودين على خ ض ويكون معلوما منه ايضا نقطتان هما ا و ـ *تنبيه يتحصل من المستقيم ى ومستوى المسقط زوايا متساوية لان هذا المستقيم يحدث مع مسقطيه مثلثا متساوى الساقين

(٩٢)

(المسئلة التاسعة) اذا كان المطلوب ايجاد التقاطع ى للمستويين م و ك المتقاطع اثراهما الافقيان خلف حدود الرسم يقال ان المستويين المتوازيين مقطوعان بثالث فى مستقيمين متوازيين فلو رسم كما فى (الشكل ٨٠) مستو س موازلمستوى ك لكان تقاطعه ط مع المستوى م موازيا للتقاطع ى للمستويين م و ك لان النقطة ـ من هذا التقاطع معلومة فيلزم حينئذ اخذ خط موازللمسقط ط من النقطة ـ واخر موازللمسقط ط من النقطة ـ انظر (بند ٢٤)

(٩٣)

(المسئلة العاشرة) اذا كان المطلوب ايجاد التقاطع ى للمستويين م و ك اللذين آثارهما الاربعة متقابلة فى نقطة واحدة ا من خط الارض يقال انه يجب كما فى (الشكل ٨١) اختيار المستوى المساعد س بحيث تتقاطع ق مع ق و ق وكذلك ر مع ر و ك فى زوايا قائمة تقريبا فالمستوى س المذكور يقطع المستويين م و ك فى مستقيمين ا و ب يتلاقيان فى النقطة م من التقاطع المطلوب ومع ذلك فهذا التقاطع يمر من النقطة ا بالضرورة فيتعين حينئذ تعيينا تاما بكل من هاتين النقطتين

(٩٤)

تنبيه يمكن حل هذه المسئلة بالمستوى المساعد ايا ما كان وضعه باعتبار هندسى فى غالب اوضاع المستوى ولا يمكن حلها باعتبار رسمى لانه حيث كانت خطوط الشكل غير رياضية ينبغى رسمها بشرط ان يكون تقاطعها صحيحا مضبوطا لاشك فيه والاحسن فى تمام هذا الشرط ان تصنع الخطوط المتقاطعة زاوية قريبة من الزاوية القائمة

(٩٥)

(المسئلة الحادية عشر) اذا كان المطلوب ايجاد التقاطع ى للمستويين

م و ك الموازيين لخط الارض يقال

اذا اخذ المستوى المساعد عمودا على خط الارض خ ض كما فى (الشكل ٨٢)

يصير بالضرورة مستويا جديدا راسيا عليه الاثران ر م و ر ك وحيث ان

المستويين المذكورين م و ك عمودان على هذا المستوى الجديد

الرأسى يكون تقاطعهما عمودا عليه ايضا فينسقط حينئذ هذا التقاطع

ر ق

فى ى ويكون مسقطه الافقى ى ق عمودا على خ ض اوموازيا

خ ض ومع ذلك فالمستقيم ى يكون موازيا خ ض وكائنا فوق المستوى

ر ق ر ق

الافقى بارتفاع ع ى فلو اخذ حينئذ وع = ع ى لحدث

ر

نقطة من المسقط الثانى ى الموازى بالضرورة ايضا للخط خ ض

وكان يمكن ايضا ان يعتبر المستوى المساعد مستويا جديدا افقيا

م ك

المسقط ويبحث عن الاثرين ق و ق

(٩٦)

(المسئلة الثانية عشر) اذا كان المطلوب ايجاد التقاطع ى للمستويين

م و ك اللذين لم تتقاطع اثارهما داخل حدود الرسم يقال

لحل هذه المسئلة عدة طرق هى

(اولا) ان يرسم كما فى (الشكل ٨٣) المستوى ك موازيا للمستوى

م ك

ك ويرسم تقاطعه ى مع المستوى م ويفرض ان ر و ر

ق

ممتدان الى ان يتقاطعا فى النقطة ـ ويتوهم رأسى ـ ـ فالمثلثان

ق

م ـ ل و م ـ ل متشابهان وكذلك م ـ ـ و م ـ ـ وكذلك

ق

م ـ ا و م ـ ا ومن ذلك يحدث هذه المتناسبات

مَ : مـ :: مَ : مل و مَ : مـ :: مَ : مـ و

مَ : مـ :: مأ : مأ

وبحذف مَ و مـ من هذه المتناسبات تكون هكذا

مَ : مل :: مَ : مـ و مَ : مل :: مأ : مأ

وبواسطة الحدين الرابعين من هاتين المتناسبتين تحدث النقطة ـ من المسقط ى وكذلك النقطة أ من ى وحيث ان التقاطع ى مواز للتقاطع ىَ يكون معلوما بالضرورة ويمكن ابدال الحدين الرابعين من هاتين المتناسبتين بالمستويين الجديدين المساعدين كما تشاهد ذلك فى الطرق الآتية

(وثانيا) ان يؤخذ مستو مّا مساعد مثل س يقطع المستوى م فى خط مستقيم ا والمستوى ك فى مستقيم ب كما فى (الشكل ٨٤) فحيث ان هذين المستقيمين فى المستوى س يلزم ان يتقاطعا فى النقطة م من التقاطع ى للمستويين م و ك وبأخذ مستو آخر مساعد مثل ص قاطعا للمستوى م فى خط مستقيم ج وللمستوى ك فى مستقيم و توجد نقطة اخرى ن من هذا التقاطع فيتعين بها تعينا تاما لكن يسهل معرفة ان استعمال المستويات المساعدة اياما كانت لا يفيد دائما نقطا من التقاطع ى للمستويين م و ك

(وثالثا) ان يؤخذ كما فى (الشكل ٨٥) المستوى المساعد س موازيا للمستوى الافقى وقاطعا للمستويين م و ك فى افقيين ا و ب من هذين المستويين فيتقابل هذان الافقيان فى النقطة م من التقاطع المطلوب فلو اخذ مستو آخر مساعد مثل ص موازيا للمستوى

الرأسى لقطع المستويين المذكورين م و ك فى رأسيين و و هـ من هذين المستويين وهذان الرأسيان يتقابلان ايضا فى النقطة ح من التقاطع المذكور وبتوصيل النقطتين م و ح يحدث التقاطع ى المطلوب للمستويين المعلومين م و ك

تنبيه اذا اخذ المستويان المساعدان س و ص ابعد ما يكون من خط الارض فالتقاطعات المساعدة تتقاطع فى نقط قريبة من خط الارض فينتج من ذلك انه لو كان النقطتان م و ح الكائنتان فى الشكل المتكلم عليه هنا خارج حدود الرسم لزم سلوك طريقة اخرى يأتى الكلام عليها فى (بند ٩٧)

(رابعا) ان ينتخب المستوى المساعد س موازيا لخط الارض كما هو ممكن ايضا وقاطعا للمستويين م و ك فى مستقيمين ا و ا يتقاطع مسقطاهما الافقيان فى النقطة ا من ى كما فى (الشكل ٨٦) ولما كان مسقطاهما الرأسيان لا يتقاطعان الا خارج حدود الرسم لم يرسما واذا اخذ مستو آخر مساعد مثل س نتج عنه تقاطعان جديدان ب و ب يحدث منهما نقطة اخرى ـ من ى فيتعين حينئذ واذا انتخب ايضا مستويان جديدان مثل ص و ص اثراهما الافقيان بعيدان كل البعد من خط الارض خ ض وكل منهما يقطع المستويين م و ك بان يقطعهما الاول الذى هو ص فى المستقيمين و و والآخر فى المستقيمين هـ و هـ التى تتقاطع مساقطها الرأسية داخل حدود الرسم حدث من ذلك نقطتان د و د من المسقط الرأسى ى فيتعين بهما ومن هنا يحدث التقاطع ى للمستويين م و ك

(المسئلة الثالثة عشر) اذا كان المطلوب ايجاد تقاطع مستويين اثارهما تصنع مع خط الارض زوايا قريبة من القائمة يقال

ليكن كما فى (الشكل ٨٧) هذان المستويان م و ك ويسهل فى هذه الحالة معرفة ان استعمال المستويات المساعدة المتقدمة لايؤدى الى حل المسئلة لان المستوى الموازى للمستوى الرأسى يقطع المستويين م و ك فى رأسيين لايتقاطعان فى حدود الرسم وهذا ناشئ من كون المستويين م و ك لايتقاطعان الا بعد مسافة عظيمة الا ان جزء هذا التقاطع المجاور لاثره الافقى ينسقط انسقاطا رأسيا قريبا من خط الارض فاذا اختير مستو مساعد مار بخط الارض خ ض وقليل الميل جدا على المستوى الافقى قطع المستويين م و ك فى مستقيمين يقرب مسقطاهما الرأسيان من خط الارض ويتقاطعان بالضرورة فى حدود الرسم ومن هنا يتحصل نقطة من المسقط الرأسى للتقاطع المطلوب وباجراء مثل هذه العملية مع مستو جديد تنتج نقطة ثانية ليضافيتم تعيين المسقط الرأسى بهما ويتعين المسقط الافقى بامرار مستويين بخط الارض صانعين مع المستوى الرأسى زاوية صغيرة جدا ولنجرى العمل على ماذكر فنقول

يؤخذ اولا مستو مثل س معين بخط الارض خ ض وبالنقطة س الموجودة قريبا من المستوى الافقى وبعيدا جدا عن المستوى الرأسى فيقطع المستويين م و ك فى مستقيمين مارين بالضرورة من النقطتين ع و ك اللتين هما تقاطع المستويين المذكورين بخط الارض خ ض ولايجاد نقطة اخرى لكل من هذين المستقيمين او التقاطعين يؤخذ مستو آخر مساعد مثل ر موازيا للمستوى الرأسى ومارا من النقطة س فيقطع بالضرورة المستوى س فى مستقيم ا ر موازيا لخط الارض كما يقطع مستويى م و ك فى رأسيين ب و ج من هذين المستويين فيتقاطع المسقطان ا ر و ب ر فى النقطة ا من المسقط الرأسى و لتقاطع المستويين م و س لان النقطة ا كائنة على كل من المستقيمين ا ر و ب ر من المستويين المذكورين وبمثل ذلك يتقاطع المستقيمان ا ر و ج ر فى النقطة د من

المسقط

المسقط الرأسى هُ لتقاطع المستويين كَ و س ومن حيث ان المستقيمين و و هـ فى مستوواحد س فلا بدان يتلاقيا فى النقطة م المعلوم مسقطها الرأسى مُ وهى من تقاطع المستويين م و كَ لان المستقيمين و و هـ من هذين المستويين ومن المعلوم ان هذا العمل لا يتعين به نقطة تما من ىٓ ولذا لم يرسم فى الشكل المسقطان الافقيان وٓ و هـٓ لتقاطع المستويين م و كَ مع المستوى س ويصح ايجاد نقطة اخرى من ىٓ بواسطة المستوى سَ المار من خط الارض خ ض ومن النقطة سَـ التى اختيرت متحدة المسقط الافقى مع النقطة سـ المتقدمة لما فى ذلك من كثير السهولة فيقطع المستوى ر المستوى المذكور فى المستقيم أَ ومنه ينتج التقاطعان وَ و هـَ للمستوى ر مع المستويين المذكورين م و كَ ثم ان هذان التقاطعان او المستقيمان قد يعينان المسقط الرأسى مُ للنقطة مَ من التقاطع ى الذى تعين بالكلية بهما ولاجل ايجاد المسقط الافقى يمر مستو ص من خ ض ومن نقطة صـ مختارة قريبة جدا من المستوى الرأسى وبعيدة جدا من المستوى الافقى فيقطع المستويين م و كَ فى مستقيمين حَ و ط يمكن ايجادهما كما تقدم باخذ مستو مساعد رَ موازيا للمستوى الافقى فالمسقطان الافقيان حٓ و طٓ اللذان لم يرسم غيرهما هنا لان المسقطين الرأسيين لا يتحصل منهما شئ كما هو معلوم يتقاطعان فى النقطة دٓ التى هى مسقط افقى للنقطة د من التقاطع ويتحصل نقطة اخرى دَ باستعمال مستو صَ مار من خط الارض خ ض ومن النقطة صَـ فيتم حينئذ تعيين التقاطع ى للمستويين م و كَ

ويمكن التعرض ايضا فى هذه المسئلة لعدة احوال اخر يسهل حلها بواسطة الطرق المستعملة فى الامثلة السابقة فيمكن مثلا ايجاد تقاطع مستويين احدهما موازٍ لخط الارض والآخر اثراه متحدان فى مستقيم واحد وهكذا الى آخره

(٩٩)

(المسئلة الرابعة عشر) اذا كان المطلوب ايجاد تقاطع مستويين معلوم كل واحد منهما باثره ونقطة منه يقال

ليكن كما فى (الشكل ٨٨) هذان المستويان م و ك معلومين بالاثرين ق م و ق ك والنقطتين ع و ك ولذلك عدة طرق هى

(اولا) انه يمكن ان يرسم الاثران الرأسيان للمستويين المذكورين بامرار مستقيم افقى للمستوى م من النقطة ع فيعلم منه نقطة من ر م بامرار مستقيم افقى للمستوى ك من النقطة ك فينتج منه نقطة من ر ك ويمكن امرار رأسيين للمستويين المذكورين من النقطتين ع و ك فيكون ر م و ر ك حينئذ موازيين للمسقطين الرأسيين لهذين المستقيمين كل لنظيره ويمكن ايضا اخذ مستقيمين حيثما اتفق خارجين من النقطتين ع و ك وماريْن احدهما من نقطة من ق م والاخرى من نقطة من ق ك فيؤول الامر الى الطريقتين المتقدمتين

(وثانيا) انه يمكن حل المسئلة بالمستقيمات المعلومة التى فرضناها هنا بلا واسطة اخرى بان يوصل بين النقطتين ع و ك بمستقيم و يقطع المستوى الافقى فى نقطة د ثم يمر بهذا المستقيم مستوٍ ما س وليختر المستوى المسقط افقيا للمستقيم فيقطع المستوى س المستوى م فى مستقيم ب مار بالنقطة ع ويقطع المستوى ك فى مستقيم ج مار بالنقطة ك فيتقاطع هذان المستقيمان ب و ج فى نقطة م من التقاطع المطلوب

وهنالك

وهنالك نقطة اخرى ا وهى تقاطع الاثرين قم و قك وبهما وبالنقطة المتقدمة يتم تعيين التقاطع المطلوب

(وثالثا) ان العملية المتقدمة اخصر من غيرها لانها كافية فى ايجاد التقاطع المطلوب الا انه يمكن اخذ مستوما س كما فى (الشكل ٨٩) ثم يقال ان هذا المستوى س لابد وان يشتمل فى جميع احواله على المستقيم و فيشتمل ايضا اثره الافقى على الاثر الافقى للمستقيم وهذا هو الشرط اللازم لهذا المستوى فيمكن حينئذ ان يمر من نقطة د مستقيم ما يعتبر اثرا قس للمستوى المساعد فيتحصل من هذا المستوى س النقطة م من التقاطع باجراء الاعمال المتقدمة فى الحالة السابقة وباخذ مستو آخر مساعد تتحصل نقطة ثانية من هذا التقاطع وبهما يتم تعيينه

(ورابعا) انه اذا كانت النقطة د خارج حدود الرسم امكن ايجاد التقاطع ى بواسطة اعمال الشكل ٨٨ واذا كانت النقطة ا خارج حدود الرسم امكن اجراء الاعمال التى فى الشكل ٨٩ لكن اذا كان هاتان النقطتان خارجتين عن حدود الرسم فلا يمكن ايجاد التقاطع باستعمال الطرق المتقدمة فينبغى فى هذه الحالة ان يتصور مستويان س و سَ مارّان بالنقطتين ع و كَ كما فى (الشكل ٩٠) وموازيان للمستوى الرأسى ويقطعهما بالمستوى م فى مستقيمين متوازيين يلزم بالضرورة ان يمر احدهما الذى هو تقاطع س و م بالنقطتين ا و ع والآخر بالنقطة اَ فيعلم حينئذ هذان المستقيمان ا و اَ وكذلك يقطع المستوى كَ للمستويين س و سَ فى مستقيمين متوازيين يلزم ضرورة ان يمر احدهما الذى هو تقاطع المستويين سَ و كَ بالنقطتين ـَ و كَ والآخر بالنقطة ـ وحينئذ يعلم التقاطعان ب و بَ لكن من حيث ان ا و ب موجودان فى مستو واحد س فلابد ان يتقاطعا فى نقطة م من التقاطع ى المطلوب كما يتقاطع اَ و بَ فى نقطة اخرى مَ من هذا التقاطع ى

فحينئذ يتم تعيينه بهما ومن المعلوم ان الاعمال لا تختلف اذا امر مستويان رأسيان متوازيان اياما كانا من النقطتين ع و كَ ولا يلزم اصلا ان يكون المستويان المساعدان س و سَ موازيين للمستوى الرأسى للمسقط لانه لو كان كذلك لجبر الانسان على رسمهما فى اتجاه غير الاتجاه الاول اذا كان النقطتان ع و كَ على بعد واحد من المستوى الرأسى للمسقط لكن يمكن جعل هذه الحالة آيلة الى احدى الاحوال الاول بتغيير المستوى الرأسى دون المستوى الافقى لانه لا تنتج عنه المعالم التى بها تحل المسئلة

(١٠٠)

(المسئلة الخامسة عشر) اذا كان المطلوب ايجاد تقاطع مستويين معلومين بخطيهما الاعظمين ميلا بالنسبة لمستوى المسقط الافقى يقال

ليكن كما فى (الشكل ٩١) م و كَ الخطين الاعظمين ميلا للمستويين م و كَ ولحل هذه المسئلة طريقتان هما

(اولا) ان يؤخذ المستوى المساعد افقيا مثل س فيقطع المستقيمين م و كَ فى النقطتين ع و كَ انظر (ثانيا من ٥٦) كما انه يقطع المستويين فى افقيين ا و ب مارين بالنقطتين المذكورتين لكن من حيث ان مٓ عمود على قٓ كما فى (بند ٣٧) يكون عمودا بالضرورة على آ كما فى (بند ٣٦) كما ان كٓ ايضا عمود على بٓ فيكون هذان الافقيان معينين تعينا كليا وحيث كانا فى مستو واحد س فلا بد ان يتقاطعا فى نقطة كالنقطة م من التقاطع ى للمستويين وباستعمال مستو آخر افقى سَ تعلم نقطة اخرى مَ من هذا التقاطع وحينئذ يكون معلوما

(وثانيا) ان يقال اذا كان مٓ و كٓ متوازيين كما فى (الشكل ٩٢) يكون آ و بٓ متوازيين ايضا ولا ينتج منهما نقطة من نقط التقاطع لكن التقاطع ى يكون حينئذ افقيا كما فى (بند ٩٠)

وكيفية معرفة نقطة منه ان يقطع المستويان المعلومان بكل من المستويين الافقيين س و سَ بان يقطع احدهما فى افقيين ا و ب والآخر فى افقيين اَ و بَ فيؤخذ اى نقطتين مثل ا و ب على ا و ب ويوصلان بالمستقيم ج ثم يرسم على الخطين اَ و بَ مستقيم جَ مواز للمستقيم ج وحينئذ يمكن اعتبار ج و جَ افقيين لمستو ثالث قاطع للمستوى م فى مستقيم و وللمستوى ك فى مستقيم هـ فيتقاطع هذان المستقيمان و و هـ فى نقطة ن من التقاطع ى وباخذ عمود من سـ على م و كـ يتحصل بالضرورة ى ولا ترسم المساقط الرأسية للمستقيمين و و هـ والنقطة سـ ولاجل ايجاد المسقط ىُ يقال من حيث انه يقابل المستقيمين م و ك فى نقطتين معلوم مسقطاهما الافقيين صـ و زـ ينتج بالسهولة صـُ و زُ فيعينان المسقط المذكور ىُ ويجب مع ذلك ان يكون هذا المسقط موازيا لخط الارض خ ض

(١٠١)

(المسئلة السادسة عشر) اذا كان المطلوب ايجاد تقاطع مستويين معلومين باثريهما الافقيين والزاوية الحادثة من كل منهما مع المستوى الافقى يقال

من المعلوم كما فى (الشكل ٩٣) من مسئلة نظرية فى الهندسة الاصلية انه اذا كان مستو عمودا على المستوى الرأسى للمسقط تكون الزاوية الحادثة منه ومن المستوى الافقى مقيسة بالزاوية الحادثة عن اثره الرأسى مع خط الارض فاذا اخذ حينئذ مستو رأسى عمودا على المستوى م حدث من الاثر ر م لهذا المستوى مع خط الارض خ ضَ الزاوية المعلومة ا واذا اخذ ايضا مستو رأسى عمودا على المستوى ك يحدث من اثره ر ك مع خط الارض

خ ض الزاوية المعلومة ـ وحيث كان المستويان المذكوران م و ك منسوبان لمستو واحد افقى والى راسيين مختلفين امكن تغيير المستوى الرأسى لكل منهما وايجاد اثريهما ر م و ر ك كما فى (بند ٤٧) على مستو واحد رأسى خ ض ولكن هذا ليس ضروريا لانا اذا تصورنا مستويا افقيا س يكون اثراه على المستويين الرأسيين موازيين لخطى الارض خ ض و خ ض وعلى بعد واحد من هذين الخطين الارضيين ويقطع هذا المستوى المذكور س المستويين م و ك فى افقيين ا و ب وهذان الافقيان يتقاطعان فى نقطة م معلوم مسقطها الافقى م فبالتوصيل بين ا و م يحدث المسقط الافقى ى ى للتقاطع المطلوب للمستويين م و ك وحيث علم ايضا المسقطان الرأسيان ى ر و ى ر تعين التقاطع المطلوب

(١٠٢)

يمكن ايضا تنويع معالم المستويين المذكورين بان لا يفرضا معلومين بكيفية واحدة ومما تقدم يسهل معرفة التغيير الذى يلزم فى كل حالة من احوال طرق الحل التى ذكرناها هنا متتالية

(١٠٣)

الهندسة الاصلية والهندسة الوصفية تستمد احداهما من الاخرى بحيث توجد فى الغالب خواص معلومة من الهندسة الاصلية موصلة الى بعض خواص مجهولة فى الهندسة الوصفية وبالعكس فبمقتضى المسئلة الرابعة عشر كما فى (ثالث امن بند ٩٩) يقال كل مستو مساعد مثل س كما فى (الشكل ٨٩) ينتج منه نقطة م من التقاطع فتكون حينئذ جميع النقط الناتجة كالنقطة م على مستقيم بحيث لو اعتبر المسقط الافقى فقط لشوهد ان جميع المستقيمات مثل ب ف و ج ف تتقاطع فى نقطة مثل النقطة م ف كائنة على مستقيم واحد مار بالنقطة ا ومن ذلك تنتج دعوى

نظرية

نظرية هى

اذا وجدت ثلاث مستقيمات و و م و ك كما فى (الشكل ٩٤) متقاطعة اثنين اثنين وثلاث نقط د و ع و ك على مستقيم منها مثل و وأمر من النقطة د خطوط $ت_1$ و $ت_2$ و $ت_3$ .... قاطعة للمستقيمين م و ك ووصلت نقط المستقيم م الى النقطة ع بمستقيمات $ب_1$ و $ب_2$ و $ب_3$ ..... ووصلت كذلك نقط المستقيم ك الى ك بمستقيمات ايضا $ج_1$ و $ج_2$ و $ج_3$ .... تقاطع المستقيمان $ب_1$ و $ج_1$ والمستقيمان $ب_2$ و $ج_2$ والمستقيمان $ب_3$ و $ج_3$ .... فى النقط $م_1$ و $م_2$ و $م_3$.... التى هى والتقاطع ا للمستقيمين م و ك على مستقيم واحد ى

ومن المعلوم انه يمكن اعتبار المستقيمات و و م و ى معاليم للمسئلة وتختار النقطة ع اصلا للخطوط القاطعة $ب_1$ و $ب_2$ و $ب_3$ ..... لاحد المستقيمين م فى النقط $ب_1$ و $ب_2$ و $ب_3$ ... وللآخرى فى النقط $م_1$ و $م_2$ و $م_3$ .... وينتج منه ان نقط تقاطع المستقيمين $ج_1$ و $ت_1$ والمستقيمين $ج_2$ و $ت_2$ والمستقيمين $ج_3$ و $ت_3$ .... على خط مستقيم مع النقطة ا ويمكن ايضا جعل المستقيمات و و ك و ى معاليم والنقطة ك اصلا للخطوط القاطعة $ج_1$ و $ج_2$ و $ج_3$ .... لاحد المستقيمين ك فى النقط $ج_1$ و $ج_2$ و $ج_3$ .... وللآخرى فى النقط $م_1$ و $م_2$ و $م_3$.... فينتج منه ان نقط تقاطع المستقيمين $ب_1$ و $ت_1$ والمستقيمين $ب_2$ و $ت_2$ والمستقيمين $ب_3$ و $ت_3$ .... كائنة على مستقيم واحد م ماربالنقطة ا

يمكن ان يكون احدى النقط د و ع و ك لانهائيا ولذلك ثلاث حالات وهى ان تقول

(اولا) اذا كانت النقطة د هى اللانهائية تكون الخطوط القاطعة $ت_1$ و $ت_2$ و $ت_3$ ..... موازية للمستقيم و

(وثانيا) اذا كانت النقطة ع هى اللانهائية تكون الخطوط القاطعة $ب_1$ و $ب_2$ و $ب_3$ ..... موازية ايضا للمستقيم و

(وثالثا) اذا كانت النقطة ك هى اللانهائية تكون الخطوط القاطعة $ج_1$ و $ج_2$ و $ج_3$ ..... موازية ايضا للمستقيم و

وينتج من هذه الاحوال الثلاثة دعوى نظرية نطبقها على الحالة الاولى كما فى (الشكل ٩٥) لزيادة الايضاح فنقول

اذا كان معنا ثلاث مستقيمات و و م و ك متقاطعة اثنين اثنين ونقطتان ع و ك على مستقيم منها مثل و ورسمت جملة موازيات للمستقيم و قاطعة للمستقيمين الآخرين م و ك ووصلت نقط المستقيم م بالنقطة ع ونقط المستقيم ك بالنقطة ك يقال ان المستقيمين $ب_1$ و $ج_1$ والمستقيمين $ب_2$ و $ج_2$ والمستقيمين $ب_3$ و $ج_3$ ....

تتقاطع فى النقط $م_1$ و $م_2$ و $م_3$ ..... الكائنة هى والتقاطع ا للمستقيمين م و ك على مستقيم واحد ى وهذه الحالة تنتج من (شكلى ٨٦ و ٨٧) باعتبار ان العملية على مستوافق

(١٠٥)

اذا كانت المستقيمات الثلاثة و و م و ى معلومة واختيرت النقطة ع اصلا للقواطع $ب_1$ و $ب_2$ و $ب_3$ ..... ينتج ان نقط تقاطع المستقيمين $ج_1$ و $ت_1$ والمستقيمين $ج_2$ و $ت_2$ والمستقيمين $ج_3$ و $ت_3$ ....

والنقطة ا على مستقيم واحد ولذا كانت المستقيمات و و ك و ى معلومة

واختيرت

واختيرت النقطة ك اصلا للخطوط القاطعة ج١ و ج٢ و ج٣ .....
شوهد ان المستقيمات ب١ و ت١ و ب٢ و ت٢ و ب٣ و ت٣ ...
تتقاطع فى نقط على مستقيم مار بالنقطة ا كل اثنين منها متفقين فى العلامة
يتقاطعان فى نقطة ومن ذلك تنتج دعوى نظرية هى ان تقول
اذا كان معنا ثلاثة مستقيمات و و م و ى ونقطتان ع و ك
كائنتان على احد هذه المستقيمات وهو و وأمر من احدى هاتين
النقطتين وهى ع جملة قواطع ب١ و ب٢ و ب٣ ..... ثم وصلت
نقط تقاطع تلك القواطع مع المستقيم ى بالنقطة الاخرى ك من
المستقيم و ثم امر من نقط تقاطع تلك القواطع مع المستقيم م خطوط
موازية للمستقيم و تقاطعت تلك الموازيات مثل ت والمستقيمات
مثل ج فى نقط على مستقيم مار بالنقطة ا التى هى تقاطع المستقيمين
م و ى

(١٠٦)

يمكن ان يستنتج من هذه الدعاوى عكسها فيقال
(اولا) اذا كان معنا كما فى (الشكل ٩٤) اربعة مستقيمات و و م
و ك و ى ثلاثة منها متقابلة فى نقطة واحدة ا وكل منها يقطع
المستقيم الرابع ووصلت جميع نقط احد المستقيمات الثلاثة وهو ى بنقطتين
ع و ك كائنتين على المستقيم الرابع يقال ان المستقيمات المارة من النقطة
ع تقطع المستقيم م والمستقيمات المارة من النقطة ك تقطع المستقيم
ك والمستقيم المار من النقطتين ب١ و ج١ والمستقيم المار من النقطتين
ب٢ و ج٢ والمستقيم المار من النقطتين ب٣ و ج٣ تقطع المستقيم و فى نقطة
واحدة د او توازيه كما فى (الشكل ٩٥)
واذا اوصلنا نقط المستقيم ك بالنقطتين ك و د ينتج ايضا ان جميع

المستقيمات ب١ و ب٢ و ب٣ .... تتلاقى فى نقطة واحدة ع من المستقيم و واذا اوصلنا ايضا نقط المستقيم م بالنقطتين ع و د ينتج ان جميع المستقيمات ج١ و ج٢ و ج٣ .... تتقابل فى نقطة واحدة كَ من المستقيم و

(وثانيا) اذا كان معنا ثلاثة مستقيمات م و كَ و ى خارجة من نقطة واحدة ا ونقطة د خارجة عن هذه المستقيمات وامر من النقطة د خطان قاطعان حيث ما اتفق ت١ و ت٢ احدهما يقطع المستقيمين م و كَ فى النقطتين ب١ و ب٢ والآخر يقطعهما فى النقطتين ع١ و ع٢ ثم اخذنا ايضا نقطتين حيثما اتفق كالنقطتين م١ و م٢ على المستقيم الثالث ى ووصلناهما بنقط التقاطع المذكورة ينتج ان المستقيمين ب١ و ب٢ يتقاطعان فى نقطة ع وان المستقيمين ج١ و ج٢ يتقاطعان ايضا فى نقطة كَ وتكون النقط الثلاث د و ع و كَ كائنة على مستقيم واحد فلو فرض ان النقطة ع هى التى أمر منها التقاطعان ب١ و ب٢ لوجد النقطتان د و كَ مع النقطة ع على مستقيم واحد ولو فرض ان النقطة كَ هى التى أمر منها الخطان القاطعان ج١ و ج٢ لوجد النقطتان د و ع مع النقطة كَ على مستقيم واحد

(وثالثا) اذا كان معنا كما فى (الشكل ٩٥) ثلاثة مستقيمات م و كَ و ى تتقابل فى نقطة واحدة ا ومستقيمان متوازيان ت١ و ت٢ قاطعان للمستقيمين م و كَ بان يقطع اولهما المستقيمين المذكورين فى نقطتين ب١ و ب٢ والآخر منهما يقطعهما فى النقطتين ج١ و ج٢ ووصل بين هذه النقط ونقطتين اخريين مأخوذتين بالاختيار

على المستقيم ى تقاطع المستقيمان $ب_1$ و $ب_2$ فى نقطة ع والمستقيمان $ج_1$ و $ج_2$ فى نقطة ك وكان النقطتان ع و ك على مستقيم و موازللمستقيمين $ت_1$ و $ت_2$

(١٠٧)

اذا كان معنامستقيمان م و ك كما فى (الشكل ٩٦) مقطوعان بجملة قواطع متوازية $ت_1$ و $ت_2$ و $ت_3$ .... وامر من النقط $آ_1$ و $آ_2$ و $آ_3$ .... ومن النقط $ج_1$ و $ج_2$ و $ج_3$ .... الخ هى تقاطع تلك القواطع بالمستقيمين م و ك جعلتامستقيمات متوازية بان مر من النقط الاول $ب_1$ و $ب_2$ و $ب_3$ ..... ومن الثانية $ج_1$ و $ج_2$ و $ج_3$ ..... تقاطع المستقيمان $ب_1$ و $ج_1$ والمستقيمان $ب_2$ و $ج_2$ والمستقيمان $ب_3$ و $ج_3$ فى نقط $م_1$ و $م_2$ و $م_3$ ... كائنة على مستقيم واحدمع النقطة ا التى هى تقاطع المستقيمين م و ك وذلك انك لواعتبرت المستقيمين م و ك اثرين افقيين لمستويين والقواطع كالقاطع ت آثارا افقية لمستويات مساعدة متوازية وقاطعة للمستويين المعلومين فى مستقيمات مثل ب و ج لانتسبت هى والنقطة ا الى المسقط الافقى لتقاطع المستويين المعلومين وكانت حينئذ جميع تلك النقط على مستقيم واحد

(١٠٨)

وينتج مما ذكر دعوى نظرية عكس المتقدمة وهى ان تقول

اذا كان معنا ثلاثة مستقيمات م و ك و ى متقابلة فى نقطة واحدة ا وأمر من جميع النقط $م_1$ و $م_2$ و $م_3$ .... الكائنة على ى جعلنا مستقيمات متوازية $ب_1$ و $ب_2$ و $ب_3$ .....

ج ١ و ج ٢ و ج ٣ ... الجملة الاولى قطعت المستقيم م والثانية المستقيم ك فى نقط بحيث تكون المستقيمات الحادثة من ايصال كل نقطتين منها كالنقطتين ب ١ و ج ١ والنقطتين ب ٢ و ج ٢ والنقطتين ب ٣ و ج ٣ ..... متوازية

(١٠٩)

(المسئلة السابعة عشر) اذا كان معنا مستقيمان م و ك متقابلان فى نقطة خارج حدود الرسم ونقطة م والمطلوب امرار مستقيم من النقطة م مقابل للمستقيمين م و ك فى نقطة واحدة يقال لحل هذه المسئلة حالتان نشرع فيهما فنقول

(اولا) يرسم كما فى (الشكل ٩٧) مستقيم ت يقطع م و ك فى النقطتين ب ١ و ج ١ ثم توصل احدى النقطتين ب ١ و م بالاخرى واحدى النقطتين ج ١ و م كذلك فيتحصل مستقيمان يقطعان المستقيمين ك و م فى نقطتين ج ١ و ب ١ وبتوصيل احدى هاتين النقطتين بالاخرى يتحصل مستقيم ت ١ مقابل للمستقيم ت فى النقطة د ومن هذه النقطة د يرسم مستقيم ثالث ت ٢ قاطع م و ك فى نقطتين ب ٢ و ج ٢ وبتوصيل احدى النقطتين ب ١ و ج ٢ والنقطتين ب ٢ و ج ١ بالاخرى يتحصل مستقيمان يتقاطعان فى نقطة م ١ من المستقيم المطلوب وذلك لانه لو اعتبر الثلاثة مستقيمات م و ك و ت آثارا افقية لثلاثة مستويات مارة بنقطة واحدة فراغية مسقطها الافقى م كان ب و ج المسقطين الافقيين لتقاطعى المستوى ت بالمستويين م و ك ولو اعتبرنا الآن النقطة ج ١ مسقطا افقيا لنقطة من المستوى م وكذلك النقطة ب ١ مسقطا افقيا لنقطة من نقط المستوى

ك وكذلك المستقيم ت اثرا افقيا لمستو آخر مساعد لقطع هذا المستوى المستويين المذكورين م و ك فى مستقيمين مسقطاهما الافقيان ب و ج وبذلك تكون النقطة م مسقطا افقيا لنقطة اخرى من تقاطع المستويين م و ك

ويمكن من النقطة د امرار جملة قواطع اخر مهما اريد وبادامة هذه العملية نفسها تحصل جملة نقط م و م و م .... على مستقيم واحد فتنتج بالسهولة دعوى نظرية جديدة متعلقة بالقواطع لا فائدة فى ذكرها هنا

(وثانيا) ينزل من النقطة م كما فى (الشكل ٩٨) عمودان على المستقيمين م و ك يقطعانهما فى النقطتين ـ و ج ثم يوصل ما بين هاتين النقطتين ـ و ج ويمد الخط ـَ جَ موازيا للخط ـ ج ثم يمد كذلك من النقطتين ـَ و جَ المستقيمان مَ و كَ الموازيان للمستقيمين م و ك فيتقاطع هذان المستقيمان فى نقطة مَ من نقط المستقيم المطلوب لانه لو اعتبر المستقيمان م و ك اثرين افقيين لمستويين والنقطة م مسقطا افقيا لنقطة من نقط تقاطعهما واعتبر ايضا م ـ و م ج خطين ارضيين لآل الامر الى عملية المسئلة السادسة عشر من (بند ١٠١) فيكون الخطان مَ و كَ مسقطين لخطين افقيين من المستويين م و ك كائنين على ارتفاع واحد ومتقاطعين فى نقطة مَ من المسقط الافقى لتقاطع المستويين م و ك

(المسئلة الثامنة عشر) اذا كان المطلوب ايجاد تقاطع المستقيم و مع المستوى م يقال

(اولا) اذا امر من المستقيم و كما فى (الشكل ٩٩) مستو مساعد

س ويبحث عن تقاطعه ى مع المستوى م تكون النقطه سـ التى هى تقاطع المستقيمين ى و و هى النقطة المطلوبة

ولنميز من المستويات التى يمكن امرارها من المستقيم و سبعة يختار استعمالها دون غيرها الكيفية اوضاع الشكل وهى

(اولا) المستوى المسقط افقيا للمستقيم و

(وثانيا) المستوى المسقط رأسيا لذلك المستقيم

(وثالثا) المستوى الذى يكون فيه المستقيم و هو الخط الاعظم ميلا بالنسبة للمستوى الرأسى

(ورابعا) المستوى الذى يكون فيه و هو الخط الاعظم ميلا بالنسبة للمستوى الافقى

(وخامسا) المستوى المار من و الموازى لخط الارض

(وسادسا) المستوى الذى اثره الافقى موازٍ ق م

(وسابعا) المستوى الذى اثره الرأسى موازٍ ر م

وذلك لان تقاطعات هذه المستويات مع المستوى المعلوم م كلها تقطع المستقيم و المذكور فى نقطة واحدة سـ وهى النقطة المطلوبة ويختار من تلك المستويات المذكورة فى كل حالة مخصوصة المستوى الأليق وضعا من غيره بتلك الحالة ولا فائدة فى رسمها كلها فى الشكل لسهولة التمرن عليها

(وثانيا) اذا انتخب المستوى المساعد امكن ان يتقاطع المسقطان الافقيان ى و ن و والمسقطان الرأسيان ى و ن و فى زاويتين حادتين جدا ومنه يعلم حينئذ ان النقطتين سـ و سـ ن ليستا تامتى التعيين فتكون النقطة سـ كذلك لكن يمكن كما هو الاولى دائما اختيار المستوى المساعد س بحيث يتقاطع ى و ن و مثلا فى زاوية قائمة او قريبة منها ولاجل ذلك يرسم فى المستوى م مستقيم ا ن بحيث يكون ا ن عمودا تقريبا على المستقيم و وهذا ممكن دائما حيث يمكن رسم ا ن ثم يمر من نقطة م من المستقيم و مستقيم ا ن موازٍ للمستقيم ا

ويمر مستو س من المستقيمين ه و أ ويبحث عن التقاطع ى للمستويين م و س فتكون النقطة سه التى هى تقاطع المستقيمين ى و و هى النقطة المطلوبة ولننبه على ان المستقيمين ى و أ لابدوان يكونا متوازيين وبهذا تتحقق صحة العمليات

(وثالثا) يمكن حل المسئلة ايضا بتغيير المستوى او بحركة دوران لجعل المستوى م عمودا على احد مستويى المسقط انظر (بندى ٥٥ و ٦٧) لان تقاطعه حينئذ مع و ينسقط على هذا المستوى فى تقاطع اثر المستوى مع مسقط المستقيم كما فى (ثانيا من بند ٥٦) ولنأخذ حينئذ مستويا جديدا رأسيا للمسقط عمودا على المستوى م كما فى (الشكل ١٠٠) فيكون خط الارض خَ ضَ عمودا على قَم ويشاهد ان المستقيمين رَم و و يتقاطعان فى سه التى منها يستنتج سه ثم سه اللذان هما مسقطا النقطة المطلوبة وكان يمكن اخذ مستو جديد افقى خَ ضَ عمودا على المستوى م فيكون المسقط سه حينئذ هو تقاطع و و قَم

(تنبيه) اذا اخذ خط الارض خَ ضَ فى اعلى فرخ الرسم توجد النقطة سه فى اعلاه وبالعكس اى انه لو اخذ خط الارض خَ ضَ فى اسفل فرخ الرسم لكانت النقطة سه اسفله فعلى هذا لو اخذ خط الارض الجديد فى اسفل فرخ الرسم ما امكن لتحصلت نقط تقاطع بعيدة جدا عن المستوى الافقى ولم توجد طريقة غير هذه

ولو اريد تغيير المستوى الافقى لكان يلزم حينئذ اختيار خط الارض الجديد عمودا على رَم وكونه فى اعلى فرخ الرسم ما امكن وكان يصح ايضا جعل المستوى م عمودا على المستوى الرأسى او على المستوى الافقى بندويره حول محور عمود على المستوى الرأسى او الافقى بتحريك المستقيم فى كلتا الحالتين مع حركة المستوى المذكور

(١١١)

(المسئلة التاسعة عشر) اذا كان المطلوب ايجاد تقاطع مستقيم مع مستو معلوم بمستقيم ونقطة يقال

(اولا) اذا فرض ان المستوى (م ع) معلوما بالمستقيم م والنقطة ع وان و المستقيم المعلوم كما فى (الشكل ١٠١) لزم كما فى (اولا من بند ١١٠) امرار مستو مساعد من المستقيم و والبحث عن تقاطعه مع المستوى م واختيار هذا المستوى مارا بالمستقيم و والنقطة ع فحينئذ تعلم النقطة ع من التقاطع ى ولايجاد نقطة اخرى منه يمد من النقطة ع مستقيمان مَ و وَ موازيان للمستقيمين م و وكل لنظيره فيكون المستويان حينئذ معلومين بخطوط متوازية ولو امر مستو افقى مساعد آخر س لقطع المستقيمات الاربعة فى النقط بِ و بَ و دِ و دَ التى تعين التقاطعين أ و ب للمستوى س مع المستويين (م مَ) و (و وَ) ثم يقابل التقاطعان أ و ب فى نقطة م من التقاطع ى الذى يتعين تعينا تاما ثم يقابل هذا المستقيم الاخير المستقيم و فى نقطة مه وهى النقطة المطلوبة

(وثانيا) يمكن اخذ المستوى س موازيا للمستوى الرأسى او عمودا على احد مستويى المسقط وتحل هذه المسئلة بسهولة بان يؤخذ بدل المستوى المار بالمستقيم و المستوى المسقط له رأسيا كما يظهر ذلك فى حل المسئلة الاتية انظر (ثانيا من بند ١١٣)

(وثالثا) اذا كان احد المستقيمات المعلومة مثل م موازيا للمستوى الافقى يكون مَ موازيا لخط الارض خ ض فيكون موازيا بالضرورة الى ر س وحينئذ لا تكون النقطة بِ معلومة لكن لا يخفى ان المستوى الافقى س فى هذه الحالة يقطع المستوى (م ع) فى خط افقى او موازل المستقيم م يصير معينا لانه يمكن ايضا ايجاد النقطة بِ باخذ المستقيم مَ غير موازل للمستقيم م

بل مارا بالنقطة ع ونقطة اختيارية من م

(ورابعا) اذا اعتبر المستقيم م اثرا افقيا قَم للمستوى استعمل بدل المستقيم مَ مستقيم رأسى اوافقى من هذا المستوى فيختار المستوى س موازيا للمستوى الرأسى فاذا كان المستقيم م هو الخط الاعظم ميلا للمستوى كفى فى تعيينه انظر (بند ٣٨) ولا يلزم فى هذه الحالة استعمال النقطة ع ويختار بدل المستوى المار من المستقيم و المستوى الذى يكون فيه هذا المستقيم اعظم ميلا وهذا يرجع الى المسئلة المتقدم حلها فى (بند ١٠٠)

(١١٢)

ويمكن ايضا ايجاد تقاطع مستقيم مع مستو معلوم فى حالات مخصوصة كما اذا كان الاثران متحدين فى مستقيم واحد وكغير ذلك وهذه الاحوال يمكن حلها بنفس الطرق المذكورة

(١١٣)

(المسئلة العشرون) اذا كان المطلوب امرار مستقيم قاطع لمستقيمين معلومين من نقطة معلومة يقال

(اولا) يمكن من النقطة المعلومة ومن كل من المستقيمين المعلومين امرار مستو فيكون تقاطع هذين المستويين بالضرورة هو المستقيم المطلوب وبهذه الكيفية يؤول الامر الى حل المسئلة المتقدمة فى (بند ١١١) الذى يلزم فيه ان تكون ع مبينة للنقطة المعلومة فى (الشكل ١٠١) وان يكون م و و المستقيمين المعلومين و ى المستقيم المطلوب ولاجل صحة العملية يلزم ان يقطع مسقطا هذا المستقيم مسقطا المستقيمين م و و فى النقط صَ و صَ و سَ و سَ الكائن كل اثنين منها على عمود واحد على خط الارض انظر (بند ٨)

(وثانيا) يمكن كما فى (الشكل ١٠٢) حل المسئلة بامرار مستو من النقطة المفروضة م ومن احد المستقيمين ا ثم يبحث عن تقاطع هذا المستوى

مع المستقيم الآخر ب ويحصل تقاطعه مع المستوى (ا م) بامرار مستقيمين ط و ح من النقطة م ومن آخرين حيثما اتفق ـ و ا من المستقيم ا فيكونان فى المستوى المذكور يقابلان المستوى الرأسى القائم من ب فى نقطتين ط و ع من التقاطع ر لهذين المستويين الذى يقابل المستقيم ب فى نقطة سـ من المستقيم و المطلوب لان هذا المستقيم لما كان له نقطتان سـ و م فى المستوى (ا م) كان محصورا فيه فيقابل بالضرورة المستقيم ا فى نقطة صـ

(١١٤)

(تنبيه) كان يسهل ايجاد حلول أخر لبعض المسائل المتقدمة وتنويع معالجم بعضها وفرض مسائل اخر لكن فيما ذكرناه من طرق الحل كفاية وسيأتى بعض هذه المسائل فى اثناء الكتاب

(فى زوايا المستقيمات والمستويات)

(١١٥)

(المسئلة الحادية والعشرون) اذا كان المطلوب ايجاد الزاوية الحادثة بين مستقيمين يقال

الزاوية الحادثة من مستقيمين هى الكمية التى بين انفراج هذين المستقيمين فى حالة امتدادهما فينتج

(اولا) انه يمكن حدوث زاوية من مستقيمين بدون ان يتقاطعا

(وثانيا) ان المستقيمين المتوازيين تكون بينهما زاوية تساوى صفرا

(وثالثا) ان الزاية الحادثة من مستقيمين لامتقاطعين ولامتوازيين تساوى الزاوية الحادثة من مستقيمين موازيين لهذين المستقيمين المذكورين الممتدين من نقطة واحدة وحينئذ فلا يبحث دائما الا عن الزاوية الحادثة من مستقيمين متقاطعين

فان لم يكونا كذلك تختار نقطة حيثما اتفق ويمد منها مستقيمان آخران موازيان للمستقيمين المذكورين انظر (بند ٢٤) ثم يبحث عن الزاوية الحادثة من هذين الاخرين فيقال اذا كان هذان المستقيمان ا و ب كما فى (الشكل ١٠٣) متقاطعين فى نقطة م عينا مستويا ك اثره الافقى قَ ثم يطبق هذا المستوى ك على المستوى الافقى كما فى (بند ٧٦) بان يختار اختصارا المستوى الجديد الرأسى مارا بالنقطة م فينطبق المستقيمان ا و ب على اَ و بَ وتكون ام َ هى الزاوية المطلوبة

وكان يمكن البحث عن الضلعين اَ و بَ بان يطبق المستويان المسقطان افقيا للمستقيمين ا و ب على المستوى الافقى ثم يرسم المثلث ا م َ المعلوم منه اضلاعه الثلاثة ويلزم من ذلك ان تكون النقطتان مَ و م على مستقيم عمود على الاثر قَ وكان يمكن ايضا جعل المستوى ك افقيا او رأسيا بواسطة احدى الطرق الاربع المقررة فى (بند ٧٦) ويسهل تركيب اشكال هذه العمليات بمقتضى ما تقدم

ولينتبه الى ان المستقيم ومَ = وم وتر مثلث قائم الزاوية فيه وم ضلع الزاوية القائمة فيكون ومَ > وم وحينئذ تكون الزاوية ام َ التى هى زاوية المستقيمين اصغر من الزاوية ام َ التى هى زاوية مسقطيهما

(١١٦)

(المسئلة الثانية والعشرون) اذا كان المطلوب ايجاد القاسم للزاوية الحادثة من مستقيمين الى قسمين متساويين يقال

يمكن حل هذه المسئلة بالبحث اولا عن الزاوية الحادثة من هذين المستقيمين انظر (بند ١١٥) ثم قسمة زاوية المستقيمين اَ و بَ الى قسمين متساويين كما فى (الشكل ١٠٣) وحينئذ يقابل القاسم الاثر قَ فى نقطة هى بالضرورة الاثر الافقى للقاسم المطلوب وحيث ان هذا القاسم لابد وان يمر

بالنقطة م يتعين تعينا تاما وقد يمكن ايجاد هذا القاسم ايضا بدون البحث عن ايجاد الزاوية وذلك ان يعتبر انه لو اخذ بعدان متساويان على المستقيمين ا و ب كما فى (الشكل ١٠٤) بالابتداء من النقطة م لحدث مثلث متساوى الساقين فيكون المستقيم الواصل من النقطة م الى وسط قاعدة المثلث هو القاسم المطلوب

فلاجل حل المسئلة بهذه الكيفية يدور المستقيمان المعلومان ا و ب كل واحد على حدته حول محور رأسى مار بنقطة تقاطعهما م الى ان يصلا الى الوضعين أَ و بَ اللذين يصيران فيهما موازيين للمستوى الرأسى للمسقط انظر (بند ٦١) ثم يرسم من المركز م بنصف قطر حيثما اتفق قوس دائرة يقطع أَ و بَ فى هَ و دَ وبرجوع النقطتين هَ و دَ فى النقطتين ه و د على المستقيمين ا و ب بحركات دوران عكس الاولى حول نفس المحور المذكور يكون المستقيم ه المار من النقطة ه الى النقطة د ضرورة قاعدة للمثلث المتساوى الساقين فينسقط وسطه ﻫ فى الوسطين ﻫَ و ﻫُ للمسقطين هَ و هُ فيكون المستقيم و الواصل بين النقطتين م و ﻫ هو القاسم المطلوب

ومن المهم ان يلتفت الى ان حركتى المستقيمين المعلومين ا و ب لاتعلق لاحديهما بالاخرى والا فلا يكون هذان المستقيمان موازيين للمستوى الرأسى وانما احتيج لجعلهما فى هذا الوضع لامكان ان يؤخذ على احدهما طول م ه مساو للطول م د المأخوذ على الآخر

فاذا خرج النقطتان أَ و بَ معا او احداهما عن حدود الرسم اخذ مستو افقى مساعد يقطع المستقيمين ا و ب فى نقطتين ع و كَ بشرط ان يكون النقطتان عَ و كَ فى حدود الرسم فانهما فى هذا الوضع يستعملان ايضا لايجاد أَ و بَ ثم يكمل باقى العملية

تنبيه هذه العمليات تؤدى الى عدة تحقيقات

(١١٧)

(المسئلة الثالثة والعشرون) اذا كان المطلوب ايجاد الزاويتين الحادثتين من مستقيم مع مستوى المسقط يقال

الزاوية الحادثة من مستقيم مع مستو كما فى (الشكل ١٠٥) هى الزاوية الحادثة من المستقيم المذكور مع مسقطه على المستوى فعلى هذا تكون الزاويتان المطلوبتان هما الزاويتان الحادثتان من المستقيم المفروض و مع مسقطيه و ق و و فيلزم حينئذ جعل المستويين المسقطين للمستقيم و منطبقين على احد مستوى المسقط او موازيين له ولاجل ذلك يمكن جعل هذين المستويين من اول وهلة مستويين جديدين للمسقط فتوجد الزاوية ب ا ق = ا الحادثة من المستقيم و مع المستوى الافقى والزاوية ا ب ا = ب الحادثة عنه مع المستوى الرأسى ويمكن ايضا تدوير هذين ١ ٢

المستويين حول اثريهما ب ق أو ا ا الى ان ينطبقا فتوجد ايضا الزاويتان ب أ ق = ا و ا ا = ب فاذا لم يكن اثرا المستقيم و فى حدود الرسم اخذ نقطتان حيثما اتفق كنقطتى م و ء كما فى (الشكل ١٠٦) فيوجد بتغيير المستويين الزاويتان م ء ط = ا و ل م ء = ب ١١

ويصح ايضا ان ينزل من النقطتين م و ء عمودان احدهما على المستوى الافقى والآخر على المستوى الرأسى ويدور حولهما المستويان (و ق) و (و و) الى ان يصيرا موازيين للمستوى الرأسى او للمستوى الافقى فتحدث الزاويتان م ء ط = ا و ء م ل = ب

(١١٨)

اذا حدث من مستقيم مع مستويى المسقط زاويتان متساويتان حدث ايضا من مسقطيه مع خط الارض زاويتان متساويتان وكان اثراه على بعد واحد من خط الارض خ ض وبيان ذلك اولا ان المثلثين ا ب$_{١}$ ب^{ق} و ب$_{٢}$ ا ا^{ر} كما فى (الشكل ١٠٥) متساويان لان وتر احدهما مساو لوتر الآخر وفيهما زاويتين حادتين متساويتين فحينئذ ا ب^{ق} = ب ا^{ر} و ب$_{١}$ ب^{ق} = ب ب^{ق} = ا$_{١}$ ا^{ر} = ا ا^{ر} فيكون بالضرورة المثلثان ا ا^{ر} ب^{ق} و ب ب^{ق} ا^{ر} متساويين فينتج ان الزاوية ا ب^{ق} ا^{ر} = ب ا^{ر} ب^{ق}

واذا قابل المستقيم خط الارض فالبرهان بعينه ولو كان مسقطاه فى جهة واحدة من خ ض لانطبقا انظر (ثامنا من بند ١٧)

(وثانيا) ان يقال ان هذه الحالة المخصوصة واضحة لان اى نقطة من المستقيم و تكون على بعد واحد من مستويى المسقط فينتج من ذلك تساوى المثلثين المناظرين للمثلثين المتقدمين فحينئذ يمكن دائما الرجوع الى هذه الحالة بان يؤخذ مثلا مستو جديد رأسى موازيا للمستوى القديم ومارا بالاثر الافقى ا للمستقيم فيقابل هذا المستقيم خط الارض وحينئذ يحدث عنه مع مستويى المسقط زاويتان متساويتان فحينئذ و^{ق} و و^{ر} يصنعان مع خط الارض خ ض زاوية واحدة وحيث كان و^{ر} موازيا و^{ر} و خ ض موازيا خ ض يحدث من و^{ق} و و^{ر} مع خط الارض خ ض زاوية واحدة

(تنبيه) و^{ق} و و^{ر} يكونان متوازيين اذا لم ينفذ المستقيم و فى الزاوية خ ع فاذا نفذ و فيها كانا غير متوازيين بالنسبة لخط الارض خ ض

(١١٩)

(المسئلة الرابعة والعشرون) اذا كان المطلوب ايجاد الزاوية الحادثة من مستقيم مع مستو يقال

(اولا) حيث كانت هذه الزاوية هى الحادثة عن المستقيم المعلوم مع مسقطه على المستوى المعلوم ينبغى حل المسئلة التى حلت بالنسبة للنقطة فى (بند ٤٨) بالنسبة للمستقيم المعلوم وبهذا يتوصل الى البحث عن الزاوية الحادثة من مستقيمين انظر (بند ١١٥) وايتنبه الى ان هذه الطريقة ترجع الى جعل المستوى م افقيا اورأسيا ويكون ذلك بالطرق الاربع المقررة فى (بند ٧٦) مع فرض المستقيم و مرتبطا بالمستوى المذكور بحيث يمكن ايجاد مسقطيه على كل مستو جديد منتخب للمسقط وفرضه ايضا تابعا للمستوى المذكور فى حركات دورانه اذا حرك وراسما مع هذا المستوى دائما زاوية واحدة فحينئذ يؤول الامر الى البحث عن الزاوية الحادثة من مستقيم مع احد مستويى المسقط انظر (بند ١١٧) وقد يسهل تتبع جميع الاعمال على (الشكل ١٠٧)

(وثانيا) انه يمكن حل هذه المسئلة ايضا بطريقة اخرى وذلك ان تؤخذ نقطة تما م على المستقيم و ومنها ينزل عمود ن على المستوى م كما فى (بند ٨٢) فتكون زاوية المستقيمين و و ن هى تمام الزاوية الحادثة من المستقيم و مع المستوى م فيؤول الامر الى البحث عن الزاوية الحادثة من هذين المستقيمين كما فى (بند ١١٥) وبعد ايجادها يؤخذ تمامها وهى الزاوية المطلوبة

(١٢٠)

(المسئلة الخامسة والعشرون) اذا كان المطلوب ايجاد زاويتين حادثتين من مستو مع مستويى المسقط يقال

الزاوية الحادثة من مستويين كما فى (الشكل ١٠٨) مقاسة بالزاوية الواقعة بين عمودين قائمين على خط تقاطع المستويين من نقطة واحدة منه

وكل منهما على مستو فينتج انه اذا كان المستوى المعلوم عمودا على المستوى الرأسى تكون الزاوية الحادثة منه مع المستوى الافقى مقيسة بزاوية اثره الرأسى مع خط الارض وكذلك اذا كان المستوى المعلوم عمودا على المستوى الافقى تكون الزاوية الحادثة منه مع المستوى الرأسى مقيسة بالضرورة بزاوية اثره الافقى مع خط الارض فحينئذ يكون حل المسئلة مبنيا على جعل المستوى المعلوم عمودا على المستوى الافقى ثم الرأسى للمسقط اما بتغيير المستوى كما فى (بند ٥٢) واما بحركة دوران كما فى (بند ٦٤) وبهاتين الطريقتين تعلم الزاوية ا الحادثة من المستوى م مع المستوى الافقى والزاوية = الحادثة منه مع المستوى الرأسى ولا فائدة فى اطالة الكلام على العمليات لسهولة تتبعها على الشكل

(١٢١)

اذا انزلنا من أ أو أَ الرأسى نَ على رَمَ و نَّ على قَّمَّ فبفرض رجوع المستوى الرأسى للمسقط الى وضعه العمودى على مستوى المسقط الافقى يكون نَ عمودا على المحور أَ فيكون عمودا على موازيه المار من النقطة رَ اوعلى قَّمَ فحينئذ يكون نَ عمودا على المستوى مَ ويكون نَّ ايضا عمودا على المحور أ فيكون عمودا على موازيه المار من النقطة مَرَ اوعلى رَمَّ فيكون عمودا على المستوى مَّ فاذا ارجعنا المستويين مَ و مَّ الى وضعهما الانتهائى م انطبق العمودان نَ و نَّ وصارا مستقيما واحدا عمودا على المستوى م فيكون نَ = نَّ ومن ذلك ينتج ان رَمَ و قَّمَّ يكونان مماسين للدائرة المرسومة من المركز أ أو أَ بنصف قطر يساوى نَ أو نَّ

(١٢٢)

اذا كان المستوى المعلوم يصنع زوايا متساوية مع مستويى المسقط يكون اثراه

متساوي الميل على خط الارض وبيان ذلك

(اولا) ان تختار نقطة ما و على خط الارض خ ض كما في (الشكل ١٠٩) وينزل منها عمود ن على المستوى المعلوم م فيقابل هذا العمود المستوى المذكور في نقطة ـ فاذا انزل من هذه النقطة عمودان ـ ے و ـ ے على اثرى المستوى م حدث في الفراغ مثلثان و ـ ے و و ـ ے متساويان لان فيهما ضلعا مشتركا وزاويتين متساويتين فيكون و ے = و ے والزاوية ـ و ے = ـ و ے ومنه يحدث زاوية ع و ے = ع و ے انظر (بند ١١٨) فحينئذ يكون المثلثان ع و ے و ع و ے متساويين فينتج بالضرورة ان الزاوية و ع ے = و ع ے وبحسب وقوع العمودين و ے و و ے على ق م و ر م في جهتين مختلفتين من خط الارض خ ض او في جهة واحدة منه يصنع الاثران زاويتين متساويتين مع جزء واحد من خط الارض او مع جزئين مختلفين منه وقد ينطبقان في الحالة الاخيرة واذا كان المستوى المعلوم موازيا لخط الارض يكون اثراه موازيين ايضا خ ض وعلى بعد واحد منه بحيث انهما لو وجدا في جهة واحدة منه لانطبقا على بعضهما

(ثانيا) ان يقال من الواضح في صورة ما اذا كان المستوى موازيا لخط الارض كما في (الشكل ١١٠) ان اثراه لابد وان يوجدا على بعد واحد من خ ض لانه اذا امتد في المستوى م عمود ا ع على خ ض لصار عمودا كذلك على كل من الاثرين ق م و ر م فيكون حينئذ المثلث الحادث ا و ع متساوى الساقين ومنه ينتج ا و = و ع اذا تقرر هذا يدور المستوى م حول ا ع الى ان يقطع خط الارض في نقطة منه ع فيكون المثلثان ا و ع و ع و ع متساويين لان فيهما زاويتين متساويتين محصورتين بين اضلاع متناظرة متساوية فتكون الزاوية ا ع و = ع ع و ويحدث ايضا من المستوى م مع مستوى المسقط زاويتان متساويتان

(المسئلة السادسة والعشرون) اذا كان المطلوب امرار مستو صانع زاوية معلومة ا مع المستوى الافقى من مستقيم معلوم يقال

اذا كان المستقيم المعلوم و كما فى (الشكل ١١١) يلزم ان يكون اثرا المستوى م المطلوب مارين بالاثرين ا و ـ الافق والرأسى للمستقيم و كل بنظيره اذا تقرر هذا يمد من النقطة ـ محور رأسى ا ويفرض ان المستوى م دار حول هذا المحور الى ان صار عمودا على المستوى الرأسى فلا يزال اثره الرأسى رَ مارا بالنقطة ـ حتى يصنع مع خ ض الزاوية ا وبرجوع المستوى المذكور الى وضعه المشغول به فى الفراغ ترسم النقطة عَ التى هى تقاطع اثرى المستوى م على المستوى الافقى دائرة ج لا يزال الاثر قَ مماسا لها فحينئذ اذا مد من النقطة ا مماس للدائرة ج كان هذا المماس هو الاثر قَ للمستوى ثم لا بد وان يمر رَ بالنقطة ـ ويقابل خط الارض خ ض فى عين النقطة التى قابله فيها الاثر قَ

فاذا كان الاثر قَ لا يقابل خط الارض خ ض فى حدود الرسم امكن ايجاد نقطة اخرى من رَ بان تؤخذ نقطة ما على المستقيم و يمد منها افق للمستوى م

(تنبيه) لا يمكن حل هذه المسئلة بتغيير مستو وهذا يثبت ما قررناه فى آخر (بند ٦٩) ومع ذلك فلو كان للمستقيم المعلوم اثرا افقيا للمستوى المطلوب لأمكن استعمال احدى الطريقتين بدون اختيار احداهما عن الاخرى لانه اولا لو اخذ محور ا اياما كان لرجعت النقطة ع فى عَ ولزم رسم الاثر رَ صانعا مع خ ض الزاوية ا ومنه تعلم نقطة ـ من الاثر رَ وثانيا لو اخذ مستو رأسى عمودا على قَ لصنع الاثر الرأسى رَ مع خط الارض خ ض الزاوية ا ثم بتغيير المستوى الرأسى وجعل

خ ض خطا ارضيا ينتج ر م

(١٢٤)

اذا فرض ان المستقيم و لا يقابل مستويي المسقط في حدود الرسم كما في (الشكل ١١٢) امكن ان يتصور في المستوى المطلوب م خط اعظم ميلا ط مار بنقطة ما م من المستقيم و فاذا دُوّر حول محور رأسي ا مار بالنقطة م حتى وازى المستوى الرأسي صنع مسقطه الرأسي طَ مع خط الارض خ ض الزاوية ا ووجد اثره الافقي في اَ وبرجوعه الى وضعه الاول يرسم هذا الاثر الدائرة ج وترسم نقطة اخرى ن مأخوذة حيثما اتفق على طَ دائرة جَ كائنة في مستو افقي س قاطع للمستقيم و في نقطة ب منها يمر افقي ب من المستوى المطلوب م مماس للدائرة جَ المذكورة لان هذا الافقي لابد وان يمر بالنقطة ن التي هي نهاية نصف قطر الدائرة جَ وان يكون عمودا على الخط الاعظم ميلا ط انظر (بند ٣٧) فحينئذ يكون ق م مماسا للدائره ج وموازيا ب ق وقد يتحصل لنا نقطتان س و ص من الاثر الرأسي ر م بواسطة افقيين م و ر للمستوى م مارين بنقطتين حيثما اتفق م و ر من المستقيم و

(١٢٥)

(المسئلة السابعة والعشرون) اذا كان المطلوب ايجاد مستو مار من نقطة معلومة وصانع مع المستوى الافقي زاوية ا ومع المستوى الرأسي زاوية ب يقال

يؤخذ كما في (الشكل ١٠٨) محور ما ا على المستوى الرأسي ويُدوّر المستوى المطلوب م حول هذا المحور حتى يصير عمودا على المستوى الرأسي فيصنع اثره الرأسي ر م مع خط الارض الزاوية ا ثم يمد هذا الاثر من نقطة ما من خ ض فيتحصل منه نقطة ب من الاثر ر م واذا فرض

محور آخر ا َ فى المستوى الافقى ودُور المستوى م حول المحور المذكور ا َ حتى صار رأسيا فلابد وان يحدث من الاثر قَ م مع خ ض الزاوية ـ ومع ذلك فلو انزل من النقطة ا أو ا َ عمودان على الاثرين رَ م و قَ م لكانا متساويين انظر (بند ١٢١) فحينئذ يكون الاثر قَ م مماسا للدائره المرسومة من المركز ا بنصف القطر نَ ثم يقابل الاثر قَ م المحور ا َ فى النقطة ا من الاثر الافقى قَ م فلو ارجع الآن المستوى مَ الى وضعه الاصلى لرسمت النقطة عَ التى هى تقاطع اثريه دائرة حول المركز ا وحينئذ يمد من النقطة ا مماس لهذه الدائرة يكون هو الاثر المطلوب قَ م ومنه يتحصل رَ م الذى لابد وان يمر بالنقطة ـ ولو ارجع ايضا المستوى مَ الى الوضع م لرسمت النقطة كَ التى هى تقاطع اثريه قوس دائرة يجب ان يكون الاثر رَ م مماسا له وبهذه الكيفية يتحصل معنا مستو يصنع مع مستوى المقسط الافقى والرأسى الزاويتين ا و ـ فلم يبق علينا فى حل هذه المسئلة التى نحن بصددها الا امرار مستو موازٍ للمستوى م من النقطة المعلومة انظر (بند ٣٨)

(١٢٦)

(المسئلة الثامنة والعشرون) اذا كان المطلوب ايجاد الاثرين الرأسيين لمستو بين معلوم اثراهما الافقيان والزاويتان الحادثتان منهما مع المستوى الافقى يقال

ليكن قَ م و قَ ك الاثرين الافقيين المعلومين كما فى (الشكل ٩٣) فاذا اخذ مستو رأسى عمودا على المستوى م لزم ان يصنع الاثر الرأسى رَ م مع خط الارض خ ضَ الزاوية ا واذا اخذ ايضا مستو آخر رأسى عمودا على المستوى كَ حدث من الاثر الرأسى رَ ك مع خ ضَ الزاوية ـ فلم يبق علينا

الانسبة المستويين المعلومين م و ك الى مستو واحد رأسى قاطع للافقى
فى خ ض وحيث كان الاثران الافقيان قم و ق ك لايتغيران يمكن ايجاد
الاثرين الرأسيين رم و ر ك بواسطة استعمال افقى مأخوذ على كل من
المستويين المذكورين انظر (بند ٤٧)

(١٢٧)

(المسئلة التاسعة والعشرون) اذا كان المطلوب ايجاد الزاوية الواقعة بين
مستويين يقال
يمكن حل هذه المسئلة بطرق مختلفة نبين بعضها فنقول
(اولا) قد علمت كيفية ايجاد الزاوية الحادثة من مستو مع مستوى المسقط من
(بند ١٢٠) فعلى هذا يمكن ان يؤول الامر الى هذه المسئلة بجعل احد المستويين
المعلومين مستويا جديدا للمسقط او بتطبيقه على احد المستويين الاصليين
وتحصيل ذلك يكون باستعمال احدى الطرق الاربع المعلومة فى (بند ٧٦)
ولم اين هذا الحل هنا لاجل التمرن عليه مع كونه قد تقدم فى هذا الكتاب عدة
عمليات مثل هذه
(وثانيا) اذا كان المستويان المعلومان عمودين على احد مستوى المسقط
فلا بد وان يحدث من اثريهما على المستوى المذكور زاوية مساوية للزاوية
الحادثة من المستويين فحينئذ يكون تقاطع المستويين فى هذه الصورة عمودا
على مستوى المسقط ويكفى لجعل الشكل فى هذا الوضع المخصوص جعل تقاطع
المستويين عمودا على احد مستوى المسقط ويلزم لذلك تغييرا مستويين كما فى
(بند ٥١) اوحركا دوران كما فى (بند ٦٣) اوتغيير مستو ثم حركة دوران
اوحركة دوران ثم تغيير مستو وفى كل حالة يلزم اولا معرفة تقاطع المستويين
وقد عرفت كيفية ايجاده فيما تقدم اذا تقرر هذا يقال اذا اريد اولا استعمال تغيير
مستويين كما فى (الشكل ١١٣) فليكن م و ك المستويين
المعلومين باثارهما الافقيين والرأسيين قم و ر ك و ق ك و ر ك

و ى تقاطعهما المعلوم بمسقطيه ق ى و ى ولجعل هذا التقاطع عمودا على المستوى الافقى يؤخذ اولا بدل المستوى الرأسى للمسقط الموازى للتقاطع ى المستوى المسقط افقيا لهذا المستقيم بحيث يكون خط الارض خ ض عين المسقط ى للتقاطع ولو بحث عن مسقط التقاطع ى على هذا المستوى الجديد لكان المسقط هو التقاطع بعينه ودل ايضا على ر م و ر ك ثم يؤخذ مستو افقى عمودا على المستقيم ى فيصير بالضرورة خ ض عمودا على ى ويكون مسقط المستقيم ى على هذا المستوى الجديد نقطة ق ى من خط الارض الجديد مشتركة بين الاثرين الجديدين ق م و ق ك ويلزم ايجاد نقطة اخرى من كل من هذين الاثرين فيستعمل لذلك رأسى م من المستوى م اثره الافقى م على المستوى القديم خ ض على بعد م م من خط الارض هذا وحينئذ يكون اثره على المستوى الجديد الافقى خ ض على بعد واحد بالضرورة من هذا الخط الارضى ايضا فيكون ذلك الاثر فى النقطة م المنتسبة الى ق م انظر (بند ٢٨) ولو استعمل ايضا رأسى ط من المستوى ك لتحصل منه نقطة ط من الاثر ق ك ثم ان الزاوية ا الحادثة من الاثرين الافقيين ق ك و ق م هى الزاوية المطلوبة الحادثة من المستويين م و ك

(ثالثا) يمكن ابدال احد تغييرى المستويين بحركة دوران فيبدل التغيير الثانى كما فى (الشكل ١١٤) ويلزم فى هذه الحالة بعد ايجاد المستقيم ى الذى ينطبق على الاثرين ر م و ر ك تدوير جملة الشكل حول محور ا عمود على المستوى الرأسى الى ان يصير ى رأسيا فلو فرض رأسى م من المستوى م ورأسى ط من المستوى ك لبقيا دائما فى مدة الدوران على بعد واحد من المستوى الرأسى وبقى ايضا مسقطاهما الرأسيان على بعد واحد من المستقيم ى انظر (ثالثا من بند ٥٦) وليؤخذ فى هذا الشكل

المحور ا مارا بالاثر م للرأسى م فتنتسب حينئذ هذه النقطة دائما
الى الاثر الافقى للمستوى م وبانزال اصه عمودا على ى تشغل
النقطة صه الوضع صهَ وتكون ايضا المسقط ىَ وبالوصل بين ىَ و م
يتحصل الاثر قَ م ويصير ايضا الرأسى ط فى طَ فيعين النقطة طَ آو سهَ
من الاثر قَ كَ الذى لابد وان يمر ايضا بالنقطة ىَ أو صهَ
فحينئذ تكون الزاوية الحادثة من المستقيمين قَ م و قَ كَ مساوية للزاوية المطلوبة
الحادثة من المستويين م و كَ
(ورابعا) يمكن عكس ما تقدم اى ابدال التغيير الاول للمستوى بحركة
دوران ولسهولة تركيب الشكل على مقتضى هذه الحالة لم يرسم هنا
(وخامسا) يمكن حل المسئلة بحركتى دوران كما فى (الشكل ١١٥)
فبواسطة حركة دوران اولى حول محور رأسى ا يختار مارا بالاثر الرأسى
ـ للتقاطع ى للمستويين م و كَ يجعل هذا التقاطع موازيا
للمستوى الرأسى فينتقل ىَ فى ىَ على خ ض راسما زاوية
اَ اَ اَ = فـ فحينئذ يجب ان ترسم جميع نقط المستويين م و كَ
زوايا مساوية للزاوية فـ المذكورة وان يتحد الاثران رَ م و رَ كَ مع ىَ
المعين بالنقطتين اَ و ـ وان يمر الاثران قَ م و قَ كَ بالنقطة اَ ويمكن
لاجل ايجاد نقطة اخرى انزال العمودين اَعَ و اَكَ على الاثرين
قَ م و قَ كَ ثم يبحث عن الوضعين الجديدين للنقطتين ع و كَ فتوجد
النقطة كَ بأخذ قوس كَ كَ مساو لقوس من محيطه وو محصورا
فى الزاوية فـ فيتحصل الاثر قَ كَ واما النقطة ع فحيث كانت فى هذا
الشكل قريبة جدا من النقطة ا يكون نصفا القطرين اَاَ و اَعَ

متساويين تقريبا فيعسر حينئذ تعيين الوضع الجديد للنقطة ع ولكن بجعل ا
مركزا واخذ نصف قطر حيثما اتفق اكبر من ا ع يرسم قوس دائرة ج
يقطع ق م فى النقطة ج و ى ق فى النقطة ج فيتعين وضع النقطة ج
بعد الدوران باخذ ج ع = ج ع ويلزم ان يمر الاثر ق م بالنقطتين
ا و ع
ثم ندور الآن جملة الشكل حول محور ب عمود على المستوى الرأسى حتى
يصير التقاطع ى رأسيا وقد يختصر تركيب الشكل بمد هذا المحور من النقطة
ا فيصير المستقيم ى فى الوضع ى راسما زاوية ب يجب ان ترسمها
جميع اجزاء المستويين م و ك ويتحد الاثران الرأسيان ر م و ر ك مع
ى ولايجاد الاثرين الافقيين ق م و ق ك يستعمل رأسى لكل من المستويين
وليكن م الرأسى المأخوذ فى المستوى م و ط ا الرأسى المأخوذ
فى المستوى ك ويجعل ب مركزا واخذ نصف قطر حيثما اتفق ترسم
دائرة ج تقطع م فى النقطة م و ط فى ط وبواسطة المسقطين
الافقيين م ق و ط للنقطتين م و ط المفروضة اثرا افقيا للمستقيم ط
ثم اخذ م و م = ط ط = ج ج المسقطان الرأسيان
الجديدان يحدث م و ط للنقطتين م و ط ويتحصل من ذلك ايضا
مسقطاهما الافقيان م ق و ط وهما ايضا المسقطان م ق و ط ق لرأسي
المستويين ولم نرسم هذين المسقطين الاخيرين على الشكل لعدم تعقده ولعدم
الاحتياج لذلك وحيث كان المستويان م و ك الآن رأسيين لزم
ان يمر اثراهما الافقيان ق م و ق ك على التوالى بالنقطتين م ق و ط ق وان
يمرا ايضا بالنقطة ا وحينئذ يتم تعيينهما فيحدث من الاثرين ق م و ق ك

زاوية

زاوية ا بها تقاس الزاوية المطلوبة الحادثة من المستويين م و ك

(سادسا) ان الزاوية الحادثة من مستويين تقاس بالزاوية الواقعة بين عمودين قائمين على خط تقاطع المستويين من نقطة واحدة منه كل منهما فى مستو فيكونان فى مستو س عمود على ى كما فى (الشكل ١١٦) وحيث كان هذا المستوى اختيارى يمد الاثر قَ سـ عمودا على ى من نقطة تا منه فيقطع الاثرين قَ م و قَ ك فى النقطتين سـ و صـ اللتين هما اثرا المستقيمين اللذين زاويتهما عين زاوية المستويين م و ك ولاجل تطبيق الطريقة المعتادة المتقدمة فى (بند ١١٥) على هذه الحالة يؤخذ ى خطا ارضيا خَ ضَ ويبحث عن المستقيم ى على هذا المستوى الرأسى ومن حيث ان رَ سـ لابد وان يكون عمودا على ى يتحصل انا النقطة سَ وهى رأس الزاوية المطلوبة ا فاذا طبقت على النقطة سَ كانت الزاوية المطلوبة هى سـ سَ صـ وبدل ايجاد الرأس سَ بتغيير مستو يمكن ايجادها بحركة دوران بان يدور الرأسى خَ ضَ حول اثره الرأسى سـ قَ لينطبق فتنتقل النقطة ا الى اَ والنقطة و الى وَ والتقاطع ى الى يَ والعمود وسَ الى وَسَ ثم يؤخذ وَ رَ = وَسَ و سـ سَ = سـ قَ رَ فتوجد النقطة سَ ومنه تنتج الزاوية سـ سَ صـ

(تنبيه) طريقتنا هذه عين التى استعملها مؤلفوا كتب الهندسة الوصفية ولا فرق بينهما فى شئ بل ربما علم بمقابلتهما ان الطريقة التى استعملناها توضحها وتسهل معرفتها

وقد يستحسن التنبيه على ان وسَ = وسَ = وَسَ ضلع من الزاوية القائمة فى مثلث قائم الزاوية وسَ ا أو وَسَ اَ وتره وا = وَاَ وينتج منه ان الرأس سَ لابد ان تكون دائما بين و و ا فتكون

الزاوية سـ سَ صـ > سـ ا صـ

(وسابعا) يشاهد من الطريقة المتقدمة ان الزاوية المطلوبة معلومة بالمثلث سـ سَ صـ المعلوم منه الضلع سـ صـ ويمكن البحث عن الضلعين الاخرين بتطبيق المستويين م و ك وايجاد التقاطع ى على هذين التطبيقين وانزال عمودين على هذا التقاطع من النقطتين سـ و صـ فيتوصل الى رسم مثلث معلومة منه اضلاعه الثلاثة ويجب التفطن الى ان القوسين المرسومين من النقطتين سـ و صـ بجعل الضلعين الموجودين من المثلث نصفي قطر لابد وان يتقاطعا فى نقطة من المسقط ى وسنتهز فرصة تتميم هذه العملية فى حل مسئلة اخرى

(وثامنا) اذا تقاطع مستويان يصنعان اربع زوايا اثنتان حادتان متساويتان واثنتان منفرجتان متساويتان والزاوية الحادة هى المسماة بزاوية المستويين مالم تعين الجهة التى تكون فيها هذه الزاوية محسوبة فعلى هذا اذا انزل من نقطة اختيارية عمودان على المستويين صنعا ايضا زاويتين حادتين وزاويتين منفرجتين كلاهما مساو لمجانسه من الزوايا الاربع الواقعة بين مستويين فيمكن حينئذ ايجاد زاوية المستويين بان ينزل عمودان من نقطة واحدة على كلا المستويين المفروضين كما فى (بند ٨٢) ثم يبحث عن الزاوية الواقعة بين هذين العمودين كما فى (بند ١١٥) وعلى اى حال فلو انزل من نقطة مأخوذة داخل زاوية زوجية عمودان على وجهى هذه الزاوية لحدث بينهما زاوية متممة للزاوية الزوجية

ولا تحتاج هذه الطريقة الاخيرة الى معرفة تقاطع المستويين الذى لا تنكر فائدته فى بعض الاحوال لانه ربما كان هذا التعيين مقتضيا لعمليات مشكلة جدا كما حصل ذلك فى بعض الاحوال

(المسئلة الثلاثون) اذا كان المطلوب قسمة الزاوية الواقعة بين مستويين الى قسمين متساويين يقال

(اولا) اذا فرض وجود المستوى القاسم كما فى (الشكل ١١٦) كان مقطوعا بالمستوى س فى مستقيم سَ نَ عمود على التقاطع ى فى النقطة سَ وكان اثره الافقى على قَ وقاسما للزاوية ا أو سـ سَ صـ الى قسمين متساويين فينتج من ذلك انه يلزم بعد ايجاد الزاوية المنطبقة سـ سَ صـ كما فى (سادسا من بند ١٢٧) قسمتها الى قسمين متساويين بمستقيم قاطع للاثر قَ فى نقطة نَ يجب ان يمر بها وبالنقطة ا الاثر الافقى للمستوى المطلوب س وان يمر بالنقطة ـ اثره الرأسى

(وثانيا) اذا انطبق المستويان م و كَ على المستوى الافقى كما فى (الشكل ١١٧) باستعمال الطريقة الثانية المعلومة فى (بند ٧٦) انتقل تقاطعهما ى فى ىَ ثم فى ىً فاذا فرض فى كل من المستويين م و كَ مستقيم على بعد واحد من التقاطع ى صار المستقيم ا الكائن فى المستوى م فى اَ الموازى ىَ بعد انطباق هذا المستوى وصار ايضا المستقيم ب فى بً الموازى ىً بعد انطباق المستوى كَ المشتمل على ب وقطع المستقيمان اَ و بً على التوالى الاثرين قَ و قً فى نقطتين سـ و صـ فحينئذ يكون سـ صـ الاثر الافقى للمستوى (ا ب) واذا قسم سـ صـ الى قسمين متساويين فى نقطة نَ لانتسبت هذه النقطة والنقطة ا الى الاثر الافقى قَ للمستوى القاسم س المشتمل زيادة عن ذلك على خط موازٍ لخط التقاطع ى ومار بالنقطة نَ ولهذا الحل كما هو ظاهر شدة مناسبة للحل الذى ذكر فى (بند ١١٦) لاجل ايجاد قاسم زاوية المستقيمين الى قسمين متساويين بدون البحث عنهما وذلك ان النقطة ه والنقطة د الكائنتين على المستقيمين على بعد واحد من نقطة تقاطعهما م فى حل (بند ١١٦) مبدلتان هنا بالمستقيمين ا و ب الكائنين فى المستويين على بعد واحد من تقاطعهما ى وان النقطة ه التى هى

منتصف المستقيم هـ د هنالك مبدلة هنا بمستقيم كائن على المستوى (أ ب) وعلى بعد واحد من المستقيمين أ و ب

ويمكن ابدال المستقيمين أ و ب الموازيين ى بمستقيمين متساويي الميل على ى ومقابلين له فى نقطة واحدة وحينئذ فزاوية هذين المستقيمين والتقاطع ى يعينان المستوى القاسم وليست حالة الموازيين الا داخلة فى هذه الحالة

(وثالثا) ان العمودين القائمين على المستويين م و ك كما فى (ثامنا من بند ١٢٧) يمكن ان يبدا من نقطة واحدة من نقط تقاطعهما فاذا فرض وجود المستوى القاسم واقامة عمود عليه ايضا من النقطة المذكورة قسم هذا العمود زاوية عمودى المستويين الاصليين الى قسمين متساويين فحينئذ اذا بحث على القاسم لزاوية هذين العمودين كما فى (بند ١١٥) عين هذا القاسم والتقاطع ى للمستويين المعلومين المستوى القاسم المطلوب وليتنبه الى ان هذه المسئلة لا يمكن حلها الا بمعرفة تقاطع المستويين المعلومين

(١٢٩)

ولنتمم هذه المسائل المتوالية بذكر مسئلتين ينتج حلهما بدون واسطة من حل مسئلة ايجاد زاوية المستويين المقررة فى (سادسا من بند ١٢٧) فنقول

(المسئلة الحادية والثلاثون) اذا علم اثرا ن اتقيان لمستويين م و ك صانعان زاوية معلومة أ وعلم ايضا المسقط الافقى لتقاطعهما ى والمطلوب ايجاد اثريهما الرأسيين يقال

ليبدا الاثر سق كما فى (الشكل ١١٦) عمودا على المسقط الافقى ى فيقطع قم و قك فى النقطتين سه و صه ويلزم لايجاد النقطة سه ان يرسم على سه صه قطع دائرة يحتوى على الزاوية أ فيقطع ى

فى النقطة

فى النقطة سـ فاذا رسمت دائرة بجعل النقطة و مركزا وجعل وسـ نصف قطر ومن النقطة ا مد مماس ى لهذه الدائرة واقيم عمود ـ ق ـ على ى واخذ ـ ق ـ = ـ ق ـ تحصلت النقطة ـ وهى نقطة تقابل الاثرين ر ر ومن البين ان الزاوية ا لا يلزم ان تكون اصغر من سـ ا صـ فاذا كانت مساوية لها كان المستويان رأسيين ويشاهد ان لهذه المسئلة ايضا حلان من حيث انه يمكن مد خطين من النقطة ا مماسين للدائرة المذكورة

(١٣٠)

(المسئلة الثانية والثلاثون) اذا كان المطلوب امرار مستو ك من مستقيم ى كائن على مستو معلوم م يصنع مع المستوى م زاوية ا يقال

يمد سـ ق عمودا على ى كما فى (الشكل ١١٦) ويعين التقاطع ى على المستوى الرأسى خَصَ وينزل عمود وسـ على ى ويجعل وسـ = وسـ ويرسم سـ سـ ثم صـ سـ صانعا مع سـ سـ الزاوية ا وتنسب النقطة صـ الى الاثر ق الذى يجب ان يمر ايضا بالنقطة ا ثم يمد الاثر ر من النقطة ك الى النقطة ـ ولهذه المسئلة ايضا حلان فانه يمكن رسم صـ سـ من كل من جهتى سـ سـ

(فى اقصر الابعاد)

(١٣١)

(المسئلة الثالثة والثلاثون) اذا كان المطلوب ايجاد اقصر بعد من نقطة الى اخرى يقال

هذا البعد مقيس بمستقيم هاتين النقطتين وبهذا يتوصل الى ايجاد الطول الحقيقى لجزء مستقيم محصور بين نقطتين معينين وحينئذ فقد

يكون اولا المسقط الرأسى مساويا للمستقيم الفراغى اذا كان هذا المستقيم موازيا للمستوى الرأسى انظر (اولا من بند ٥٦) ولذلك يؤخذ مستو جديد رأسى موازيا للمستقيم وليختر المستوى المسقط له افقيا لما فيه من السهولة والاختصار فحينئذ لا يكون خط الارض خَصَ كما فى (الشكل ١٠٦) سوى المسقط الافقى وٗ للمستقيم و فاذا انزل على هذا الخط عمودان مٗم = ومٗ و دٗد = عدٗ ووصل بين م و د يحدث لنا المستقيم و المطلوب واذا مد من النقطة د خط دط موازيا للمسقط الافقى وٗ حدث مثلث قائم الزاوية مدط ضلعه دط يساوى المسقط الافقى مٗدٗ و مط يساوى فاضل ارتفاع النقطتين م و د عن المستوى الافقى اويساوى ومٗ — عدٗ انظر (اولا من بند ٥) ووتر المثلث المذكور هو مقدار طول المستقيم المطلوب ومن هنا ينتج رسم المستقيم المطلوب بسهولة

(وثانيا) قد يكون المستقيم و معلوما بمسقطه الافقى اذا كان موازيا للمستوى الافقى فيمكن حينئذ تغيير المستوى الافقى لجعله موازيا و وليختر لاجل السهولة المستوى المسقط رأسيا لهذا المستقيم فيكون خط الارض خٗصٗ متحدا مع وٗ ويلزم ان يؤخذ على عمودين على هذا الخط مٗم = ومٗ و دٗد = عدٗ وباخذ خط مل موازٍ وٗ يحدث مثلث قائم الزاوية مدل وتره ايضا مقدار طول المستقيم و واحد ضلعى زاويته القائمة مل مساو للمسقط الرأسى مٗدٗ والآخر دل مساو لفاضل بعدى النقطتين م و د عن المستوى الرأسى يعنى مساو عدٗ — ومٗ انظر (ثانيا من بند ٥)

(وثالثا) يمكن بدل جعل المستقيم و موازيا للمستوى الرأسى بتغيير

المستوى

المستوى الرأسى تدوير المستقيم حول محور رأسى الى ان يصل الى هذا الوضع كما فى (بند ٦١) وليختر للسهولة المحور مارا باحدى النقطتين المعلومتين م فيصير المستقيم حينئذ فى الوضع وَ ويعلم مقدار طوله الحقيقى بالمسقط وَ

(ورابعا) يمكن جعل المستقيم و موازيا للمستوى الافقى بتدويره حول محور أ عمود على المستوى الرأسى وليختر مارا بالنقطة ﺩ وحينئذ يصير المستقيم و المذكور فى الوضع وً ويعلم مقدار طوله الحقيقى بمسقطه الافقى وً

وباستعمال الطرق الاربع المذكورة على نفس هذا الشكل يلزم ان يكون

م ﺩ = م ﺩ = م ﺩ = م ﺩ = م ﺩ

(١٣٢)

(المسئلة الرابعة والثلاثون) اذا كان المطلوب ايجاد البعد بين اثرى مستقيم يقال

هذه المسئلة لا فرق بينها وبين المتقدمة ويكفى فى حلها اخذ النقطتين ا و ـ بدل النقطتين م و ﺩ المأخوذتين اختيارا فى المسئلة المتقدمة وحينئذ فتحل باستعمال نفس الطرق التى حلت بها المسئلة المتقدمة فيقال

(اولا) اذا اخذ المسقط وً كما فى (الشكل ١٠٥) خطا ارضيا جديدا يوجد المستقيم و على هذا المستوى الجديد الرأسى وتنتسب النقطة ا حينئذ الى هذا المستقيم

(وثانيا) اذا ابدل المستوى الافقى واخذ وُ خطا ارضيا جديدا يوجد المستقيم وُ ا

(وثالثا) اذا دور المستقيم و حول المحور ا يصير فى الوضع وَ

(ورابعا) اذا دوّر المستقيم المذكور حول المحور اَ يصير فى الوضع وً فينتج بالضرورة

$$\text{ا}_{\text{ا}}\text{ب} = \text{ا}_{\text{ا}}\text{ب} = \text{اَ}\text{ب} = \text{اً}\text{ب}$$

وكل من هذه الخطوط الاربع يدل على طول المستقيم و

(١٣٣)

(المسئلة الخامسة والثلاثون) اذا كان المطلوب مد مستقيم معلوم الطول من نقطة م كائنة على مستو معلوم م الى الاثر الافقى لهذا المستوى يقال

اذا علم المسقط الافقى مٌ للنقطة المفروضة كما فى (الشكل ١١٨) يستنتج منه مسقطها الرأسى مٌ انظر (بند ٢٩) بان يمد من هذه النقطة افقى ط من المستوى م ثم يفرض اولا المستقيم و فى وضعه الاصلى ويدوّر حول محور رأسى ا حتى يوازى المستوى الرأسى فينسقط على هذا المستوى فى طوله الحقيقى ل انظر (اولا من بند ٥٦) ويبقى مسقطه الافقى فى رجوعه دائما على طول واحد يجب ان ينتهى بالاثر قٌ فتكون النقطة ا التى يقابل فيها ذلك الاثر قٌ الدائرة ج نقطة من المستقيم فيتعين وضعه حينئذ تعينا تاما ويوجد حل آخر فى ب ولو مست الدائرة ج الاثر قٌ لم يكن للمسئلة الا حل واحد ولو كان المستقيم اٌ اٌَ اقصر من العمود النازل من اٌ على قٌ لم يكن للمسئلة حل اصلا

(وثانيا) قد يتفق كما فى (الشكل ١١٩) ان المستقيم ل المار من النقطة مٌ لا يقابل خط الارض خ ض الا خارج حدود الرسم ولننبه فى هذه الحالة على انه يمكن تقسيم المستقيم و الى اجزاء متساوية وان يتصور امرار مستويات افقية من نقط المستقيم قاسمة جزء المحور ا المحصور بين النقطة م

والمستوى

والمستوى الافقى للمسقط الى اجزاء متساوية عدتها كعدة اجزاء المستقيم و وقاطعة للمستوى م فى افقيات متساوية البعد عن بعضها ثم يقسم ارتفاع النقطة م الى قسمين متساويين ويرسم مستوافقى س يقطع المستوى م فى افقى ر وتجرى بالنسبة لهذا الافقى العملية التى اجريت بالنسبة لخط الارض بان يؤخذ ½ ل بالابتداء من النقطة م الى المسقط الرأسى ر للافقى فيتحصل المستقيمان و و ب الكافيان فى حل المسئلة

(وثالثا) يمكن حل المسئلة المذكورة بتطبيق المستوى م على المستوى الافقى كما فى (الشكل ١٢٠) او بجعل هذا المستوى احد مستويى المسقط وذلك باستعمال احدى الطرق الاربع المعلومة فى (بند ٦٧) ولنجرى هنا الطريقة الثانية ورسم اشكال الثلاث الباقية سهل فنقول

ان النقطة م تصير منطبقة فى م ويجعل هذه النقطة مركزا واخذ نصف قطر مساو للطول ل يرسم قوس دائرة يقطع ق م فى نقطتين س و ص بايصالهما بالنقطة م يتحصل المسقطان الافقيان ق ب و ق و للمستقيمين ب و و الكافيين فى حل المسئلة ويستنتج منهما المسقطان الرأسيان لهذين المستقيمين انظر (بند ٢٨)

(١٣٤)

ويمثل ذلك تحل مسئلة مد مستقيم معلوم الطول من نقطة م الى مستقيم معلوم الوضع فيكفى امرار مستو من المستقيم المعلوم والنقطة م وتطبيق هذا المستوى وايجاد النقطة م والمستقيم المعلوم عليه ثم رسم المستقيم المطلوب على هذا المستوى المنطبق ثم يرجع بعد ذلك الى مسقطى هذا المستقيم

ويمثل ذلك تحل مسئلة مد مستقيم من نقطة معلومة م يصنع زاوية معلومة مع الاثر الافقى او مع مستقيم ما من المستوى م

(١٣٥)

(المسئلة السادسة والثلاثون) اذا كان المطلوب ايجاد اقصر بعد بين نقطة ومستقيم يقال

ان هذا البعد كناية عن العمود النازل من النقطة المذكورة على المستقيم ثم يقال

(اولا) يمكن حل هذه المسئلة بامرار مستو م من المستقيم المعلوم و ومن النقطة المعلومة م وتطبيقه على المستوى الافقي انظر (بند ٧٦) ثم انزال عمود نَ من النقطة مَ على وَ فيكون هو البعد المطلوب فاذا اريد معرفة مسقطيه ارجعت النقطة سَ التي هي تقاطع العمود نَ مع وَ في الوضع سَ على المستقيم و بحركة دوران عكس حركة دوران الانطباق

(وثانيا) يمكن بدل تطبيق المستوى (و م) كما في (الشكل ١٢١) على المستوى الافقي تدويره حول احد اقيائه حتى يصير افقيا ثم يمر الافقي من النقطة م وحينئذ يمر أُ بالنقطة مُ ويوازي خ ض فيقابل وُ في نقطة ـ ويستنتج من ذلك ـ ثم أُ ولاجل تدوير المستوى (و م) حول أ معتبرا محورا يلزم اولا ان يؤخذ مستور أ ي خَ ضَ عمودا على هذا المحور كما في (بند ٧٣) فيوجد على هذا المستوى المسقطان مُ و وُ ومن الواضح ان النقطتين مُ و ـ يتحدان مع النقطة أُ التي هي المسقط الرأسي للمحور وان المستقيم ا أُ يصير الاثر الافقي قُ ثم يُدوَّر المستقيم و حتى يصير افقيا ولا يتغير موضع النقطة ـ مدة الدوران فحينئذ يجب ان يكون مسقطه الرأسي موازيا خَ ضَ ومارا بالنقطة ـ ولايجاد المسقط الافقي يؤخذ على المستقيم و نقطة ما ـ ترسم مدة الدوران دائرة ج وتصير في الوضع ـ وبايصال ـ الى ـ يتحصل وَ فاذا انزل الان من النقطة م عمود على وَ دل على المقدار الحقيقي للبعد الاقصر من النقطة م

الى المستقيم و فاذا اريد معرفة مسقطى هذا البعد الاقصر يقال ان العمود المذكور يقابل وَ فى نقطة سَ ومنها ينتج سَ بواسطة موازى خط الارض خَ ضَ ثم يتحصل سَ رَ وبايصال مسقطى النقطة سَ بمسقطى النقطة م يتحصل م سَ و م سَ وهما مسقطا البعد الاقصر الذى مقداره الحقيقى م سَ

وليتنبه الى انه اذا اخذ على المستوى الرأسى خَ ضَ المسقطان الرأسيان سَ رَ و سَ رَ للنقطتين سَ و سَ وجب لتحقيق الشكل ان يكون

م سَ رَ = م سَ رَ و سَ رَ = سَ رَ

(وثالثا) يمكن حل هذه المسئلة ايضا بتغيير مستويين اوحركتى دوران ولذلك يتنبه الى انه اذا كان المستقيم و عمودا على المستوى الافقى كما فى (الشكل ١٢٢) كان العمود ن افقيا ومساويا بالضرورة لمسقطه الافقى انظر (اولا من بند ٥٦) فيلزم حينئذ جعل المستقيم المذكور فى هذا الوضع الخاص به ويتوصل اليه اولا باخذ مستور رأسى موازيا و اومارا به ثم اخذ مستو افقى عمودا على و فيكون نَ البعد المطلوب وللرجوع الى مسقطى المستقيم ن على المستويين الاصليين يتنبه الى ان نَ لابد وان يكون موازيا خَ ضَ فيقابل المستقيم و فى نقطة سَ مسقطها الافقى سَ ومنه ينتج سَ رَ فيتحصل من ذلك نَ و نَ ويسهل رسم شكل حل هذه المسئلة بحركتى دوران اوحركة دوران وتغيير مستو

(ورابعا) يمكن بعد تغيير المستوى الرأسى للمسقط لجعل المستقيم و موازيا لهذا المستوى الجديد ان يلتفت الى ان العمود ن والمستقيم و حيث كانا عمودين على بعضهما فى الفراغ وكان احدهما و موازيا للمستوى الرأسى خَ ضَ يلزم ان يكون مسقطاهما الرأسيان نَ و و عمودين كذلك على

بعضهما فيمد حينئذ من النقطة م عمود نَ على و فيقابل المستقيم و
فى نقطة سـ مسقطها الافقى سَـ على وَ ومسقطها الرأسى سَـ
على وُ ويوصل بين سَـ و م وبين سَـ و مُ فيتحصل المسقطان
نَ وَ نُ للبعد الاقصر المطلوب فلم يبق علينا الا معرفة طوله الحقيقى انظر
(بند ١٣١)

(وخامسا) حيث كان العمود النازل من النقطة م على المستقيم و
كما فى (الشكل ١٢٣) كائنا فى مستو م عمود على و ومار بالنقطة
م يمكن رسم هذا المستوى كما فى (بند ٨٣) وبالبحث عن التقاطع سـ
للمستقيم و مع المستوى م كما فى (بند ١١٠) والوصل بين سـ و م
يتحصل المستقيم المطلوب الذى يوجد مقداره الحقيقى فى نَ انظر
(ثالثا من بند ١٣١)

ويمكن امرار المستوى المساعد من النقطة م فيكون تقاطعه ن مع
المستوى م عين المستقيم المطلوب الذى جزؤه سـم هو البعد الكائن بين
النقطة م والمستقيم و فيكون الطول الحقيقى لهذا البعد نَ
فاذا لم يكن اثرا المستوى س داخل حدود الرسم يعتبر هذا المستوى
معلوما بالمستقيمين و و وُ فيبحث عن تقاطعه مع المستوى م
انظر (بند ١١١)

(١٣٦)

(المسئلة السابعة والثلاثون) اذا كان المطلوب ايجاد اقصر بعد من نقطة
الى مستو يقال

(اولا) ان هذا البعد يقاس بالعمود ن النازل من النقطة المعلومة م
على المستوى المعلوم م فبناء على ذلك يكون المسقطان نَ وَ نُ
عمودين بالتوالى على قَ و رَ كما فى (بند ٨١) وحينئذ يكونان

معلومين

معلومين وبالبحث عن التقاطع سـ للعمود ن والمستوى م كما فى (بند ١١٠) يدل م سـ الذى هو جزؤ هذا المستقيم على البعد المطلوب ويرسم شكل ماذكر بالسهولة

(وثانيا) اذا كان المستوى م عمودا على المستوى الرأسى يكون المسقط الرأسى سـ للنقطة سـ على ر انظر (ثانيا من بند ٥٦) ويكون ايضا العمود ن موازيا للمستوى الرأسى ومساويا بالضرورة لمسقطه الرأسى ن ولذلك يتوصل الى هذه الحالة المخصوصة بتغيير مستور أسى كما هو واضح من الشكل ١٢٤

(وثالثا) يمكن ايضا ان يستعمل لذلك حركة دوران كما يدل عليه الشكل ١٢٥ الذى أمر فيه اختصارا المحور ا بالنقطة المعلومة م ثم بالرجوع الى المسقطين الاولين يوجد سـ و سـ كل على انفراده فيلزم حينئذ ان يكون هاتان النقطتان على عمود واحد على خط الارض خ ض انظر (بند ٨) وهذا برهان على صحة الاعمال

(١٢٧)

(المسئلة الثامنة والثلاثون) اذا كان المطلوب ايجاد اقصر بعد بين مستقيمين ليسا فى مستو واحد يقال

اذا كان احد المستقيمين ا كما فى (الشكل ١٢٦) عمودا على المستوى الافقى يكون البعد الاقصر ن افقيا ومساويا بالضرورة نـ ويكون زيادة على ذلك نـ فى هذه الحالة المخصوصة عمودا على بـ حيث كان ن عمودا على المستوى الرأسى الذى اثره الافقى بـ ويحصل هذا البعد الاقصر بالسهولة ويمكن ان يتوصل الى هذه الحالة المخصوصة باربع عمليات هى

(اولا) تغيير ان لمستو

(وثانيا) تغيير مستو ثم حركة دوران

(وثالثا) حركة دوران ثم تغيير مستو

(ورابعا) حركتا دوران ولنذكر هذه الطرق على الترتيب فنقول

(اولا) ليكن ا و ب كما فى (الشكل ١٢٧) المستقيمين المطلوب ايجاد اقصر بعد بينهما فيختار لترجيع المستقيم ا ليصير فى وضعه المتقدم مستو آخر افقى عمودا على ا الا انه لا يكون عمودا على المستوى الرأسى ولذا يؤخذ اولا مستو جديد رأسى للمسقط موازيا لهذا المستقيم ا وليختر لاجل السهولة المستوى المسقط له وحينئذ يتعد خَ ضَ مع ا وينتج منه المسقطان الرأسيان ا و بَ انظر (بند ٤٦) ثم يؤخذ مستو جديد افقى للمسقط عمودا على ا باخذ خَّ ضَّ عمودا على ا فيوجد اَّ و بَّ ثم ينزل من اَّ العمود نَّ على بَّ فيكون اقصر البعد المطلوب وينتهى على ا و ب بالنقطتين صه و سه اللتين تكون مساقطهما بالتوالى فى صه و سه وفى صه و سه وفى صه و سه ثم فى صه و سه ومن ذلك يتحصل نَ و نَ

(وثانيا) يمكن بعد تغيير المستوى الرأسى للمسقط كما ذكر تدوير جملة الشكل حول محور عمود على هذا المستوى الرأسى حتى يصير المستقيم ا عمودا على المستوى الافقى ولاجل ذلك يلبق مدى محور الدوران من نقطة من المستقيم ا وحيث صار هذا المستقيم بعد رسم الزاوية ١ فى وضعه الجديد اَ يلزم تدوير المستقيم ب بقدر نفس الزاوية ١ انظر (بند ٦١) ليصير فى الوضع بَ فيكون العمود نَ النازل من اَ على بَ البعد الاقصر المطلوب ويكون نَ موازيا خَ ضَ وتتحصل منه نقطتان سَ و صَ يتقاطع فيهما البعد الاقصر بالمستقيمين بَ و اَ فبترجيع هاتين النقطتين على ب و ا فى النقطتين سه و صه يتحصل المسقطان نَ و نَ للبعد الاقصر

(وثالثا)

(وثالثا) اذا دُوِّر المستقيمان ا و ب حول محور رأسى قاطع ا حتى صار احدهما ا فى الوضع اَ موازيا للمستوى الرأسى رسم زاوية ا اَ وبتدوير المستقيم ب بقدر هذه الزاوية ليصير فى الوضع بَ كما فى (بند ٥٩) ثم باتخاب مستو جديد افقى للمسقط عمودا على اَ يلزم ان يكون خَ ضَ عمودا ايضا على اَ والمسقط الافقى لهذا المستقيم فى نقطة واحدة اَ قَ ويتحصل ايضا بَ قَ انظر (بند ٤٦) فيكون البعد الاقصر المطلوب حينئذ هو العمود نَ قَ النازل من اَ قَ على بَ قَ وبعد ذلك يرجع كما تقدم الى ايجاد المسقطين نْ و نُ للمستقيم المذكور

(ورابعا) يمكن لاجل حل المسئلة بحركتى دوران ان يدوّر اولا المستقيمان ا و ب معا حول محور رأسى كما فى الحالة المتقدمة ثم يُدوّر كل من المستقيمين اَ و بَ حول محور عمود على المستوى الرأسى كما تقدم فى الحالة الرابعة

ومن البين انه يمكن ايضا تصيير المستقيم ا عمودا على المستوى الرأسى بجعله اولا موازيا للمستوى الافقى ويسهل رسم اشكال جميع هذه الاحوال

(وخامسا) يمكن ايضا حل المسئلة بدون احتياج الى ماسوى المستقيمين المفروضين فى وضعهما المفروض مع ابقاء مستويى المسقط الاصليين وذلك انه يلزم اولا الالتفات الى ما تقرر فى الهندسة الاصلية من انه يمكن دائما مدّ عمود على مستقيمين ا و ب كما فى (الشكل ١٢٨) ليسا فى مستو واحد وانه لا يمكن الا مد عمود واحد وان هذا العمود المشترك هو اقصر بعد من نقطة من ا الى نقطة من ب فقد شوهد ان العملية مبنية على مدّ مستقيم اَ من نقطة م من ب موازٍ ا وامرار مستو من اَ و ب موازٍ ا وانزال عمود ط من نقطة ما ح من اَ على هذا المستوى (ب اَ) وامرار مستو آخر من المستقيمين

ا و ط والبحث عن التقاطع ى للمستويين (ب اَ) و (اط) وان يمد من النقطة سـ التى هى تقاطع ى و ب مستقيم ن يوازى المستقيم ط ويقابل ا فى نقطة صـ وهذا المستقيم ن هو قياس البعد الاقصر المطلوب وكل تلك العمليات يلزم اجراؤها بواسطة المساقط

وليكن ا و ب المستقيمين المعلومين كما فى (الشكل ١٢٩) فتؤخذ نقطة مّا م على المستقيم ب ومنها يمد مستقيم اَ مواز ا فيكون اَ موازيا اَ و اَ موازيا اَ ويمر مستو م من اَ و ب فيمر قَ من الاثرين الافقيين اَ و ـ لهذين المستقيمين ويمر رَ باثريهما الرأسيين اِ و ـِ ثم تؤخذ نقطة مّا ه من ا وينزل من هذه النقطة عمود ط على المستوى م فيكون طَ عمودا على قَ و طَ عمودا على رَ وبامرار مستو ك بالمستقيمين ط و ا يمر قَ باثريهما الافقيين ط و ا و رَ بالاثر الرأسى اِ وبالنقطة التى يقابل فيها قَ خط الارض خض ومن حيث ان اثرى التقاطع ى للمستويين المذكورين م و ك فى ع و كَ يتعين ذلك التقاطع ومن حيث انه مواز ا يلزم ان يكون ىَ موازيا اَ و ىَ موازيا اَ اذا كانت الاعمال صحيحة ثم يقطع هذا التقاطع ى المستقيم ب فى نقطة سـ منها يمد المستقيم ن موازيا ط الى ان يتلاقى مع ا فى النقطة صـ فيكون هو البعد الاقصر المطلوب ويتحصل لنا مقداره الحقيقى بتدويره حول محور رأسى مارّ بالنقطة صـ حتى يصير فى الوضع نَ موازيا للمستوى الرأسى بحيث يكون مقداره الحقيقى معلوما بالمسقط نَ

وليست العملية العمومية المتقدمة ممكنة دائما لانه قد يتفق ان لا يكون لاثرى

المستوى

المستوى م نقطة داخل حدود الرسم ولكن من حيث انه لا يحتاج الى
الاثرين الا لامكان مد العمود ط على المستوى م يمكن ابدال ق بافق ما
يحصل بقطع المستقيمين ا و ب بمستوافق وكذلك ابدال ر برأسى
للمستوى يحصل ايضا بقطع هذين المستقيمين بمستو موازللمستوى الرأسى
ويمكن ايضا اعتبار المستوى ك معينا تعينا كافيا بمستقيمين ا و ط
الا انه قد يتفق خروج العمود المشترك عن حدود الرسم وحينئذ لا يمكن ايجاده
الا بالرجوع الى الحالة الخصوصية المعتبرة اول الامر ويمكن باحدى الطرق الاربع
الاولية زيادة على ذلك ايجاد البعد الاقصر بين مستقيمين مادام داخلا فى حدود
الرسم وذلك انه يمكن اختيار مستويى المسقط الجديدين او محورى الدوران بحيث
تكون مساقط المستقيمين ا و ب واقعة فى طرفى فرخ الرسم وهذه الطرق
مختارة ايضا فى اعتبار رسمى لانه لا يوجد فى تغيير المستويات الا نقل الابعاد
المأخوذة بانفتاحات البرجل وفى حركات الدوران الا كون الخطوط التى يجب
رسمها تتقاطع على زوايا قائمة

(١٣٨)

(المسئلة التاسعة والثلاثون) اذا علم المستقيم ا والمسقط الافقى ب ق
لمستقيم آخر ب والمسقط ن لاقصر بعد ن بين ا و ب وكان
المطلوب ايجاد المسقطين الرأسيين ب ر و ن ر لمستقيمى ب و ن
والمقدار الحقيقى للمستقيم ن يقال
حيث كان البعد الاقصر المذكور عمودا على المستقيم ا الذى يقابله فى نقطة
معلومة سـ يعين المسقط ن بالطريقة المذكورة فى (بند ٨٦) وحيث
ان المستقيم المذكور ايضا لابد وان يكون عمودا على المستقيم ب الذى
يقابله فى نقطة معلومة صـ يوجد المسقط ب ر بالطريقة المذكورة وحيث
كان الطرفان سـ و صـ للبعد الاقصر ن بين المستقيمين ا و ب

معلومين يستنتج منهما المقدار الحقيقى لهذا البعد انظر (بند ١٣١)

(١٣٩)

(المسئلة الاربعون) اذا علم مستقيم ا والمسقط الافقى ب
لمستقيم آخر ب والمقدار الحقيقى للبعد الاقصر ن بين المستقيمين
ا و ب والنقطة سـ التى يقابل فيها ن المستقيم المعلوم ا
والمطلوب ايجاد المسقط الرأسى بُ للمستقيم ب ومسقطى البعد الاقصر
ن يقال

من حيث ان المستقيم ن لابد ان يكون عمودا على المستقيم ا كما فى
(الشكل ١٣٠) يلزم ان يكون فى مستوى م ماربالنقطة سـ وعمود على
المستقيم ا المذكور انظر (بند ٨٥) فاذا طُبِّق هذا المستوى م على
المستوى الافقى صارت النقطة سـ فى الوضع سَـ والمستقيم ن احد
انصاف اقطار محيط الدائرة جَ المرسومة بجعل النقطة سَـ مركزا والمقدار
المعلوم للمستقيم ن نصف قطر واذا فرض المستقيم ن تابعا للمستوى م
فى حركة الدوران علم وضعه ولزم ان يوجد اثره الافقى على جَ ويعلم منه وضع
المستقيم نَ فتحصل حينئذ النقطة صَـ ويستخرج منها النقطة صـ
ولكن حيث كانت هذه النقطة صـ موجودة بالضرورة على المستقيم ب
وعلى محيط الدائرة المنطبق فى جَ معا يبحث عن ايجاد المسقط جُ للمحيط
المذكور فيقطع بُ فى نقطتين صُـ و زُ وهما المسقطان الافقيان
للنقطتين الكافيتين لحل المسئلة ويتحصل حينئذ المسقطان الافقيان نُ و طُ
ويستخرج منهما المسقطان الرأسيان نُ و طُ ومنه يعلم صُـ و زُ
فلم يبق الا تعيين بُ بحيث يكون المستقيم ب الماربالنقطة سـ
عمودا على ن او تعيين وُ بحيث يكون المستقيم و الماربالنقطة زـ

عمودا على ط انظر (بند ٨٦) ويكون المستقيمان ب و كافيين في الشرط الذى هو دلالة نفس المستقيم ب ق على مسقطهما الافقيين وكونهما على بعد معلوم من المستقيم ا

(١٤٠)

لا يمكن رسم المنحنى ج ق هنا الا نقطة فنقطة ويتضح فيما سيأتى ان هذا المنحنى قطع ناقص فلا يمكن حينئذ ان يقطع ب ق الا فى نقطتين

فاذا كانت النقطة س غير معلومة امكن اخذها على المستقيم ا فى اى وضع كان وبتكرار العملية المتقدمة لكل من الاوضاع تحصل جملة مستويات كالمستوى م متوازية ويحدث حينئذ من الدوائر كالدائرة ج المتساوية سطح اسطوانى مستدير محوره المستقيم ا وجميع نقط ب ق المحصورة فى المسقط الافقى لهذا السطح الاسطوانى يمكن ان تدل على النقطة ص ق وسنذكر حل هذه المسئلة فى محل آخر من هذا الكتاب بعد ذكر ما تتوقف عليه من معارف لا بد منها

(الباب الرابع)

(فى الزوايا الثلاثية والاهرام)

(١٤١)

(مسئلة عامة) اذا كان المعلوم زاوية ثلاثية والمطلوب ايجاد الزوايا السطحية والزوايا الزوجية المتركبة هي منها بعملية على مستو يقال

يؤخذ احد وجوه الزاوية الثلاثية الممتد مستويا افقيا للمسقط ثم تقطع هذه الزاوية بمستو مّا رأسى بحيث يكون م و ك مستويى الوجهين الاخرين و ى تقاطعهما كما فى (الشكل ١٣١) فتكون احدى الزوايا السطحية معلومة فى ا وتتحصل الاخريان بانطباق الوجهين م و ك على المستوى الافقى كما فى (بند ٧٦) ويختار المستويان الرأسيان الجديدان مارين بالاثر ب للتقاطع ى بحيث يكون خط الارض خَ ضَ و خً ضً مارين بالمسقط بق وينتقل التقاطع ى فى ىَ و ىً على المستويين المنطبقين ولا يخفى ان ا بَ = ا بً حيث انهما يدلان على الجزء ا ب من التقاطع ى فاذا رسم المستقيمان ع بَ و كَ بً دلا على الاثرين الرأسيين ع ب و كَ ب المعلوم مقدارهما الحقيقى ويلزم من ذلك ان يكون ع بَ = ع ب و كَ بً = كَ ب فحينئذ تحصل معنا الثلاث زوايا السطحية ا = ع ا كَ و ب = ع ا بَ و ج = كَ ا بً وحيث كان المستوى م عمودا على المستوى الرأسى خَ ضَ و ك على المستوى الرأسى خً ضً تكون زاويتا هذين المستويين الحادثتان منهما مع المستوى الافقى او الزاويتان الزوجيتان ع و ب معلومتين بالتوالى فى ١ ب عَ بق و ١١ ب كً بق فلم يبق حينئذ الا البحث عن الزاوية ا الواقعة بين الوجهين ب و ج لكن هذه الزاوية مقيسة بزاوية العمودين الممتدين من نقطة واحدة من التقاطع ى احدهما فى المستوى م والاخر فى ك فاذا وجد هذان العمودان على المستويين المنطبقين

يكونان

فى حالة انطباقهما صارا عمودين كذلك على ىَ و ىً فى نقطتين مَ و مً على بعد واحد من ا فيقابلان الاثرين قً و قً فى النقطتين سه و صه فاذا وصل بين هاتين النقطتين كان من الواضح ان المستقيم سه صه يدل على الاثر الافقى للمستوى العمود على ى ويلزم حينئذ ان يكون عمودا على ىً وبانطباق المستوى المذكور بتدويره حول اثره سه صه لاتخرج رأس الزاوية المطلوبة عن المستوى الرأسى الذى يكون ىً اثره وينطبق ضلعاها على مقدارهما الحقيقى فحينئذ لو جعل كل من النقطتين سه و صه مركزا واخذ سه مَ و صه مً نصفى قطر ورسم قوسا دائرة لزم ان يتقاطعا فى نقطة سَه من ىً اذا وصل بينها وبين النقطتين سه و صه صار سه سَه صه الزاوية المطلوبة ا

(١٤٢)

اذا عرفت هذه المسئلة العامة يسهل عليك حل المسائل الخصوصية المختلفة المتعلقة بالزاوية الثلاثية وهى ستة ولنرمز للزوايا السطحية الثلاث بحروف ا و ب و ج وبحروف ا و ـــ و جـ للزوايا الثلاث الزوجية المقابلة لها كل لنظيرتها فتحدث الستة تراتيب التى صورتها هكذا

معاليم	مجاهيل	معاليم	مجاهيل
ا ب ج	ا ـــ جـ	ا ـــ جـ	ا ب ج
ا ب جـ	ا ـــ ج	ا ـــ ج	ا ب جـ
ا ب ـــ	ا جـ ج	ا جـ ج	ا ب ـــ

وقد ترجع الاحوال الثلاثة الاخيرة الى الثلاثة الاولى بواسطة الزاوية الثلاثية المتممة ومن المعلوم انه اذا اخذت نقطة داخل زاوية ثلاثية وانزل منها اعمدة على اوجه هذه الزاوية وأمر بهذه المستقيمات مستويات حدثت زاوية اخرى ثلاثية زواياها السطحية متممة لمقابلاتها الزوجية فى الاولى وزواياها الزوجية متممة

لمقابلاتها السطحية فيها ايضا ولذا اطلق على هاتين الزاويتين الثلاثيتين اسم الزاويتين الثلاثيتين المتممتين فعلى هذا اذا رمز الى الزوايا السطحية فى الثانية بالحروف أ و ب و ج والى الزوايا الزوجية فيها بالحروف أ و ب و ج فيحدث

أ = ١٨٠° − أ و ب = ١٨٠° − ب و ج = ١٨٠° − ج

و أ = ١٨٠° − ا و ب = ١٨٠° − ب و ج = ١٨٠° − ج

فحينئذ اذا علم مثلا أ و ب و ج تحصلت الزوايا السطحية أ و ب و ج وبواسطة هذه تتعين الزوايا أ و ب و ج كما سنبينه ثم يحدث من هذه ا و ب و ج ومثل ذلك يعمل فى الحالتين الاخريين غير ان الحالة التى تفرض فيها الزوايا الثلاث الزوجية معلومة تخرج دون غيرها عن القواعد المذكورة آنفا وسنذكر طريقة حلها

(١٤٣)

(المسئلة الاولى) اذا كان المعلوم الثلاث زوايا السطحية المكونة للزاوية الثلاثية والمطلوب ايجاد الثلاث زوايا الزوجية يقال

(اولا) يؤخذ دائما مستوى احد الاوجه مستويا افقيا كما فى (الشكل ١٣٢) فيدل ضلعا الزاوية ا على الاثرين الافقيين قم و قك لمستويي الوجهين الاخرين اللذين يفرضان منطبقين على المستوى الافقى فى ب و ج احداهما فى احدى جهتى ا والاخرى فى الجهة الاخرى انظر (بند ١٤١) فيعلم تقاطعهما فى ى و ى وتوجد نقطة ما ـ من هذا التقاطع على ى و ى على بعد واحد من ا فاذا اخذ حينئذ اى = اى ومد من النقطتين ى و ى عمودان على قم و قك كانا هما الخطين الارضيين خ ض و خ ض كما تقدم فى المسئلة العامة انظر (بند ١٤١) وتقاطعا فى نقطة ـ من ى وكانت النقطة ـ معلومة على المستويين الرأسيين فى ا ب و ا ب لانها لابد ان توجد على

عمود

عمود على خط الارض خَ ضَ أو خً ضً قائم من النقطة ب^ق وعلى الدائرة المرسومة من المركز ب^ق بجعل ب^ق بَ أو ب^ق بً نصف قطر ويلزم منه ان يكون ب^ق ب_ا = ب^ق ب_اا فقد آل الامر الى المسئلة العامة لانه يمكن ايجاد ر^م و ر^ك على مستوٍ مارأسى خ ص

(وثانيا) اذا تساوى زاويتان من الزوايا الثلاث السطحية لزم ان تكون الزاويتان الزوجيتان المقابلتان لهما متساويتين ايضا وذلك ان يؤخذ المستوى الافقى مستوى الزاوية الثالثة ا وترسم الزاويتان المتساويتا ب و ج فى كلتى جهتى ا كما تقدم ومن المعلوم فى فرضنا هذا ان المثلثين ا عَ بَ و ا كً بً متساويان لان وتر احدهما مساو لوتر الآخر وفيهما زاويتين حادتين متساويتين فينتج ان بَ عَ = بً كً وان المثلثين القائمى الزاوية عَ ب_ا ب^ق و كً ب_اا ب^ق متساويان ايضا لان الضلع عَ ب_ا = كً ب_اا والضلع ب_ا ب^ق = ب_اا ب^ق فتكون حينئذ الزاوية = ج ب

(وثالثا) اذا كان زيادة على ذلك الزاويتان المتساويتان ب و ج قائمتين لزم ان يكون الزاويتان الزوجيتان المقابلتان ب و ج قائمتين ايضا لانه يسهل فى هذه الحالة مشاهدة كون خَ ضَ و خً ضً يتحدان على التوالى مع يَ و يً ومنه تتحد النقط ا و عَ و كً و ب^ق وينتقل المستقيمان ب^ق ب_ا و ب^ق ب_اا على ق^م و ق^ك بالتوالى وتوجد النقطتان ب_ا و ب_اا على نفس هذين المستقيمين فتكون بالضرورة الزاويتان ب_ا عَ ب^ق = ا و ب_اا كً ب^ق = ب قائمتين

(ورابعا) اذا كانت الثلاث زوايا ا و ب و ج متساوية كان الثلاث زوايا الزوجية المقابلة لها ا و ب و ج متساوية ايضا لانه بسبب كون الزاوية ا = ب يتحصل ا = ب ولكون ب = ج

يحدث ـَ = جـ فينتج ا = ـَ = جـ

(وخامسا) اذا كانت الزوايا الثلاث ا و ب و ج قائمة لزم ان تكون الزوايا الثلاث ا و ـَ و جـ قائمة ايضا واثبات هذا كاثبات ما تقدم

(وسادسا) يسهل معرفة ان احدى الزوايا ا و ب و ج اذا كانت قائمة لا تُعين شيأ فى الزواية المقابلة الزوجية

(١٤٤)

من المعلوم فى الهندسة العادية ان الزوايا ا و ب و ج لا يمكن ان تكون ثلاث زوايا سطحية لزاوية ثلاثية الا اذا كان مجموعها اقل من اربع زوايا قائمة وكان كل منها اصغر من مجموع الزاويتين الاخريين وقد تحصلت هذه الشروط من العملية المتقدمة وبيان ذلك

(اولا) ان خطى الارض خَ ضَ و خً ضً كما فى (الشكل ١٣١) لا يمكن فى المسئلة العامة ان يتقاطعا الا فى النقطة ـَ ق وان ىَ و ىً يتركان الزاوية ـَ ا ـً دائما خارجة عن مجموع ا + ب + ج فيكون هذا المجموع حينئذ اصغر من اربع زوايا قائمة

(وثانيا) ان احدى الزوايا الثلاث ا اذا كان اكبر من مجموع الاثنتين الاخريين كانت النقطة ـَ ق خارج المحيطين وبناء عليه لا يمكن ان يقابل العمودان القائمان من هذه النقطة على خطى الارض هذين المحيطين ابدا

(١٤٥)

(المسئلة الثانية) اذا كان المعلوم زاويتين سطحيتين لزاوية ثلاثية والزاوية الزوجية المحصورة بينهما والمطلوب ايجاد الزاوية الثالثة السطحية والزاويتين الزوجيتين الاخريين يقال

يختار المستوى الافقى دائما مستوى احد الاوجه المعلومة ا ويفرض كما فى (الشكل ١٣٢) الوجه الاخر المعلوم ب منطبقا حول الاثر قَ م ويؤخذ خَ ضَ عمودا على قَ م فيعلم الاثر رَ م لانه لابد وان يصنع مع

خَضَ الزاوية الزوجية المعلومة عِ فتنتقل حينئذ النقطة سَ فى رجوع المستوى م الى الوضع أ فيكون مسقطها الافقى سُ ومن ذلك ينتج يُ فيؤول الامر الى المسئلة العامة انظر (بند ١٤١) لان الاثر قُ كُ معلوم واذا اخذ خط ارضى حيثما اتفق ما رابا النقطة سُ تحصلت النقطة سـ التى يمرها الاثر رُ كُ

(١٤٦)

(المسئلة الثالثة) اذا كان المعلوم وجه زاوية ثلاثية والزاويتين الزوجيتين المجاورتين والمطلوب ايجاد الزاويتين السطحيتين الاخريين والزاوية الثالثة الزوجية يقال

يختار المستوى الافقى مستوى الوجه المعلوم ا كما فى (الشكل ١٣٣) فيكون ضلعا الزاوية ا الاثرين قُ م و نُ كُ لمستوى الوجهين الاخرين اللذين ينسبان الى مستويين رأسيين خَضَ و خَضَ يكونان عمودين عليهما بالتوالى بحيث يصنع كل من الاثرين رُ م و رُ كُ مع خط الارض المقابل له الزاويتين الزوجيتين المعلومتين سـ و عِ والغرض من هذه العملية ايجاد المسقط يُ لتقاطع المستويين المذكورين وقد علمت طريقة ايجاده فى (بند ١٠١) فيؤول الامر حينئذ الى المسئلة العامة انظر (بند ١٤١)

(١٤٧)

(المسئلة الرابعة) اذا كان المعلوم وجهى زاوية ثلاثية والزاوية الزوجية المقابلة لاحدهما والمطلوب ايجاد الوجه الآخر والزاويتين الزوجيتين الاخريين يقال

يؤخذ المستوى الافقى كما فى (الشكل ١٣٤) مستوى الوجه المعلوم

ا المجاور للزاوية المعلومة ـِ ويؤخذ خَ ضَ عمودا على قَ كَ
فيعلم حينئذ رَ ويؤخذ ايضا خَ ضَ عمودا على قَ م فاذا فرض ان
المستوى م يدور حول قَ م ليشغل الوضع الفراغى الذى يجب ان يشغله
تحركت نقطة ما ـَ من يَ فى المستوى الرأسى خَ ضَ راسمة قوس
دائرة جَ وصارت فى النقطة التى يقطع فيها المستوى كَ قوس الدائرة
المذكورة وهى نقطة يمكن تحصيلها بالبحث عن الاثر رَ كَ انظر (بند ٤٧)
ويوجد على العموم نقطتان ا ـَ و ج ا يكون مسقطا هما الافقيان فى
ـَ و ج ا ويعينان مسقطين افقيين يَ و لَ لتقاطع المستويين
م و كَ فيوجد حينئذ زاويتان ثلاثيتان بواسطة هذه المعاليم
ولا يمكن الا ايجاد واحدة اذا كان الاثر رَ كَ مماسا للدائرة جَ ولا يمكن
وجود هذه الزاوية اذا كان رَ كَ لا يقابل الدائرة جَ

(١٤٨)

(المسئلة الخامسة) اذا كان المعلوم زاوية سطحية والزاوية الزوجية
المقابلة وزاوية زوجية مجاورة والمطلوب ايجاد الزاوية الثالثة الزوجية والزاويتين
السطحيتين الاخريين يقال
يؤخذ المستوى الافقى مستوى وجه مجهول ا كما فى (الشكل ١٣٥)
ويفرض المستوى م للوجه المعلوم ب منطبقا ويمد خَ ضَ عمودا
على قَ م فتحدث من رَ م مع خط الارض خَ ضَ الزاوية المعلومة جِ
المجاورة للزاوية ب واذا فرض رجوع المستوى م الى وضعه
انتقلت النقطة ـَ فى ا ـَ التى مسقطها الافقى ـَ ومنه يعلم يَ
ولايجاد قَ كَ يفرض ان المستوى كَ يدور حول محور رأسى مار بالنقطة

ا

ا حتى يصير عمودا على المستوى الرأسى خَ ضَ وفى هذا الوضع يصنع
كَ
اثر الرأسى ر مع خَ صَ الزاوية ـ المعلومة المقابلة للزاوية ب
كَ
ويصير ق عمودا على خَ ضَ فاذا فرض رجوع هذا المستوى الى وضعه
ترسم النقطة كَ حول ـ ق مجعولة مركزا قوس دائرة يكون الاثر الافقى
كَ
ق مماسا له وما زيادة على ذلك بالنقطة ا فيتعين حينئذ وبهذا يؤول
الامر الى المسئلة العامة انظر (بند ١٤١)

(١٤٩)

*(المسئلة السادسة) اذا كان المطلوب تحويل زاوية الى الافق يقال
ان هذه العملية كما فى (الشكل ١٣٦) هى عملية الزاوية الثلاثية المعلومة
زواياها الثلاث السطحية لكن يمكن ترتيب الشكل على وضع مخصوص وحيث
علمت الزاوية الواقعة بين مستقيمين والزاويتان الحادثتان منهما مع المستقيم
الرأسى فليكن ا رأس الزاوية و ن الرأسى المار بهذا الرأس و و
احد المستقيمين الصانع مع ن الزاوية المعلومة ب وليختر المستوى الرأسى
للمسقط مستوى المستقيمين ن و وليكن المستقيم الآخر هَ المنطبق
على هذا المستوى الرأسى صانعا مع ن الزاوية المعلومة ج ولتصنع
الزاوية داهُ = ا الحادثة من المستقيمين ويؤخذ اهُ = اهُ ثم يرسم
قوسا دائرة بجعل اُ مركزا و اُهَ نصف قطر لاحدهما وجعل د
مركزا و دهُ نصف قطر للآخر فيتقاطعان فى ه وبايصال اُهُ يحدث
الضلع الثانى هُ من الزاوية المطلوبة اِ ويسهل تصور اسباب اجراء تلك
العمليات بدون احتياج الى ايضاحها هنا

(١٥٠)

(المسئلة السابعة) اذا كان المطلوب رسم كرة داخل هرم مثلثى

يقال

تقسم الى قسمين متساويين كما فى (بند ١٢٨) الثلاث زوايا الزوجية التى اضلاعها غير متلاقية فى رأس واحد ويكون مركز الكرة فى نقطة تقاطع المستويات القائمة ونصف قطرها بعد هذا المركز عن احد الاوجه انظر (بند ١٣٦)

(١٥١)

(المسئلة الثامنة) اذا كان المطلوب رسم كرة خارج هرم مثلثى يقال

تقام كما فى (بند ٨٣) مستويات اعمدة على منتصف الاضلاع الثلاثة التى لا تكون على وجه واحد فتكون نقطة تقاطعها مركز الكرة المطلوبة ويتحصل نصف قطرها بايصال هذا المركز باحد الرؤس

(١٥٢)

(المسئلة التاسعة) اذا كان المطلوب رسم هرم مثلثى على مثلث حاد الزوايا معلوم وايجاد ارتفاعه يقال

يؤخذ مستوى المثلث المعلوم مستويا افقيا كما فى (الشكل ١٤٧) ويجعل المستوى الرأسى مستويا عموديا على احد اضلاعه كالضلع ا ـ وانتصور الهرم مرسوما ونطبق على المستوى الافقى الوجه سـ ا ـ الذى يكون مستويه عموديا على المستوى الرأسى فيصير مرسوما داخل نصف دائرة قطرها ا ـ وحيث ان الضلع سـ ج عمود على هذا الوجه يكون موازيا للمستوى الرأسى ويلزم ان يكون مسقطه الافقى سَـ ج عمودا على ا ـ فحينئذ تنطبق النقطة سـ على سَ والوجه سـ ا ـ على سَ ا ـ فاذا فرضنا الآن ان هذا الوجه يرجع ثانيا الى وضعه رسمت النقطة سَ قوس دائرة مركزه فى و على ا ـ والضلع سـ ج مماس بالضرورة له ورسم المسقط الافقى سَ دائرة كالاولى يكون الضلع سَ ج مماسا لها فحينئذ يكون هذا المماس ممكنا

دائما

دائما لان نصف القطر وسـ دائما اصغر من وع فحينئذ يكون عُ خارج المحيط ويتحصل كذلك المسقط سُ الذى منه ينتج سُ ومن ذلك يعلم النهرم فاذا وصلنا بين ا و سُ حدث المسقط الافقى للضلع اسـ العمود على الوجه ـ سـ ع وحينئذ يكون اسُ عمودا على ـ ع كما يكون ـ سُ عمودا على ا ع

وحيث ان ارتفاع النهرم معلوم فى مُرع تصيرا لاوجه الثلاثة اذا طبقت مرسومة داخل انصاف دوائر اوتارها المجاورة لرأس واحد من المثلث متساوية

(١٥٣)

المسئلة المتقدمة توصلنا الى نتيجتين هما ان تقول

(اولا) انه يمكن دائما رسم هرم مثلثى على مثلث ما حاد الزوايا مجعول قاعدة

(وثانيا) ان الاعمدة النازلة من رؤس مثلث ما على الاضلاع المقابلة لها تتلاقى فى نقطة واحدة وقد برهنا على ذلك فيما اذا كان المثلث حاد الزوايا واما اذا كان المثلث منفرج الزوايا ا ـ ع كما فى (الشكل ١٣٨) فانا اذا انزلنا من الرأسين ـ و ع للزاويتين الحادتين عمودين على الضلعين المقابلين لهما تقاطعا بالضرورة فى النقطة د الخارجة عن المثلث ا ـ ع وحدث منهما بالضرورة مثلث آخر ـ ع د حاد الزوايا فيه المستقيمان ـ عَ و ع سَ عمودان على الضلعين ع د و ـ د فحينئذ يصير المستقيم دا عمودا ايضا على ـ ع فحينئذ المستقيمات اَا و ـ سَ و ع عَ النازلة من رؤس المثلث ا ـ ع الثلاث اعمدة على الاضلاع المقابلة للرؤس تتلاقى فى نقطة واحدة د داخلة او خارجة بحسب كون المثلث حاد الزوايا او منفرجها

(١٥٤)

(المسئلة العاشرة) اذا كان المطلوب قطع هرم مثلثى قائم الزوايا السطحية بحيث يكون المقطع مثلثا حاد الزوايا معلوما يقال

اذا طبقنا وجوه الهرم الثلاثة المفروض فى (الشكل ١٣٩) فالمفرض ا و ب ع المثلث الذى يكون المقطع مساويا له كما فى (الشكل ١٤٠) فيكون قاعدة لهرم مثلثى قائم الزوايا السطحية مصنوع فى رأس الهرم المفروض ولنبسط ذلك الهرم فتحصل حينئذ الوجوه ر ا ب و ر ا ع و ر ب ع التى تؤخذ على التوالى داخل المثلث س ا ب و س ا ع و س ب ع كما فى (الشكل ١٣٩) ثم اذا نقلت النقطتان ا ا والنقطتان ب ب والنقطتان ع ع فى النقط ا و ب و ع الكائنة على مساقط الاضلاع الثلاث تحصل لنا المسقط الافقى لمثلث المقطع وبه يسهل ايجاد مسقطه الرأسى وحينئذ يتعين مستويه تعينا تاما ويمكن زيادة على ذلك ايجاد اثريه اذا اريد ذلك

(١٥٥)

(المسئلة الحادية عشر) اذا كان المطلوب قطع هرم مربعى قاعدته شبه منحرف بمستو بحيث يكون المقطع شكلا متوازى الاضلاع يقال

يؤخذ مستوى قاعدة الهرم التى هى ا ب ج د مستويا افقيا فلا يحتاج الى المستوى الرأسى ثم يمد ضلعا القاعدة الغير المتوازيين ا د و ب ج الى ان يتلاقيا فى النقطة و فيتقاطع مستويا الوجهين س ا د و س ب ج فى المستقيم و الذى يمر بالنقطتين س و ويتقاطع ايضا مستويا الوجهين س ا ب و س ج د اللذين اثراهما الافقيان متوازيان فى افقى لهما مارمن النقطة س اذا تقرر ذلك فالترمز بالحرف م لمستوى القطع وحيث انه يقطع الوجهين س ا ب و س ج د فى مستقيمين متوازيين وموازيين بالضرورة لتقاطع مستويى هذين الوجهين يكون هذان المستقيمان

موازيين

موازيين لخطى ا ـ و ج د وللاثر قَ فيلزم ان يكون الاثر قَ موازيا للخط ا ـ ويمكن زيادة على ذلك ان يؤخذ هذا الاثر كيف ما اتفق ثم ان المستوى م يقطع الوجهين سـ ا د و سـ ـ ج فى مستقيمين متوازيين وموازيين للمستقيم و ومارين من النقطتين سَ و صـ فاذا امد حينئذ من هاتين النقطتين موازيان للمستقيم و يقطعان سـ ا و سـ ـ و سـ ج و سـ د فى النقط اَ و ـَ و جَ و دَ ووصل بين اَ و ـَ وبين جَ و دَ كان الشكل اَ ـَ جَ دَ هو المسقط الافقى للمقطع ويلزم ان يكون شكلا متوازى الاضلاع

وحيث ان الضلعين اَ ـَ و اَ دَ موازيان بالتوالى للخط ا ـ وللمسقط و يلزم لاجل ان يكون متوازى الاضلاع اَ ـَ جَ دَ قائم الزوايا ان يكون و عمودا على ا ـ ولاجل ان يكون المسقط اَ و ـَ و جَ و دَ شكلا معينا يلزم التنبه الى ان كل مستو موازللمستوى م يقطع ايضا فى هذه الحالة الهرم فى شكل متوازى الاضلاع مسقطه الافقى شكل معين وحينئذ يمكن اخذ ا ـ اثرا للمستوى القاطع كما فى (الشكل ١٤٢) فيكون بالضرورة ا ـ احد ضلعى المعين والاخر مساويا له ضرورة فبأخذ النقطة ا مركزا و ا ـ نصف قطر يرسم محيط دائرة تؤخذ عليه النقطة دَ بالاختيار واذا امد من النقطة و موازللمستقيم اد قطع د دَ فى نقطة سـ وكان يمكن رسم المحيط المذكور بجعل النقطة ـ مركزا ثم قد يكون المسقط اَ ـَ جَ دَ مربعا اذا كان دَ على المحيط المتقدم و عمودا على ا ـ

(المسئلة الثانية عشر) اذا كان المطلوب قطع هرم مربعى ذى قاعدة ما

بمستو بحيث يكون المقطع متوازى الاضلاع يقال
يؤخذ المستوى الافقى مستوى القاعدة ا ـ ع د كما فى (الشكل ١٤٣)
ولا يرسم هنا المسقط الرأسى لسهولة ايجاده متى اريد ثم يمد الضلعان المتقابلان
ا ـ و ع د الى ان يتلاقيا فى نقطة و وبالوصل بين النقطتين و و سـ
يحصل المسقط الافقى ىَ لتقاطع مستويى الوجهين سـ ا ـ و سـ ع د
ثم يمد ايضا الضلعان المتقابلان ا د و ـ ع الى ان يتلاقيا فى نقطة و
وبالوصل بين النقطتين و و سـ يحصل المسقط الافقى ىَ لتقاطع
مستويى الوجهين سـ ا د و سـ ـ ع فيكون المستقيم و و
الاثر الافقى للمستوى (ىَ ىَ) أو س اذا تقرر هذا وجب ان يقطع
المستوى القاطع كل وجهين متقابلين من الاوجه المتقابلة فى مستقيمين
متوازيين وموازيين بالضرورة لتقاطعهما وان يكون هذا القاطع نفسه
موازيا للمستقيمين ى و ىَ معا وموازيا بالضرورة لمستويهما فيكون قَ
حينئذ موازيا سـ قَ ويمكن ان يؤخذ مستقيم ما مستوف لهذا الشرط
ثم يمد من النقطتين سـ و صـ اللتين هما تقاطع قَ بالمستقيمين
ا ـ و ع د موازيان للمسقط ىَ ويمد ايضا من النقطتين ؤ و ز
اللتين هما تقاطع قَ بالمستقيمين ا د و ـ ع موازيان للمسقط ىَ
فتتقاطع هذه المستقيمات فى نقط على مساقط الاضلاع يتحصل منها المسقط
الافقى ا ـ ع د للمقطع الذى يكون بالضرورة شكلا متوازى
الاضلاع

وقد يكون المسقط الافقى ا ـ ع د مستطيلا اذا كان المسقطان ىَ و ىَ
للتقاطعين عمودين على بعضهما اعنى اذا كانت النقطة سـ كما فى

(الشكل ١٤٤)

(الشكل ١٤٤) موجودة على محيط الدائرة المرسوم على القطر
وِ

وقد يكون المسقط اَ بَ جَ دَ شكلا معينا اذا كان المثلث وسَ وِ
كما في (الشكل ١٤٥) متساوى الساقين واذا كانت النقطة سَ زيادة عن
كون المثلث المذكور متساوى الساقين موجودة على محيط دائرة قطره وِ
يكون المسقط اَ بَ جَ دَ مربعا

(الباب الخامس)

(فى انواع المساقط)

(١٥٧)

لم نعتبر فيما تقدم الا المساقط العمودية على مستويين عمودين على بعضهما ويمكن ان يراد دائما بمسقط نقطة على مستو النقطة التى يقابل فيها مستقيم ما مار بالنقطة المعلومة هذا المستوى لكن نوع المساقط المتقدم اكثر استعمالا ومع ذلك فقد تستعمل انواع مساقط اخر لا يعتبر فيها الا مستو واحد للمسقط وابسطها النوع الذى تتركب منه المستويات المتناسبة والموزونة وقد تتعين النقطة فى هذا النوع بمسقطها العمودى على مستو يسمى بمستوى الاقتران المختار عادة فوق جميع نقط الشكل المسقط وبعدد مكتوب بجوار مسقط النقطة يدل على البعد الكائن بينها وبين مستوى الاقتران ويسمى هذا العدد بمقدار بعد النقطة وتكون مقادير ابعاد النقط الكائنة اعلا مستوى الاقتران سالبة ويشاهدان هذا النوع يرجع للمساقط العمودية لانه يمكن بواسطة مقدار بعد كل نقطة من نقط جملة الشكل المسقطة ايجاد مسقطه على مستو ما عمود على مستوى الاقتران وذلك باختيار خط ما ارضى وانزال عمود على هذا الخط من المسقط المعلوم لكل نقطة وان يؤخذ على هذا الخط فى الجهة المناسبة ابعاد مساوية لمقادير ابعاد هذه النقط انظر (بند ٥)

وقد يتعين المستقيم فى هذا النوع بمسقطى نقطتين من نقطه ومقدارى بعديهما انظر (بند ١٨) واما المستوى فيتعين بخطه الاعظم ميلا بالنسبة لمستوى الاقتران انظر (بند ٣٨) ويسمى هذا الخط بمقياس ميل المستوى

وهذا النوع كثير الاستعمال لاسيما فى الرسم المتعلق بالاستحكامات واشغال حفر وردم الطرق والخلجان وما اشبه ذلك

وحيث كان لا يتيسر فى العادة فرخ من ورق الرسم فيه كفاية لان يسع صورة الاجسام المرسومة كلها اى على حجمها الطبيعى تختصر الصور الى مقياس اختصارى معين يرسم فى الصور وتعد عليه المقادير الافقية وتبقى مقادير ابعاد النقط على حقيقتها دائما مالم يرد عمل المسقط الرأسى للجسم فانها تصغر بتصغير الجسم على مقتضى مقياسه الاختصارى وسيشاهد مع ذلك انه لا يمكن فى بعض الاحيان تصغير المسقطين الافقى والرأسى بنسبة واحدة بسبب امور سيأتى ذكرها فيما بعد

(١٥٨)

المساقط المائلة هى المساقط التى تتعين بمستقيمات مائلة بالنسبة لمستوى المسقط ومتوازية كلها ولاجل امكان ايجاد مسقط النقطة المائل يلزم معرفة اتجاه وميل المستقيم المسقط لها بالنسبة لمستوى المسقط ويعين الاتجاه عادة بميله يعنى بالنسبة الواقعة بين ارتفاع وقاعدة المثلث القائم الزاوية الحادث من المستقيمين المسقطين للنقطة اسقاطا عموديا ومائلا ومن المستقيم الواصل بين المسقطين فينتج من ذلك ان النقطة تتعين بمسقطها العمودى والمائل على مستو واحد لان المسقط العمودى يعلم منه مستقيم توجد عليه النقطة المذكورة وبعد المسقطين مع النسبة المعلومة بين ارتفاع المثلث القائم الزاوية المذكور وقاعدته يتعين البعد بين النقطة ومستوى المسقط فاذا كانت الخطوط المسقطة مائلة بقدر ٤٥° على مستوى المسقط يكون المثلث القائم الزاوية متساوى الساقين وتكون قاعدته مساوية لارتفاعه فيكون بالضرورة البعد الكائن بين النقطة ومستوى المسقط مساويا للبعد الكائن بين مسقطيها

ويسمى هذا المسقط الثانى فى نظرى الظل بالظل الساقط من النقطة على مستوى المسقط الافقى المأخوذ عادة مستويا هندسيا واما المستوى الرأسى فيؤخذ فى القطوع والارتفاعات

وقد يتعين المستقيم ايضا بمسقطه العمودى ومسقط مائل على المستوى المذكور والمستوى بمسقطى خطه الاعظم ميلا واما مايسمى بالمنظور العسكرى فليس

الاسقطا مائلا ويستعمل ايضا فى اشغال صناعة القناطر والجسور لايضاح تفاصيل اوصال اجزاء التراكيب الداخلية

(١٥٩)

ويطلق اسم المساقط الاسطوانية على المساقط العمودية والمائلة التى ذكرت آنفا وهنالك نوع آخر من المساقط يسمى بالمساقط المخروطية ويسمى ايضا بالمساقط المركزية او القطبية وفى هذا النوع ترجع جميع المستقيمات المسقطة بنقطة واحدة ثابتة تسمى قطبا او مركز المساقط

ويستعمل فى هذا النوع مستويان قائما الزاوية يسمى احدهما بالمستوى الهندسى الذى تسقط عليه اسقاطا عموديا جملة الشكل والآخر بمستوى المنظور الذى يجرى عليه المسقط المخروطى أو منظور تلك الجملة ويطلق على خط الارض فى هذه الحالة اسم قاعدة مستوى المنظور

وتتعين اى نقطة فى الفراغ متى علم مسقطها العمودى على المستوى الهندسى ومنظورها وقاعدة مستوى المنظور ومركز المساقط او نقطة النظر ويمكن تعيين النقطة ايضا فى الفراغ بواسطة منظورها ومقدار بعدها عن المستوى الهندسى ومسقط نقطة النظر على مستوى المنظور وبعدها عنه ومقدار بعدها لانه يمكن بواسطة هذه المعالم معرفة مسقط النقطة على المستوى الهندسى وان مقدار بعد نقطة النظر قد يعين قاعدة مستوى المنظور

(١٦٠)

لكن اذا لم يكن المطلوب الانسب الوضع على مستو يمكن ان يفرض بجميع النقط والمستقيمات مسقط واحد ويبقى وضع الشكل فى الفراغ اختياريا وقد سبق استعمال هذا فى بعض مسائل من الباب الثالث من هذا الكتاب وظهرت عدة مؤلفات تتعلق بهذا الغرض

* (فى المستويات المنتسبة والموزونة) *

(١٦١)

هذا الفصل يحتوى على قياس الابعاد الافقية بمقياس اختصارى مقدر عليه المتر الواحد بهذا المقدار ٠٫٠٠١ م كما فى (الشكل ١٦٤) واما عشر المتر فقدر عليه بواحد من الف من متر بحيث اذا اريد اخذ بعد اصغر من عشر المتر مثلا كواحد من مائة يرتب المقياس بهذه الكيفية بان يقام كما فى (الشكل ١٤٧) من احدى الطرفين ا للمستقيم ا ـ عمود يؤخذ عليه بعد اختيارى عشر مرات ويعدد من جميع النقط ١ و ٢ و ٣ ..... الى ١٠ خطوط موازية للمستقيم ا ـ ثم يقسم الموازى الاخير الى اجزاء من الف من المتر مقدارها عشرة ثم يوصل بين ١ و ١٠ وبين ٢ و ٢َ وبين ٣ و ٣َ الى ١٠ و ٩َ من كل من الموازيين المتطرفين فيتضح ان جميع المستقيمات الحادثة كلها متوازية وان كل اثنين منها متتاليين يحصران على الخطوط الموازية للخط ا ـ اجزاء مساوية ٠٫٠٠١ م وان الاجزاء المحصرة بين خطى ١٠ ـ ٩َ و ١٠ ـ ١٠َ من الخطوط الموازية للخط ا ـ الممتدة من النقط ١ و ٢ و ٣ .... الى ١٠ مساوية بالتوالى ٠٫٠٠١ و ٠٫٠٠٢ و ٠٫٠٠٣ .... الى ٠٫٠٠٩ و ٠٫٠٠١ لانه اذا اعتبر الجزؤ ١ ـ محسوبا على الخط الموازى المار من النقطة ٧ يحدث من المثلثين المتشابهين ١٠ ـ ١ ـ ـ و ١٠ ـ ٩َ ـ ١٠َ هذه المتناسبة

١٠ ـ ١٠َ : ١٠ ـ ـ :: ٩َ ـ ١٠َ : ١ ـ

وحيث ان ١٠ ـ ١٠َ محتوى على ١٠ اجزاء يحتوى المستقيم ١٠ ـ ـ على ٧ منها وان ٩َ ـ ١٠َ = ٠٫٠٠١ م يمكن تحويل هذه المتناسبة الى هذه

١٠ : ٧ :: ٠٫٠٠١ م : ١ ـ = ٠٫٠٠٧ م

وبهذه الكيفية توجد مقادير الاجزاء المحصرة على بقية الخطوط المتوازية اذا تقرر هذا بفرض انه اذا اريد ان يقدر على هذا المقياس طول يساوى ٧٫٦٤ م يؤخذ على الخط الموازى ا ـ المار من النقطة ٤ الطول ع د فيكون هو المستقيم المطلوب المحول الى المقياس المذكور لان

هذا المستقيم ع د يتركب من ع هـ = ٠ر٠٧م ومن د ز = ٠ر٠٠٦م
ومن الجزء هـ ز = ٠ر٠٠٠٤م فيكون المجموع الذى هو ع د
= ٠ر٠٧٦٤م هو المبين للطول المفروض ٧ر٦٤م على المقياس
الاختصارى

(١٦٢)

(المسئلة الاولى) اذا كان المطلوب ايجاد مقدار بعد نقطة ما معلومة المسقط
وعلى مستقيم معلوم يقال

يفرض المستوى المسقط للمستقيم المعلوم و على مستوى الاقتران المعتبر
افقيا كما فى (الشكل ١٤٨) مستويا رأسيا للمسقط بحيث
يكون وَ خط الارض خ ض ويوجد و بان يؤخذ على خطين عمودين
على خ ض البعدان مَ م و مَ مَ مساويين بالتوالى لمقدارى البعدين
المعلومين صـ و صَـ للنقطتين م و مَ فباقامة العمود مَ مَ
بدل طوله بالضبط على مقدار البعد المطلوب صَـ للنقطة مَ ثم لايجاد
المقدار العددى بنسبة مقدارى البعدين المعلومين صـ و صَـ يعد م ل
موازيا خ ض فيكون مَ ل = مَ ط = مَ م = صـ فيحدث من
المثلثين المتشابهين م ل مَ و م ط مَ المتناسبة م ل : م ط :: ل مَ : ط مَ أو

م مَ : م مَ :: مَ مَ — م مَ : مَ مَ — م مَ أو
سَـ : سَّ :: صَـ — صـ : صَـ — صـ

ومنه يحدث

$$صَـ - صـ = \frac{سَـ(صَـ - صـ)}{سَـ}$$ و

$$صَّ = صـ + \frac{سَـ(صَـ - صـ)}{سَـ} = \frac{صـ(سَـ - سَـ) + صَـ سَـ}{سَـ}$$

ولنفرض مثلا ان و هو المستقيم كما فى (الشكل ١٤٩) وان المطلوب

مقدار

مقدار بعد النقطة م فيوضع على المقياس الاختصارى كما فى (الشكل ١٤٦) البعد ان الافقيان م م و م م وليفرض انهما وجدا مساويين بالتوالى ٠٫٠٢م و ٠٫٠١٥م وهذا يوصل الى الطولين الاصليين سـ = ٢م و سـ = ١٫٥م انظر (بند ١٦١) ومن المعلوم ان معنا زيادة على ذلك صـ = ٥٫٢٠م و صـ = ٩٫٦٠م فبوضع هذه المقادير فى القانون المتقدم يحدث

$$ص = \frac{٢٫٥ \times (٢ - ١٫٥) + ٩٫٦ \times ١٫٥}{٢} = \frac{٢٫٥ \times ٠٫٥ + ٩٫٦ \times ١٫٥}{٢}$$

$$= \frac{٢٫٦٠ + ١٤٫٤٠}{٢} = \frac{١٧}{٢}$$

أو

$$ص = ٨٫٥م$$

(١٦٣)

(المسئلة الثانية) اذا كان المطلوب ايجاد مسقط نقطة ما معلوم مقدار بعدها على مستقيم معلوم يقال

بعد رسم المستقيم و كما تقدم يؤخذ كما فى (الشكل ١٤٨) على م م طول م ل يساوى مقدار البعد المعلوم صـ ثم يعد ل م موازيا لخط الارض خ ض فتكون النقطة م هى النقطة المطلوبة التى يكون مسقطها الافقى فى م لكن لا بد من ايجاد البعد الكائن بينها وبين النقطة م ولذا يستخرج بعد تركيب هذه المناسبة

سـ : سـ :: صـ - صـ : صـ - صـ كما تقدم

$$سـ = \frac{سـ (صـ - صـ)}{صـ - صـ}$$

واذا فرض مثلا كما فى (الشكل ١٥٠) ان و المستقيم المعلوم والمطلوب ايجاد نقطة عليه مقدار بعدها ٨م يقال بعد وضع البعد م م على المقياس الاختصارى الذى هو شكل ١٤٦ يفرض ان هذا البعد وجد مساويا للعدد ٠٫٠٠٥م الموصل الى سـ = ٠٫٥ انظر (بند ١٦١) ومن

المعلوم ان معنا زيادة عن ذلك صـ = ١٦٫٣٠م و صَـ = ١٣٫٧٠م
و صَـ = ٨م فينتج
صَـ — صـ = ٨م — ١٦٫٣٠م = — ٨٫٣٠م و
صَـ — صـ = ١٣٫٧٠م — ١٦٫٣٠م = — ٢٫٦٠م
فبوضع هذه المقادير فى القانون المتقدم تزول العلامة — وكان يمكن التحفى
عن هذه العلامة من اول الامر لانه لو فرض مقدار البعد صـ فى الشكل ١٤٨
اكبر من مقدار البعد صَـ ومن مقدار البعد صـَ لسهلت معرفة كون
هذه الاعمال توصل الى هذا القانون سَـ = $\frac{سـ(صـ - صـَ)}{صـ - صـَ}$
الذى يبدل فيه صـ — صـَ و صـ — صَـ بالمقادير الموجبة
٨٫٣٠م و ٢٫٦٠م ومنه ينتج حينئذ
سَـ = $\frac{٨٫٣٠ \times ٠٫٥}{٢٫٦٠}$ = $\frac{٤١٥}{٢٫٦٠}$ = $\frac{٨٣}{٥٢}$ = ١٫٥٩٦١٥٣٨٤٦١٥٣
أو سـ = ١٫٦٠م تقريبا فاذا حول هذا المقدار الى المقياس الاختصارى
يصير ٠٫٠١٦م وباخذه على المقياس المذكور ووضعه من م الى مَّ
فى جهة مقادير الابعاد المتنازلة تكون النقطة مَّ هى النقطة المطلوبة
فاذا اريد ايجاد ائر المستقيم المذكور على مستوى الاقتران اى النقطة التى مقدار
بعدها صفر يكفى جعل صَـ = ٠ ومنه ينتج سَـ = — $\frac{صـ سـَ}{صـَ - صـ}$
وينبغى الاهتمام بجعل الابعاد السالبة فى جهة مضادة للجهة الموضوع فيها
الابعاد الموجبة

(المسئلة الثالثة) اذا كان المطلوب ايجاد ميل مستقيم ما على مستوى
الاقتران يقال
ان هذا الميل مقدر بالزاوية الحادثة من المستقيم المذكور مع مسقطه على هذا
المستوى فيعلم حينئذ من الشكل ١٤٨ حيث يستنتج منه
ظا ل م مَ = $\frac{لـ مَ}{لـ م}$ = $\frac{صـَ - صـ}{سـَ}$

فاذا

فاذا فرض ان الغرض ايجاد ميل المستقيم و المعلوم فى (الشكل ١٤٩) يكون معنا صَ ـ صـ = ٤٠ر٤م و سَ = ٢م فحينئذ اذا جعلت الزاوية ل م مَ = ا ـ و ظا ا = $\frac{٤٠ر٤م}{٢}$ = ٢٠ر٢م يحدث

لوغا ظا ا = لوغا ٢٠ر٢م = ٠ر٣٤٢٤٢٣٧ =

لوغا ظا (٢٢° ٣٣' ٦٥") فينتج ا = ٢٢° ٣٣' ٦٥"

(١٦٥)

(المسئلة الرابعة) اذا كان المطلوب ايجاد البعد بين نقطتين على مستقيم معلوم يقال

يحدث من المثلث القائم الزاوية م ل مَ كما فى (الشكل ١٤٨)

م مَ = $\sqrt{\text{م ل}^٢ + \text{ل مَ}^٢}$ أو و = $\sqrt{\text{سَ}^٢ + (\text{صَ} - \text{صـ})^٢}$

فاذا كان المطلوب الآن ايجاد البعد بين النقطتين م و مَ كما فى (الشكل ١٤٩) يعلم من (بند ١٦٢) سَ = ٢م و صَ ـ صـ = ٤٠ر٤م

فاذا وضع هذان المقداران فى القانون حدث م مَ أو

و = $\sqrt{٢^٢ + (٤ر٤)^٢}$ = $\sqrt{٤ + ١٩ر٣٦}$ = $\sqrt{٢٣ر٣٦}$

أو

و = ٤ر٨٣٣٢

(١٦٦)

(المسئلة الخامسة) اذا كان المطلوب ايجاد نقطة بعيدة عن اخرى معلومة بمقدار معلوم على مستقيم معلوم يقال

اذا فرضت مُ النقطة المطلوبة يلزم معرفة م مُ أو سَ و مَ مُ أو صَ وقد علم من (بند ١٦٢) صَ ـ صـ = $\frac{\text{سَ}(\text{صَ} - \text{صـ})}{\text{سَ}}$

ثم يحدث من المثلث القائم الزاوية م مُ ط

و^٢ = سَ^{٢} + (صَ ـ صـ)^٢ = سَ^{٢} + $\frac{\text{سَ}^٢(\text{صَ} - \text{صـ})^٢}{\text{سَ}^٢}$

$= \frac{\text{سَ}^2 [\text{سَ}^2 + (\text{صَ} - \text{صـ})^2]}{\text{سَ}^2}$ ومنه ينتج

$\text{سَ}^2 = \frac{\text{و}^2 \text{سَ}^2}{\text{سَ}^2 + (\text{صَ} - \text{صـ})^2}$ فيكون $\text{سَ} = \pm \frac{\text{و سَ}}{\sqrt{\text{سَ}^2 + (\text{صَ} - \text{صـ})^2}}$

ويستخرج من (بند ١٦٢) $\text{صً} = \text{صـ} \pm \frac{\text{و}(\text{صَ} - \text{صـ})}{\sqrt{\text{سَ}^2 + (\text{صَ} - \text{صـ})^2}}$

فاذا كان المطلوب الآن ان يؤخذ على المستقيم و كما فى (الشكل ١٥١) طول يساوى ٦م بالابتدا من النقطة م يفرض بعد نقل البعد الافقى $\text{م}^{\text{ق}}\text{مَ}^{\text{ق}}$ على المقياس الاختصارى كما فى (الشكل ١٤٦) ان هذا البعد وجد مساويا ٠٫٠٢٧م فيستخرج منه سَ = ٢٫٧٠م ومن المعلوم ان معنا زيادة عن ذلك صـ = ١٨م و صـ = ٢٥م فبأبدال تلك الحروف بمقاديرها فى القوانين المتقدمة يحدث

$\text{سً} = \pm \frac{٦ \times ٢٫٧}{\sqrt{(٢٫٧)^2 + ٧^2}} = \pm \frac{١٦٫٢}{\sqrt{٦٫٢٩}} =$

$= \pm \frac{١٦٫٢ \sqrt{٥٦٫٢٩}}{٥٦٫٢٩} = \pm \frac{\sqrt{١٤٧٧٨٫٣٧٦٦}}{٥٦٫٢٩} =$

$= \pm \frac{١٢١٥٦٫٦٣}{٥٦٫٢٩} = \pm ٢٫١٥$ فاذا اخذ من كلتا جهتى $\text{م}^{\text{ق}}$ طول يساوى المقدار ٠٫٠٢١٥م المأخوذ بالمقياس الاختصارى كما فى (الشكل ١٤٧) تحصل نقطتان $\text{مً}^{\text{ق}}$ و $\text{مً}^{\text{ق}}$ هما المسقطان الافقيان للنقطتين المطلوبتين ومن حيث ان سَ معلوم فلاجل ايجاد مقدارى البعدين صً و صً يستعمل هذا القانون

$\text{صً} = \text{صـ} \pm \frac{\text{سَ}(\text{صَ} - \text{صـ})}{\text{سَ}}$ الذى يحدث منه

$\text{صً} = ١٨\text{م} \pm \frac{٢٫١٥ \times ٧}{٢٫٧} = ١٨\text{م} \pm \frac{١٥٠٫٥}{٢٧} = ١٨ \pm ٥٫٥٧$

فيكون حينئذ مقدار بعد النقطة مً هو صً = ٢٣٫٥٧م ومقدار بعد النقطة مً هو صً = ١٢٫٤٣م بالتقريب فيكون للكمية سَ مقداران متساويان ومختلفا الاشارة لانه يمكن اخذ النقطة $\text{مً}^{\text{ق}}$ من

كلتا

كلتا جهتى م ق مقدارا ضـ يقابلان بالتوالى هاتين النقطتين اللتين لابد وان يكون مقدارا بعديهما مختلفين

(١٦٧)

اذا توازى مستقيمان توازى مسقطاهما الافقيان بالضرورة وتزايدت مقادير ابعاد نقطهما فى جهة واحدة ويلزم ان يكون البعدان الافقيان لنقطتين من كل مستقيم مناسبين لفاضل مقداري بعديهما انظر (بند ٢٢)

وبالعكس اى اذا توفرت هذه الشروط لابد وان يكون المستقيمان متوازيين فيسهل حينئذ مد مستقيم موازلآخر معلوم من نقطة معلومة

(١٦٨)

(المسئلة السادسة) اذا كان المطلوب ايجاد الزاوية الواقعة بين مستقيمين يقال

اذا لم يتقاطع المستقيمان المفروضان يمد من نقطة ما موازيان لهما انظر (بند ١٦٧) فتكون الزاوية الواقعة بينهما هى الزاوية المطلوبة ولايجاد هذه الزاوية يمكن استعمال طريقتين نذكرهما فنقول

*(اولا) يؤخذ على المستقيمين ا و ب كما فى (الشكل ١٥٢) نقطتان متحدتا مقدارى البعدين ولذا يبحث على المستقيم ب عن النقطة ع التى يساوى مقدار بعدها مقدار البعد المعلوم للنقطة م من المستقيم ا فيكون المستقيم م ع حينئذ افقيا ومساويا لمسقطه م ع انظر (اولا من بند ٥٦) واذا بحث عن الطولين ع و م كما فى (بند ١٦٣) للجزءين د م و د ع من المستقيمين ا و ب علمت ثلاثة اضلاع المثلث د م ع فيمكن حينئذ ان يستخرج من ذلك الزاوية المطلوبة م د ع فاذا فرض ان المستقيم ا معلوم بالنقطة د التى مقدار بعدها (٣٫٥ م) وبالنقطة م التى مقدار بعدها (٣٫٨ م) وبالمسقط د م = ٠٫٠٢ م وان المستقيم ب معلوم بالنقطة د التى مقدار بعدها (٣٫٥ م) وبالنقطة ه التى مقدار بعدها (١٫٢٤ م) وبالمسقط د ه = ٠٫٠٤٥ م

يتحصل اولا النقطة $\overset{ن}{ع}$ بواسطة القانون المقرر فى (بند ١٦٣) فيكون

$$\overset{ن ن}{د ع} = \frac{٠,٠٤٥ (٣,٥ - ٢,٨)}{٣,٥ - ١,٢٤} = \frac{٣,١٥}{٢,٢٦} = ٠,٠١٤ م$$

بالتقريب ثم يحدث من القانون المقرر فى (بند ١٦٥) $ع = \sqrt{٤ + ٠,٤٩}$

$= ٢,١٢ م$ و $م = \sqrt{١,٩٦ + ٠,٤٩} = ١,٥٦ م$

و $و = ١,٤٠ م$ ثم يستخرج من علم المثلثات هذان القانونان

$$جت \frac{١}{٢} د = \sqrt{\frac{س (س - و)}{م ع}}$$

$$و \ ظا \frac{١}{٢} د = \sqrt{\frac{(س - م)(س - ع)}{س (س - و)}}$$

بجعل $س = \frac{م + ن + و}{٢}$ وبوضع المقادير المتقدمة وهى $م =$

$١,٥٦ م$ و $ع = ٢,١٢ م$ و $و = ١,٤٠$ فى القانون

المذكور ينتج

$س = \frac{١,٥٦ + ٢,١٢ + ١,٤٠}{٢} = ٢,٥٤ م$ فيكون

$س - م = ٠,٩٨ م$ و $س - ن = ٠,٤٢$ و $س - و = ١,١٤ م$

ومنه ينتج

$ظا \frac{١}{٢} د = \sqrt{\frac{٠,٩٨ \times ٠,٤٢}{٢,٥٤ \times ١,١٤}}$ فينتج بالضرورة

$لوغا \ ظا \frac{١}{٢} د = \frac{١}{٢} لوغا \ ٠,٩٨ + \frac{١}{٢} لوغا \ ٠,٤٢$

$+ \frac{١}{٢} تمام \ لوغا \ ٢,٥٤ م + \frac{١}{٢} تمام \ لوغا \ ١,١٤ م =$

$\bar{١},٩٩٥٦١٣٠٤ + \bar{١},٨١١٦٢٤٦٤ + ٤,٧٩٧٥٨٣١٤$

$+ ٤,٩٧١٥٤٧٥٧ = ٩,٥٧٦٣٦٨٤ =$

$لوغا \ ظا \ (٢٠^\circ \ ٣٩' \ ٢٧'')$ فيكون $د = ٤١ \ ١٨' \ ٥٤''$

(وثانيا) يمكن اخذ طولين متساويين على الضلعين ا و ب من

الزاوية المطلوبة ولذلك يؤخذ على $\overset{ن}{ا}$ نقطة $\overset{ن}{م}$ ويبحث عن الطول الحقيقى

للمستقيم

للمستقيم د م انظر (بند ١٦٥) ثم تعين على ب نقطة ج بحيث يكون د ج = د م انظر (بند١٦٦) ويوصل م الى ج ويبحث ايضا عن الطول الحقيقى للمستقيم م ج فيعلم ثلاثة اضلاع المثلث د م ج وحينئذ تحسب الزاوية د بواسطة القوانين المستخرجة من حساب المثلثات ولم نطبق هذه الطريقة على مثال لسهولة التمرن عليها

(١٦٩)

(المسئلة السابعة) اذا كان مستو معلوما بمقياس ميله ومسقط نقطة منه والمطلوب ايجاد مقدار بعدها يقال

مقياس الميل كما فى (الشكل ١٥٣) حيث كان معينا بمسقطه هـ وبمقدارى بعدى النقطتين م و ج اللذين هما (٣٫٥٤م) و (٨٫١٢م) وكانت المسافة م ج مساوية ٠٫٠٥م يبحث اولا عن النقطتين ع و ك اللتين مقدارا بعديهما بالتوالى العددان الصحيحان ٣ و ٨ انظر (بند ١٦٢) ثم تقاس المسافة ع ك وتقسم الى خمسة اجزاء متساوية ويكتب بجوار نقط هذه التقاسيم ٤ و ٥ و ٦ و ٧ وبهذا يسهل مد القسمة وايجاد اى نقطة اريد معرفتها لكن يمكن الاستغناء عن ذلك متى اريد ويكفى التنبيه الى ان النقطة س توجد على افقى من المستوى الذى يكون مسقطه الافقى ط عمودا على هـ ويقطع هـ فى نقطة ر يبحث عن مقدار بعدها انظر (بند ١٦٣) فيكون عين مقدار بعد النقطة س

وليفرض مثلا ان النقطة ر قد وقعت بين النقطتين م و ج وان م ر = ٠٫٠٣٦م ومعلوم فى القانون المقرر فى (بند ١٦٢) وهو

$$ص_س = ص_ه + \frac{س_ه (ص_ج - ص_ه)}{س_ج}$$

ان $ص_ه$ = ٣٫٥٤م و $ص_ج$ = ٨٫١٢م و $س_ج$ = ٥م و $س_ه$ = ٣٫٦م فيكون

صَ ـ صـ = ٨٫١٢م ـ ٣٫٥٤م = ٤٫٥٨م فيحدث حينئذ بالتبديل

صَ = ٣٫٥٤ + $\frac{٤٫٥٨م \times ٣٫٦م}{٥}$ = ٣٫٥٤م + ٤٫٥٨م × ٠٫٧٢ = ٣٫٥٤م + ٣٫٢٩٧٦م فيكون حينئذ مقدار البعد المطلوب للنقطة سـ هو صَ = ٦٫٨٣٧٦م

ويرسم مقياس الميل لمستو بخطين متوازيين متقاربين جدا ويقسم دائما الى اجزاء متساوية بحيث تصنع مقادير ابعاد نقط التقاسيم سلسلة اعداد صحيحة لانه يسهل حينئذ ايجاد مقادير ابعاد عدة نقط المستوى المختلفة

(١٧٠)

(المسئلة الثامنة) اذا كان المطلوب ايجاد تقاطع مستويين يقال ان هذه المسئلة قد تقدم حلها في (بند ١٠٠) باستعمال مسقطين فينبغي اجراء العمليات التي اجريت في حلها غاية ما فيه يعوض المساقط الرأسية بمقادير الابعاد فيقال

(اولا) اذا لم يكن المسقطان هـ و هَ كما في (الشكل ١٥٤) لمقياسي الميل متوازيين يؤخذ نقطتان م و ح على هـ مقدارا بعديهما العددان الصحيحان ٨م و ٣م انظر (بند ١٦٣) ويقاس البعد الافقي م ح الذي وجد مساويا ٠٫٧٢م ويبحث على هَ عن نقطتين مَ و حَ متحدتين في مقداري بعديهما مع النقطتين الاوليين وهما ٨م و ٣م ويقاس البعد الافقي مَ حَ الذي وجد مساويا ٠٫٤٣م ثم يمد من النقطتين م و مَ مافقيان ط و طَ يتقاطعان في نقطة ط من التقاطع المطلوب مقدار بعدها (٨م) ويمد كذلك من النقطتين ح و حَ افقيان آخران ح و حَ يتقاطعان في نقطة اخرى ع من التقاطع الذي تم تعيينه بهما مقدار بعدها (٣م)

(وثانيا) اذا كان المسقطان هـ و هَ متوازيين كما في (الشكل ١٥٥) فلا يتقاطع حينئذ المستقيمان ط و طَ والمستقيمان ح و حَ الا ان المسقط ى

في هذه

فى هذه الحالة يكون موازيا ط و طَ وماراولابد من نقطة تقاطعهما اللانهائية ولايجاد نقطة منه يؤخذ على ط و طَ نقطتان حيثما اتفق ط و طَ يوصلان بمستقيم ا ثم يمد على ح و حَ مستقيم ب موازا فيصير هذان المستقيمان ا و ب افقيين لمستو ثالث قاطع للمستويين المفروضين فى مستقيمين ع ط و عَ طَ يتقاطعان فى نقطة سـ من التقاطع المطلوب فاذا مد الان من سـ موازللمساقط الافقية للافقيان كان هو ى ويمكن لايجاد مقدار بعد النقطة سـ حساب هذا المقدار على احد المستقيمين ع ط و عَ طَ ويمكن ايضا التنبيه على ان التقاطع ى حيث كان افقيا لابدان يقابل هـ و هَ فى نقطتين متحدتى مقدار البعد وهذا المقدار هو عين مقدار النقطة سـ ايضا

(وثالثا) من البين انه اذا مد مستقيمان آخران كيف ما اتفق كمستقيمى ا و ب امكن ايجاد عدة نقط كالنقطة سـ مهما اريد من التقاطع ى فحينئذ هذا الحل يليق ايضا بالحالة التى يصنع فيها المسقطان الافقيان هـ و هَ بدون ان يتوازيا زاوية صغيرة جدا بحيث لايمكن تلاقى المستقيمين ط و طَ والمستقيمين ح و حَ الاخارج حدود الرسم ويوجد كما تقدم فى الحالة الثانية نقطتان بالوصل بينهما يحدث ى ولايجاد مقدارى بعدى النقطتين سـ و سـَ يمكن ان يمد من هاتين النقطتين افقيان لاحد المستويين ويبحث عن مقدارى بعدى النقطتين اللتين يقابل فيهما هذان الافقيان مقياس الميل

(١٧١)

(المسئلة التاسعة) اذا كان المطلوب ايجاد تقاطع مستقيم مع مستو يقال

يمد من نقطة من المستقيم المعلوم و كما فى (الشكل ١٥٦) مستقيم ما ط يعتبر افقيا لمستو ما بالمستقيم و ثم يمد فى المستوى المعلوم افقى ح

متحد مقدار البعد مع المستقيم ط فيكون كل من هذين المستقيمين ط و ح في مستو افقي ويتقاطعان في نقطة سه من تقاطع المستوى المعلوم مع المستوى (و ط) فاذا مد مستقيمان افقيان آخران طَ و حَ متحد المقدار ايضا تقاطعا في نقطة ثانية سَه من التقاطع ى الذى تم تعيينه بهما والذى يقابل المستقيم و في نقطة نَ وهي النقطة المطلوبة

(١٧٢)

(المسئلة العاشرة) اذا كان المطلوب انزال عمود من نقطة معلومة على مستو معلوم يقال

حيث كان مسقط العمود عمودا على مسقط افقي المستوى لزم ان يكون موازيا هُ وان تكون مقادير الابعاد زيادة عن ذلك في جهة مضادة لجهة مقادير ابعاد مقياس الميل وان يكون ميلا هذين المستقيمين متممان لبعضهما وبيان ذلك ان يفرض من النقطة التي يقابل فيها العمود ن المستوى خط اعظم ميلا ا فيكون المستوى (ا ن) رأسيا فاذا اعتبر مستويا رأسيا للمسقط كما في (الشكل ١٥٧) كان اُ و نُ على خط الارض خ ض وتقاطع المستقيمان ا و ن في نقطة سه وصارا عمودين على بعضهما فتكون الزاويتان الواقعتان بينهما وبين خ ض متممتين لبعضهما فينتج ظا ـ = ظت ا لكن اذا انزل عمود سه سَه على خ ض ومد الافقيان ال و دَ ك نتج ظت ا = ا ل / سه ل و ظا ـ = سه ك / دَ ك ومنه ينتج

ال : سه ل :: سه ك : دَ ك

بحيث لو اخذ دَ ك = سه ل لتحصل سه ك = ال فحينئذ اذا اخذ على هُ كما في (الشكل ١٥٨) البعد مُ مِ = ٢٫٦٥ م على مقتضى المقياس الاختصاري وكان فاضل مقداري البعدين صَه ـ صه = ٥ م واخذ بالمقياس المذكور البعد عُ عِ = ٥ م

على $\overset{ق}{ن}$ تحصل $ص_{١}$ ـ $ص'_{١}$ = ٢,٦٥م وينتج بالضرورة
$ص'_{١}$ = $ص_{١}$ ـ ٢,٦٥م = ٧,١٨م ـ ٢,٦٥م = ٤,٥٣م

(١٧٣)

(المسئلة الحادية عشر) اذا كان المطلوب مد عمود من نقطة معلومة على مستقيم معلوم يقال

يمدّ اولا من النقطة ع مستو عمود على المستقيم المعلوم و فيكون مسقط مقياس ميله $\overset{ق}{هـ}$ موازيا $\overset{ق}{و}$ ثم يبحث عن التقاطع س للمستقيم و مع المستوى فيكون موقع العمود المطلوب ويكون هذا العمود حينئذ المستقيم الواصل من النقطة الحادثة س الى النقطة المعلومة ع

(١٧٤)

(المسئلة الثانية عشر) اذا كان المطلوب ايجاد الزاوية الواقعة بين مستقيم ومستو يقال

ينزل من نقطة من المستقيم عمود على المستوى انظر (بند ١٧٢) ثم يبحث عن الزاوية الحادثة من هذا العمود والمستقيم المعلوم انظر (بند ١٦٨) فتكون هى المتممة للزاوية المطلوبة انظر (ثانيا من بند ١١٩)

(١٧٥)

(المسئلة الثالثة عشر) اذا كان المطلوب ايجاد الزاوية الواقعة بين مستويين يقال

ينزل من نقطة اختيارية م عمودان ن و م على المستويين المعلومين انظر (بند ١٧٢) فتكون الزاوية الحادثة من هذين العمودين كما فى (بند ١٦٨) هى قياس الزاوية الواقعة بين المستويين المذكورين انظر (ثامنا من بند ١٢٧)

(١٧٦)

(المسئلة الرابعة عشر) اذا كان المطلوب ان يمد من مستقيم معلوم مستو يصنع مع مستوى الاقتران زاوية معلومة يقال

ان ميل اى مستو على مستوى الاقتران يساوي ميل مقياس ميله وليكن مقدار الميل المعلوم للمستوى المطلوب على مستوى الاقتران $\frac{٥}{٤}$ فاذا مد من النقطة م كما فى (الشكل ١٥٩) خط اعظم ميلا فى المستوى المطلوب وفرض معرفة الاثر الافقى ا لهذا الخط الاعظم ميلا حدث مثلث ا م م فيه م م : ا م :: ٥ : ٤ ومن حيث ان م م = ١٣ سم يكون ا م = ١٠٫٤ سم فاذا حول هذا البعد الى المقياس المتفق عليه فى (بند ١٦١) صار ١٠٤٫٠ م فيلزم حينئذ بجعل النقطة م مركزا واخذ نصف قطر يساوى ١٠٤٫٠ م رسم محيط دائرة ومن المعلوم ان الاثر الافقى للمستوى لابد ان يمر بالاثرين الافقيين للمستقيم المعلوم والخط الاعظم ميلا وانه زيادة على ذلك لابد وان يكون عمودا على المسقط الافقى للخط الاعظم ميلا فيلزم ان يكون مماسا للدائرة المذكورة ومارا من الاثر الافقى للمستقيم و المعلوم لكنه قد يتفق وقوع هذا الاثر الافقى خارج حدود الرسم وان يكون نصف قطر الدائرة كبيرا الا انه يمكن ان يوضع الشكل على مستو موازلمستوى الاقتران وان ينتخب مثلا المستوى المار بالنقطة د المساوى مقداربعدها ٧ سم فحينئذ لايكون مقداربعد النقطة م المنتسبة الى هذا المستوى الجديد الا ١٣ سم − ٧ سم = ٦ سم وهذا هوارتفاع المثلث القائم الزاوية وينتج من ذلك قاعدة هذا المثلث اوقطر الدائرة بواسطة هذه المتناسبة

ب : د :: ٤ : ٥ ومنه ينتج ب = $\frac{د ٤}{٥}$ = ٤٫٨٠ سم

ثم ان المستوى المار من النقطة د يقطع المستوى المطلوب فى خط افقى يكون مسقطه الافقى عمودا على مسقط الخط الاعظم ميلا فاذا رسم بجعل النقطة م مركزا واخذ نصف قطر يساوى ٢٤٠٤٨ م محيط دائرة ج ومد من النقطة د خط مماس له فى النقطة ع كان المستقيم م ع مسقط

مقياس

مقياس ميل المستوى المطلوب ويمكن ان يعد من النقطة ق خط آخر مماس للدائرة ج وبالوصل بين نقطة التماس ع والنقطة م يتحصل مسقط مقياس ميل مستو آخر يليق بحل المسئلة المفروضة

فاذا كانت النقطة ق على الدائرة اى اذا كان م ق يساوى ٠,٠٤٨ م كان للمسئلة حل واحد وكان المستقيم و نفسه مقياس ميل المستوى لان ميل المستقيم و فى هذه الحالة يكون مبينا بهذه النسبة

$$\frac{٥}{٤} = \frac{٦٠}{٤٨} = \frac{١٣-٧}{٤,٨}$$

ولا حل للمسئلة اذا كانت النقطة ق داخل الدائرة او كان م ق اصغر من ٠,٠٤٨ م لان ميل المستقيم و يكون حينئذ اكبر من $\frac{٥}{٤}$ فلا يمكن ايجاده بالضرورة على مستو يساوى مقدار خطه الاعظم ميلا على مستوى الاقتران ميلا مساويا $\frac{٥}{٤}$

(فى المساقط المائلة والظلال الساقطة)

(١٧٧)

اذا اسقطت نقطة فراغية اسقاطا عموديا ثم مائلا على مستو يكون المستقيم الواصل بين المسقطين بالضرورة المسقط العمودى للمستقيم المسقط للنقطة اسقاطا مائلا فاذا كان فى الفراغ عدة نقط وكانت المستقيمات المسقطات لها اسقاطا مائلا متوازية لزم ان تكون مساقطها متوازية ايضا ويكون حينئذ مسقطا كل نقطة من النقط المذكورة على مستقيمات كلها متوازية اذا تقرر هذا سهل بعد معرفة مسقطى مستقيم ومسقطى نقطة عليهما معرفة مسقطى اى نقطة من هذا المستقيم

ومن المعلوم ان اثر المستقيم على مستوى المسقط الذى يعتبر هنا افقيا لابد من وجوده على كلا مسقطى المستقيم ويكون بالضرورة فى النقطة التى يتقاطع

فيهما هذان المسقطان

واذا كان المستقيم افقيا كان مسقطاه متوازيين واذا كان رأسيا آل مسقطه العمودى الى نقطة الا ان المسقط المائل يكون مستقيما مارا بهذه النقطة وموازيا للمستقيمين الواصلين بين مسقطى نقطة واحدة فاذا كان المستقيم موازيا للمستقيم المسقط اسقاطا مائلا لنقطة صار مسقطه المائل نقطة وكان مسقطه العمودى مستقيما مارا بهذه النقطة وموازيا للمستقيمين الواصلين بين مسقطى نقطة واحدة

ثم اذا كان مستقيمان متوازيين لزم ان يكون مسقطاهما المتحدا الاسم متوازيين ايضا

(١٧٨)

قد يكون الاثر الافقى لمستو عمودا على المسقط العمودى لخطه الاعظم ميلا ويكون مسقطا مستقيما افقيا من المستوى المذكور موازيين للاثر المذكور انظر (بند ١٧٥) وبمقتضى هذا تحل المسئلة الخامسة عشر

(المسئلة الخامسة عشر) اذا كان المعلوم المسقط العمودى لنقطة على مستو والمطلوب ايجاد مسقطها المائل او العكس يقال

(اولا) ليكن و كما فى (الشكل ١٦٠) الخط الاعظم ميلا لمستو و ا نقطة من هذا المستقيم فلا تتعين هذه النقطة فى الفراغ عادة الا متى علم ميل الخطوط المسقطة اسقاطا مائلا و س المسقط العمودى لنقطة س من المستوى ويمكن فرض الافقى ب مارا بالنقطة المعلومة وداخلا فى المستوى فيرمسقطه الافقى ب بالمسقط س ويكون عمودا على و وحيث كان المستقيمان ب و و موجودين فى مستو واحد لزم ان يتقاطعا فى نقطة م مسقطها العمودى فى م على تقاطع و و ب فاذا مد حينئذ من م موازللاتجاه ا ا للخطوط المسقطة

اسقاطا

اسقاطا ماثلا كانت النقطة م ظ التى يقابل فيها الموازى المذكور و ظ المسقط
الماثل للنقطة م من المستقيم ب لكن حيث كان هذا المستقيم افقيا كان
ب ظ موازيا ب ق انظر (بند ١٧٦) ثم حيث كانت النقطة سـ
موجودة على المستقيم ب يمد من النقطة سـ ق موازيا ا ظ ا ق يقطع المستقيم
ب ظ فى النقطة المطلوبة سـ ظ

(وثانيا) اذا كان و هو الخط الاعظم ميلا للمستوى و ا نقطة من هذا
المستقيم و سـ ظ المسقط الماثل لنقطة سـ كائنة على المستوى يمد من هذه
النقطة سـ افقى ب للمستوى فيكون مسقطا هذا الافقى متوازيين
ويكون المستقيم ب ق عمودا على و ق فيكون حينئذ ب ظ عمودا ايضا على
و ق ومارا بالنقطة سـ ظ وحيث كان المستقيمان ب و و فى مستو
واحد يلزم ان يتقاطعا فى نقطة م مسقطها الماثل م ظ الذى هو تقاطع
المستقيمين و ظ و ب ظ ومنه ينتج م ق واذا مد من هذه النقطة مستقيم
يوازى ب ظ كان هذا المستقيم ب ق ثم اذا مد من ا نقطة سـ ظ موازيا ا ق
قطع ب ق فى نقطة سـ ق وهى النقطة المطلوبة

(١٧٩)

(المسئلة السادسة عشر) اذا علم المسقطان العموديان لنقطة ميل واتجاه
المستقيمات المسقطة وكان المطلوب ايجاد المسقط الماثل لهذه النقطة على
المستوى الافقى يقال

يلزم ان يمد كما فى (الشكل ١٦١) من النقطة المعلومة م مستقيم ب
موازللمستقيم المعلوم و انظر (بند ٢٤) ويبحث عن اثره الافقى فيكون
هو المسقط م ظ المطلوب ويمكن ايضا التوصل الى الحالة التى يكون فيها المستقيم
و موازيا للمستوى الرأسى بتغيير مستو وانتخاب خط الارض الجديد مارا

بالنقطة م ق فحينئذ يكون المستقيم ب ق فى المستوى الرأسى صانعا مع خ ض زاوية كزاوية المستقيم و مع المستوى الافقى وقاطعا خ ض فى النقطة م ظ المطلوبة

وهذا الحل الاخير هو الواجب استعماله متى فرضت النقطة م معلومة بسقطها الافقى وبمقدار بعدها كما فى (الشكل ١٦٢) وفرض المستقيم و ايضا معلوما بمسقطه الافقى وميله ا ب او معلوما بمقدارى بعدى نقطتين منه يمكن ان يستنتج منهما هذا الميل فحينئذ يمد من م ق المستقيم ب ق موازيا للمستقيم و ويقام م ق م ق عمودا على ب ق ومساويا لمقدار بعد النقطة م المختصر بالمقياس المتفق عليه اذا لم تكن الصورة على مقدارها الطبيعى التى وجدت عليه ويمد من النقطة م ق مستقيم ب ق يصنع مع ب ق الزاوية ا ب فتكون النقطة م ظ التى هى تقاطع ب و ب ق المسقط المائل المطلوب

فاذا دل المستقيم و على اتجاه الشعاع الضوئى كانت هذه النقطة م ظ هى الظل الساقط من النقطة م على المستوى الافقى ويتحصل كذلك ظلها الساقط على المستوى الرأسى

(١٨٠)

(المسئلة السابعة عشر) اذا علم مسقط نقطة وظلها الساقط وميل الشعاع الضوئى وكان المطلوب ايجاد مقدار بعدها يقال

اذا وصل كما فى (الشكل ١٦٢) بين المسقطين م ق و م ظ للنقطة م بمستقيم دل هذا المستقيم على المسقط العمودى للمستقيم ب المسقط اسقاطا مائلا للنقطة م فاذا مد حينئذ من النقطة م ظ مستقيم ب صانع مع ب ق الزاوية ا ب المساوية للميل المعلوم للشعاع الضوئى واقيم من

م ق

م عمود على ب ومد الى ان يتلاقى مع ب فى النقطة م كان المستقيم
م م مساويا مقدار البعد المطلوب للنقطة م

(١٨١)

(المسئلة الثامنة عشر) اذا كان المطلوب ايجاد الظل الساقط من شكل ما كثير السطوح على المستوى الافقى يقال

ليفرض ان المطلوب ايجاد الظل الساقط على المستوى الافقى لهرم ناقص مثلا غير متوازى القاعدتين كما فى (الشكل ١٦٣) ولنعتبر المستوى الافقى مستوى القاعدة ا ـ ج د ه للهرم فيمكن ان تكون نقط المقطع معلومة بمسقطين عمودين او معلومة بمساقطها الافقية وبمقادير ابعادها وحيث كانت هذه المعاليم الاخيرة موصلة بدون واسطة الى تعيين المسقط الرأسى يفرض الهرم الناقص معلوما بمسقطيه ويؤخذ زيادة على ذلك المستوى الرأسى عمودا على مستوى المقطع ويمكن التوصل الى هذه الحالة دائما باستعمال تغير مستو رأسى ثم يفرض المستقيم ر الذى هو اتجاه الاشعة الضوئية معلوما بمسقطه
ر وميله ا على المستوى الافقى يتحصل مسقطه الرأسى ر اذا تقرر هذا نعين المساقط المائلة للرؤوس ا و ز و ع و د و ه لقاعدة الهرم الناقص العليا انظر (بند ١٧٩) وبالوصل بينها بمستقيمات يتحصل المسقط المائل لهذه القاعدة العليا وبالوصل ايضا بين هذه المساقط والرؤس المناظرة لها المنتسبة الى القاعدة ا ـ ج د ه تتحصل المساقط المائلة لاضلاع الهرم الناقص فمن ذلك تتحصل مساقط الاوجه المختلفة من هذا الشكل ولاجل ايجاد الظل الساقط من الهرم الناقص على المستوى الافقى ننبه اولا على ان جميع الاشعة الضوئية موازية ر فالمارة من بعض نقط الضلع
ـ ز تكون مستويا اثره الافقى ـ ظ ز فينتج ان ـ ظ ز هو الظل الساقط لهذا الضلع وان ـ ظ ا و ا ظ الظلان الساقطان من الضلعين ـ ا و ا ا وحيث كان المستقيم ا ـ على المستوى الافقى يكون نفس ظله الساقط

فينتج بالضرورة من هنا ان الظل الساقط لاى نقطة من الوجه ا ب ب َ ا َ
يكون فى ذى الاربعة اضلاع ا ب ب َ ا ظ ظ اى يكون ذو الاربعة اضلاع هو
الظل الساقط للوجه ا ب ب َ ا َ ويشاهد ايضا ان ا ا َ ه َ ه ظ ظ و ه ه َ د د ظ ظ
و د د َ ج ج ظ ظ و ج ج َ ب ب ظ ظ هى الظلال الساقطة من الاوجه ا ا َ ه َ ه و
ه ه َ د َ د و د د َ ج َ ج و ج ج َ ب َ ب وان ا ب َ ج َ د َ ه ظ ظ ظ ظ ظ هو الظل
الساقط من القاعدة العليا ا َ ب َ ج َ د َ ه َ ولكن حيث ان الظل الساقط يجب ان
يكون خارجا عن الهرم يكون من البين وجوده منحصرا فى المسافة
ب ا ج د د ه ا ب ب ظ ظ ظ ظ مع طرح الاجزاء المحصورة فى القاعدة
ا ب ج د ه من اذوآء الاربعة اضلاع المذكورة
الا انه يتعرض فى نظرى الظل زيادة على الظل الساقط للبحث عن معرفة اجزاء
سطح الجسم المفروض التى تتلقى الاشعة الضوئية او المنيرة والاجزاء التى لا تقع
عليها الاشعة الضوئية او المظللة ويتعرض بعد ذلك الى تعيين الخط الفاصل بين
هذين النوعين من الاجزاء ويسمى هذا الخط بالخط الفارق بين الظل والضوء لكن
يسهل فى مثالنا معرفة انه اذا مدت اشعة ضوئية من جميع نقط محيط الوجه
ب ب َ ج َ ج يتكون اربعة مستويات آثارها الافقية المستقيمات ب ج و
ب ب َ ظ و ب َ ج ظ و ج ج َ ظ فكل شعاع ضوئى مار فى المسافة المحصورة
بين الاربعة مستويات المذكورة يقابل الوجه ب ب َ ج َ ج فيكون هذا الوجه
مضيئا وكذلك الوجهان ج ج َ د د و ا َ ب َ ج َ د َ ه وحيث كانت الاشعة
الضوئية الخارجة من نقط مختلفة من الضلعين ب ب َ و ب َ ا مارة خارج
الوجه ا ب ب َ ا كان هذا الوجه فى الظل وكذلك الوجهان الآخران
ا ا َ ه َ ه و ه ه َ د د ولهذا السبب جعلناها مظللة فالخط المنكسر
ب ب َ ا َ ه َ د َ د يكون الخط الفارق بين الظل والضوء للسطح المفروض
وليتنبه الى ان جملة المستويات المتكونة من الاشعة الضوئية الخارجة من

النقط

النقط المختلفة للخط المنكسر ـ أ هـ د والمستوى الافقى والوجهين
ـ ج ج و ج ج د د كلها تعين كثير السطوح السائر للمستقيمات
ظ ظ ظ ظ ظ ظ ظ
ا ا و هـ و ج ج و ـ ج و ج د ولهذا رسمت تلك الخطوط
منقطة واما الظل الساقط من الخط الفارق بين الظل والضوء فقد رسم ممتلئا
دون غيره وهذه هى كيفية التنقيط متى اريد حل مسئلة تتعلق بالظل الساقط
لكن اذا اريد حل مسئلة بسيطة متعلقة بالمساقط يلزم حيث كانت الخطوط الاخر
مساقط للخطوط المرئية ان ترسم هذه ممتلئة ايضا

(١٨٢)

اذا علم المسقط الافقى والظل الساقط لكثير السطوح على المستوى الافقى وكذا
ميل الاشعة الضوئية سهل ايجاد المسقط الرأسى لكثير السطوح او مقادير ابعاد
جميع رؤسه فيكون بالضرورة هذا الكثير السطوح معينا تعينا تاما بواسطة
ن ن ن ن ن
هذه المعاليم وليكن معلوما المسقط الافقى ا ج د هـ ا ـ ج د هـ لهرم ناقص
ظ ظ ظ ظ
ذى خمسة اوجه و ـ ا هـ د د هـ ا ـ ظله الساقط على المستوى الافقى
ن ظ ن ظ
و ا ميل الشعاع الضوئى فيؤخذ ر موازيا ا ا اوموازيا ـ ـ ....
فيدل هذا المستقيم على المسقط الافقى للشعاع الضوئى ويمر ر صانعا مع
ر ن
ر الزاوية ا فيكون هو الشعاع الضوئى فى المستوى الرأسى المسقط له
ويمكن ايجاد مسقطه الرأسى ر على مستوما رأسى خ ض ثم
ظ ظ ظ ظ
حيث كانت النقط ـ و ا و هـ و د آثارا افقية للمستقيمات الموازية
ر المارة بالتوالى من الرؤس ـ و ا و هـ و د للهرم الناقص
يقال اذا اسقطت هذه النقط على خط الارض فى ـ و ا و هـ و د ومد
ر ر ر ر ر
من هذه النقط خطوط توازى ر كانت النقط ـ و ا و هـ و د
فى تقاطعات هذه المستقيمات مع الخطوط الاعمدة على خ ض النازلة من النقط

ب و ا و ه و د ولايجاد الرأس الخامسة ج ينبه على انه اذا علم ج وجد ج كما وجدت المساقط الرأسية للرؤس الاخرى ويمكن تحصيل هذه النقطة ج لان من المعلوم ان المستقيمات ا ا و ب ب و د د و ه ه التى هى المساقط المائلة لاضلاع الهرم تتلاقى فى النقطة س التى هى مسقط الرأس س لكثير السطوح المذكور وحينئذ لابد وان توجد هذه النقطة ج على المستقيم ج س وحيث كانت على خط يوازى ر مار من ج لزم ان توجد على تقاطع هذين الخطين وتكون النقطة س المعتبرة خارج حدود الرسم غالبا ولا تحصل النقطة ج المذكورة بواسطة هذه الطريقة لكن فى هذه الحالة يمد من ج خط يوازى ج ب مقابل للخط ب ب فى نقطة س فيكون المستقيم ج س مسقطا افقيا لمستقيم ج س كائن فى مستوى الوجه ب ج ج ب ومواز للخط ب ج ومسقط الافقى من هذا المستوى بالضرورة فلو اخذ حينئذ المسقط المائل س للنقطة س كما فى (بند ١٧٧) ومد من النقطة س خط يوازى س ج او ب ج كان هذا المستقيم المسقط المائل للخط س ج كما فى (بند ١٧٧) واشتمل بالضرورة على النقطة ج الكائنة ايضا على خط يوازى ر مار من النقطة ج وبهذه الكيفية يوجد المسقط المائل لاى رأس ليست على الخط الفارق بين الظل والضوء

(فى المساقط المخروطية وفى المنظور)

(١٨٣)

اذا علمت نقطة ثابتة فى الفراغ و ونقطة ما م يكون وم

خطا

خطا مسقطا للنقطة م وتكون النقطة التى يقابل فيها هذا الخط مستويا معلوما مسقطا مخروطيا اوقطبيا للنقطة م حيث كانت النقطة و قطب هذا المسقط فاذا اسقط كذلك جميع نقط جسم كان المسقط المخروطى المتحصل حينئذ هو الظل الساقط من الجسم المذكور على مستوى المسقط اذا كانت النقطة و نقطة مضيئة اوكان المسقط المذكور هو منظور الجسم اذا كانت هذه النقطة عين الناظر ويلزم مع ذلك لايجاد الظل الساقط ان يكون الجسم المستضيء موضوعا بين النقطة المضيئة ومستوى المسقط والافلا يكون الامجرد مسقط مخروطى وقد ذكر فى نظرى المنظوران المستوى الذى يقع عليه المسقط المخروطى ويسمى بمستوى المنظور يكون فى العادة موضوعا بين الجسم وعين الناظر ولامانع من وضعه وراء الجسم المسقط اسقاطا مخروطيا على هذا المستوى

(١٨٤)

وحيث كانت جميع المستقيمات المسقطة اسقاطا مخروطيا لجميع نقط جملة مارة بالقطب و فمن الواضح ان جميع المساقط العمودية لهذه المستقيمات على المستوى الهندسى المعتبر هنا افقيا تمر بالنقطة و انظر (بند ١٥٩) وتمر كل مساقطها على مستوى المنظور بالنقطة و التى هى اثر العمود النازل من النقطة و على هذا المستوى

والمسقطان الافقى والقطبى للنقطة م يكونان بحيث لووصل بين م و و بمستقيم و لقابل هذا المستقيم قاعدة مستوى المنظور فى موقع العمود النازل من م على هذه القاعدة

(١٨٥)

المسقط المخروطى لمستقيم يكون مستقيما هو تقاطع مستوى المنظور مع المستوى المار بالمستقيم والنقطة و وحيث كانت جميع المستويات المسقطة المارة بالنقطة و متقاطعة ينتج حينئذ انه اذا فرض مستقيمان و و

متوازيان تقاطع مستوياهما المسقطان لهما فى مستقيم ط يوازى و و وَ ويقابل مستوى المنظور فى نقطة ـ منهما تقاطعا هذين المستويين مع مستوى المنظور فحينئذ يتقاطع المسقطان المخروطيان اومنظورا المستقيمين المتوازيين ومهما كان عدد المستقيمات المتوازية فمستوياتها المسقطة تتقاطع كلها فى مستقيم واحد فتمر حينئذ مناظير جميع هذه المستقيمات بنقطة واحدة ـ تسمى بنقطة التلاقى فاذا فرض عدة جمل مستقيمات متوازية كان لكل جملة منها نقطة تلاق

فاذا كانت المستقيمات المتوازية اعمدة على مستوى المنظور كان المستقيم ط عمودا ايضا على مستوى المنظور ولم تكن النقطة ـ مباينة للنقطة وَ بل هى نفسها واذا كانت هذه المستقيمات المفروضة موازية لمستوى المنظور كان المستقيم ط موازيا ايضا لهذا المستوى وصارت النقطة ـ منتقلة فيما لانهاية له فحينئذ مناظير المستقيمات المتوازية والموازية لمستوى المنظور تكون متوازية واذا كانت المستقيمات المعلومة مائلة بقدر ٤٥° على مستوى المنظور صنع المستقيم ط ايضا زاوية قدرها ٤٥° مع مستوى المنظور وقابله فى نقطة ـ بحيث يكون المثلث و ـ وَ القائم الزاوية فى وَ متساوى الساقين فيه وَ ـ = و وَ ثم اذا كانت المستقيمات المتوازية المذكورة فى هذه الحالة افقية كان المستقيم ط افقيا ايضا وكانت نقطة التلاقى ـ والنقطة وَ على موازٍ واحد لقاعدة مستوى المنظور فتكون نقطة التلاقى فى هذه الحالة مسماة بنقطة البعد ويوجد نقطتا بعد احداهما فى احدى جهتى النقطة وَ والاخرى فى الجهة الاخرى المقابلة لها

(١٨٦)

يتعين المستوى غير المنتهى بأثريه على المستوى الهندسى وعلى مستوى المنظور كما بينه فى حل المسئلة التاسعة عشر

(المسئلة التاسعة عشر) اذا علم المسقط العمودى لنقطة كائنة

على مستو معلوم باثر يه وكان المطلوب ايجاد مسقطها المخروطى او العكس يقال

(اولا) ليكن قُ و مُ اثرين لمستو ر و سُ مسقط نقطة من هذا المستوى على المستوى الهندسى كما فى (الشكل ١٦٤) فيمر من النقطة سـ هذه افقى و من المستوى ر فيكون مسقطه و موازيا قُ ويقابل مستوى المنظور فى نقطة ا من وُ ويكفى فى ايجاد المسقط الثانى للمستقيم و ايجاد نقطة تلاقى افقيات المستوى ر ومن المعلوم ان احد هذه الافقيات وهو وَ يوجد مع النقطة و على مستو افقى ومسقطه وَ يوازى بالضرورة خ ض ويقابل مستوى المنظور فى النقطة اَ المسقطة فى اُ ومنه ينتج وُ ثم يتقاطع المستويان المسقطان للمستقيمين و و وَ فى مستقيم ط موازلهما ومن حيث انه يمر بالنقطة و يلزم ان يكون كله فى مستوى (وَ و) فاذا مد حينئذ طُ موازيا و و طُ موازيا خ ض كان الاثر سـ لهذا المستقيم نقطة التلاقى المطلوبة ثم بالوصل بين النقطتين ا و سـ بمستقيم ينتج وُ واذا وصل الآن بين سُ و سـ بمستقيم بُ ومد هذا المستقيم الى النقطة اِ من خ ض واقيم من هذه النقطة عمود على خ ض الى نقطة تقابله مع وُ يتحصل المسقط سـُ المطلوب

(تنبيه) اذا وصل بين النقطتين وُ و سـُ بمستقيم بُ كان المستقيمان بُ و بُ المسقطين العمودين على المستوى الهندسى وعلى مستوى المنظور للمستقيم ب المسقط اسقاطا مخروطيا للنقطة سـ

(وثانيا) * اذا علمت النقطة سـُ فلاجل ايجاد سـ يمد من

النقطة سـ هذه افقى و للمستوى ر فيلزم ان يمر وم بنقطة تلاقى المساقط القطبية لافقيات المستوى وتحصل هذه النقطة كما سبق ثم بالوصل بين مـ و ـ ينتج المسقط المخروطى وم للافقى المذكور فيقابل م فى النقطة ا التى هى اثر المستقيم و على مستوى المنظور وباسقاط هذه النقطة على قاعدة مستوى المنظور فى النقطة اق ومد خط يوازى قر منها يتحصل وق فتحصل النقطة المطلوبة سـق على هذا المستقيم بل وعلى المسقط الافقى للمستقيم ب المار من النقطة و الى النقطة سـ لكن هذا المستقيم يقابل مستوى المنظور فى النقطة سـم المنسقطة على خض فى اـ وبالوصل بين اـ و وق يتحصل مستقيم يقطع وق بالضرورة فى النقطة سـق المطلوبة

(١٨٧)

*(المسئلة العشرون) *اذا علم المسقطان العموديان لنقطة ومسقطا القطب وكان المطلوب ايجاد المسقط المخروطى للنقطة الاولى على مستو معلوم يقال ليكن و القطب و م النقطة المعلومة كما فى (الشكل ١٦٥) ويفرض مستوى المنظور عمودا على خط الارض ومنطبقا على المستوى الافقى فيلزم ان يكون مسقط القطب عمودا دائما على مستوى المنظور ويستعمل لايجاده فى النقطة وم تغيير مستور أسى انظر (بند ٤٤) وبهذا تؤول المسئلة الى مد المستقيم وم والبحث عن اثره على مستوى المنظور فيكون المسقط الافقى لهذا الاثر المساوى مقدار ارتفاعه الرأسى ـ اـ النقطة اـق فاذا اقيم حينئذ من النقطة اـق عمود على خض واخذ اـم = ـ اـ تتجت النقطة المطلوبة م

فاذا كانت النقطتان و م معلومتين بمسقطيهما الافقيين وبمقدارى بعديهما يبحث على المستقيم و و م عن مقدار بعد النقطة التى تنسقط

فى النقطة أ انظر (بند ١٦٢) ويؤخذ أم مساويا للمقدار المذكور فيحصل المطلوب

(١٨٨)

(المسئلة الحادية والعشرون) اذا علم مسقطان افقى ومخروطى لنقطة ومسقطا القطب وكان المطلوب ايجاد المسقط الرأسى للنقطة يقال

مستوى المنظور هو مستوى رأسى اسقط عليه المستقيم وم انسقاطا عموديا انظر (اولا من بند ١٨٦) وحيث علم المسقطان الافقيان و و أ النقطتين من هذا المستقيم ومقدار ارتفاعهما وو و أم يقال اذا انزل حينئذ من و و أ عمودان على خ ض واخذ وو = وو و ے أ = أم ووصل بين وأ لا يبقى الا انزال عمود من النقطة م على خ ض فيقطع ب فى النقطة المطلوبة م

(١٨٩)

(المسئلة الثانية والعشرون) اذا كان المطلوب ايجاد منظور كثير سطوح يقال

ليكن المطلوب منظور كثير السطوح المبين فى (الشكل ١٦٦) المركب من متوازى السطوح القائم الرأسى والمركب فوقه هرم مربع فيفرض مستوى المنظور عمودا على خ ض ثم يطبق على المستوى الرأسى بتدويره حول اثره الرأسى ر وهذا يرجع الى اعتبار المستوى الرأسى مستويا هندسيا ثم يبحث لاجل ايجاد المنظور المطلوب عن مسقط نقطة النظر على مستوى المنظور بان ينزل من النقطة و على المستوى م عمود يقطعه فى النقطة و ثم تبقى هذه النقطة و عند دوران المستوى م حول ر بالضرورة على بعد واحد من ر و من المستوى الافقى وعلى بعد واحد من ر و من المحور ر

فيؤخذ حينئذ على وَوَ بعد وَوَ = زوَ فينتج لنا النقطة و المطلوبة ويشاهد ان هذا يرجع الى ان يرسم بجعل النقطة ز مركزا واخذ نصف قطر زوَ قوس دائرة يقطع خ ض فى النقطة ا وان يقام من هذه النقطة عمود على خ ض الى نقطة تقابله مع وَوَ وتتحصل جميع النقط الاخرى بهذه الكيفية واما النقطة و فيمكن تحصيلها باستعمال مجرد تغيير مستوافقى مع اعتبار رم خطا ارضيا جديدا

ثم ان المستقيم وا يقابل مستوى المنظور فى نقطة اَ تحصل مثل النقطة و على مستوى المنظور بان يمد من اَ خط يوازى خ ض ويؤخذ اَاَ = زاَ وتحصل ايضا جميع النقط الاخرى بَ و جَ .... من المنظور بالكيفية المارة فيصير المستقيم ابَ بعد ايجاد المنظورين ا و بَ للنقطتين ا و ب منظور المستقيم اب وكذا يقال فى المستقيمات الباقية فيتحصل حينئذ ابَجَدَ وهو منظور القاعدة السفلى لمتوازى السطوح وابَفَهَ و بَجَحَفَ و جَدَحَ و ادَهَ وهى منظورات الاوجه الاربعة الجانبية الرأسية و هَفَحَ وهو منظور القاعدة العليا و ىَطَلَمَ وهو منظور قاعدة الهرم و سَىَطَ و سَلَطَ و سَلَمَ و سَمَىَ وهى منظورات الاوجه الاربعة

ومن المعلوم ان الناظر الواقف فى النقطة و لا يشاهد الا الوجه ا ب ف ه من متوازى السطوح وتخفى عنه جميع الاضلاع التى لا تنسب لهذا الوجه المذكور ولذلك رسمت بخطوط نقطية على الشكل واما الهرمى فمن المعلوم ان الضلع سَ ىَ منه ظاهر والضلع سَ ل مخبأ بالكلية لكن الضلعان سَ ط و سَ م يشاهدان فوق نقطتى تقاطعهما مع المستوى (ه ف و)

اللتين

اللتين لم نبين الا مسقطيهما الرأسيين ن و ك ويوجد منظوراهما بالضرورة فى النقطتين ن و ك اللتين هما تقاطعا المستقيمين س م و س ل مع ه ف

ولننبه ايضا على انه حيث كانت المستقيمات ا ب و ج د و ه ف و ح ى افقية وموازية لمستوى المنظور تكون منظوراتها ا ب و ج د و ه ف و ح ى موازية لخط الارض خ ض انظر (بند ١٨٥)

وانه حيث كانت المستقيمات ا د و ب ج و ه ى و ف ح اعمدة على مستوى المنظور يلزم ان تتقابل منظوراتها ا د و ب ج و ه ى و ف ح فى النقطة و فيلزم من ذلك ان تكون النقط ى و ل و و على مستقيم واحد ومن المعلوم ان الاضلاع ى ط و ط ل و ل م و م ى لقاعدة الهرم مائلة بمقدار ٤٥° على مستوى المنظور وان الاضلاع المقابلة لها متوازية فاذا اخذ حينئذ و ر = و و بحيث تكون النقطة ر نقطة البعد يلزم ان يتقابل المنظوران ى م و ط ل للضلعين ى م و ط ل فى النقطة ر وان يتقابل المنظوران ى ط و ل م للضلعين الآخرين فى نقطة اخرى ر كائنة فى الجهة الاخرى من النقطة و وعلى بعد منها يساوى و ر

ولنتمم ماذكر بهذا التنبيه وذلك انه يمكن ان يتوهم من كل نقطة اريد ايجاد منظورها افقيان احدهما عمود على مستوى المنظور والآخر مائل عليه بمقدار ٤٥° ويمدا الى نقطتى تقابلهما بمستوى المنظور ومن المعلوم ان هاتين النقطتين تنتسبان لمنظورى هذين الافقيين كل واحدة لواحد فاذا وصلت حينئذ اولى النقطتين بالنقطة و والاخرى بنقطة البعد المقابلة لها حدث مستقيمان

يتقابلان فى منظور النقطة المعلومة ومن البين ان هذه الطريقة المستعملة فى ايجاد منظور اى نقطة اسرع من غيرها فى ايجاد المنظور

(١٩٠)

لاجل وضوح الشكل عادة لا يرسم المنظور فى الموضع الذى وضعناه فيه هنا بل يفرض مستوى المنظور قبل اتصاله منقولا الى بعد ما اختيارى او يؤخذ على مستوى المنظور محوران احدهما عمود على الآخر او يؤخذ اثراه وينسب بعد اكل نقطة من المنظور الى المحورين المذكورين فى اى محل اريد وسيتضح ذلك اتضاحا تاما فى المسئلة الثالثة والعشرون

(المسئلة الثالثة والعشرون) اذا كان المطلوب ايجاد منظور كثير السطوح ومنظور ظله الساقط على المستوى الافقى يقال

حيث كان مسقطا كثير السطوح معلومين كما فى (الشكل ١٦٧) ومسقطا الشعاع الضوئى كذلك يوجدا ولا الظل الساقط انظر (بند ١٨١) والخلط الفارق بين الضوء والظل ومنه تعلم الاوجه المضيئة والاوجه المظلمة اذا تقرر هذا يقال ليكن مستوى المنظور م عمودا على خ ض ويرسل من النقطة البصرية و اشعة بصرية الى جميع رؤس كثير السطوح المفروض فتقابل هذه الاشعة مستوى المنظور م فى نقط تعين مواضعها بانتسابها الى محورين قائمين احدهما على الاخر وموجودين فى المستوى المذكور ويختار للاختصار اثرا هذا المستوى بان يرمز بالحرف س للمحور الافقى قَم وبالحرف ص للمحور الرأسى رَم ويرسم الشكل الكائن فى مستوى المنظور م اى منظور كثير السطوح منفردا فاذا مد من النقطة و افقيان و قَ و وَ قَ ماثلان على قَم بمقدار ٤٥° قطعا هذا الاثر فى نقطتين ر و رَ وهما المسقطان الافقيان لنقطتى البعد فبعد رسم المحورين س و ص يؤخذ رَم =

ز وَ ويقام من النقطة وِ عمود على س ويؤخذ وِ وُ = وَ وُ فتتحصل نقطة النظر ثم يمد من النقطة وُ خط يوازى س ويؤخذ وُ زُ = وُ رُ = وُ وَ فيتحصل لنا نقطتا البعد

اذا تقرر هذا يعتبر اولا الوجه ا ب ج د الذى يعتمد عليه كثير السطوح موجودا على المستوى الافقى ولاجل ايجاد منظور نقطة يفرض من هذه النقطة مستقيمان احدهما عمود على مستوى المنظور والآخر مائل عليه بمقدار ٤٥° فيمر منظور المستقيم الاول بالنقطة وُ ويمر منظور الثانى بالنقطة رُ ويقطع المستقيم الاول ايضا مستوى المنظور فى نقطة متباعدة عن النقطة ز بمقدار ا اُ ويقطعه الثانى فى نقطة متباعدة عن ز بمقدار ز اِ ومعلوم ان هذين المستقيمين فى مستوى افقى فاذا اخذ على المحور س طول زُ اُ = ا اُ وطول زُ اِ = ز اِ ومد المستقيمان اُ وُ و اِ رُ تقاطعا فى النقطة اُ التى هى منظور النقطة ا ويقطع المستقيم و ب مستوى المنظور فى نقطة بَ متباعدة عن المحور ص بمقدار ز بَ وعن المحور س بمقدار ز بَ فاذا اخذ حينئذ زُ بَ = ز بَ واقيم على س العمود بَ بُ = ز بَ كانت النقطة بُ منظور النقطة ب ولاجل ايجاد النقطة جُ يؤخذ زُ جِ = ج جُ ويوصل بين جِ و وُ فيكون المستقيم الحادث منظور عمود نازل من النقطة ج على مستوى المنظور ثم يقطع المستقيم و ج مستوى المنظور فى نقطة جَ مرتفعة بمقدار ز جَ فاذا اخذ حينئذ زُ جَ = ز جَ ومد من النقطة جَ مستقيم يوازى س قطع جِ وُ فى النقطة

ج المطلوبة واما النقطة د فحيث كان المستقيم ج د افقيا وموازيا لمستوى المنظور توجد فى تقاطع هذا الافق بعينه مع المستقيم دَ وَ الذى هو منظور عمود نازل على مستوى المنظور المار من النقطة د

وبالانتقال الى الوجه ج د هـ ف ع تحصل الرؤس الثلاثة هـ و ف و ع كما حصل منظور النقطة ـ

واما الرأس ـ من الوجه ـ ج ع ـ فقد مددنا لاجل ايجاده افقيين ـجِ و ـ جِ مائلين بمقدار ٤٥° على مستوى المنظور فر منظوراهما على التوالى بنقطتى البعد رَ و رُ وتقابلا فى النقطة ـَ المطلوبة ولاجل تحصيل منظور ـج ينبغى ان يؤخذ على المحور ص بالابتداء من النقطة زُ طول يساوى زِـ ويمد من النقطة المتحصلة خط يوازى المحور س ويؤخذ على هذا الموازى الى خلف طول يساوى زُجِ ثم توصل هذه النقطة الاخيرة بالنقطة رَ لكن اذا فرض ان جملة التركيب تهبط هبوطا رأسيا بمقدار زِـ يلزم اخذ زَجِ = زُجِ و رَرُ = زِـ ووصل جَ و رُ ببعضهما فلم يبق حينئذ الا ان يمد من النقطة رُ خط يوازى رَجَ ويوجد بهذه الكيفية منظور ـجِ فهذان المنظوران يتقاطعان فى النقطة ـَ

وحيث صارت منظورات رؤس الوجه الثلاث ا د هـ معلومة وكانت جميع الاوجه الاخر متقابلة فى الرأس ـ لم يبق علينا الا ايجاد منظور هذا الرأس من كثير السطوح ولننبه لذلك على ان المستقيم وـ يقطع مستوى المنظور فى نقطة سَ يساوى مقدار ارتفاعها الرأسى زُسَ فاذا اخذ زَسَ = زُسَ ومد من النقطة سَ خط يوازى س اشتمل هذا الموازى

على

على سم ثم يفرض من النقطة سه عمود على مستوى المنظور فيقطعه
فى نقطة بعداها عن المحورين س و ص هما فِ سه و فِ سه فاذا
اخذ حينئذ زفِ م = فِ سه ومدمن النقطة فِ م خط يوازى س
واخذ فِ فِ م = فِ سه ووصل بين فِ م و و م حدث مستقيم يشتمل ايضا
على سم وهى النقطة المطلوبة

فلم يبق بعد ايجاد منظورات جميع رؤس كثير السطوح الا الوصل بينها
بمستقيمات لاجل ايجاد المنظور المطلوب ولاجل ايجاد منظور الظل الساقط
ا سه ظ ف ظ ع ج دا يحصل منظور النقطة سه ظ بأن يؤخذ اولا المنظور
سم و لعمود على مستوى المنظور نازل من هذه النقطة كما سبق
اجراء هذا العمل المرار العديدة ثم يتنبه الى ان المستقيم و سه ظ يقطع مستوى
المنظور فى نقطة سم متباعدة عن المحور ص بمقدار زسم فيلزم
البحث على سم و عن النقطة الموجودة على هذا البعد من المحور ص
فتحصل ضرورة بأخذ زسم = زسم ومدخط من النقطة سم
يوازى ص فيقطع سم و فى النقطة المطلوبة التى كان يلزم ان يرمز لها
بالرمز سه ظ م على مقتضى الاصطلاح المتقدم والاسهل ان يرمز لها
بالرمز سه ظ فقط وتحصل كذلك النقطة ف ظ بالتنبيه على ان الخط
سه ظ ف لابد ان يوازى المحور س وبالجملة فقد وجدنا النقطة ع ظ بهذه
الكيفية

وقد نوعنا فى هذا الشكل الطرق المستعملة فى ايجاد منظورات جميع رؤس
كثير السطوح لايضاح كيفية الوصول اليها مع ابقاء انتخاب الطرق

للراسم ليستعمل الانسب منها بحسب مايقتضيه رأيه فى كل حالة مخصوصة

(١٩١)

وقد بقيت تنبيهات لازمة فى كيفية تنقيط الشكل نذكرها فنقول

لينتبه اولا الى ان مسقطى اى جسم عند الناظر الواقف فى نقطة غير نهائية هما منظوراهذا الجسم بعينه وان شئت قلت ان كل مسقط هو الظل الساقط حين تكون الاشعة الضوئية اعمدة على مستوى المسقط اذا تقرر هذا تكون اوجه كثير السطوح المتلاقية فى النقطة س مرئية دون غيرها للناظر الواقف على بعد غير محدود على خط عمود على المستوى الافقى فيلزم حينئذ ان تكون المستقيمات المحصلة لمحيط هذه الاوجه على المسقط الافقى ممتلئة وان يكون ماعداها من المستقيمات نقطيا وان يكون الخط المنكسر ا ـ ح ف ه ا عند هذا الناظر هو المحيط الظاهرى لكثير السطوح

ويشاهد بالسهولة ان المحيط الظاهرى بالنسبة للناظر الواقف على بعد غير محدود على عمود المستوى الرأسى هو الخط المنكسر ا ـ س ـ ف ه د ا فحينئذ يكون هذا المحيط والمستقيمات س ا و س ه و ا ه ممتلئة

وتنقيط هذين المسقطين يكون بلاشك للاجزاء المخبأة بمستوى المسقط وهذا يجبرنا على ان نرسم بخطوط نقطية بعض الاجزاء التى تكلمنا قريبا على وجوب رسمها ممتلئة ثم ان الاصول المتقدمة المطبقة على جميع الاجسام التى نعتبرها فى اثناء هذا الكتاب تتمم جميع مايخص تنقيط مساقط الاشكال الفراغية التى يراد بيانها وقد اسلفنا الكلام على الجزء السهل منها انظر (بند ١٦)

واما من جهة الظلال فكثير السطوح يسقط ظلا على الجزء ظ ظ ظ
ا د ج ح ف س ا من المستوى الافقى بحيث لو ازيل الجسم وبقى الظل كانت صورته كما فى (الشكل ١٦٨) لكن قد يخفى الجسم عن الناظر المشاهد للمسقط

الافقى جزاء من هذا الظل فيظهر له فى صورة اه ف ط ح ف سـ ا ولذلك لم يظلل الا هـذا الجزء من المستوى ويسهل فى الاوجه المظللة معرفة كون الخط المنكسر ا ـ ج ح ف سـ ا هو الخط الفارق بين الظل والضوء وينتج حينئذ ان الاوجه ا ـ ج د و ج د هـ ف ح و هـ ف سـ و ا د هـ و ا هـ سـ كائنة فى الظل الا ان الناظر المشاهد للمسقط الافقى لا يرى الا الوجهين سـ هـ ف و سـ ا هـ ولذلك لم يظلل الا هـما على المسقط الافقى ولذا اهتمينا بتوجيه الخطوط الظلية الى جهتين مختلفتين ومن المعلوم ان الناظر لا يرى من المسقط الرأسى الا الاوجه سـ هـ ف و ا د هـ و سـ ا هـ التى يلزم حينئذ تظليلها دون غيرها على المسقط الرأسى

واما من جهة المنظور فيقال من البين عند الناظر الواقف فى النقطة و ان المحيط الظاهرى لكثير السطوح هو ا ـ ے سـ هـ د ا فلا يرى هذا الناظر حينئذ الا الاوجه سـ ا ـ و سـ ـ ے و سـ ا هـ و ا د هـ التى منها الاولان مستنيران والآخران مظللان والمستقيمات المكونة لمحيط هـذه الاوجه الاربعة ممتلئة دون غيرها ثم انه يلزم تظليل جزء منظور الظل الساقط الكائن خارج منظور كثير السطوح

(١٩٢)

منتصفا الضلعين المتوازيين ونقطة تقابل القطرين ونقطة تقابل الضلعين الغير المتوازيين فى شبه المنحرف تكون على خط مستقيم انظر (شكل ١٦٩) ويتضح ذلك فى شبه المنحرف المتساوى الساقين ا َ ج د لان المثلثين ا سـ ج َ و د سـ َ متساويان فيكون ا سـ و َ و و سـ َ متساويين ايضا فحينئذ يقسم سـ و َ الزاوية َ سـ ا الى قسمين متساويين ويمر بالضرورة بمنتصفى ا ـ و د ج َ لكن يمكن اعتبار شبه منحرف ما ا ـ ج د مسقطا عموديا اوماثلا لشبه منحرف متساوى الساقين منطبق على ا َ ج د فيكون

القطران اج و ـ د مسقطى القطرين اجُ و ـ دَ ويكون المستقيم
سـ و مسقط سـ وَ وتكون النقطتان ﻫ و ع مسقطين للنقطتين
هُ و عَ وحيث كان هاتان النقطتان منتصفى اـ و دعَ وكان مسقط
نقطة منتصف مستقيم فى كل نوع من المساقط الاسطوانية هو نقطة منتصف
مسقط هذا المستقيم نفسه تكون النقطتان ﻫ و ع حينئذ منتصفى
المستقيمين اـ و ع د

ويستنتج من هنا طريقة قسمة مستقيم وزاوية اوقوس الى قسمين متساويين
واقامة خط عمود على منتصف مستقيم تما

تم الجزء الاول من هذا الكتاب المستطاب بعون الله الملك الوهاب
وكان الفراغ من تمام طبعه بدار الطباعة العامره
المنشأة ببولاق مصر القاهره ادام الله عز منشيها
ومشيد مبانيها صاحب السعادة الابدية
والهمة العمرية والفخر العلى الحاج محمد
على وذلك فى عقب جمادى الاولى
سنة ١٢٦١ من الهجرة النبوية
على صاحبها افضل
الصلاة وازكى
التحية
تم

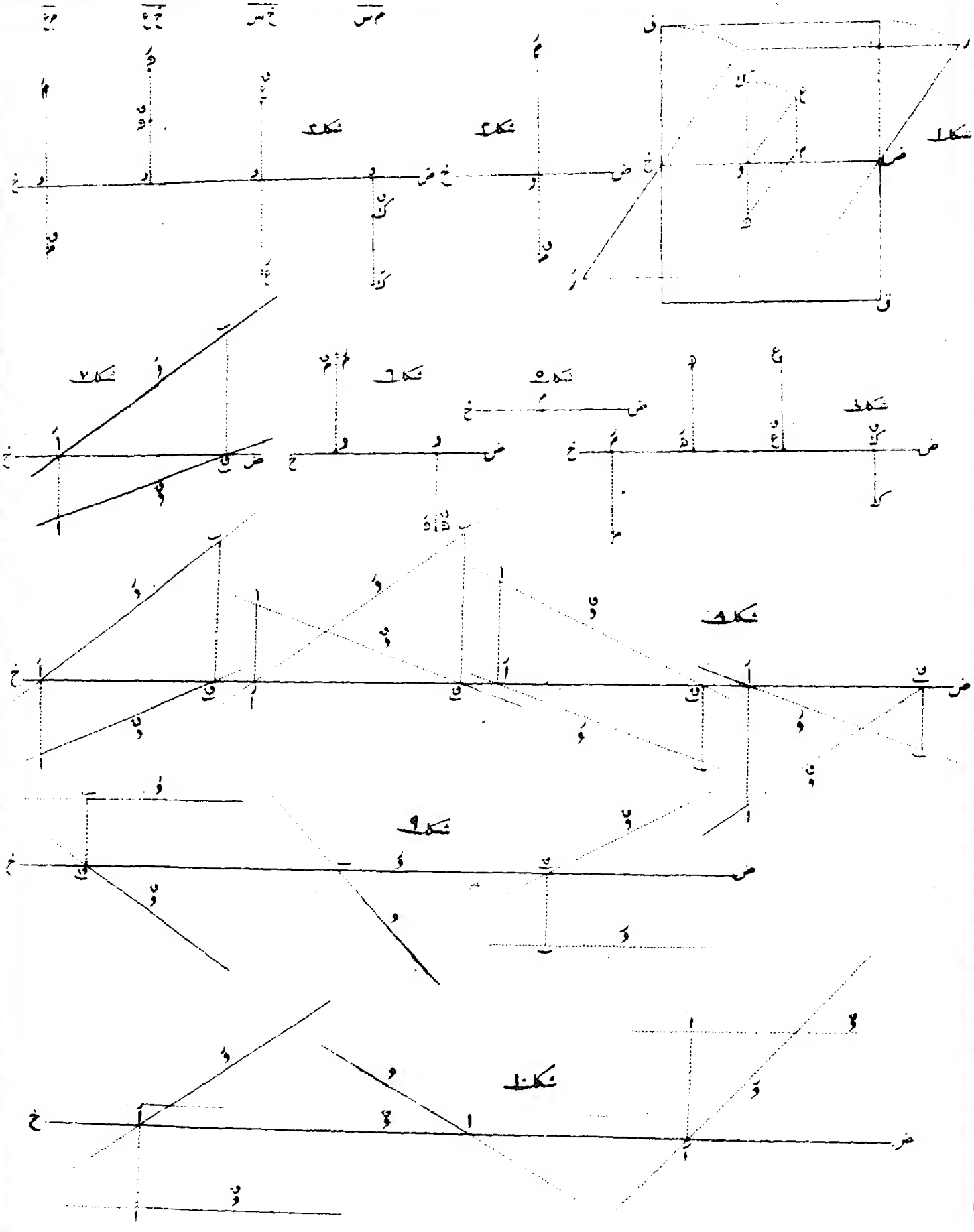
شكل ١
شكل ٢
شكل ٣
شكل ٤
شكل ٥
شكل ٦
شكل ٧
شكل ٨
شكل ٩
شكل ١٠

شكل ١١



شكل ١٢



شكل ١٣



شكل ١٤



شكل ١٥

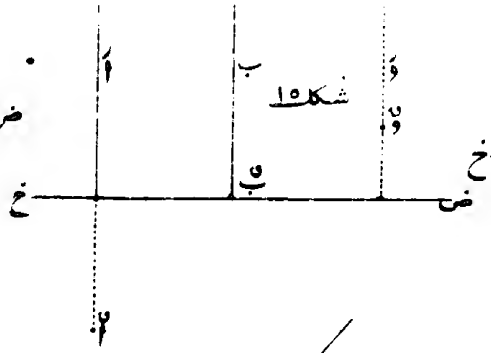

شكل ١٦

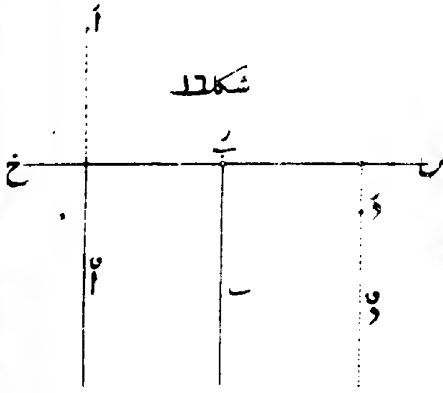

شكل ١٧

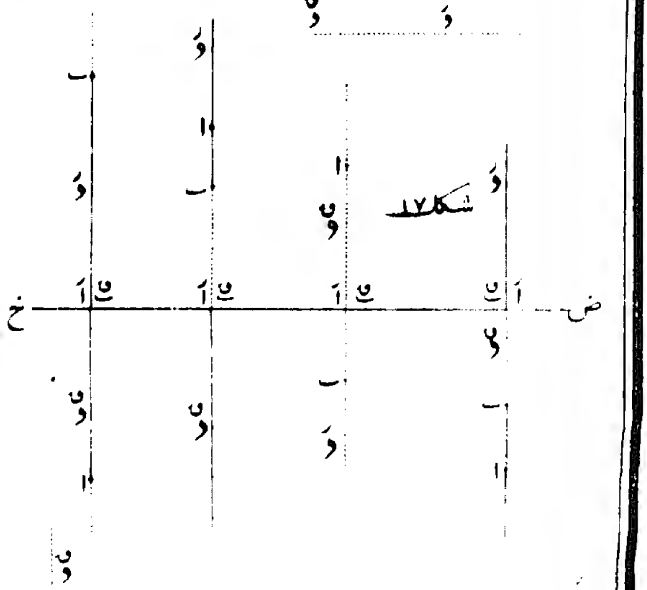

شكل ١٨

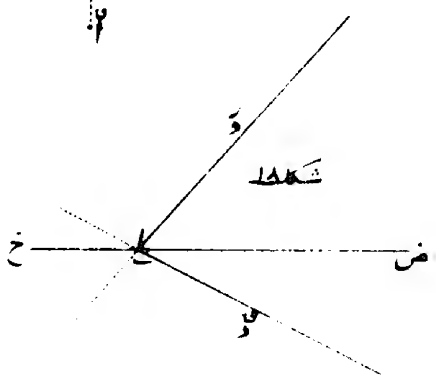

شكل ١٩

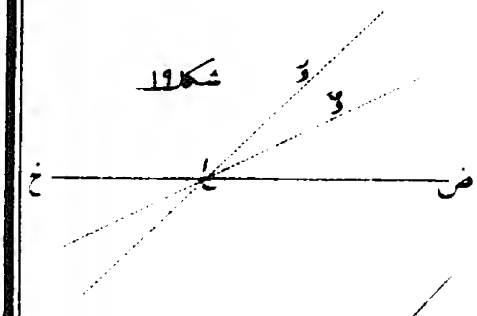

شكل ٢٠

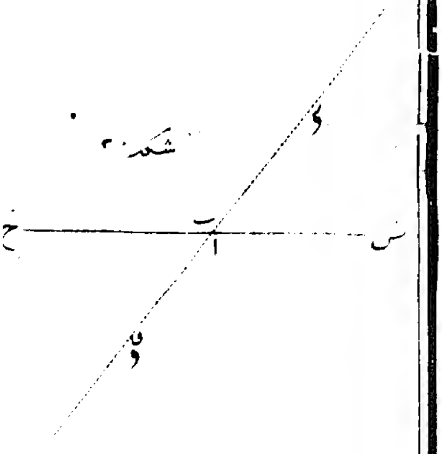

شكل ٢١

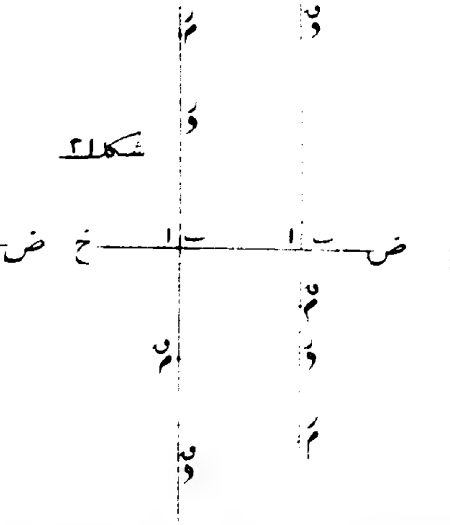

شكل ٢٢

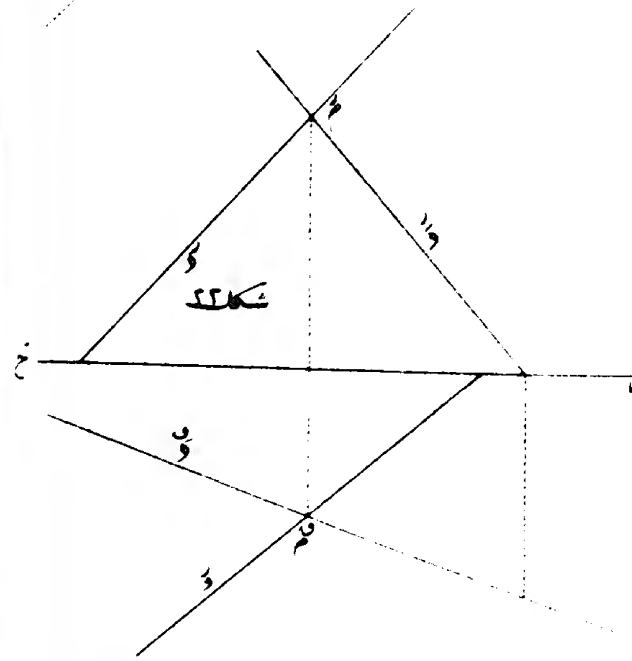

شكل ٢٢

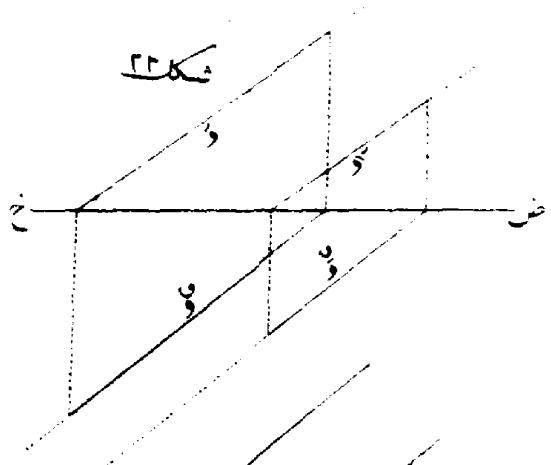

شكل ٢٤

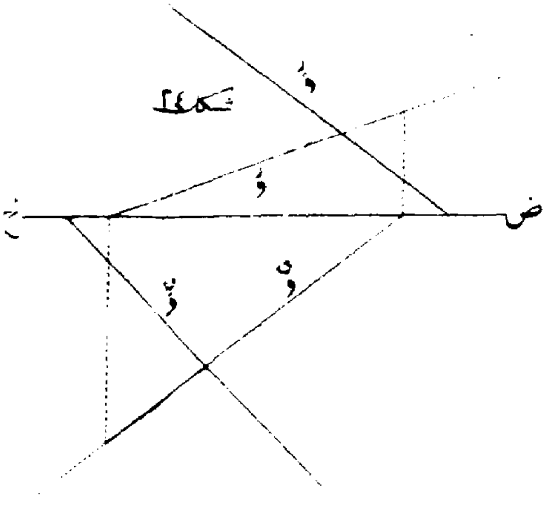

شكل ٢٥



شكل ٢٦

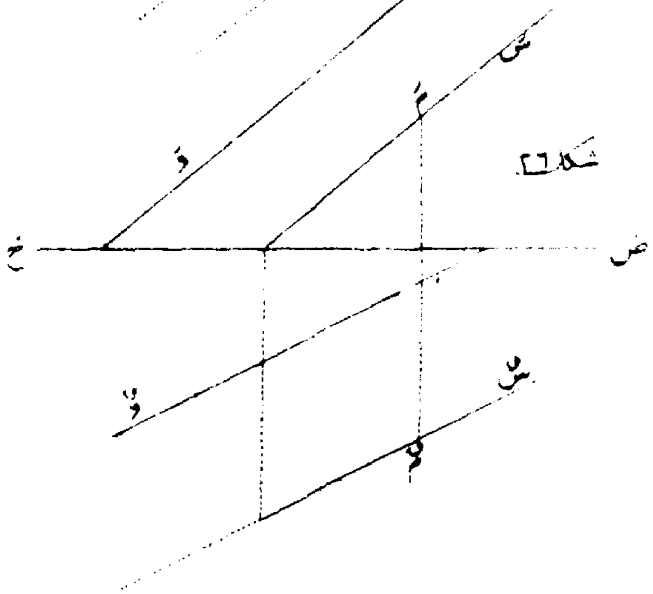

شكل ٢٧

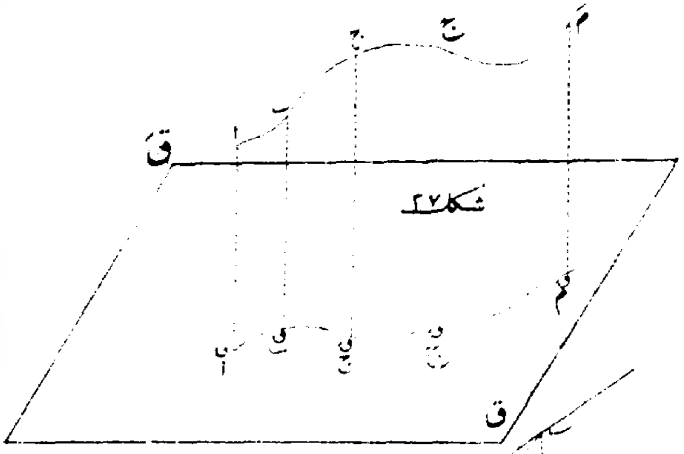

شكل ٢٨

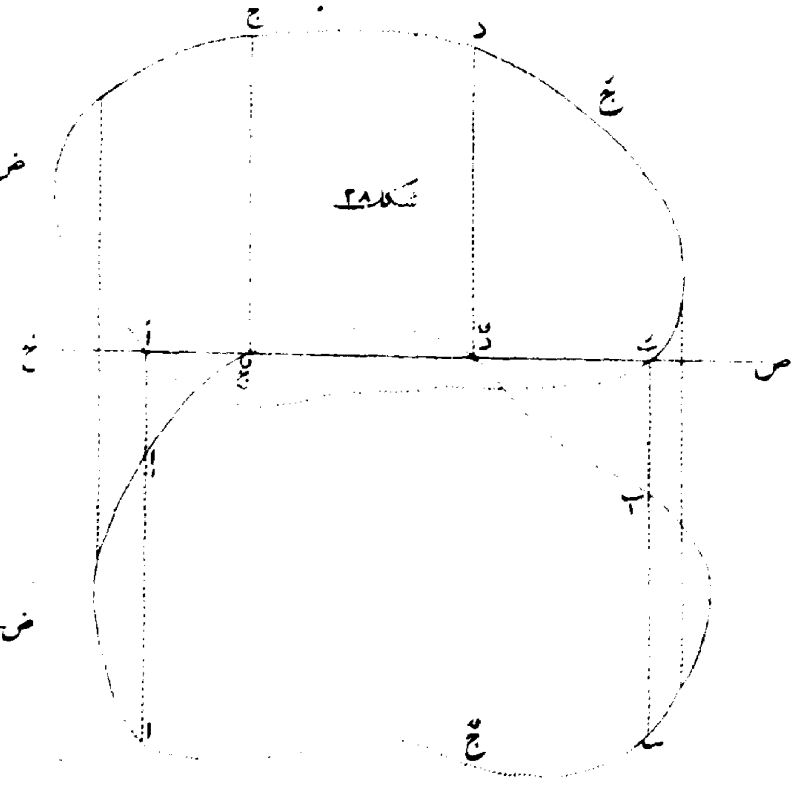

شكل ٢٩

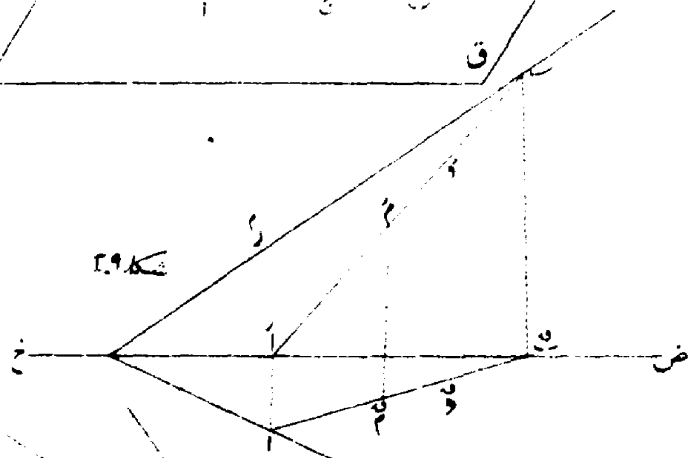

شكل ٣٠

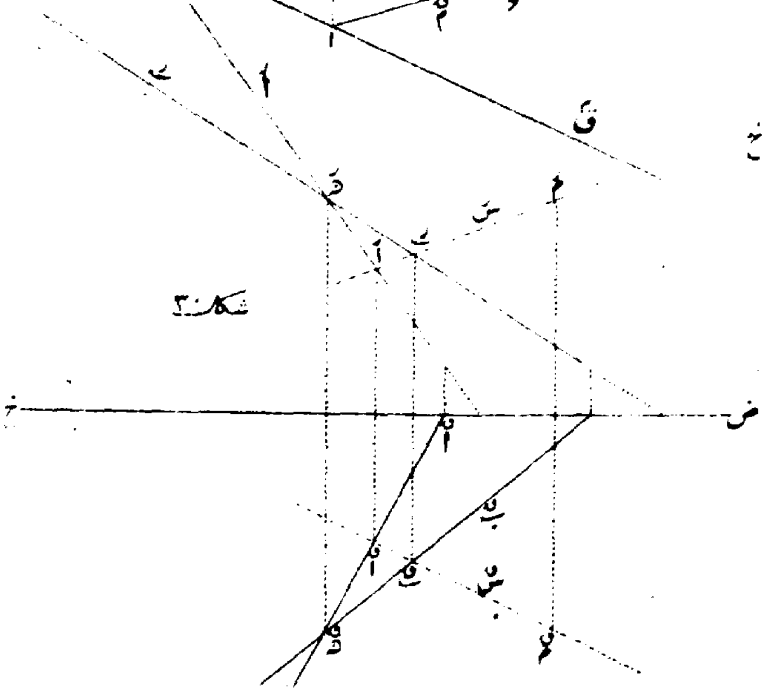

شكل ٢١

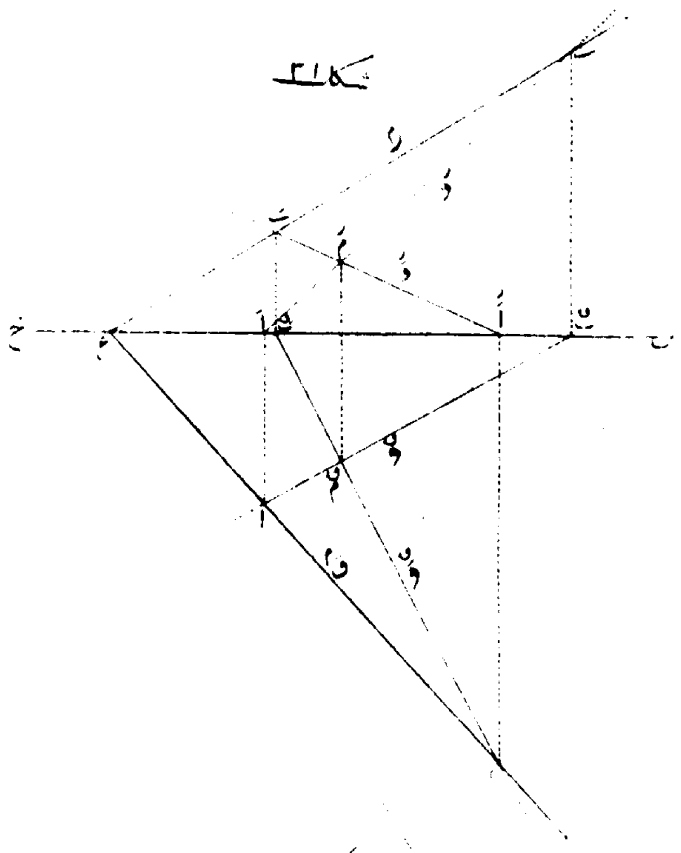

شكل ٢٢

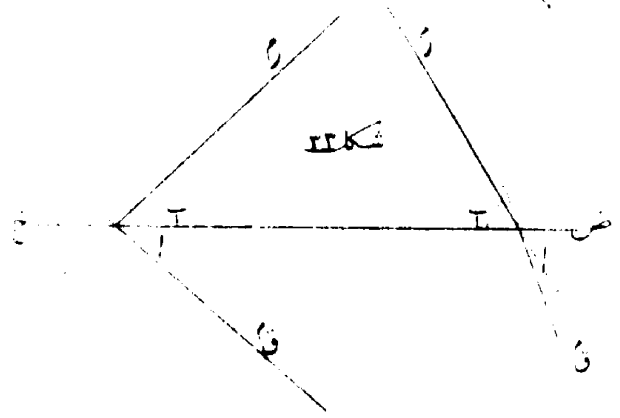

شكل ٢٣



شكل ٢٤



شكل ٢٥



شكل ٢٦

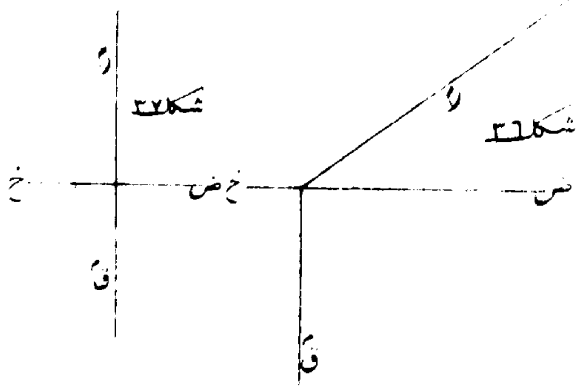

شكل ٢٧

شكل ٢٨



شكل ٢٩

شكل ٣٠



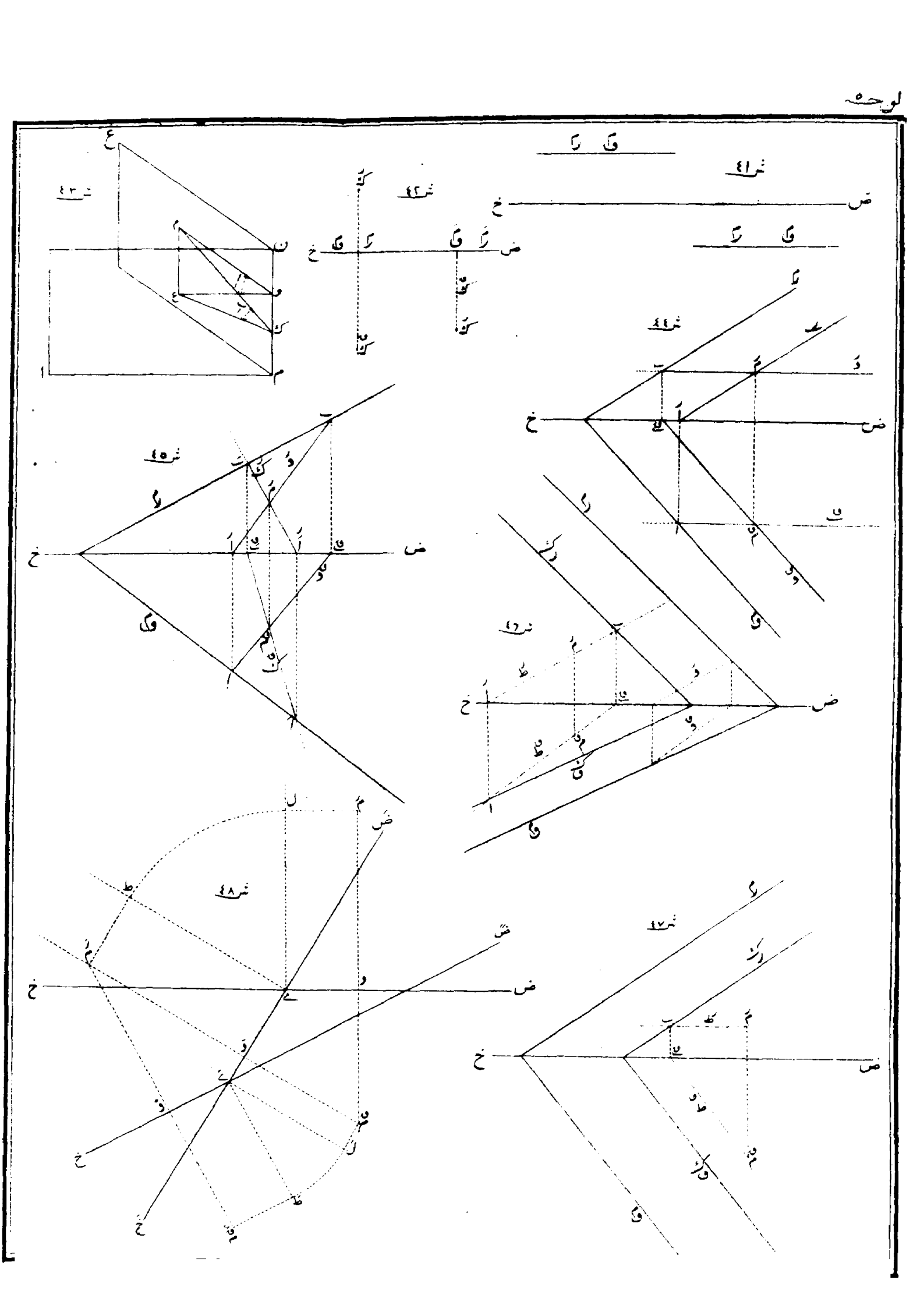
شـ ٤١
شـ ٤٢
شـ ٤٣
شـ ٤٤
شـ ٤٥
شـ ٤٦
شـ ٤٧
شـ ٤٨

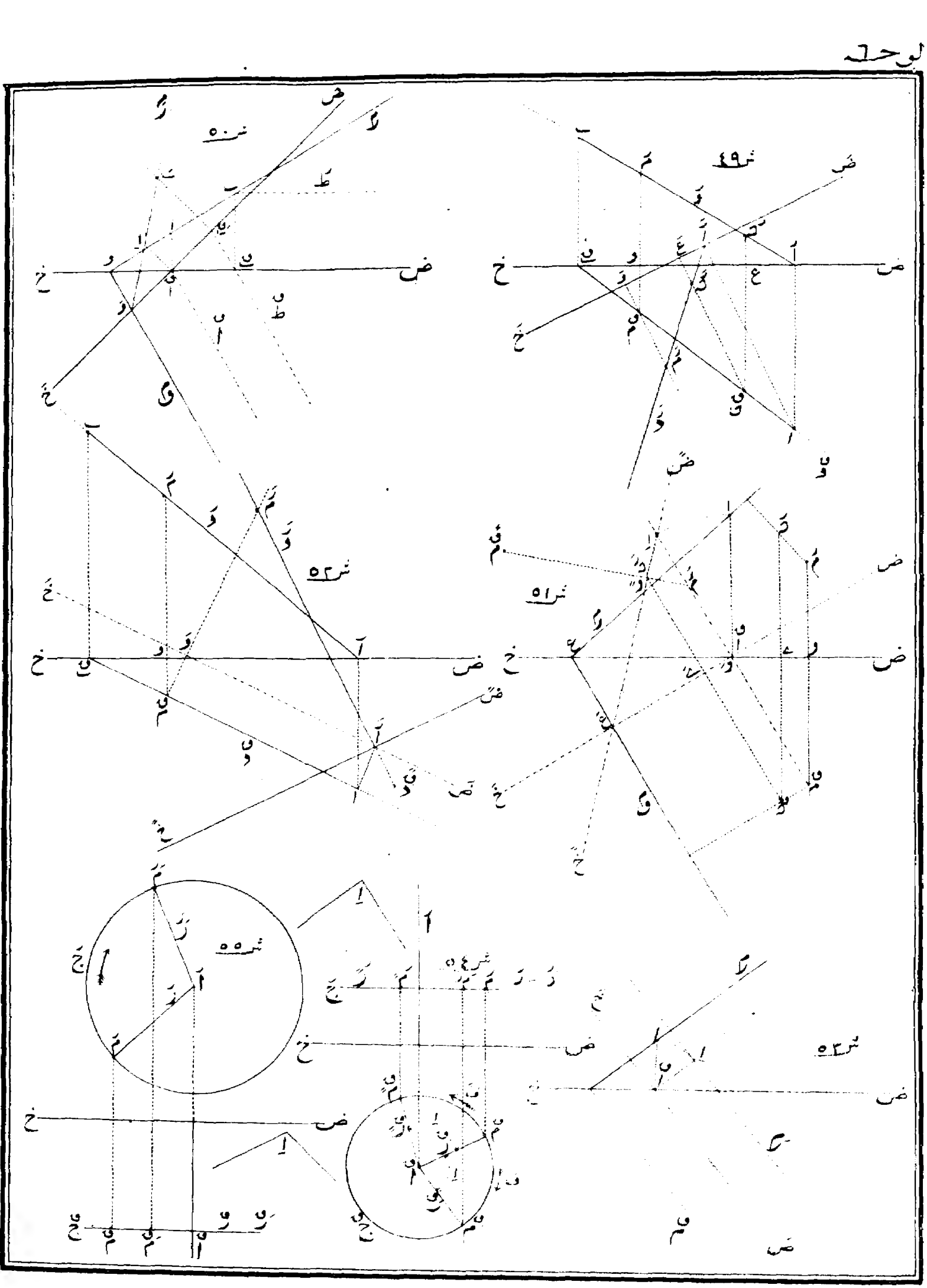
شـ ٤٩
شـ ٥٠
شـ ٥١
شـ ٥٢
شـ ٥٣
شـ ٥٤
شـ ٥٥

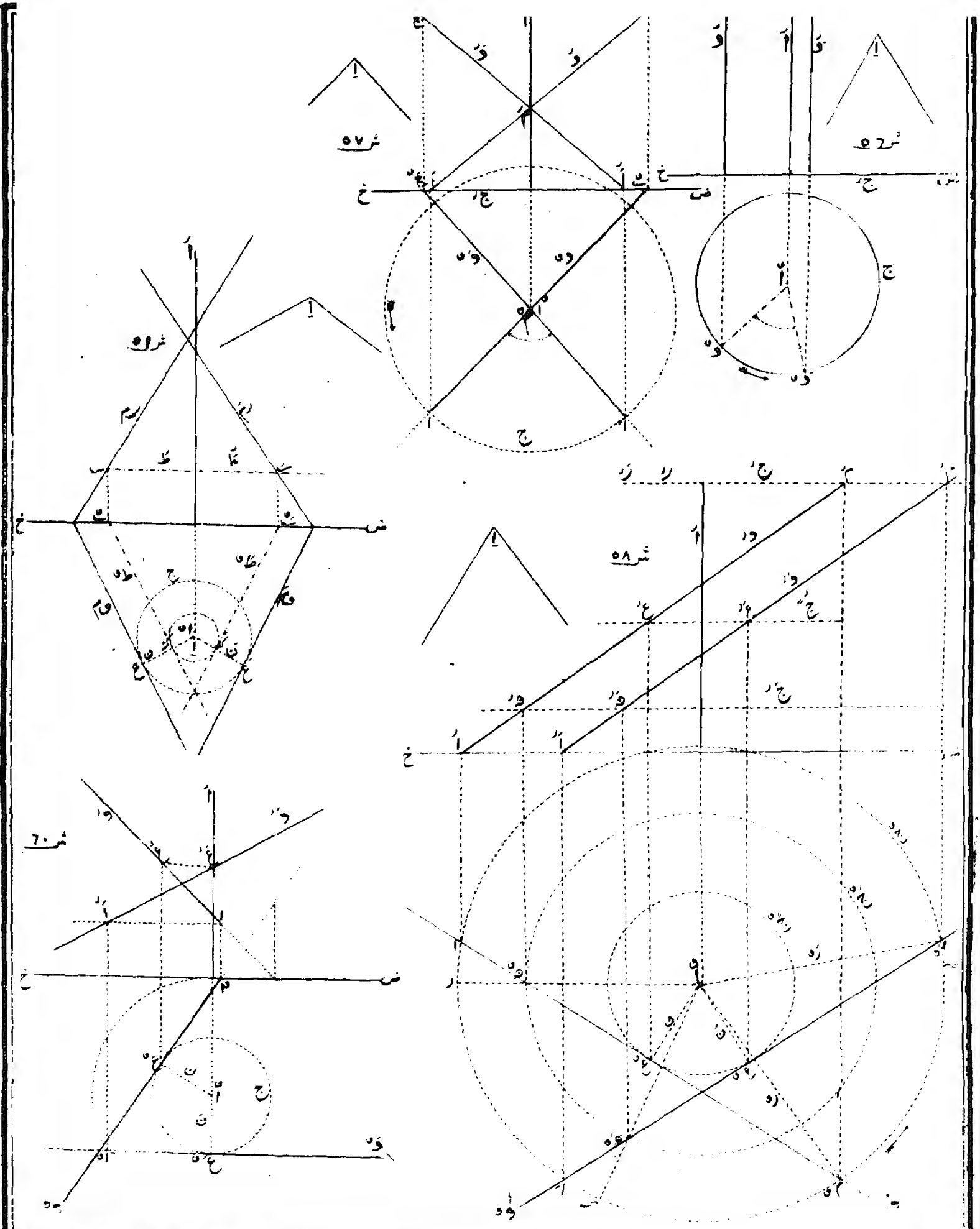
شـ ٥٧
شـ ٥٦
شـ ٥٥
شـ ٥٨
شـ ٦٠

شكل ٦١

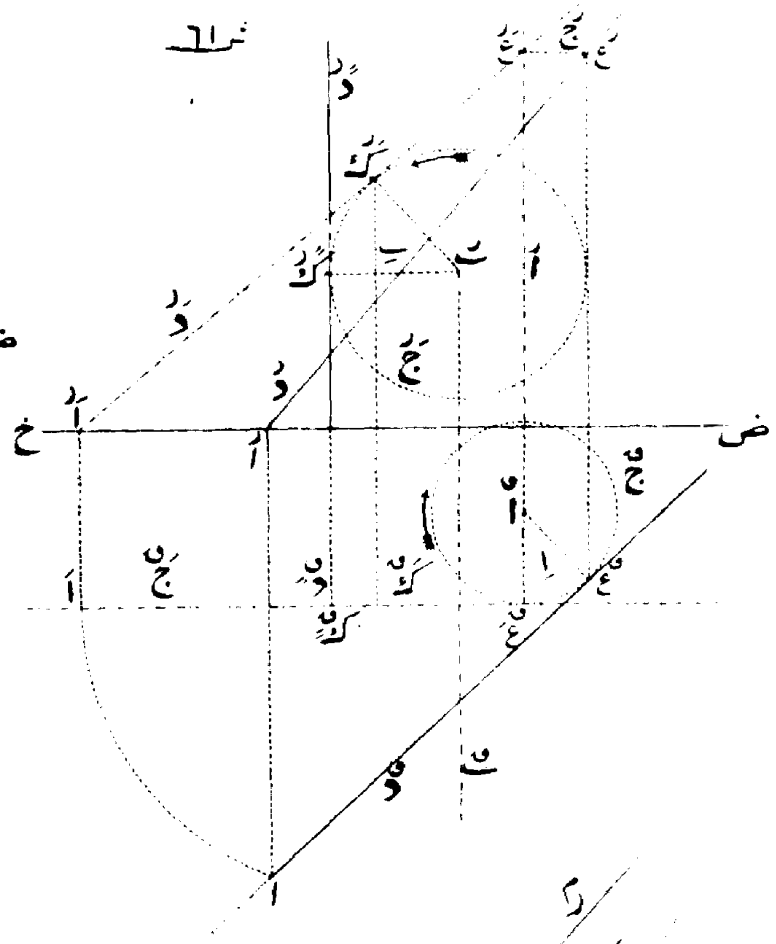

شكل ٦٢

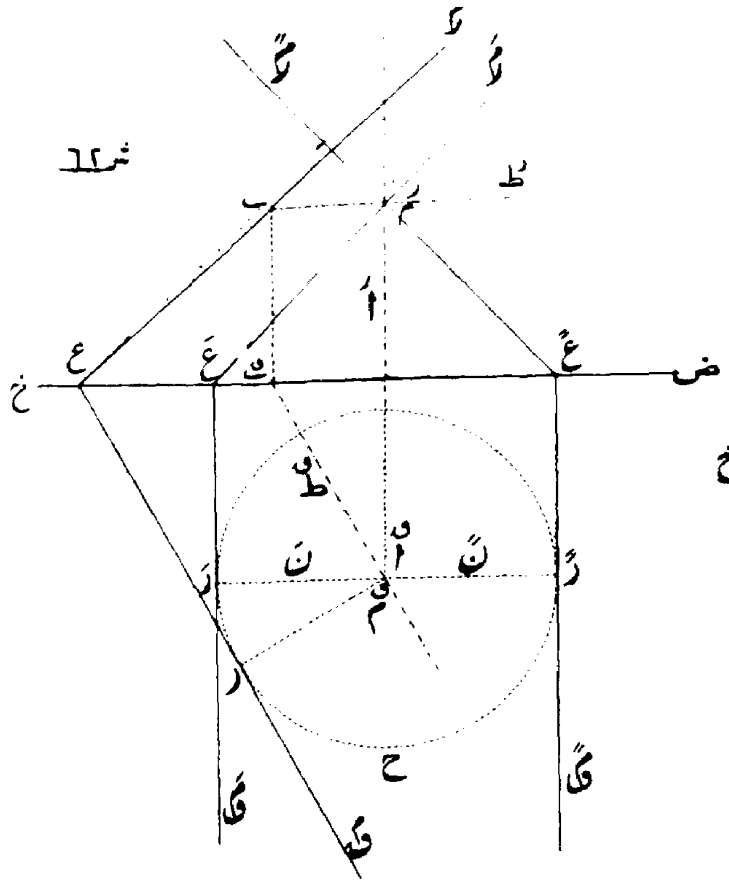

شكل ٦٣

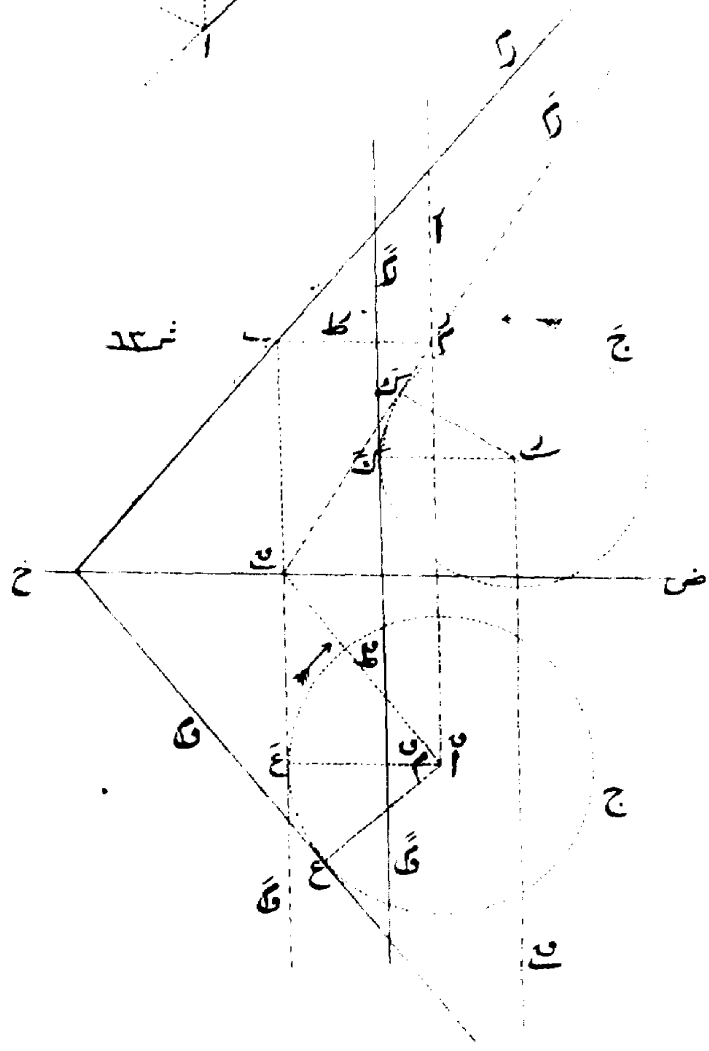

شكل ٦٤

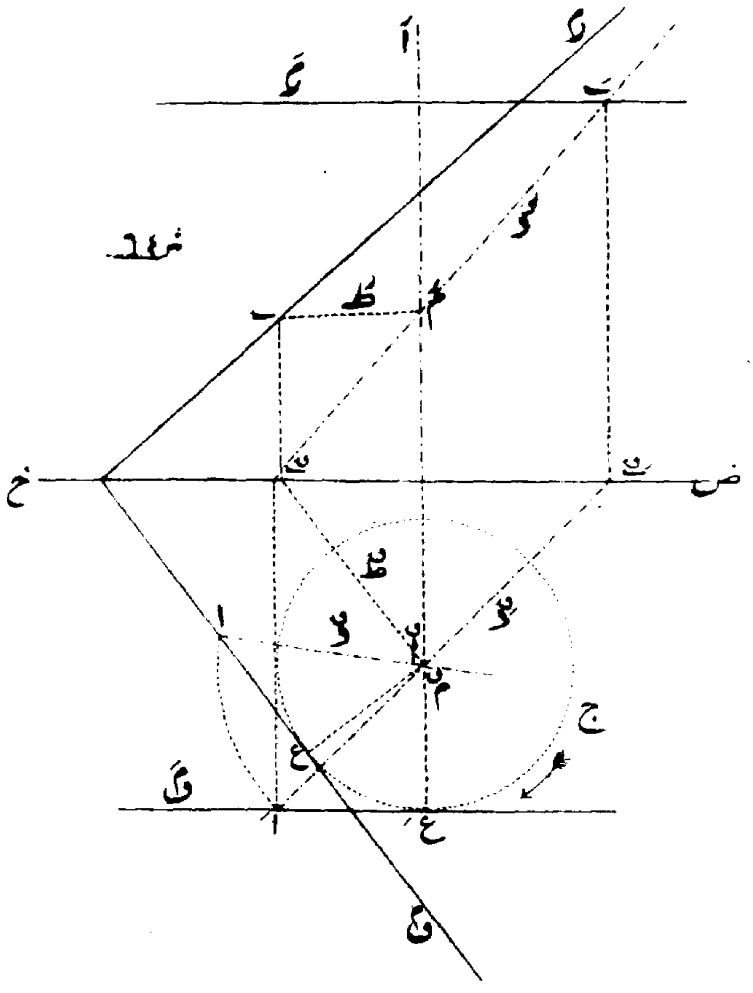

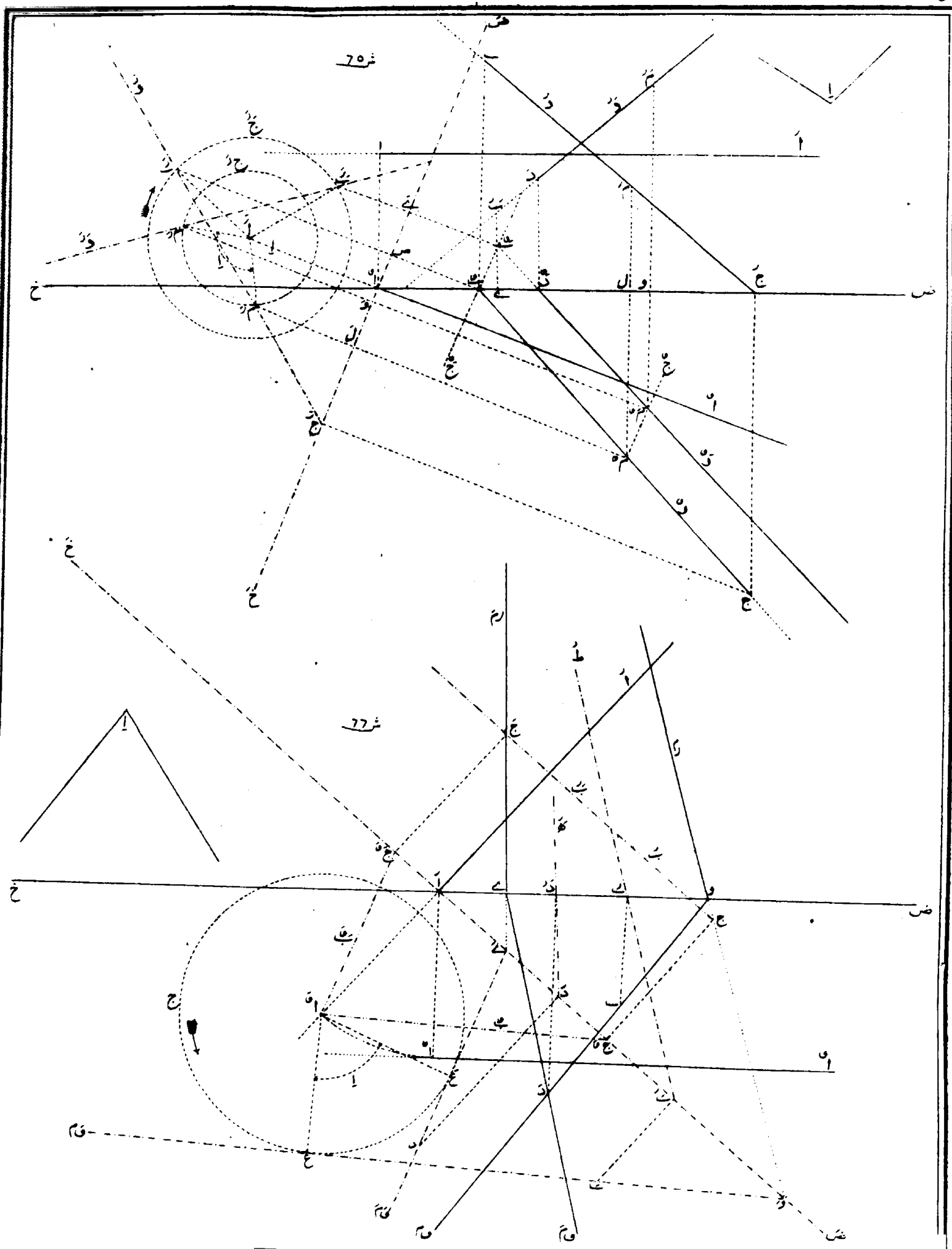
ش ٦٥
ش ٦٦

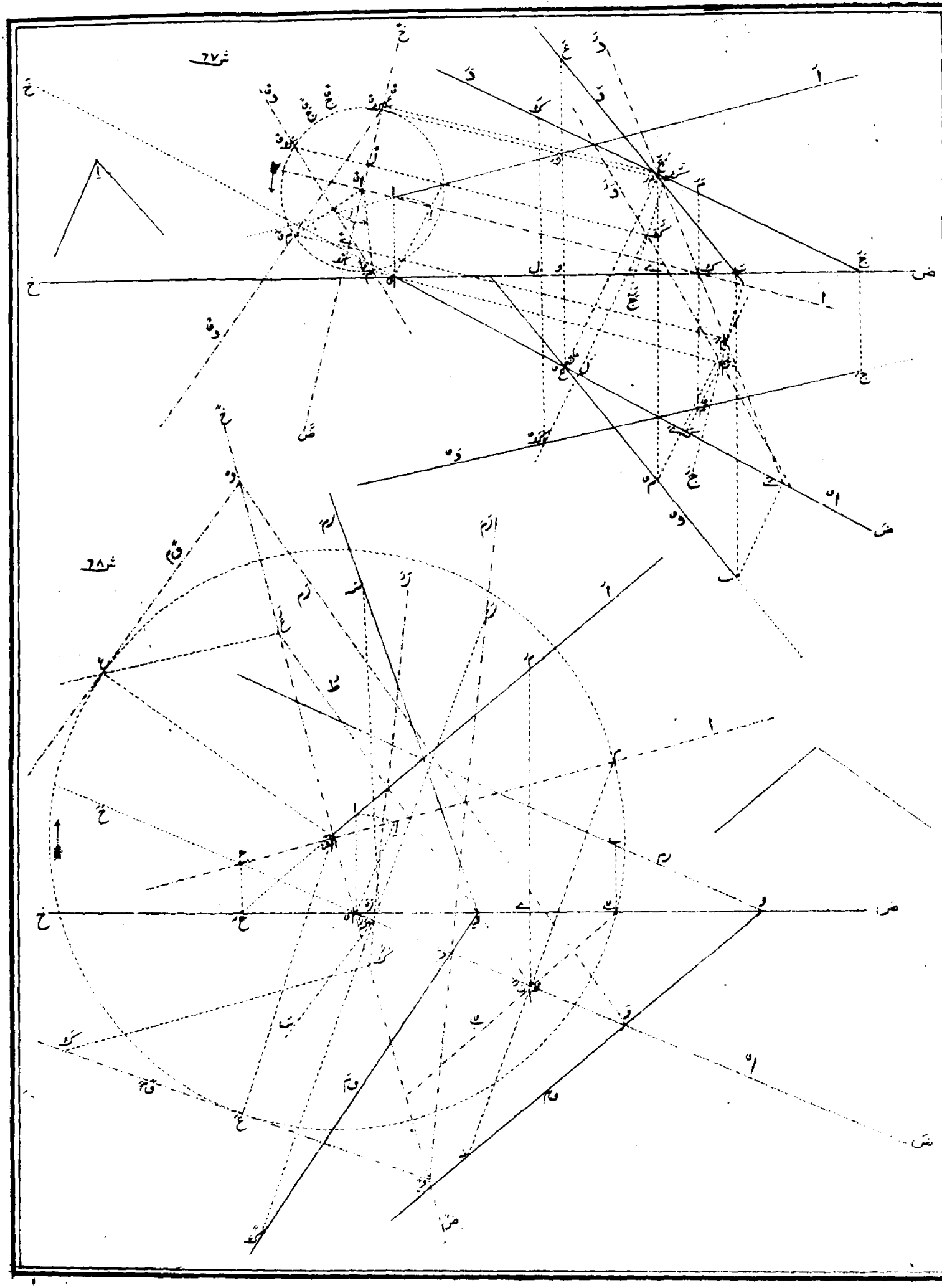
ش ٢٧
ش ٢٨

ش ٦٩

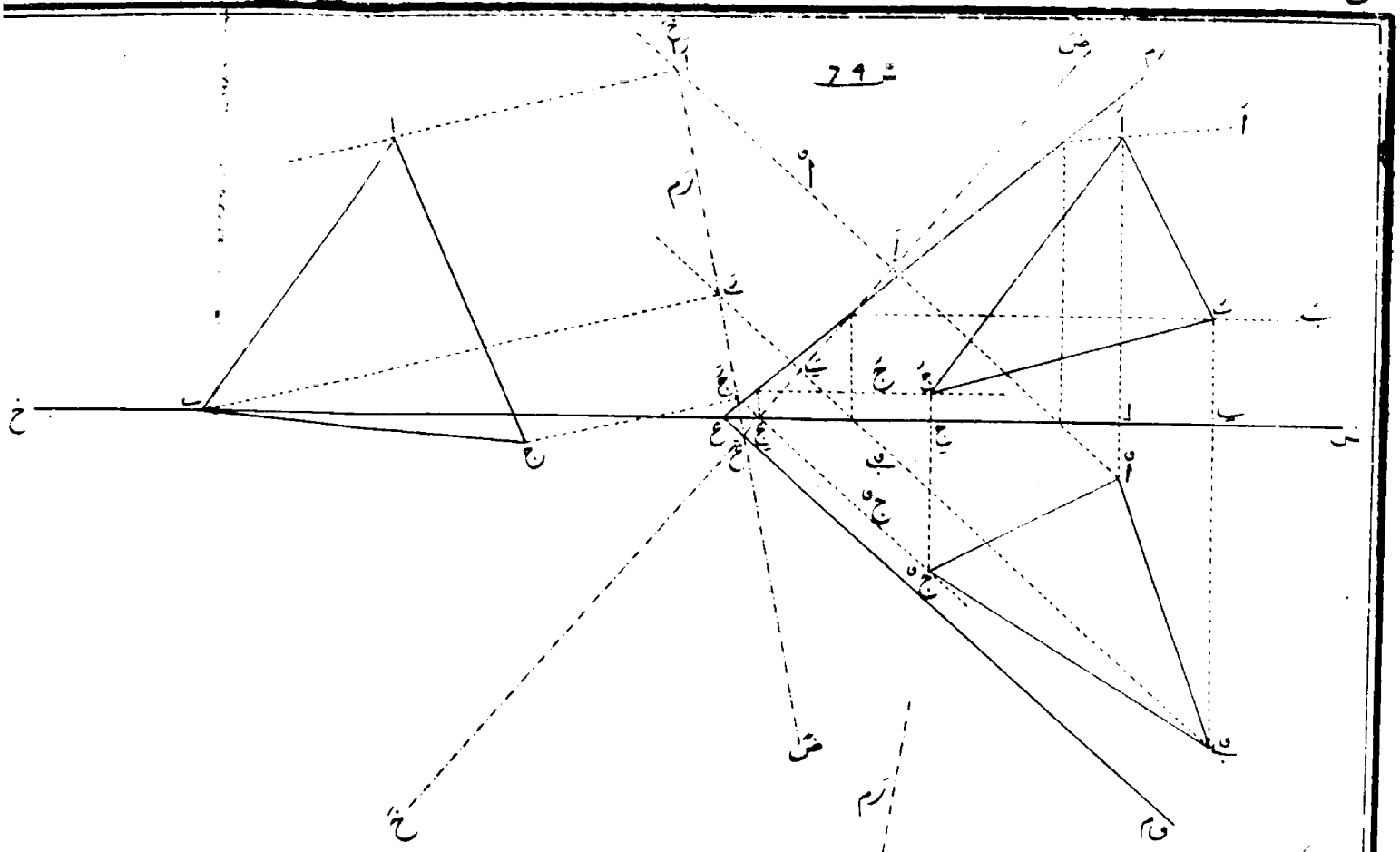

ش ٧٠

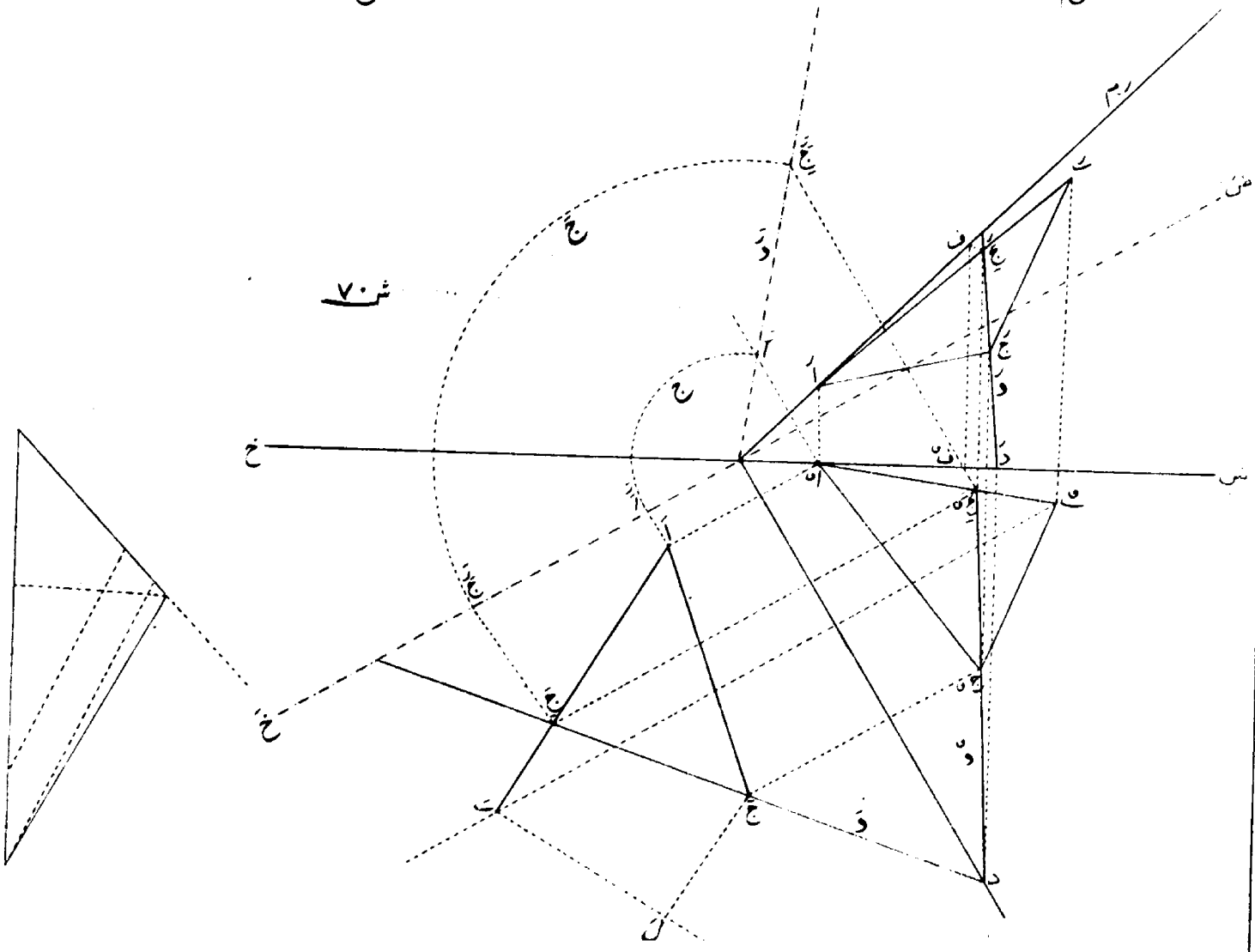

ش ٧١

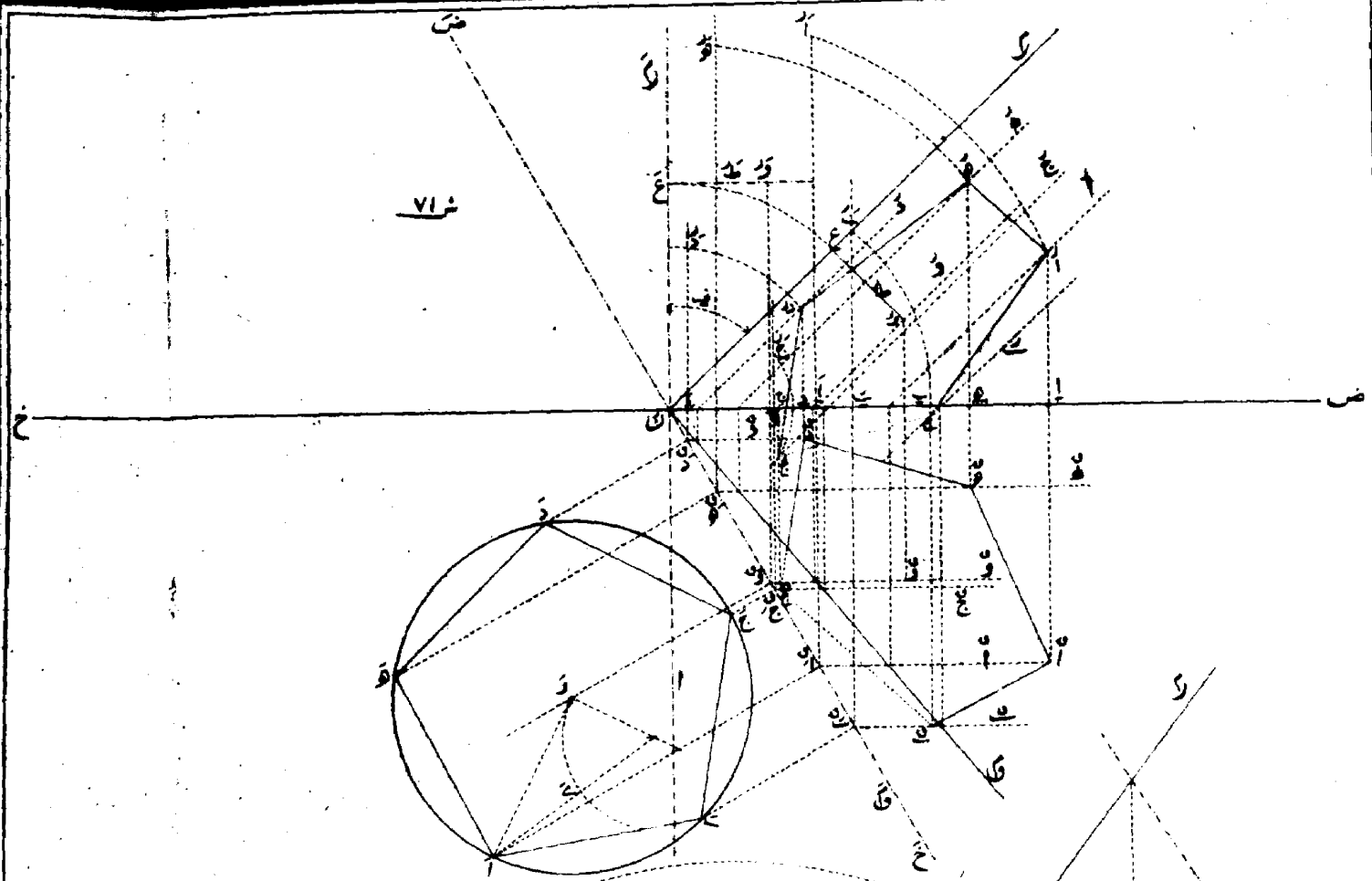

ش ٧٢

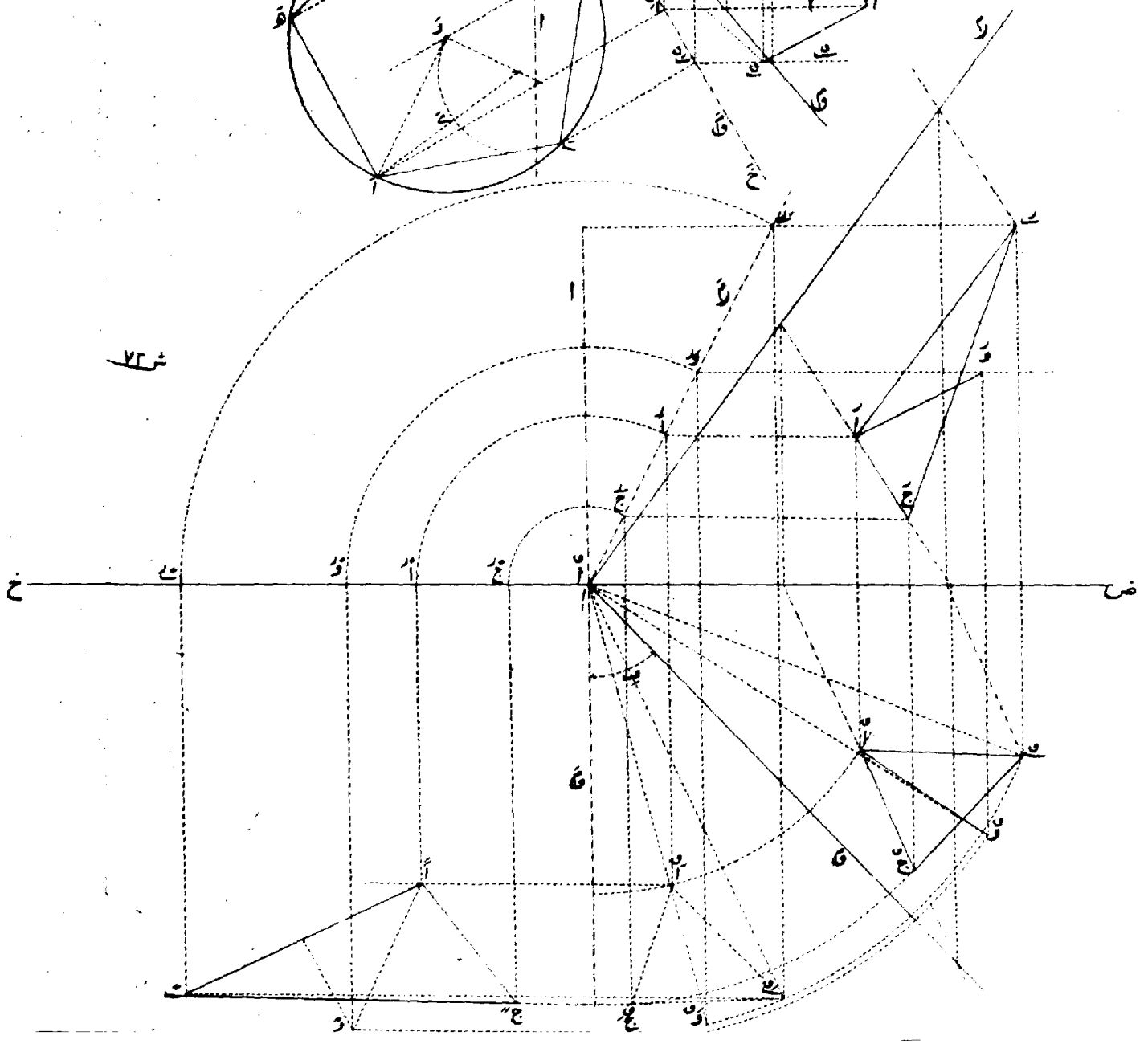

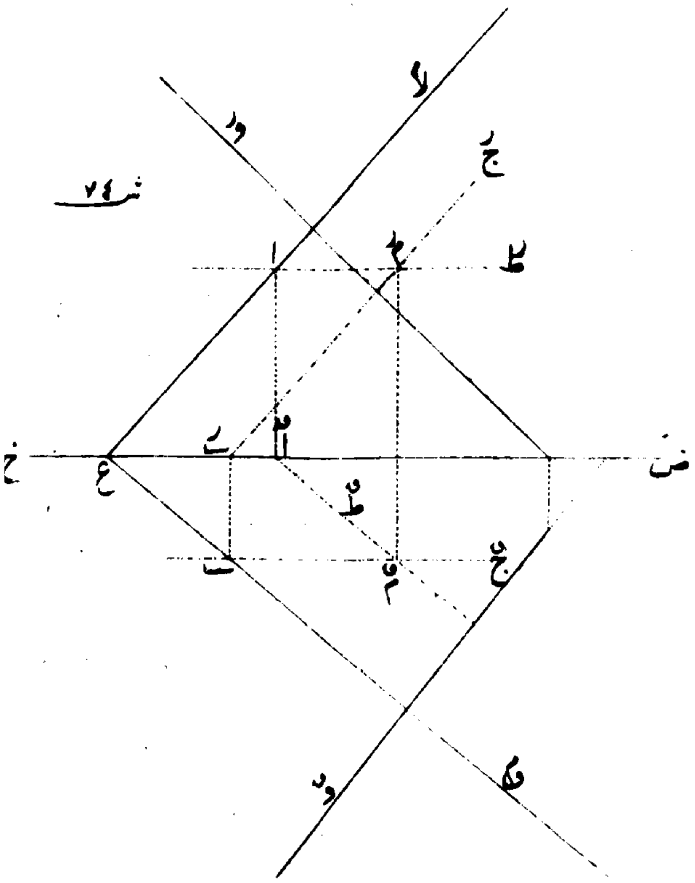

شكل ٧٤

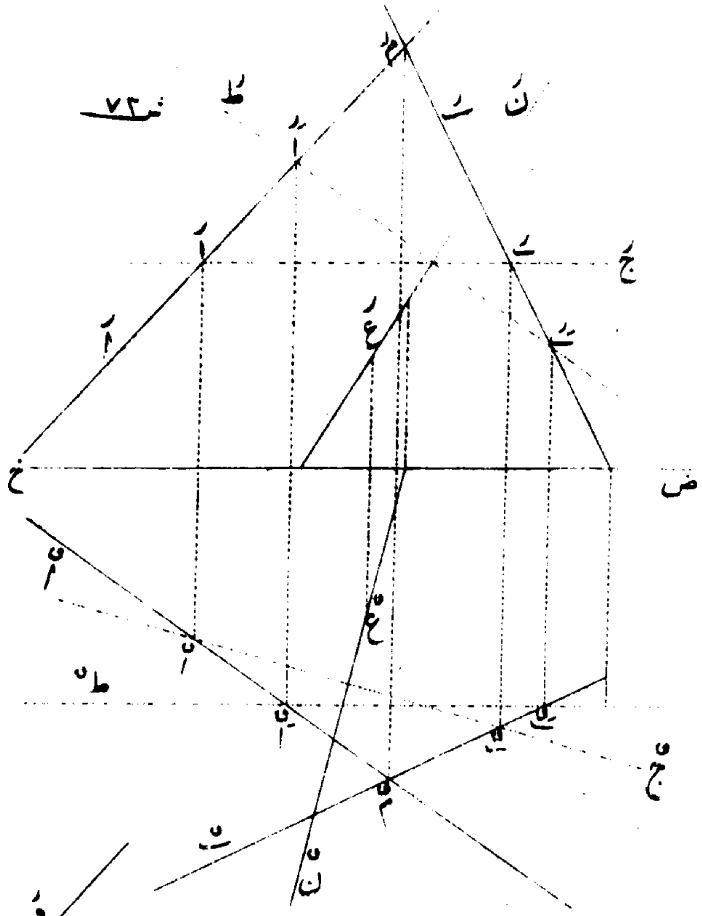

شكل ٧٣

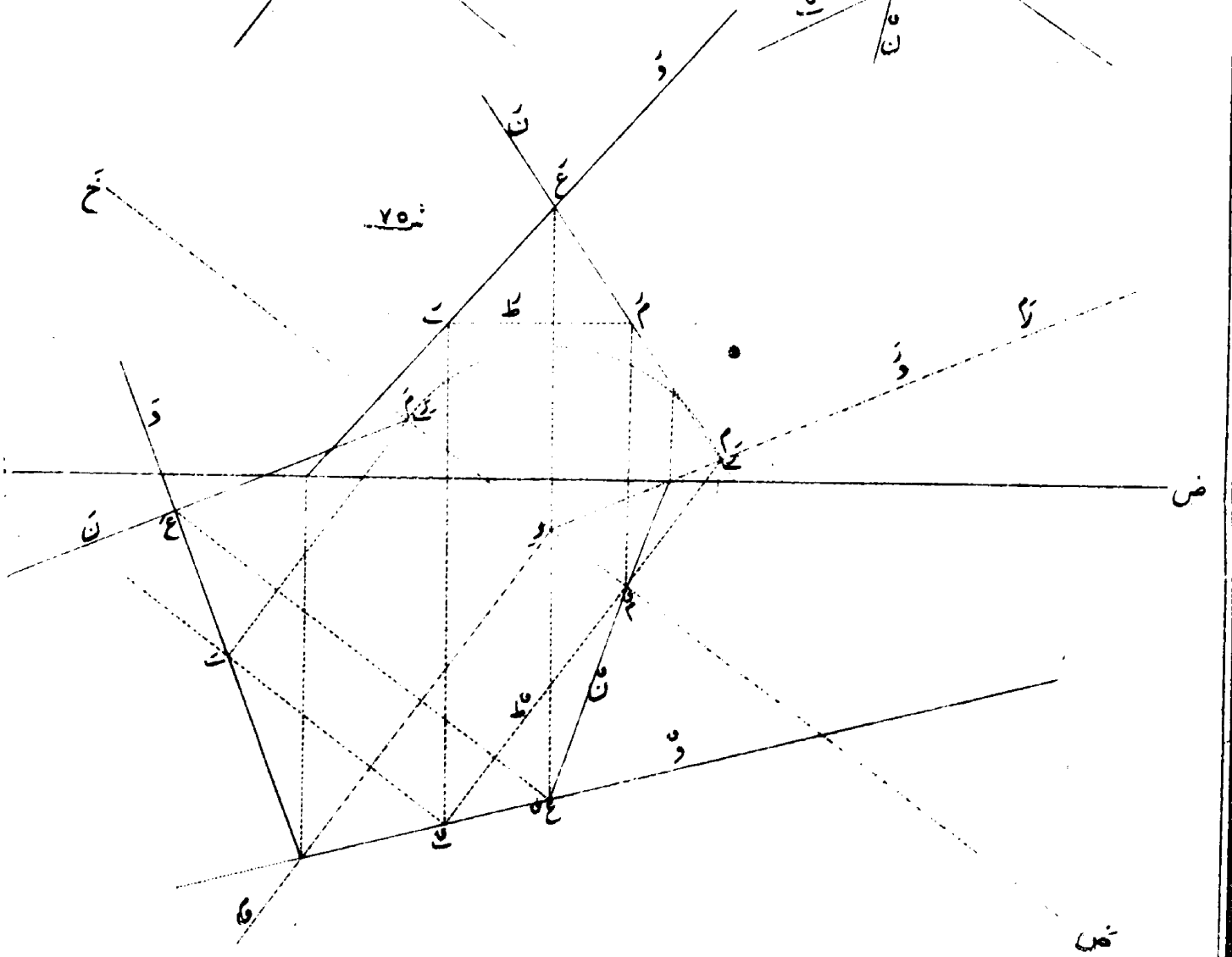

شكل ٧٥

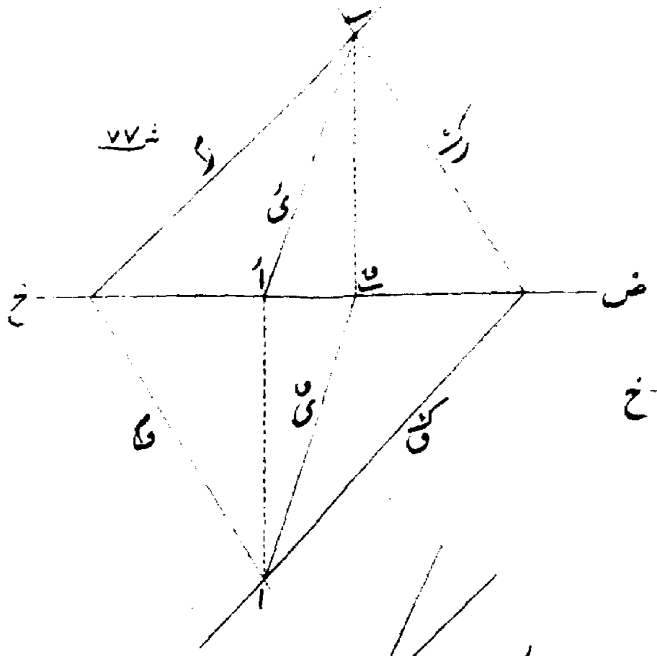
شكل ٧٧
خ
ض

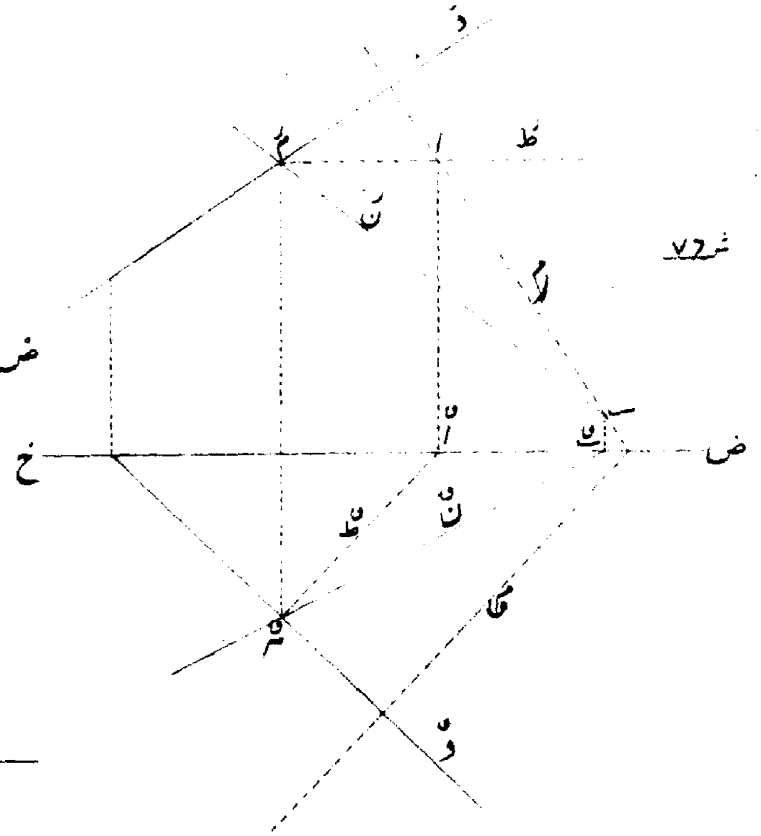
شكل ٧٦
خ
ض

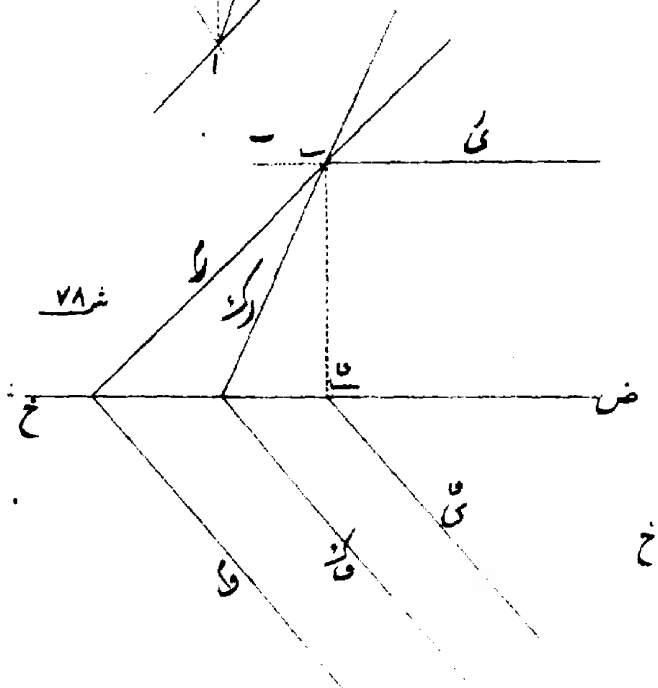
شكل ٧٨
خ
ض

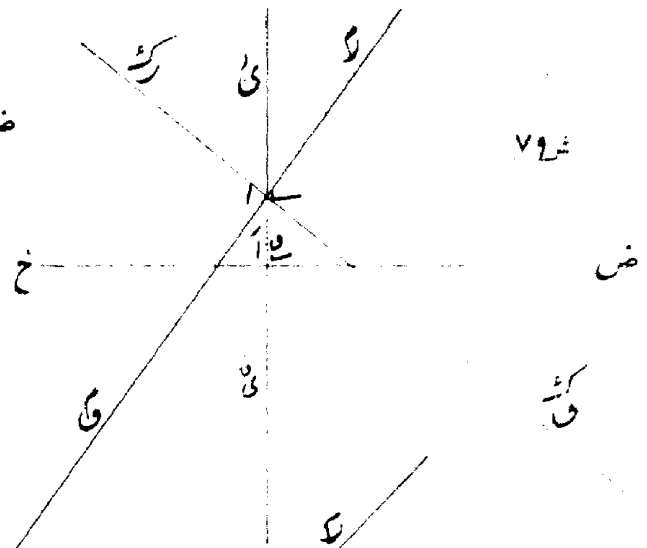
شكل ٧٩
خ
ض

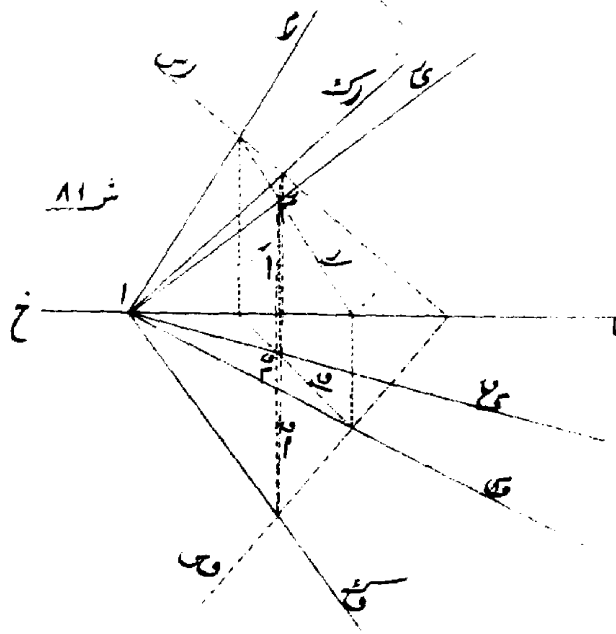
شكل ٨١
خ
ض

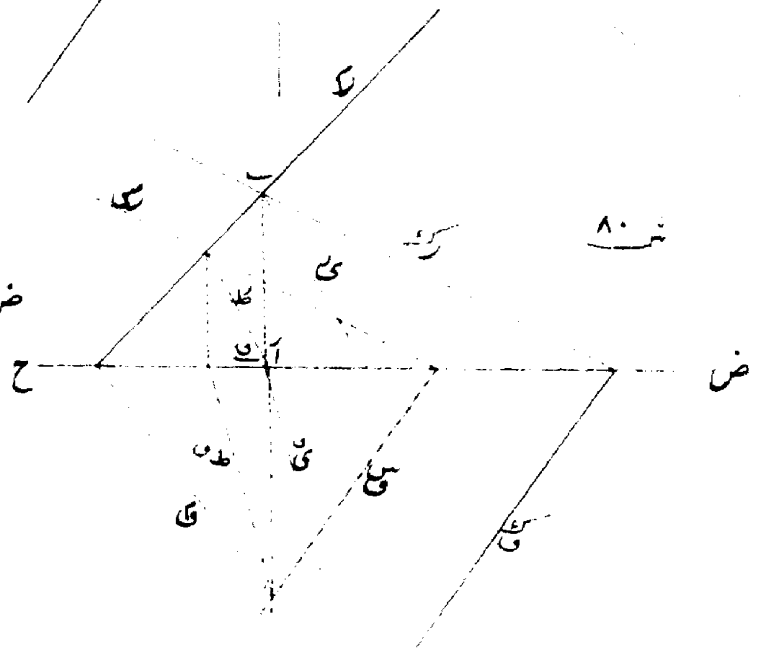
شكل ٨٠
ح
ض

شكل ٨٣

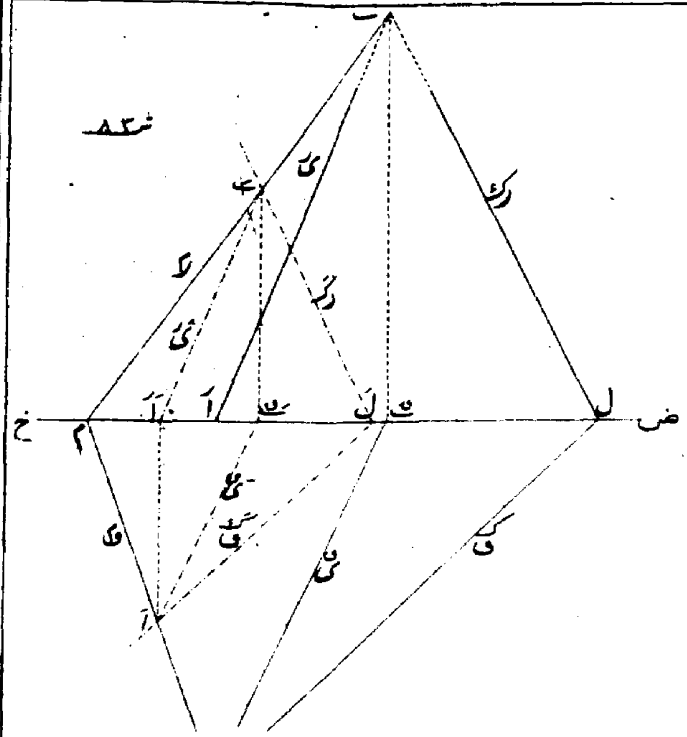

شكل ٨٤

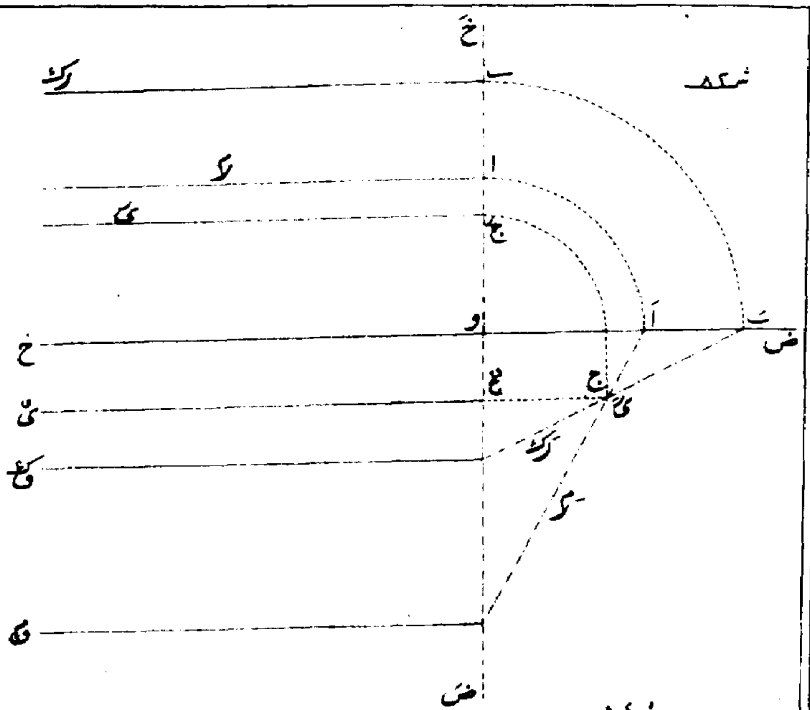

شكل ٨٥

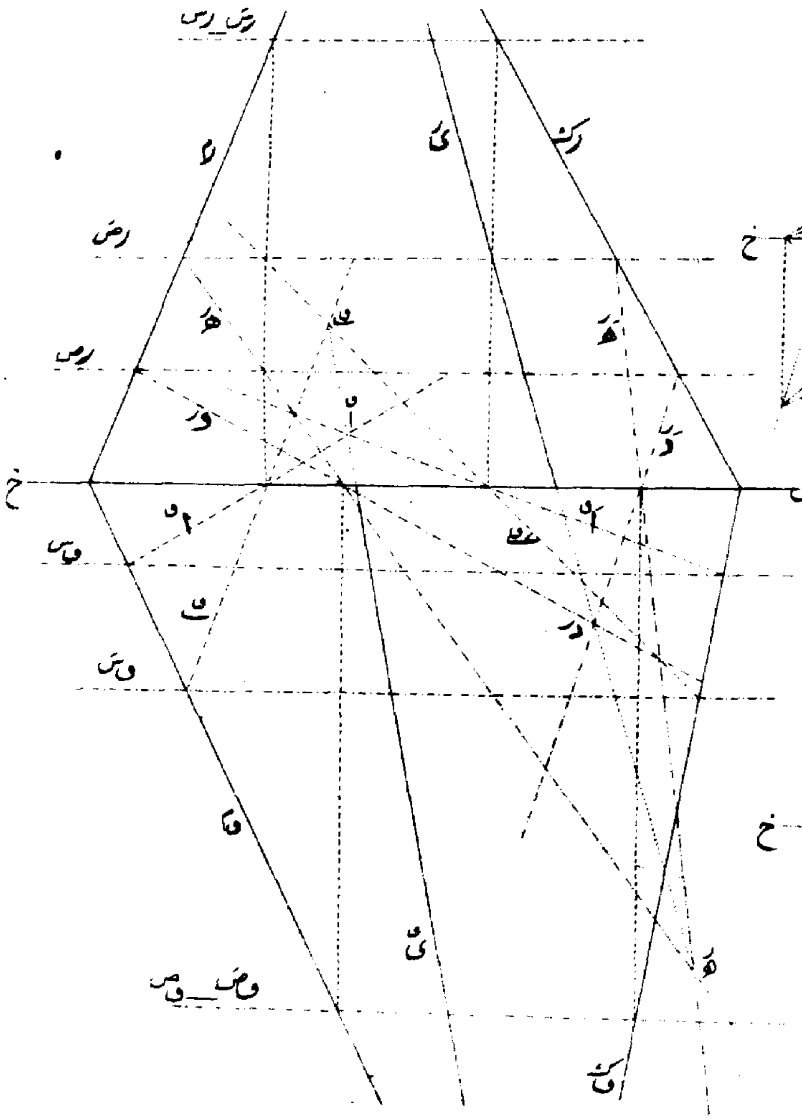

شكل ٨٦

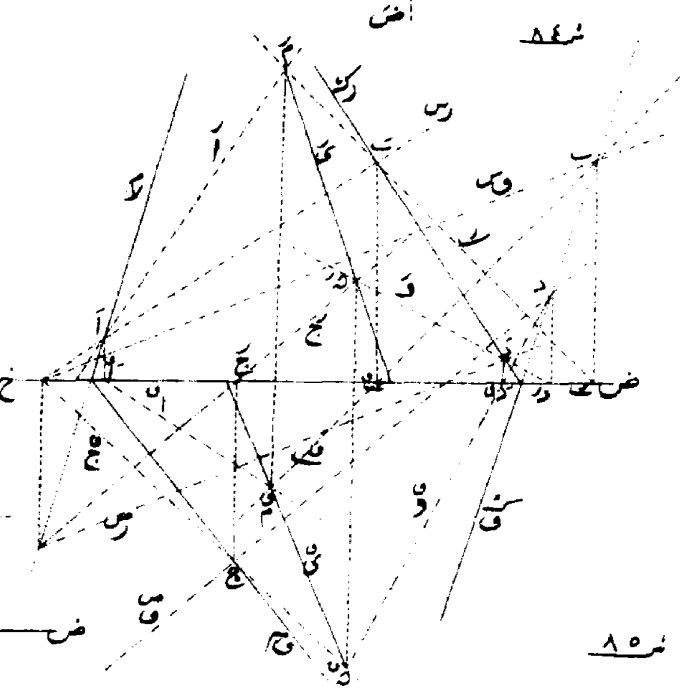

شكل ٨٧

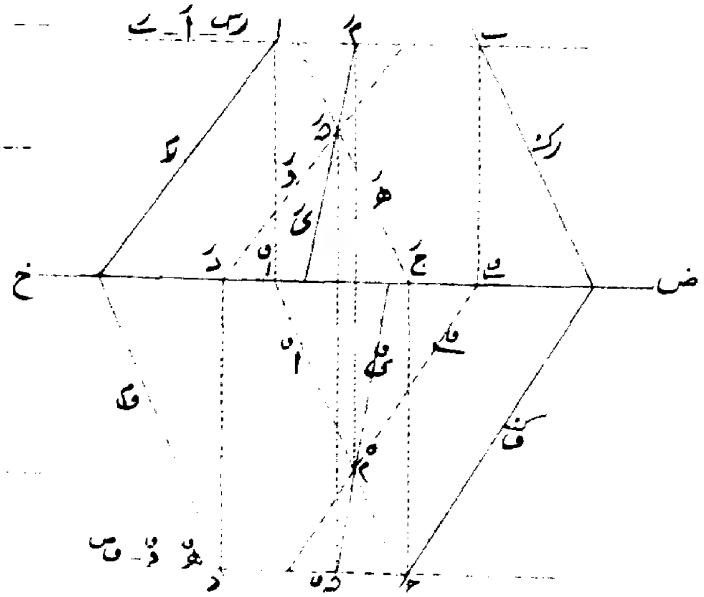

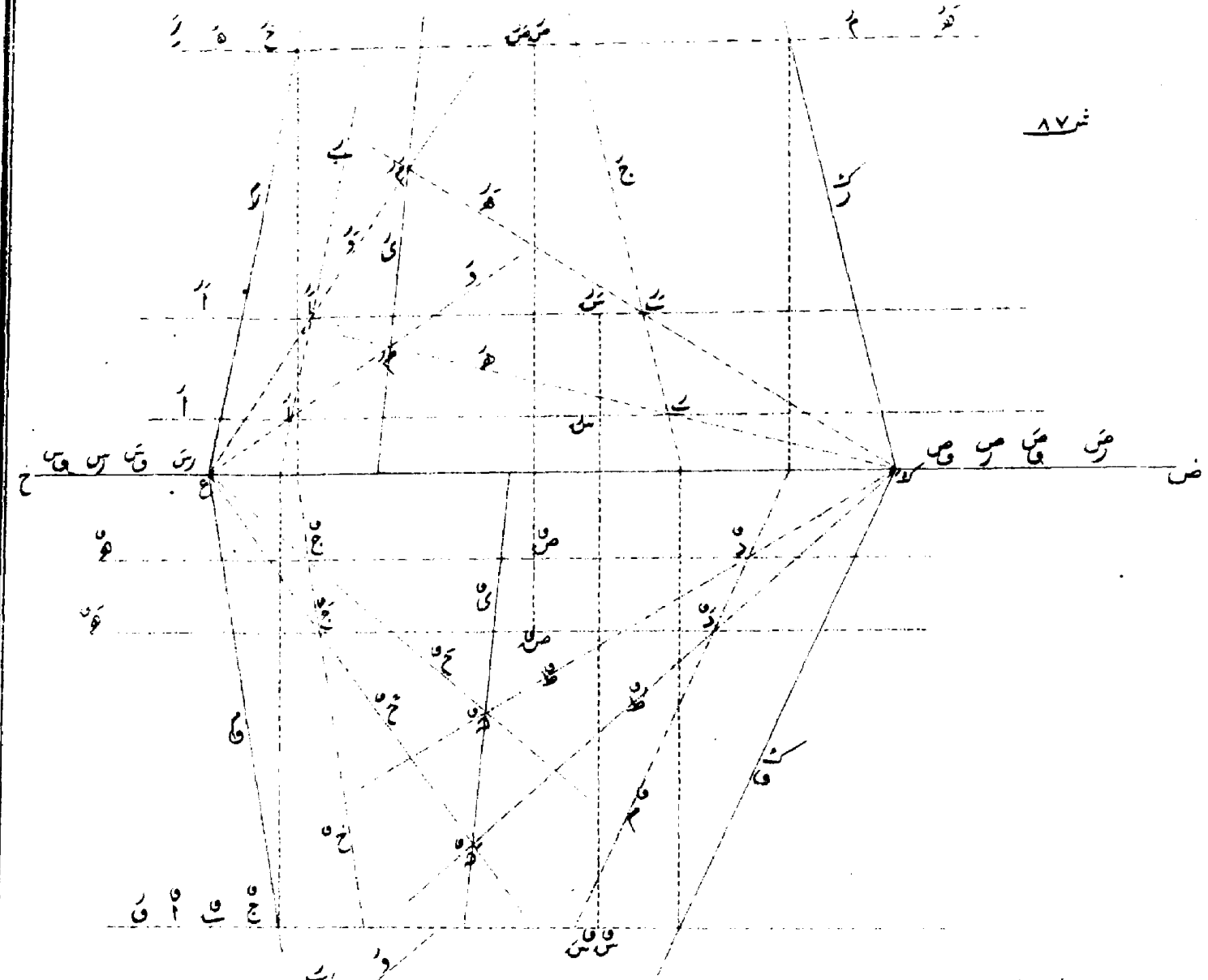

شكل ٨٧

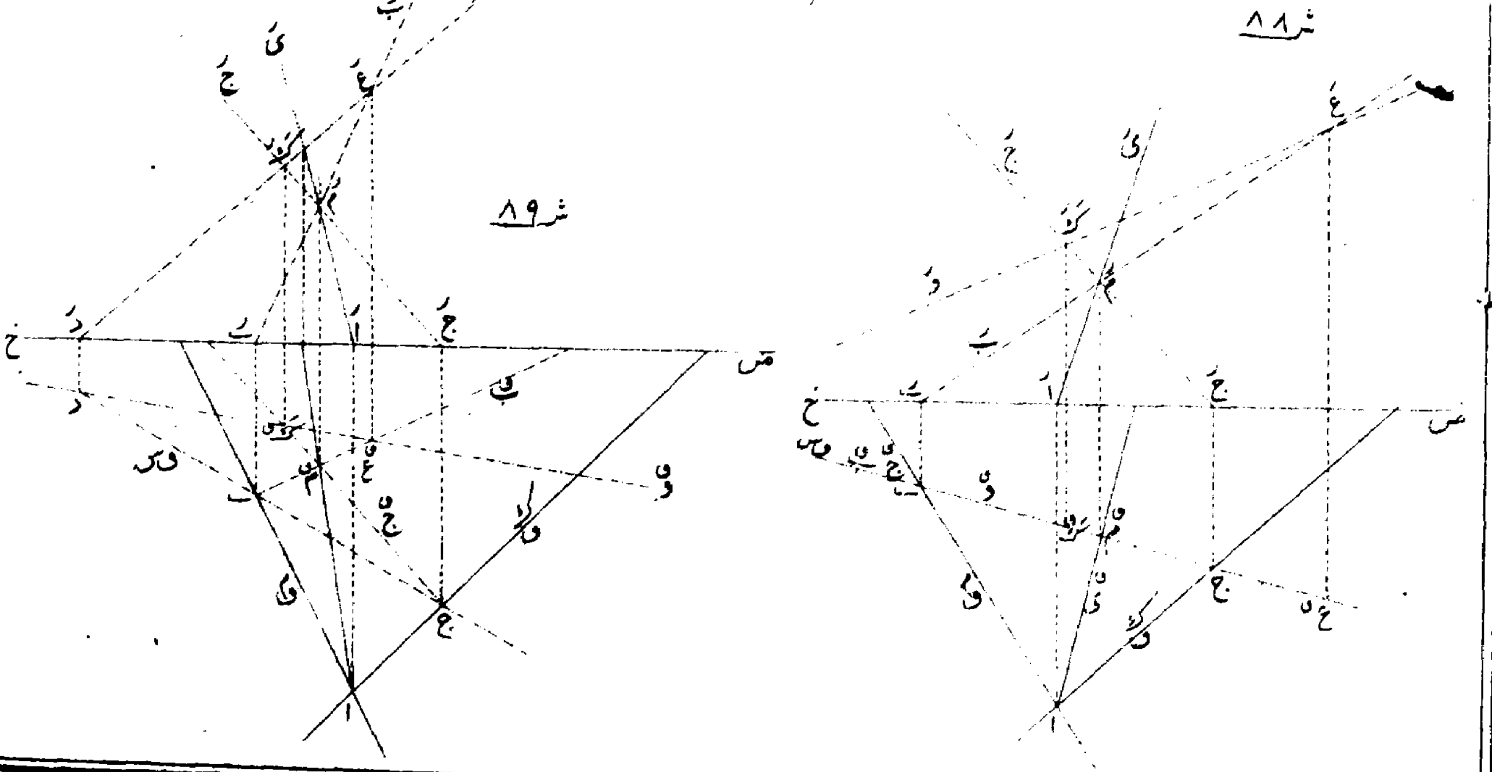

شكل ٨٨

شكل ٨٩

شـ ۹۱

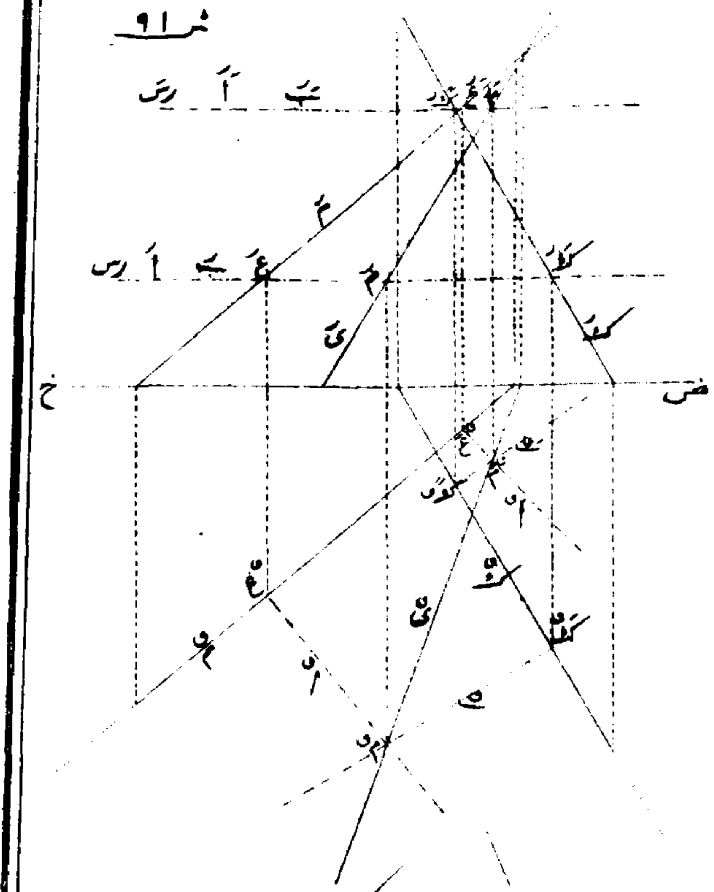

شـ ۹۲

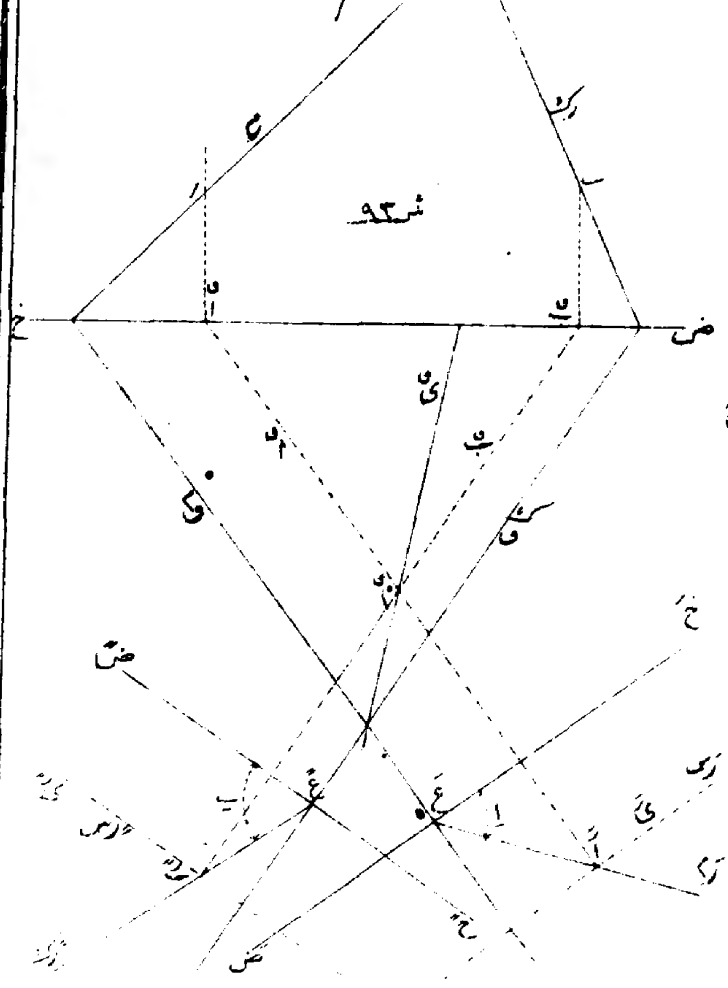

شـ ۹۳

شـ ۹۰

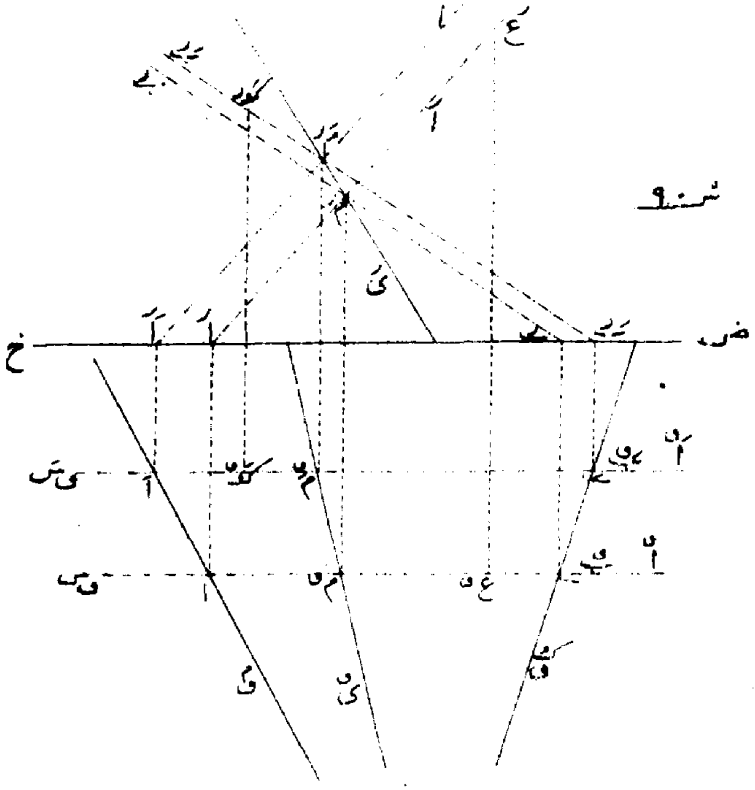

شـ ۹۴

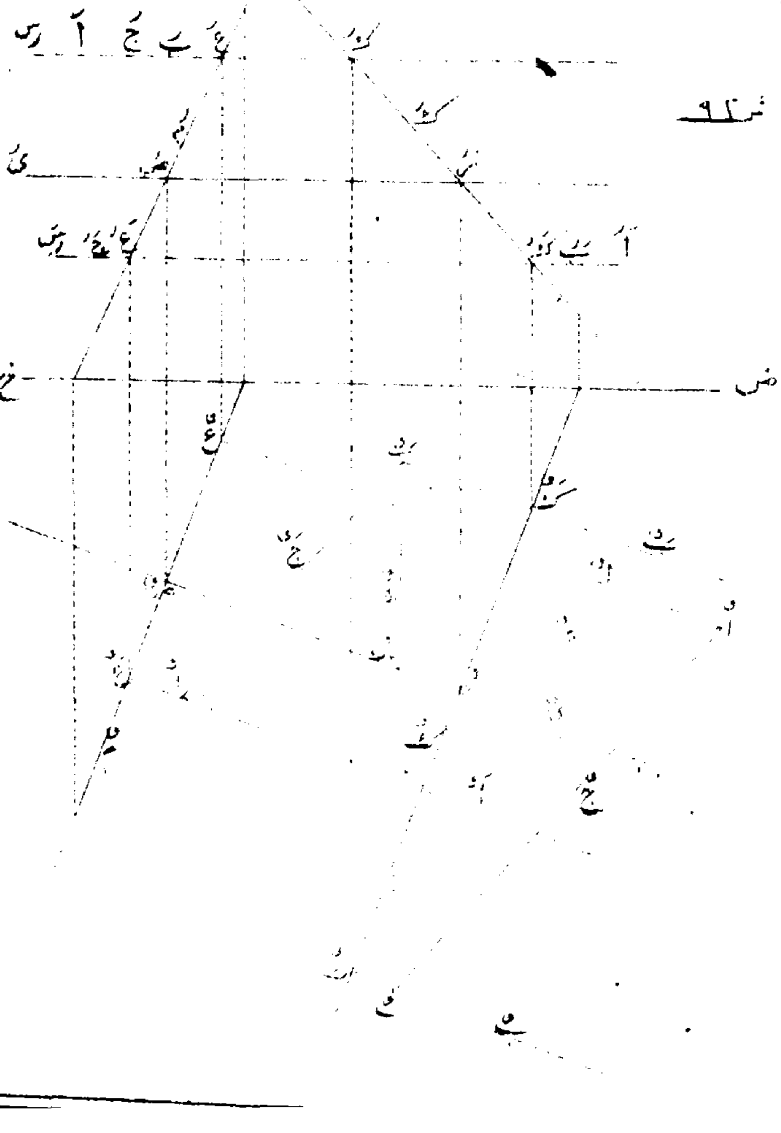

شكل ٩٥

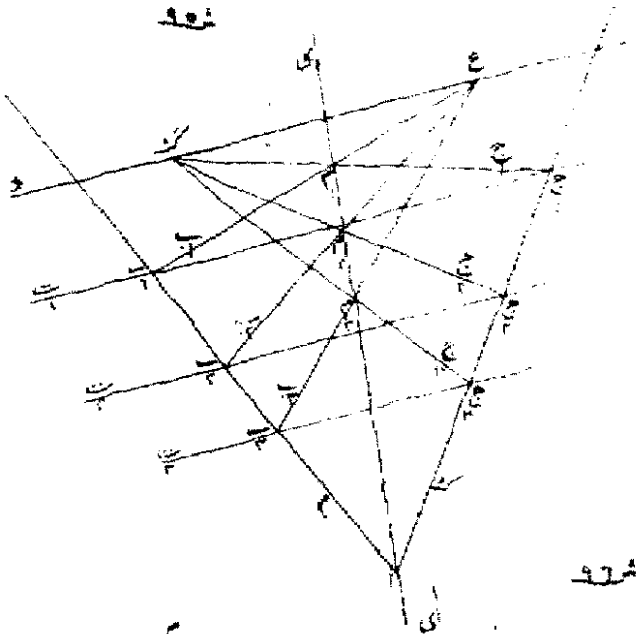

شكل ٩٤

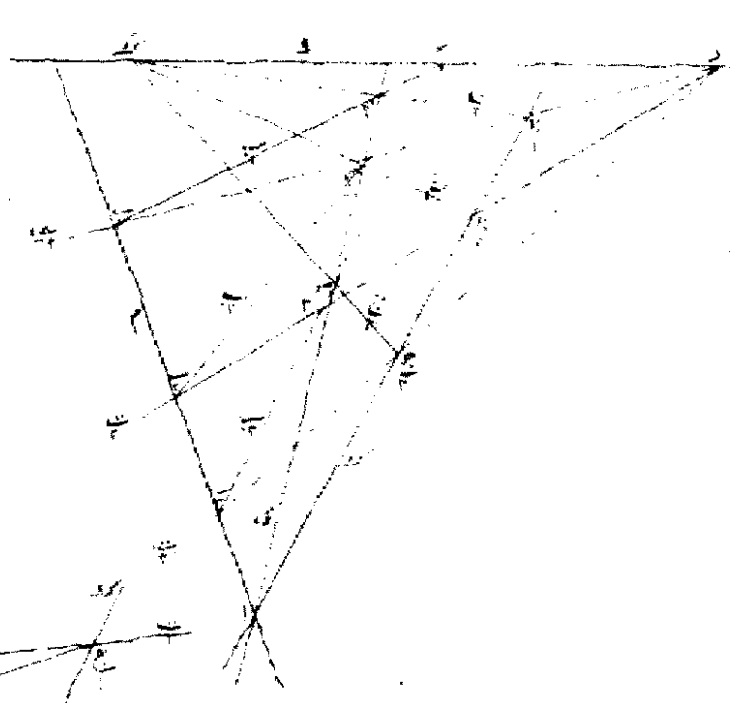

شكل ٩٦

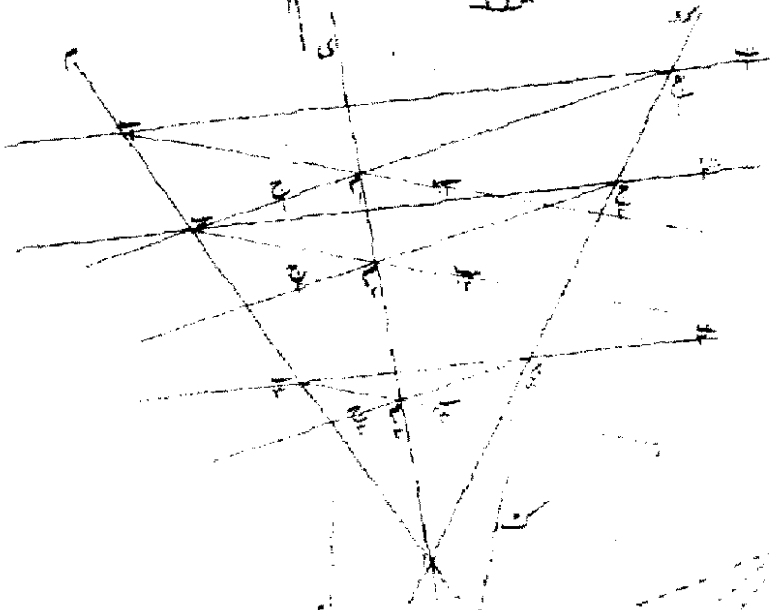

شكل ٩٧

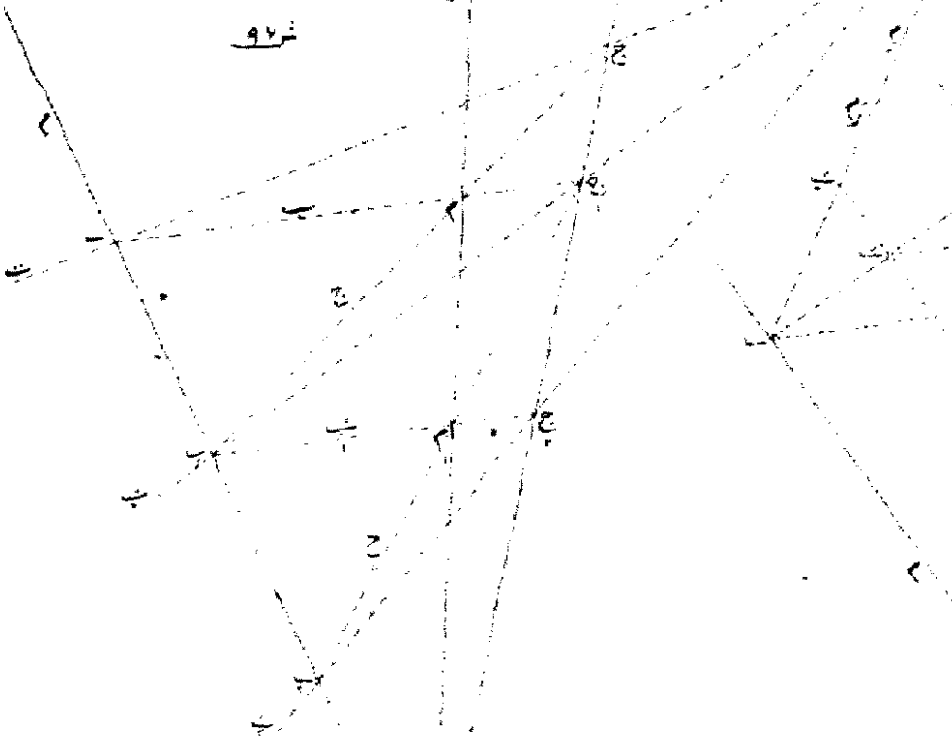

شكل ٩٨

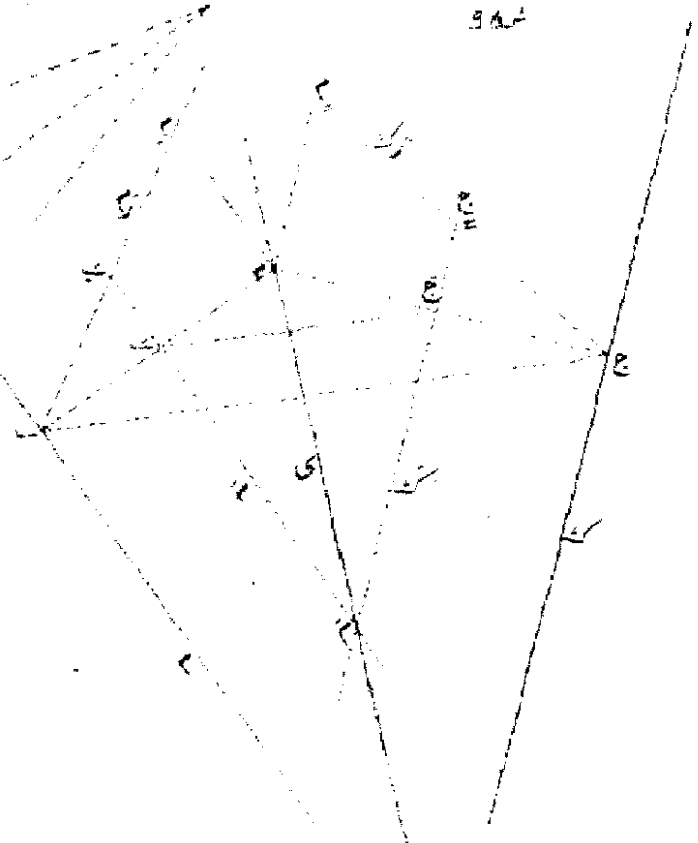

شكل ٩٩

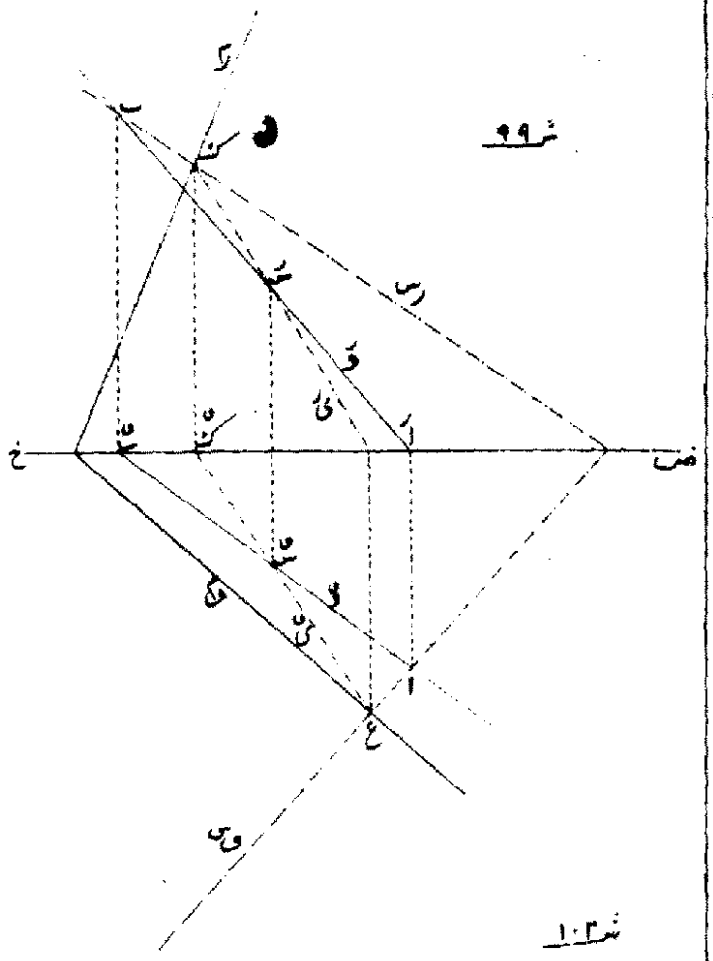

شكل ١٠٠

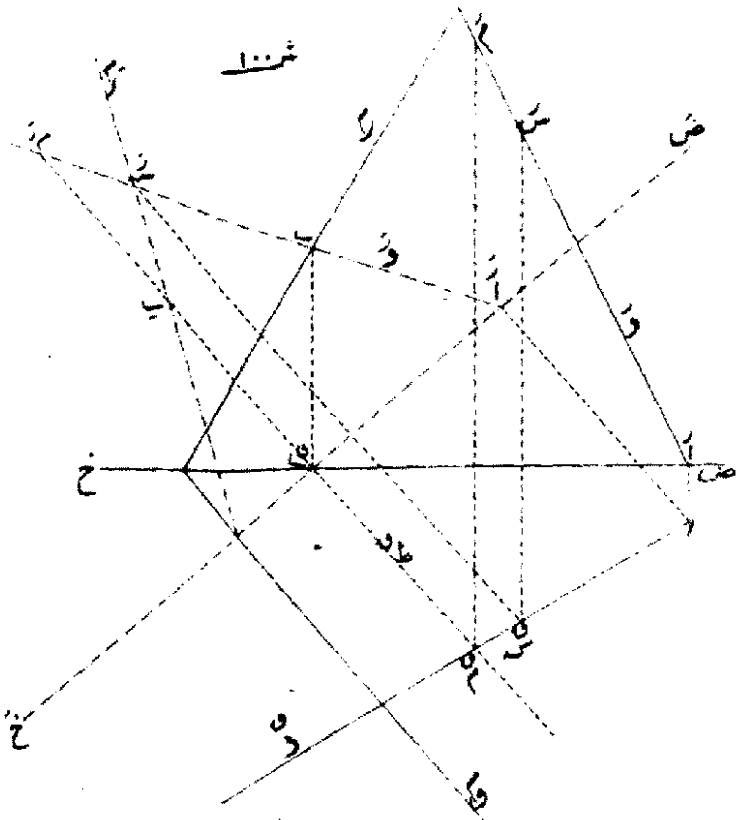

شكل ١٠١

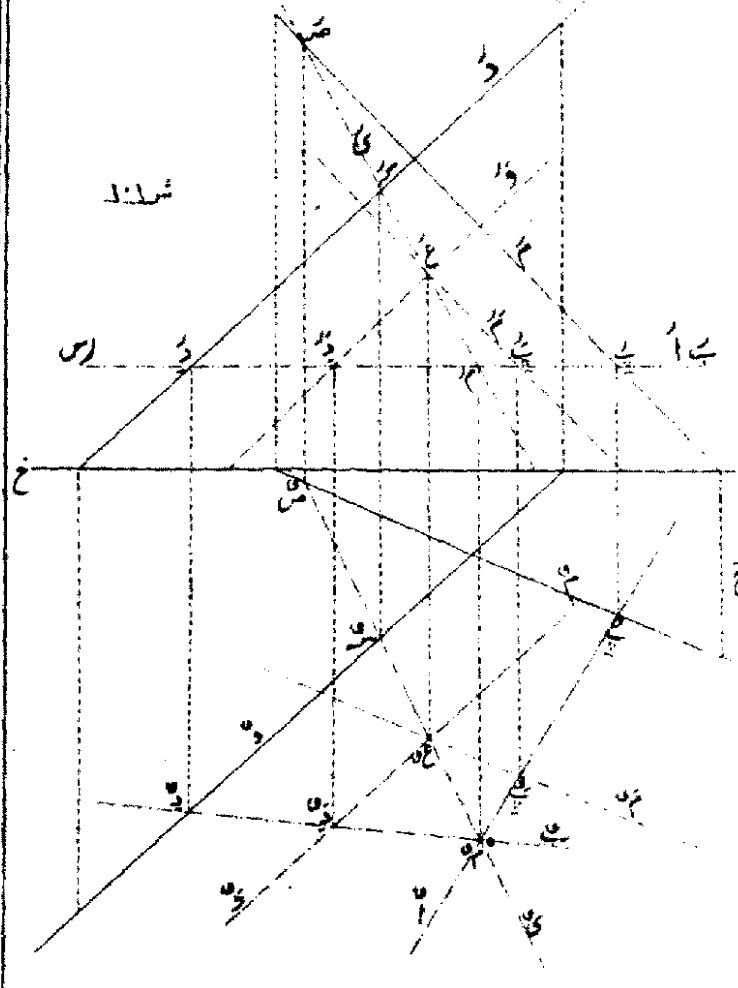

شكل ١٠٢

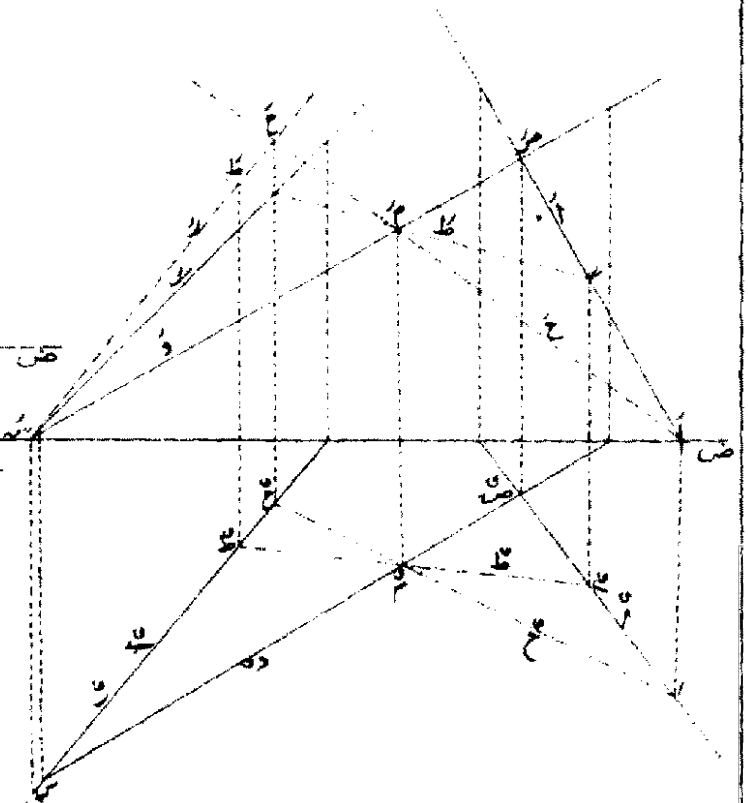

شـ١٠٣

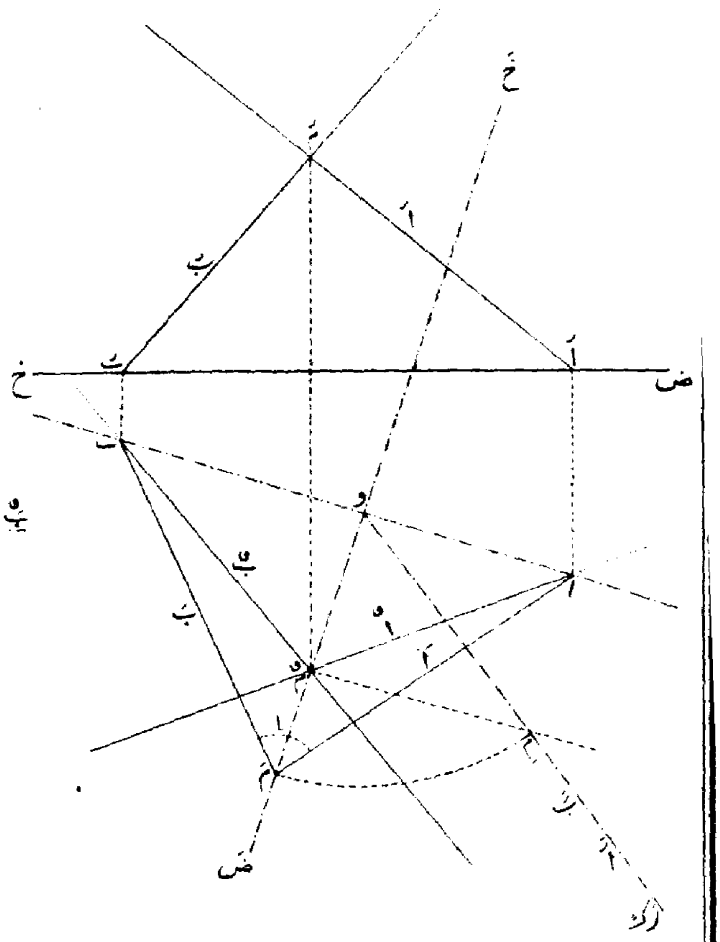

شـ١٠٤

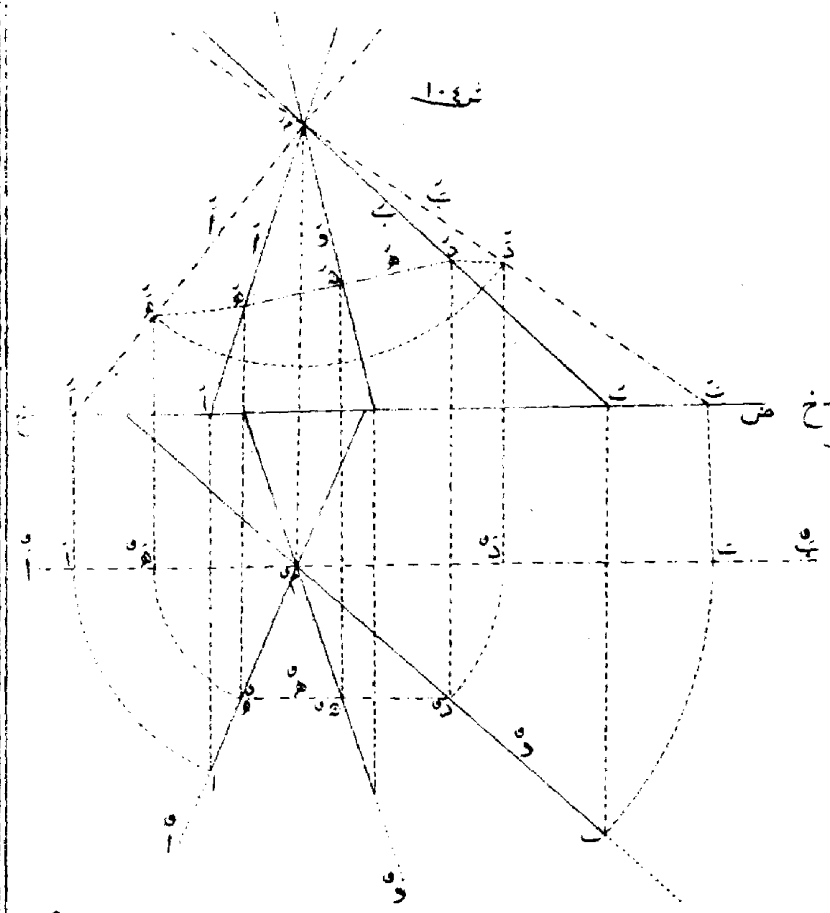

شـ١٠٦

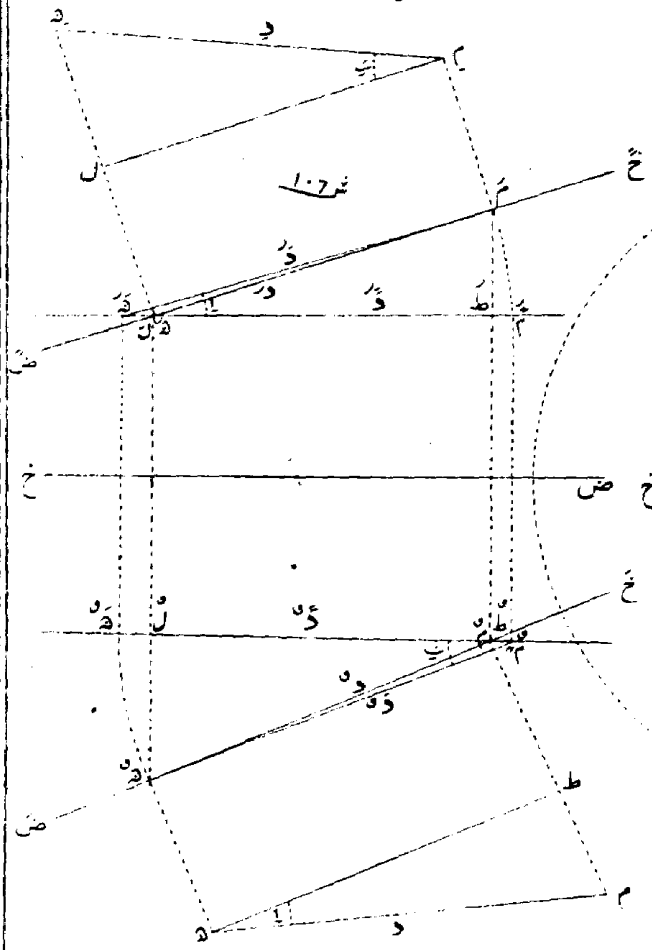

شـ١٠٥

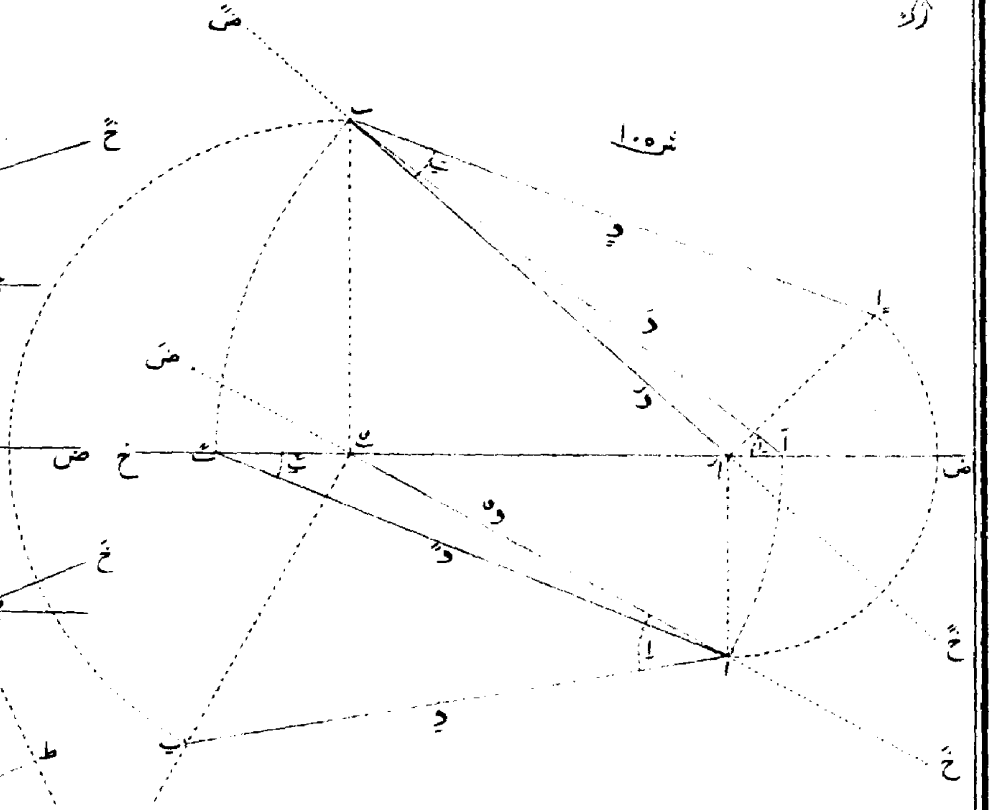

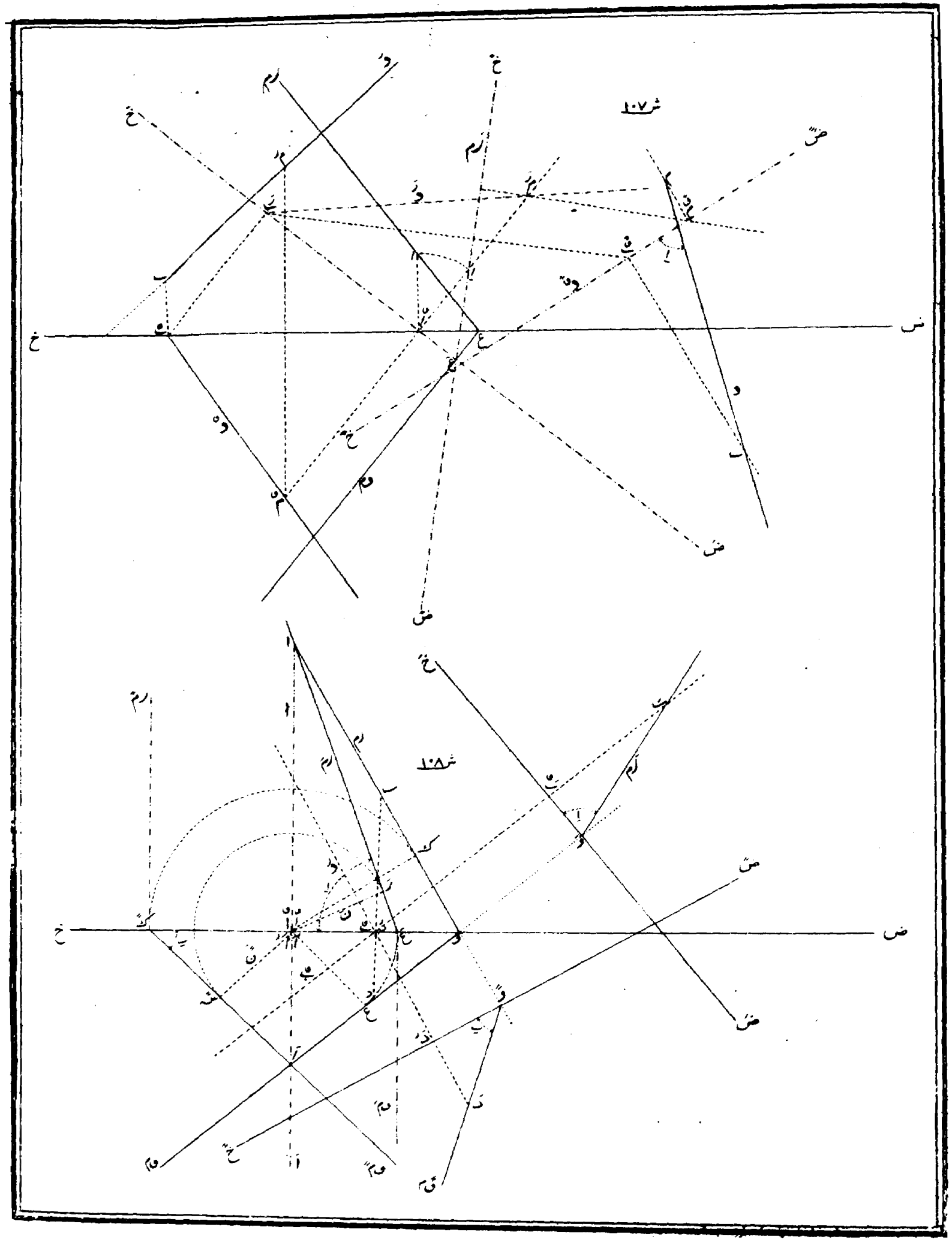
ش ١٠٧
ش ١٠٨

شكل ١٠٩

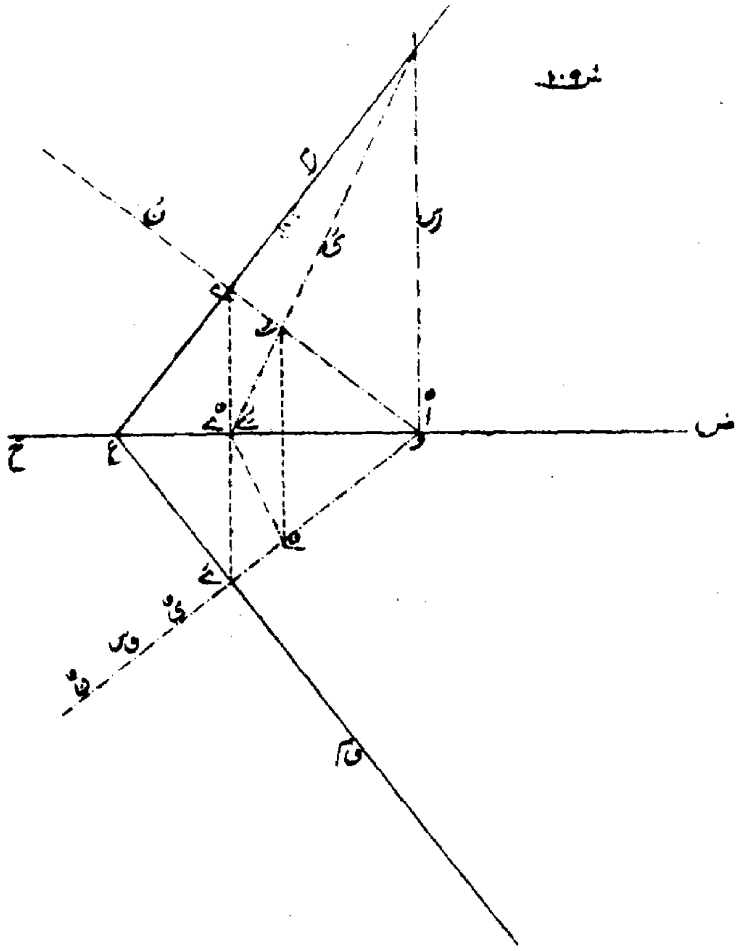

شكل ١١٠

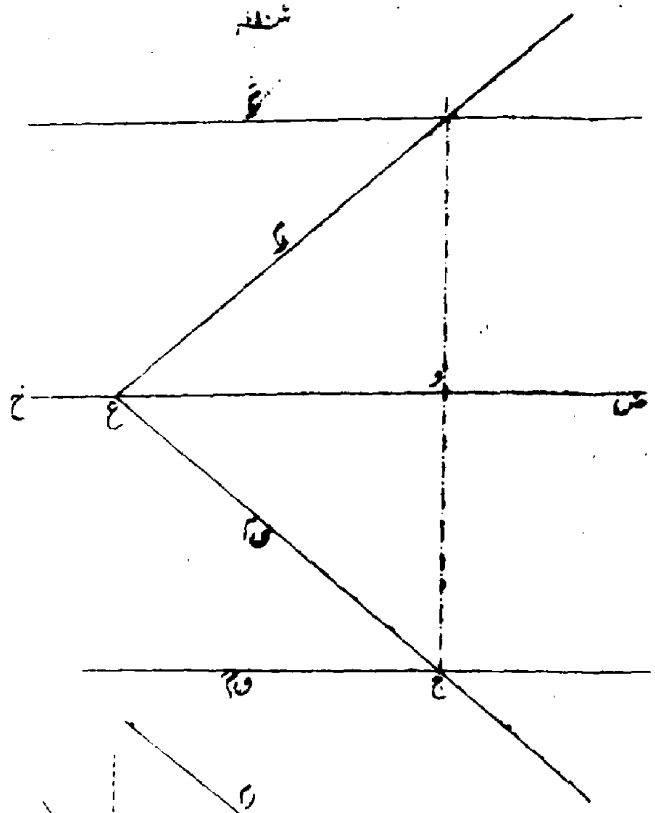

شكل ١١١

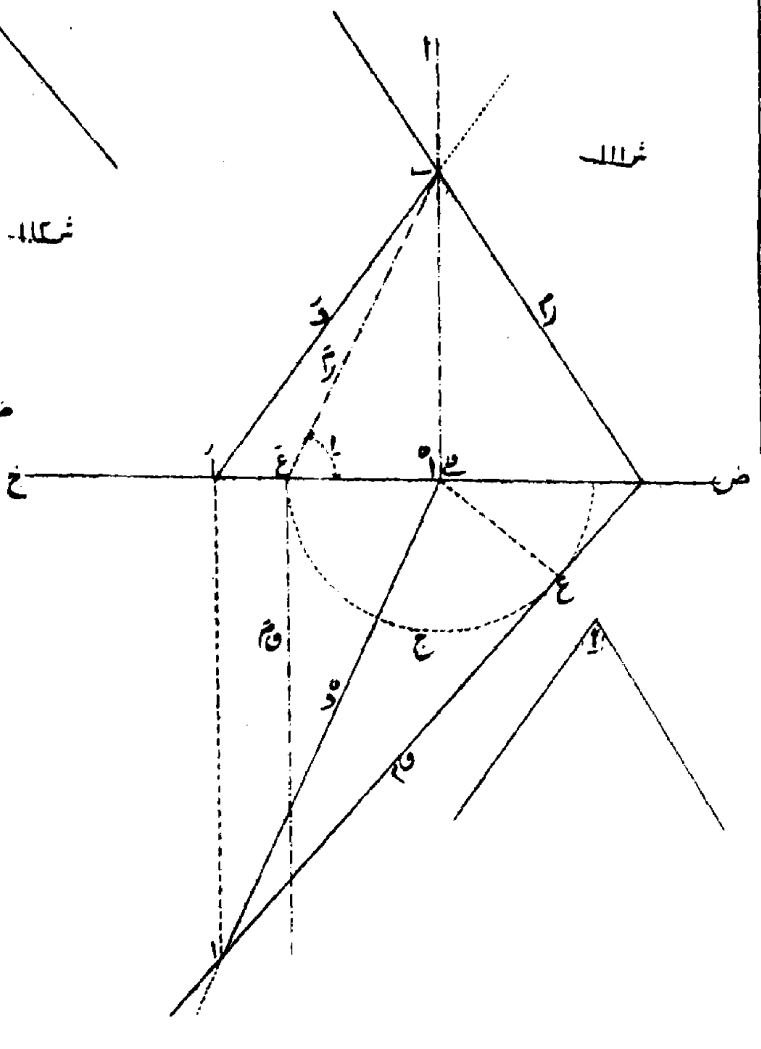

شكل ١١٢

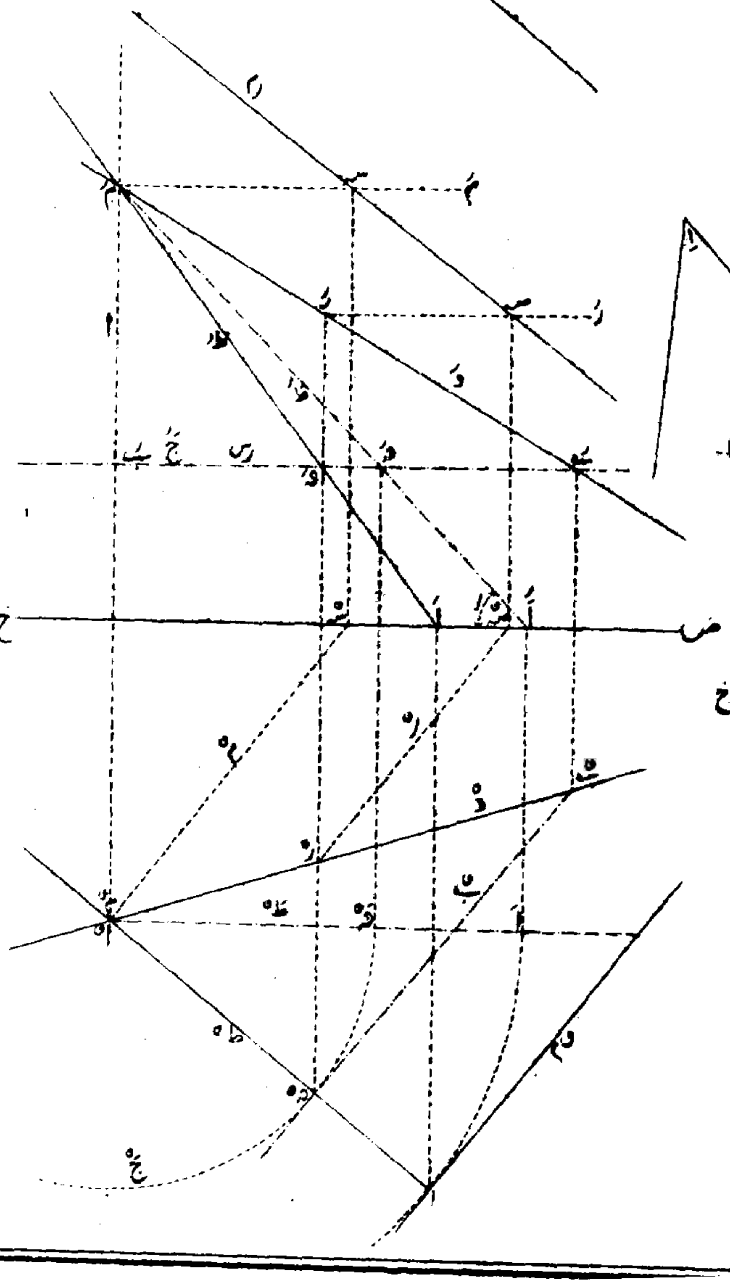

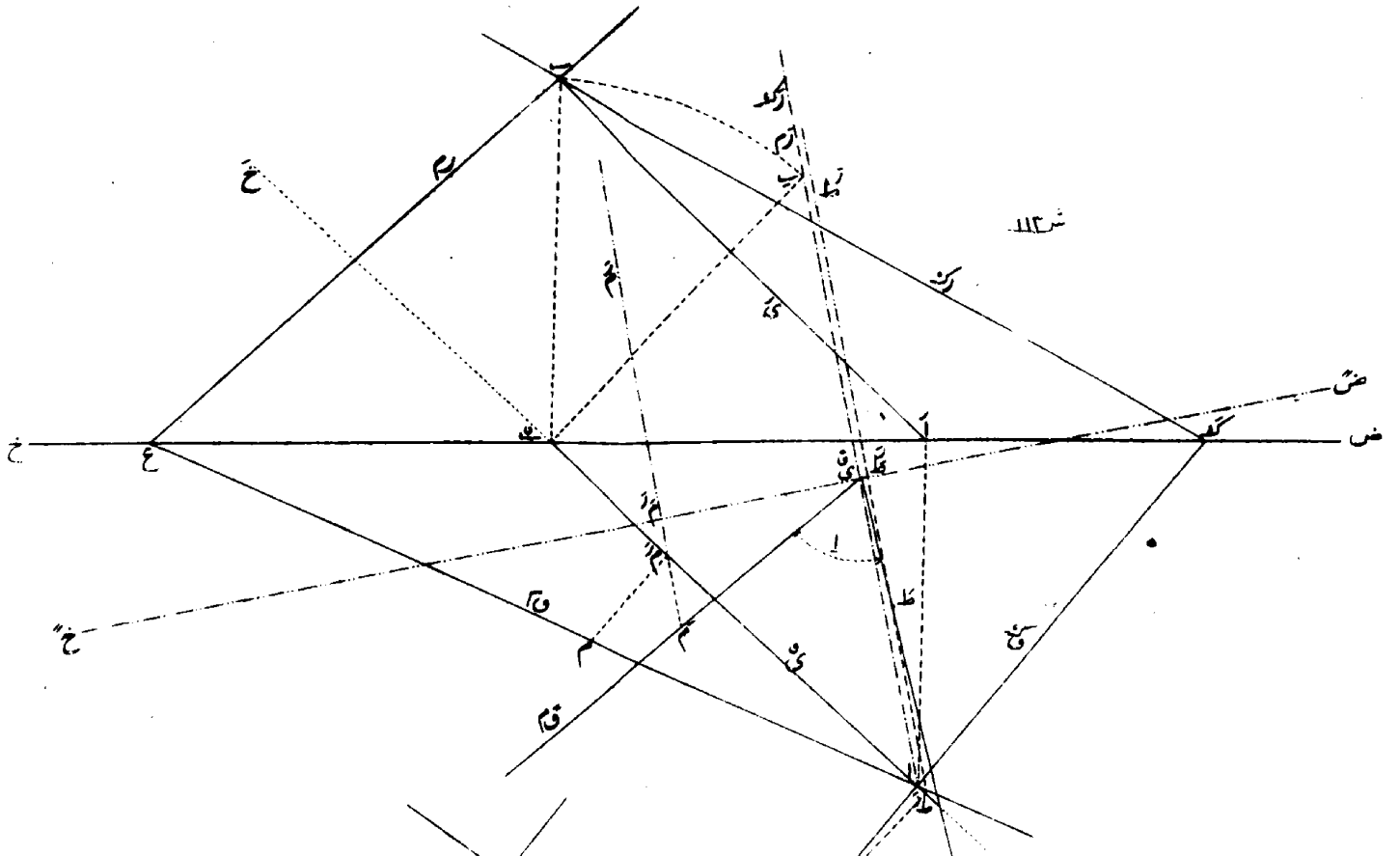

ش ١١٣

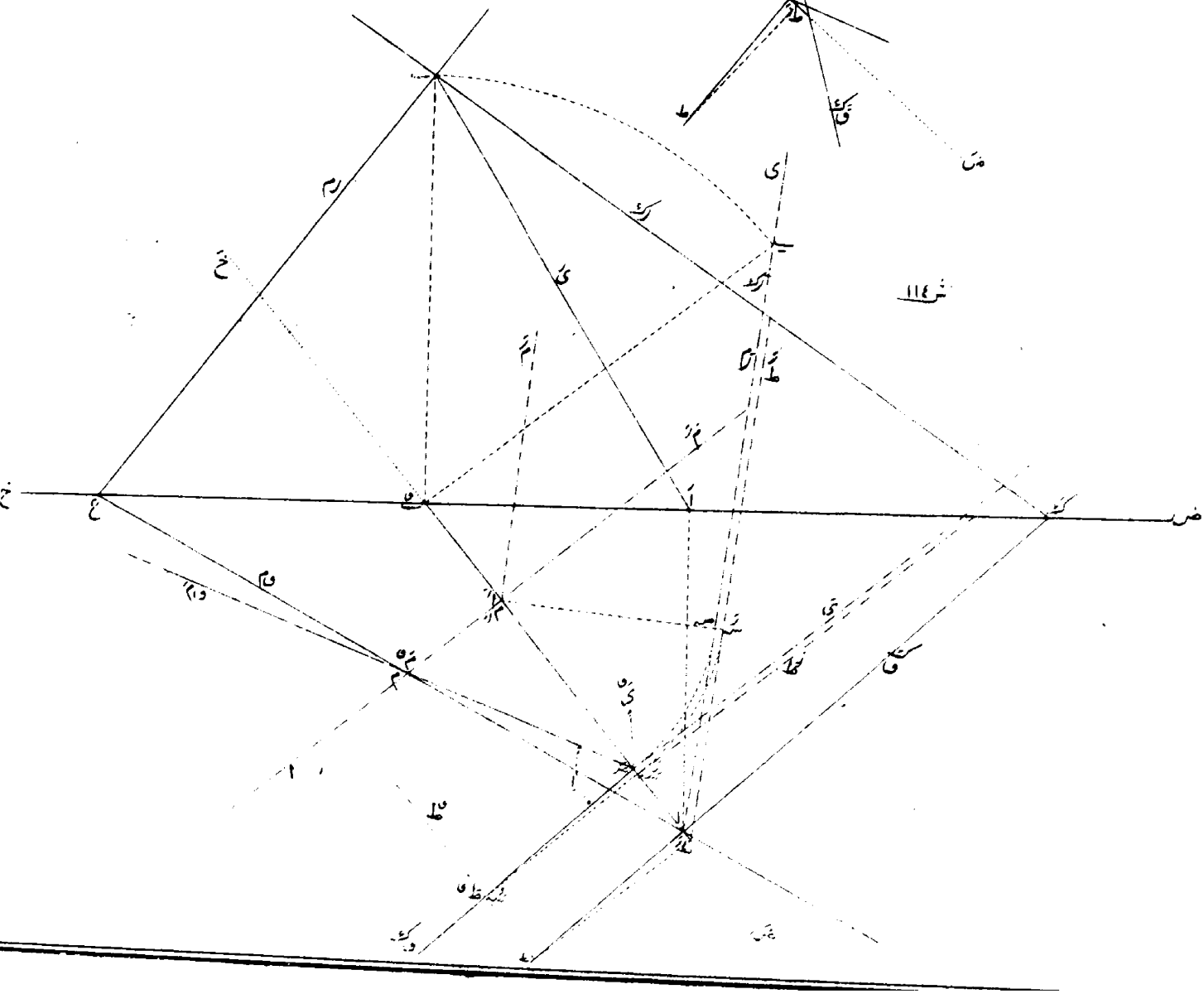

ش ١١٤

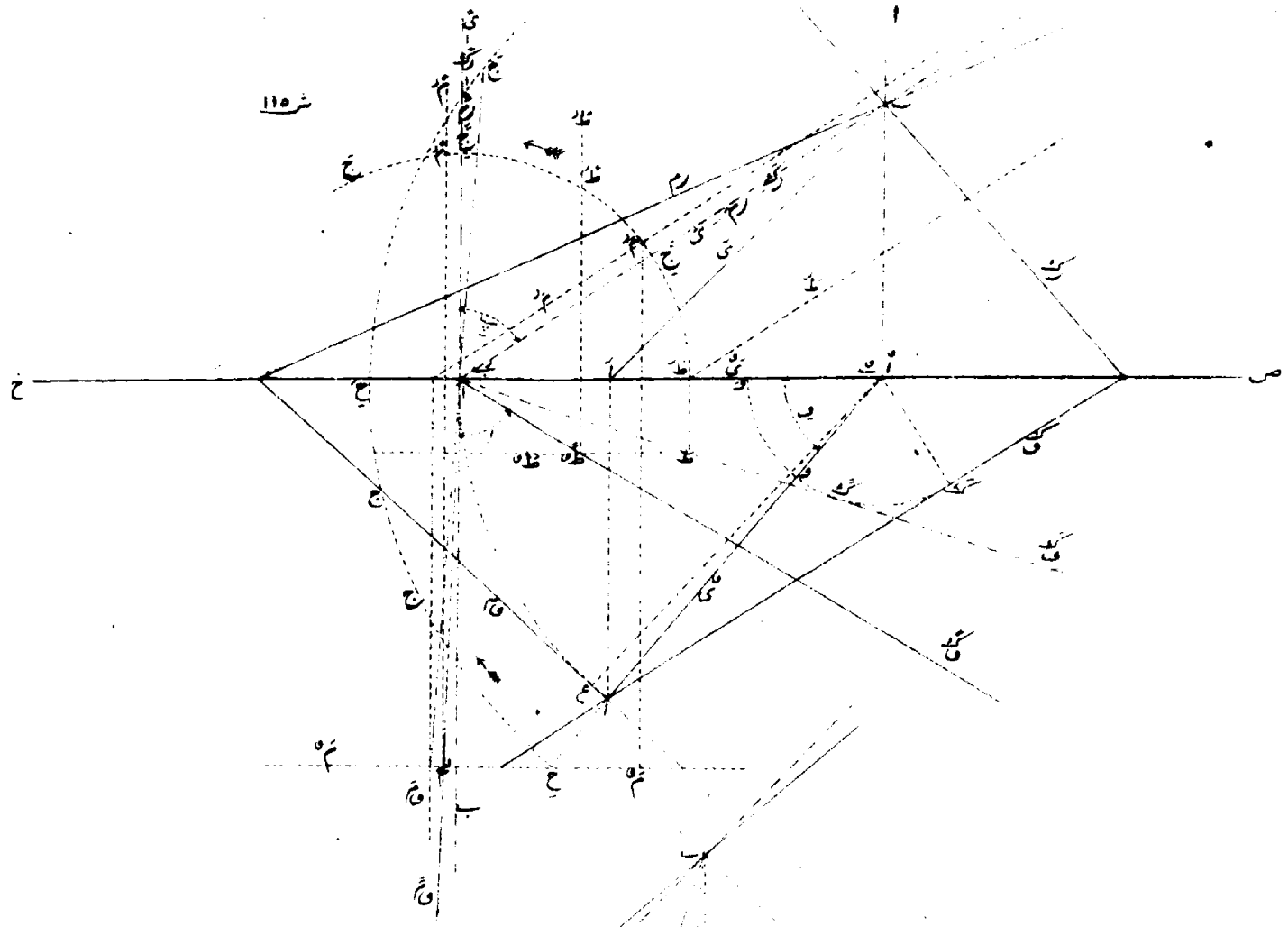

شكل ١١٥

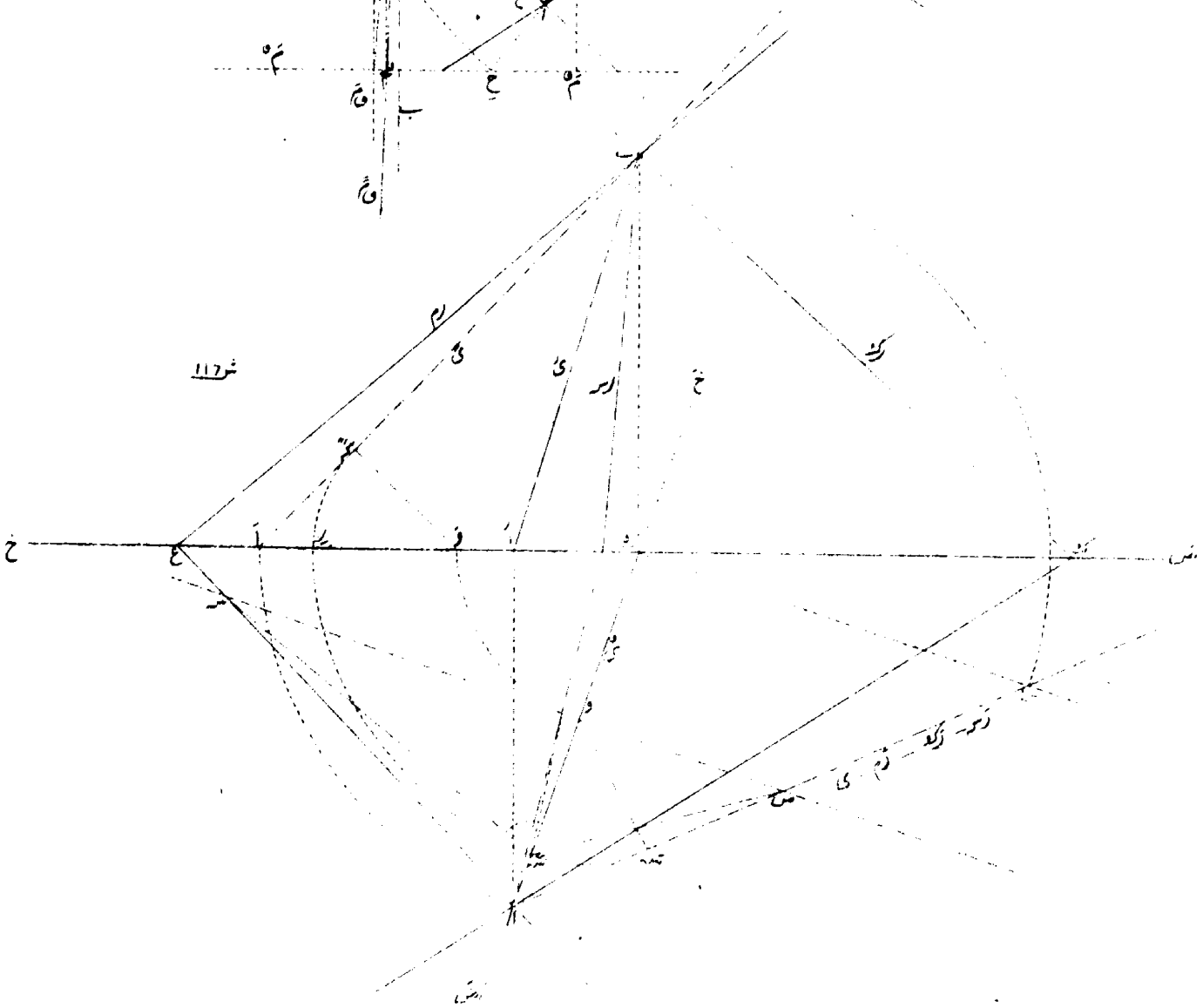

شكل ١١٦

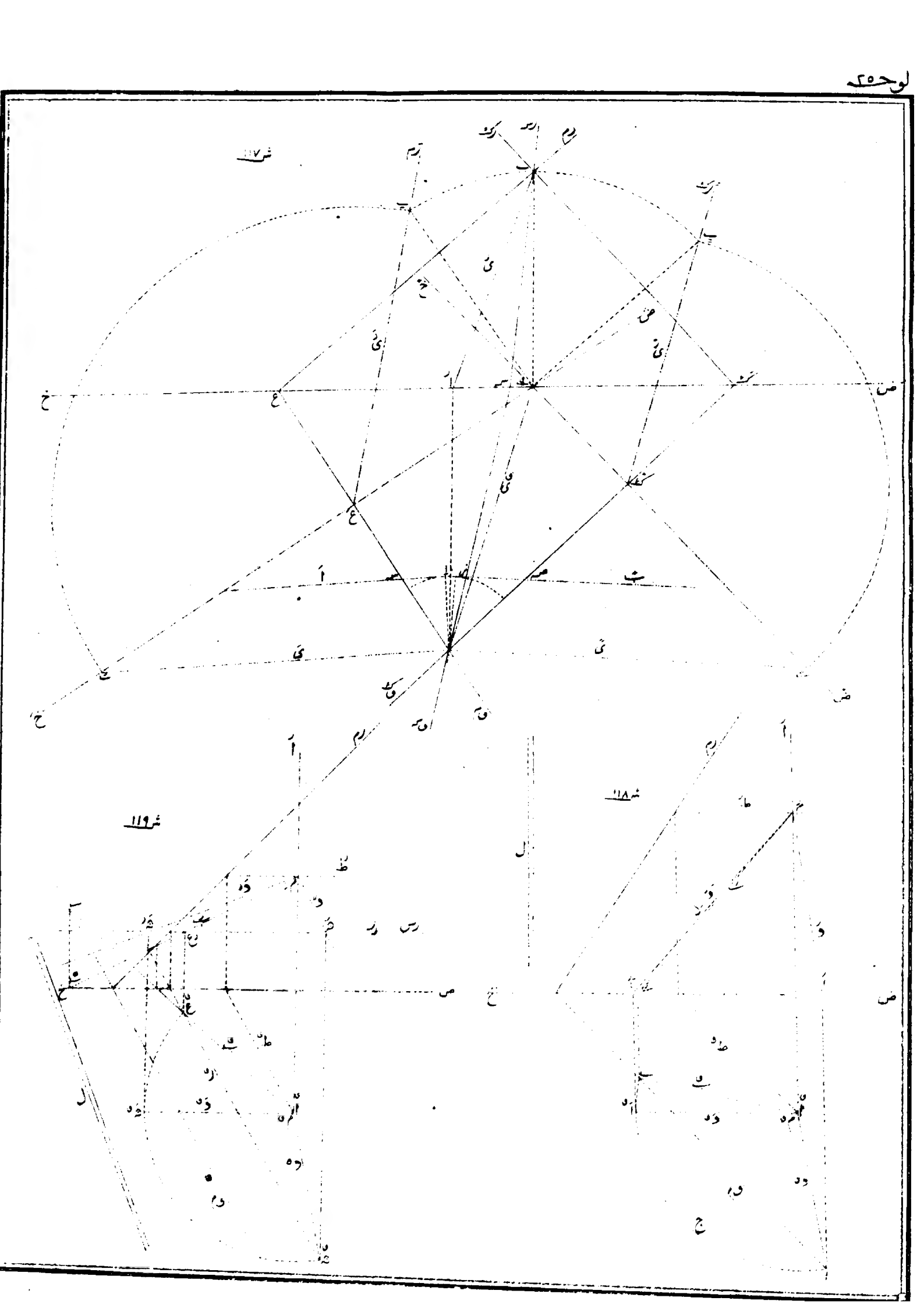
شكل ١١٧
شكل ١١٨
شكل ١١٩

شكل ١٢٠

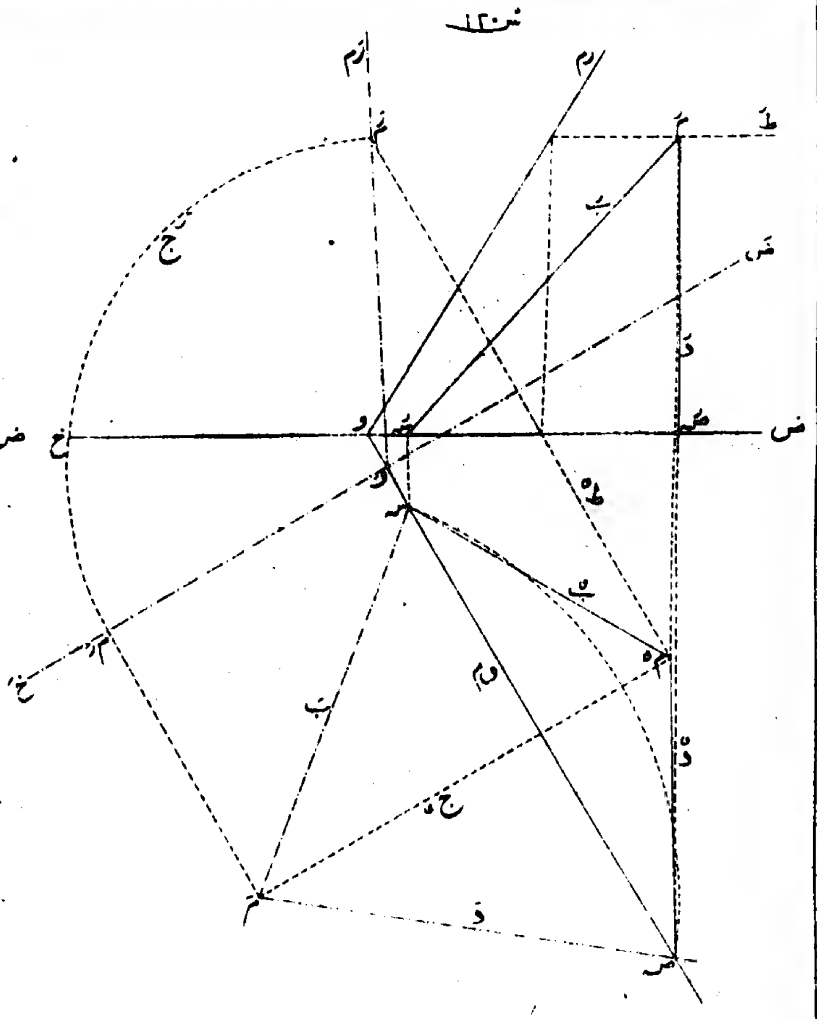

شكل ١٢١

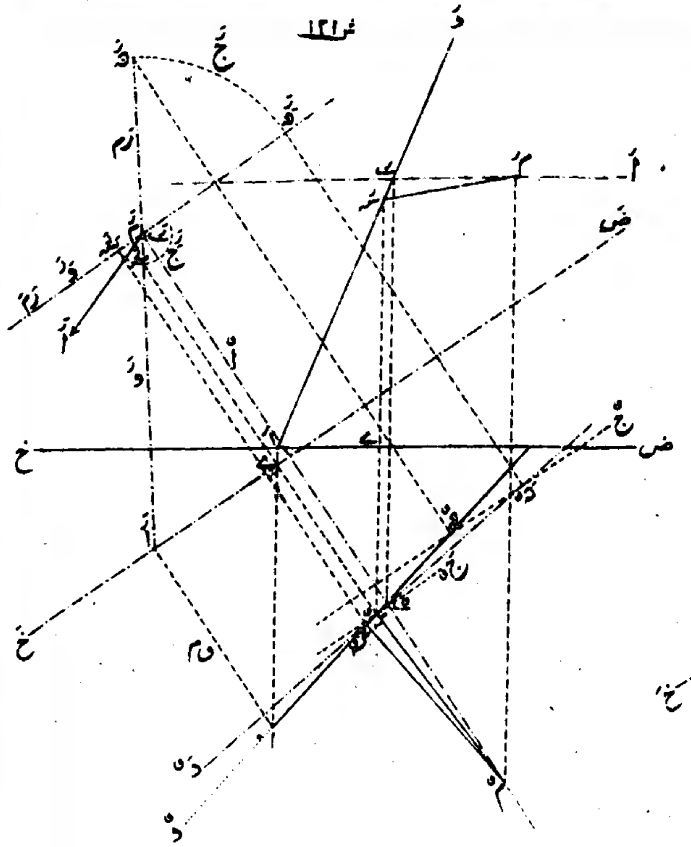

شكل ١٢٢

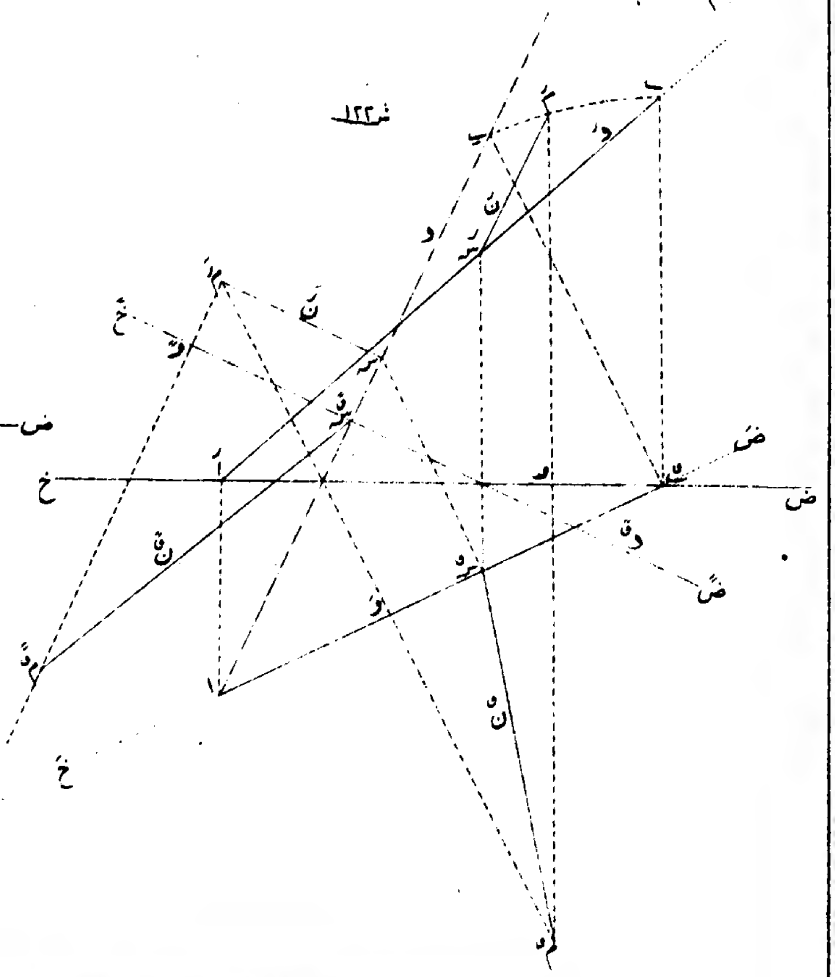

شكل ١٢٣

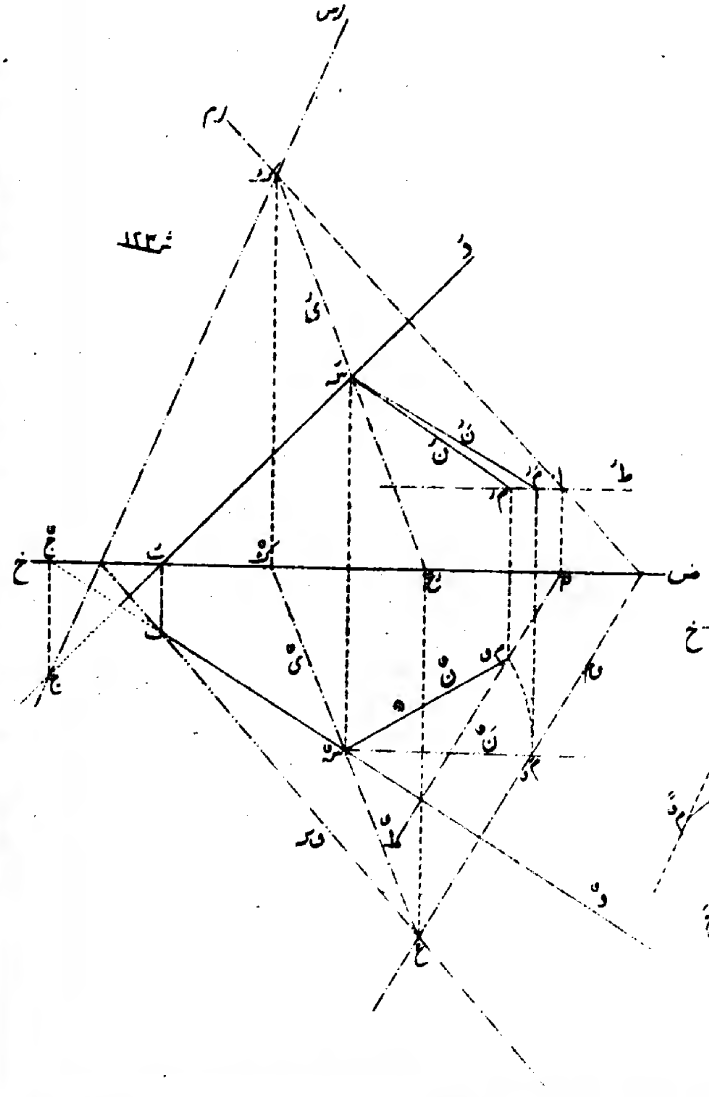

لوحة

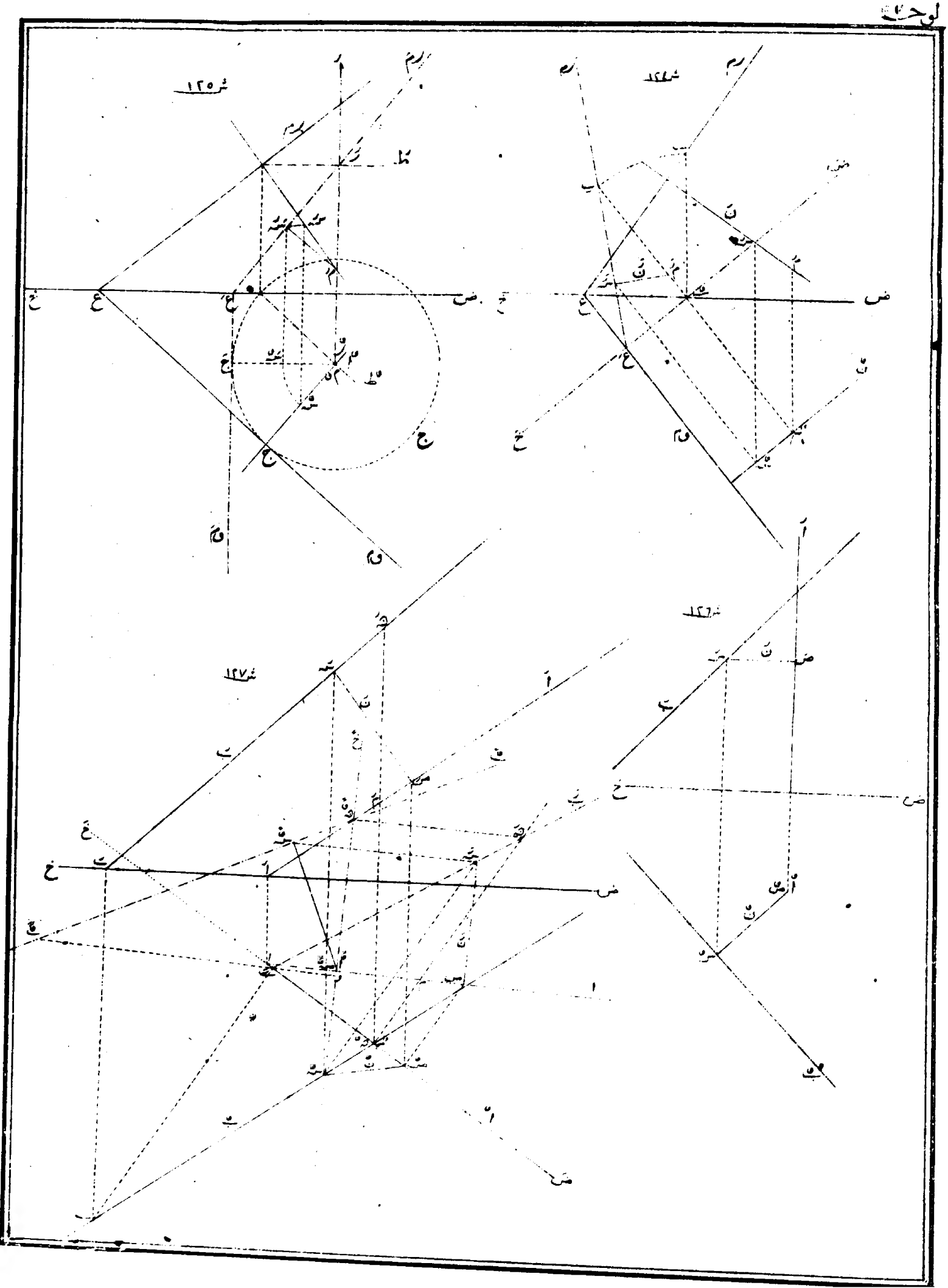

ش ١٢٨

ش ١٢٩

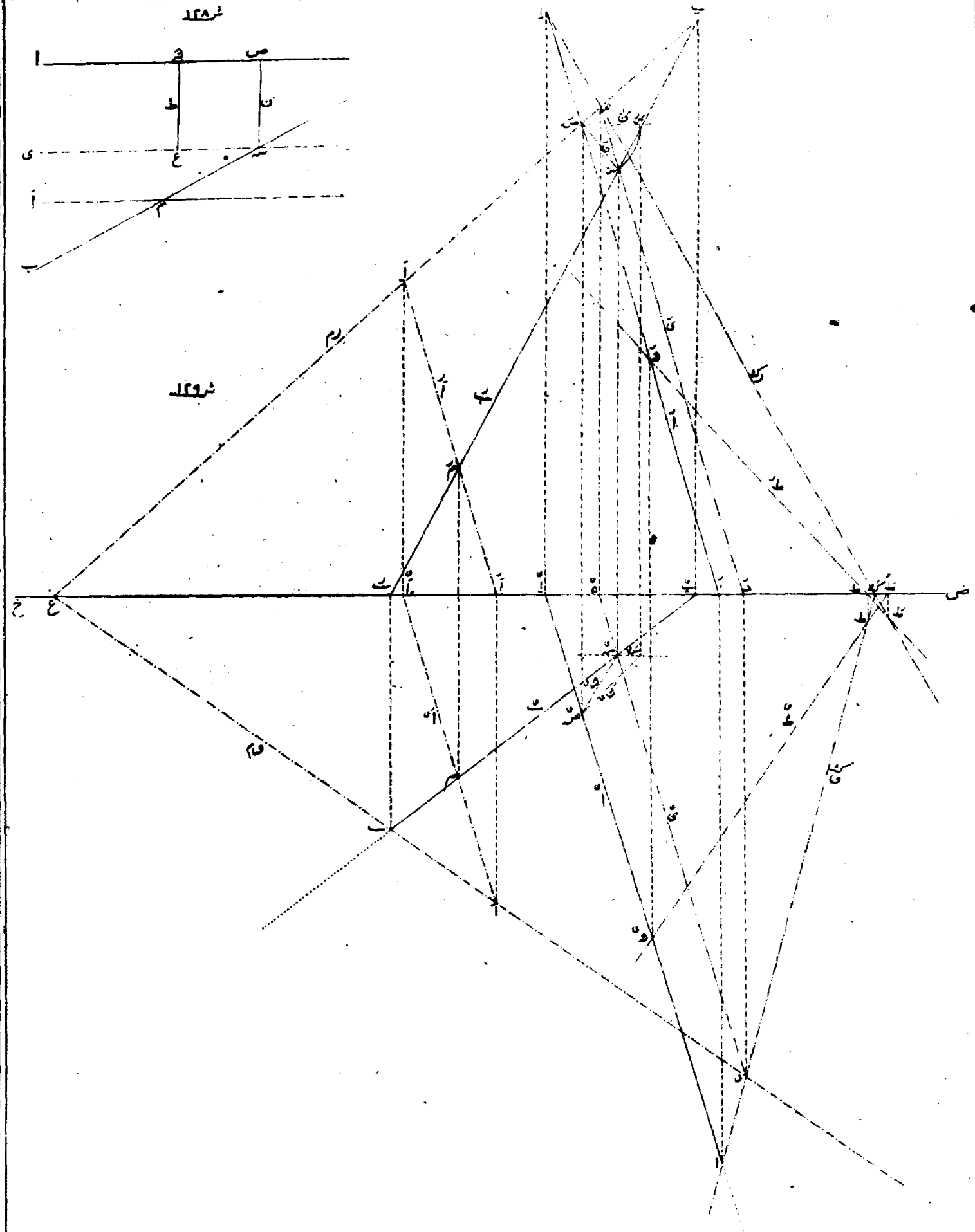

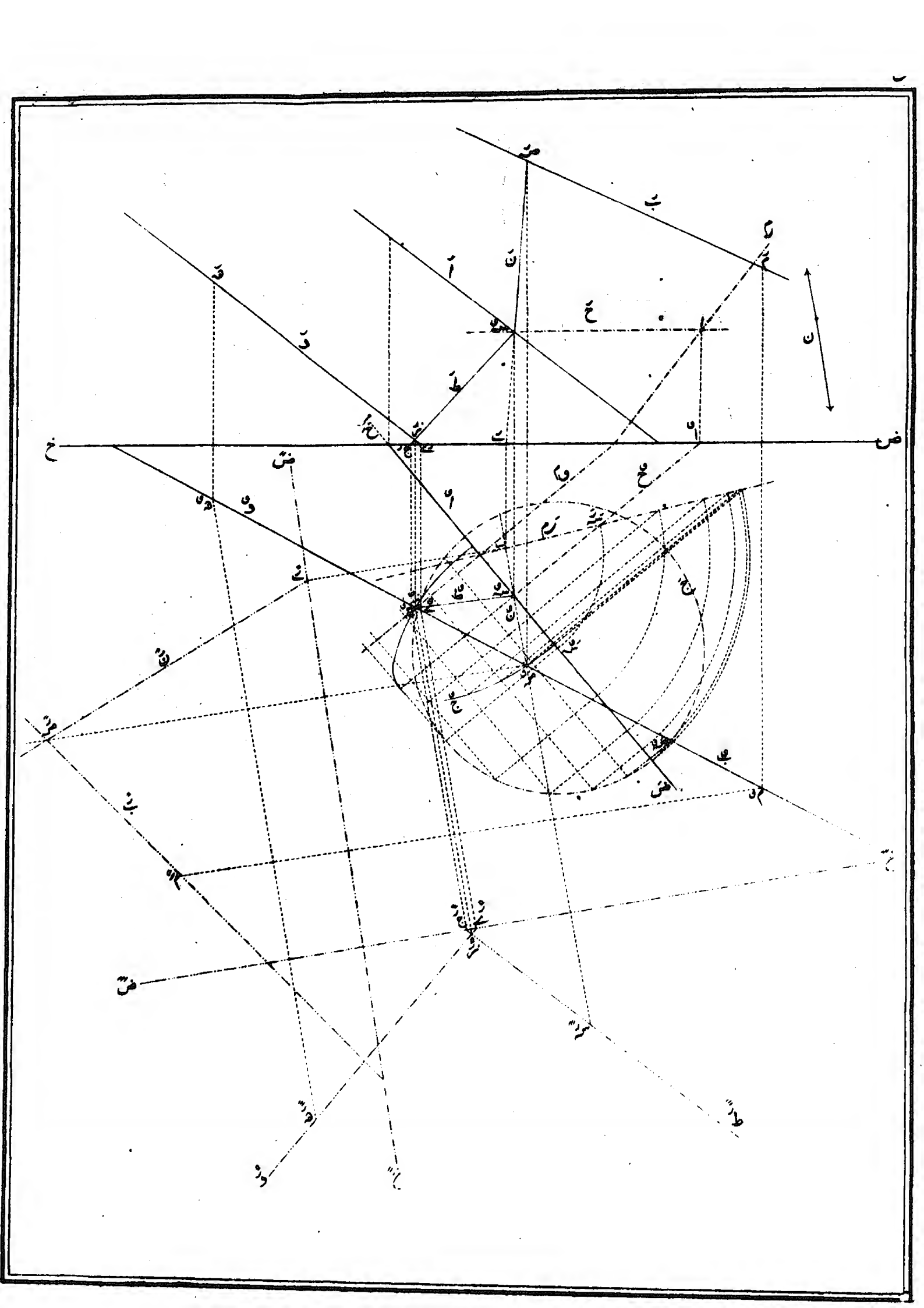

ش ١٣١

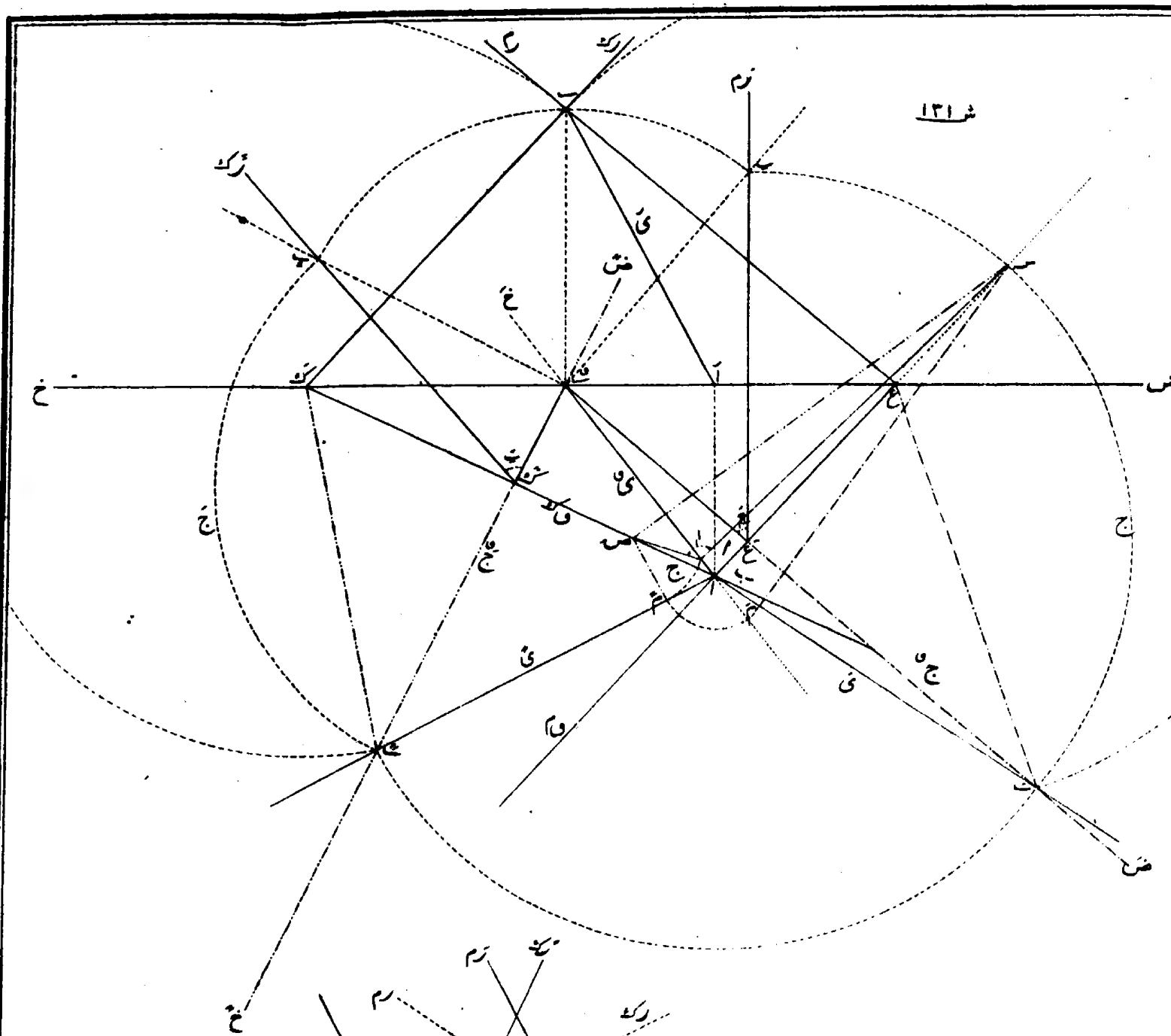

ش ١٣٢

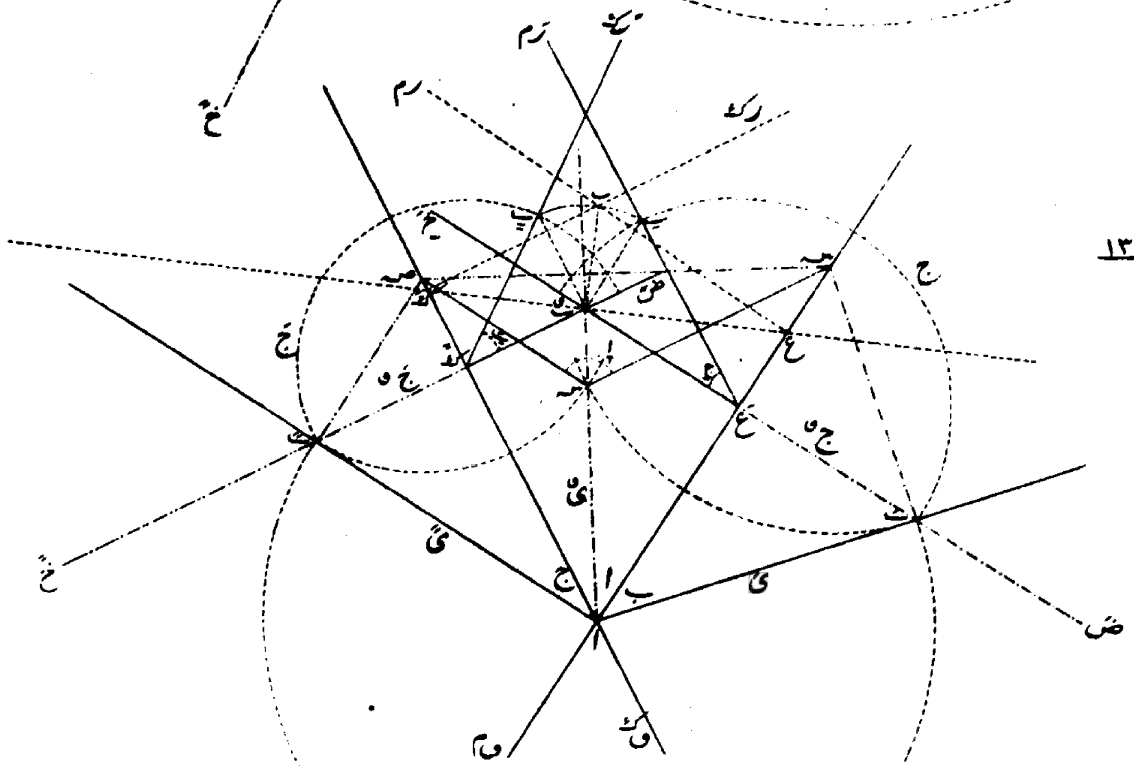

ش ١٣٣

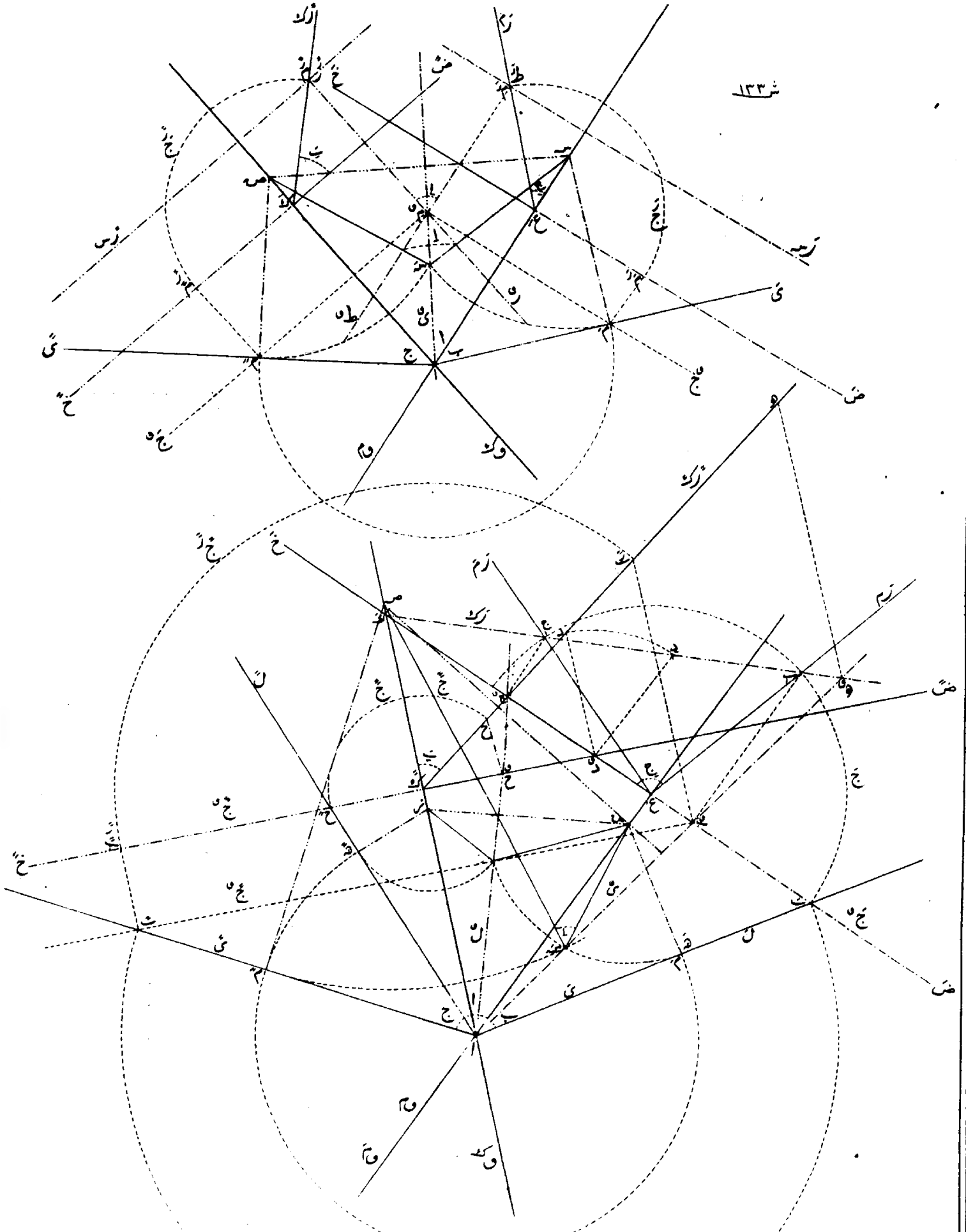

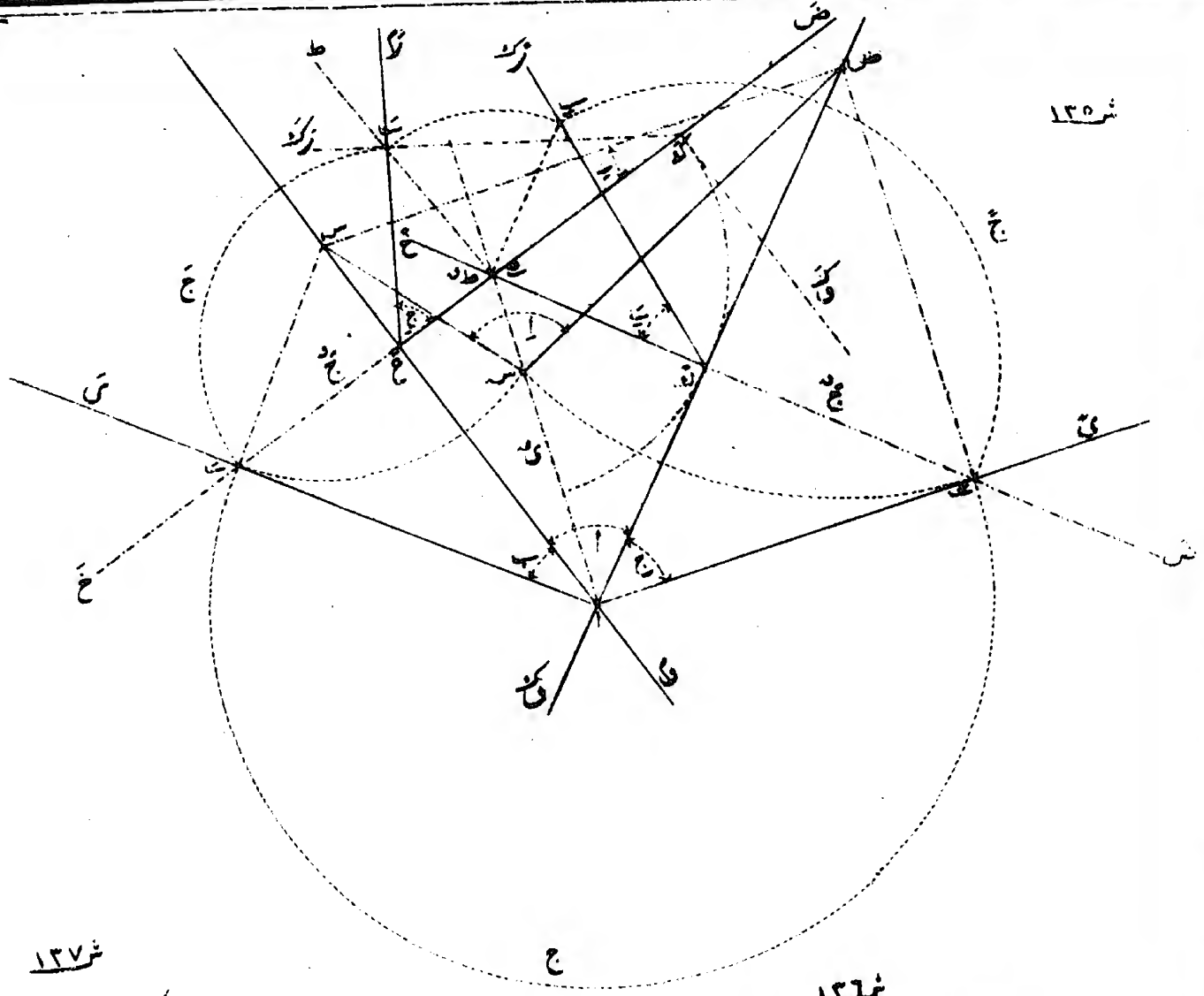

ش ١٣٥

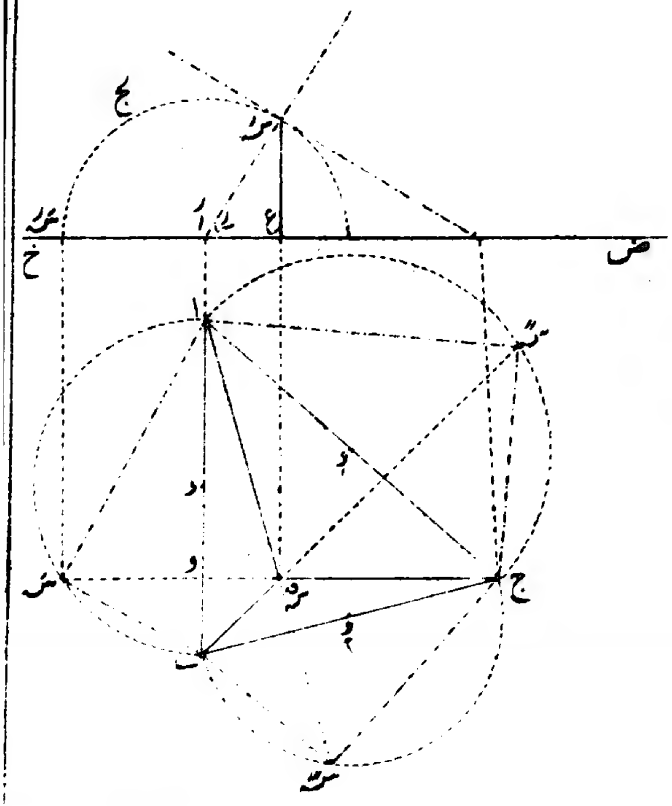

ش ١٣٧

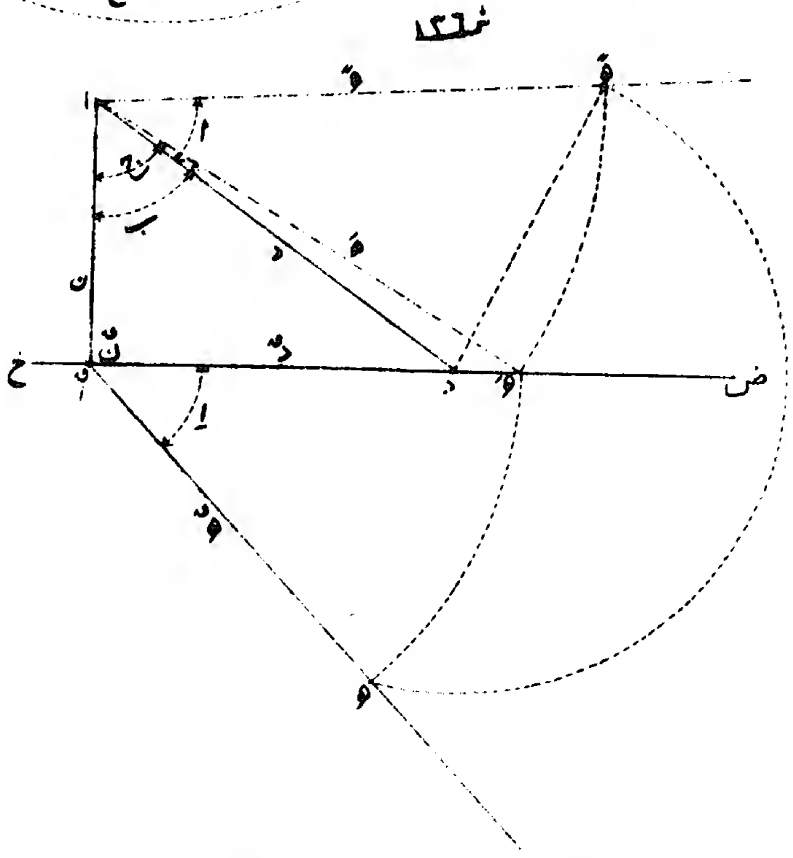

ش ١٣٦

ش ١٣٨

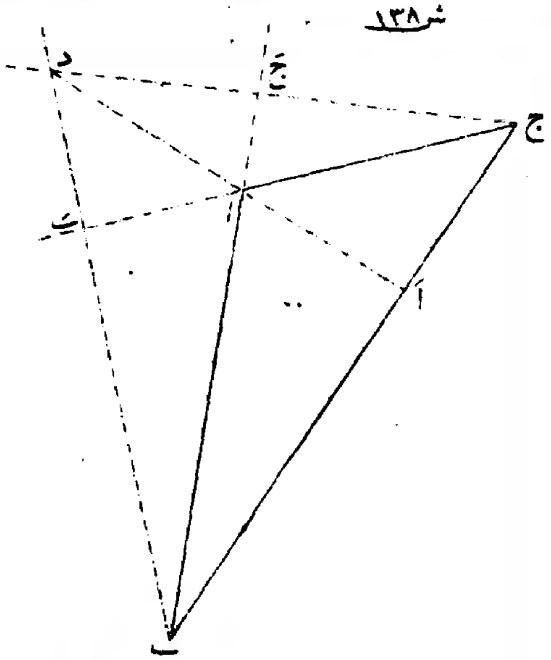

ش ١٤٠

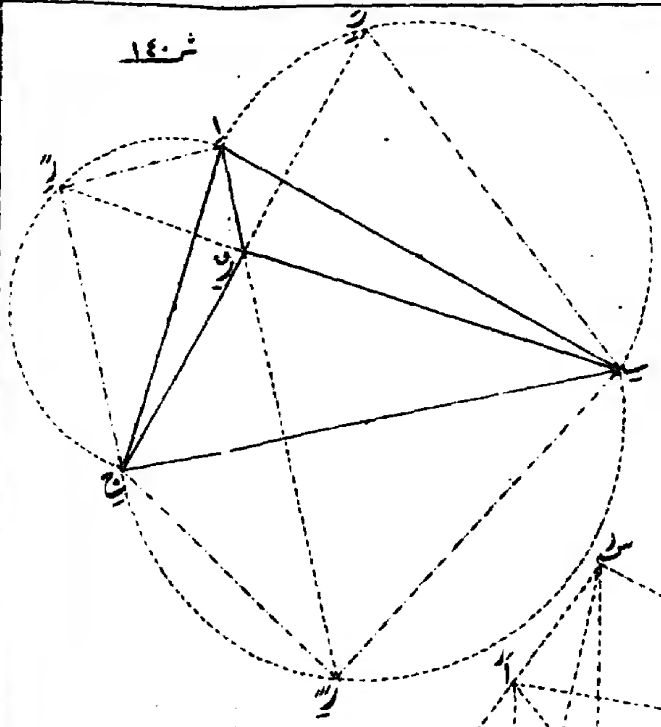

ش ١٣٩

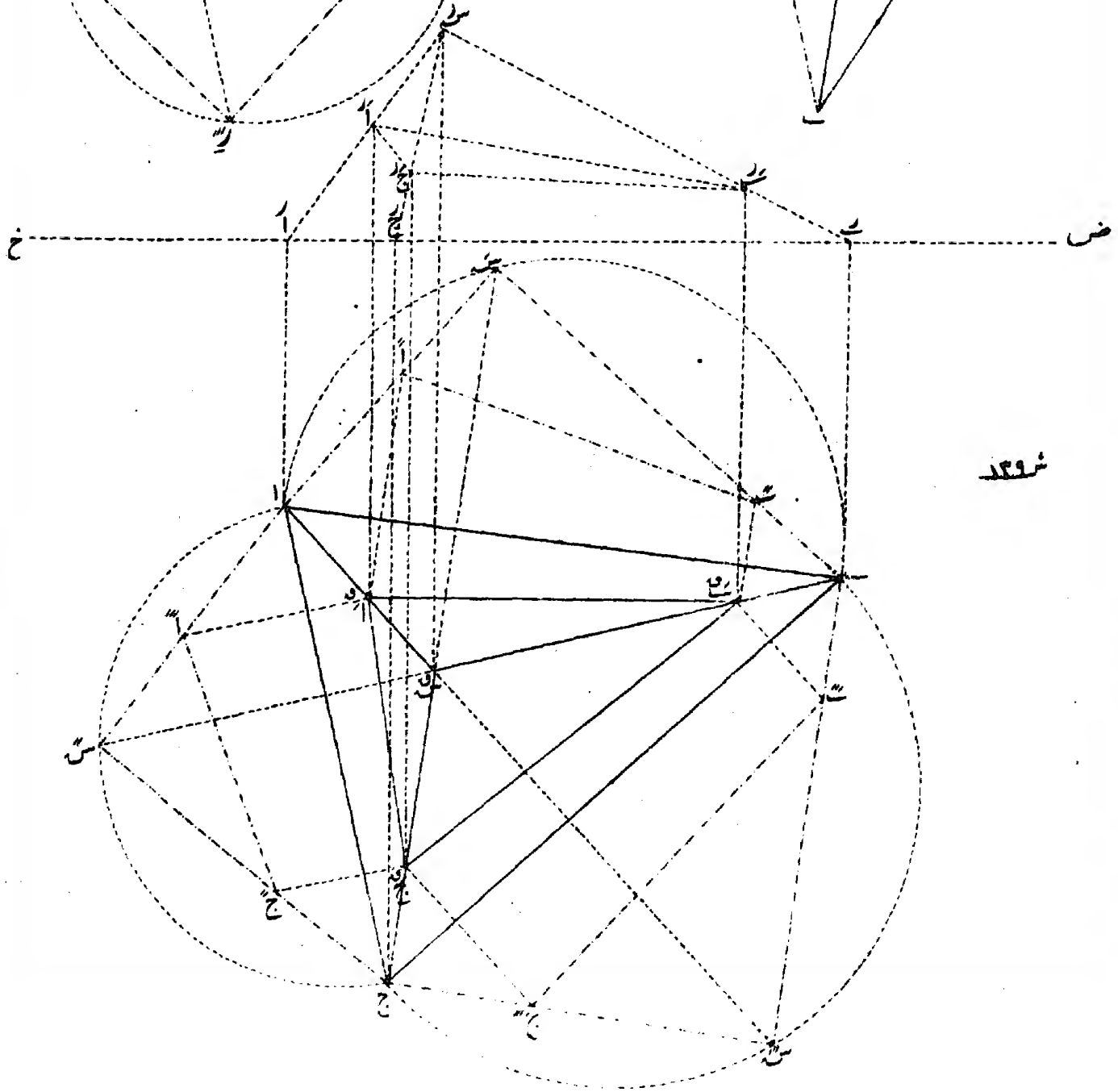

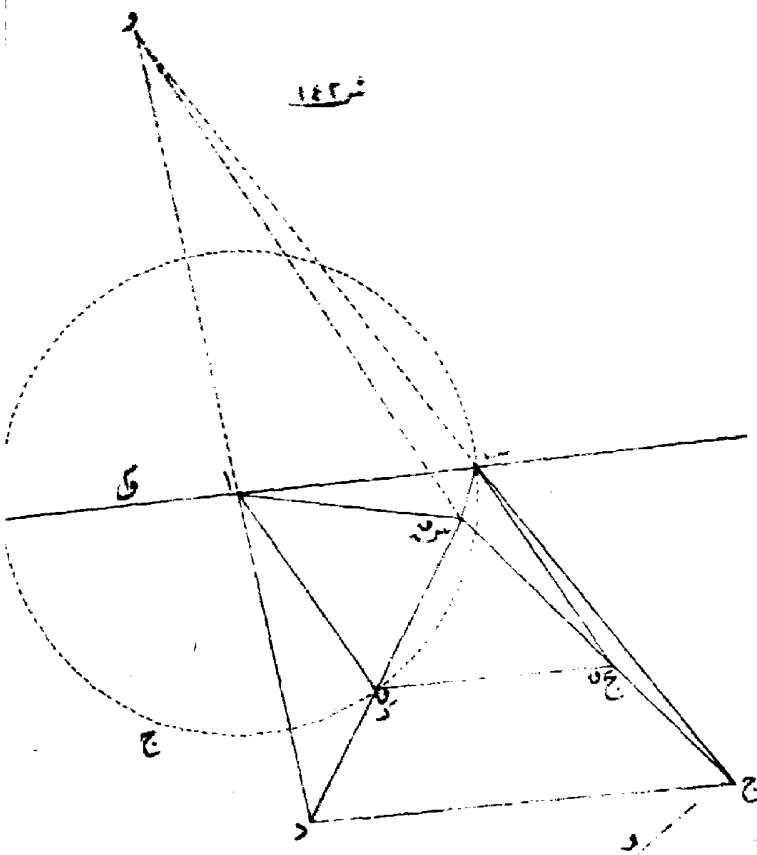

شكل ١٤٢

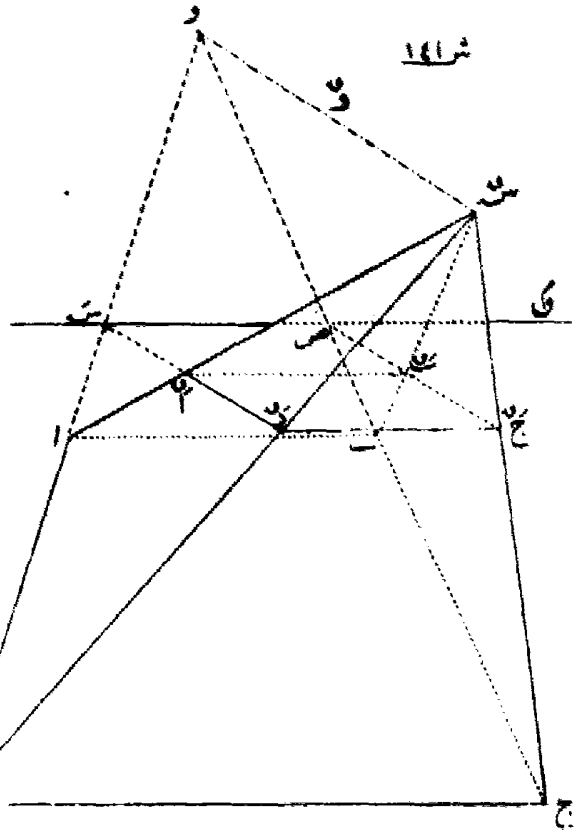

شكل ١٤١

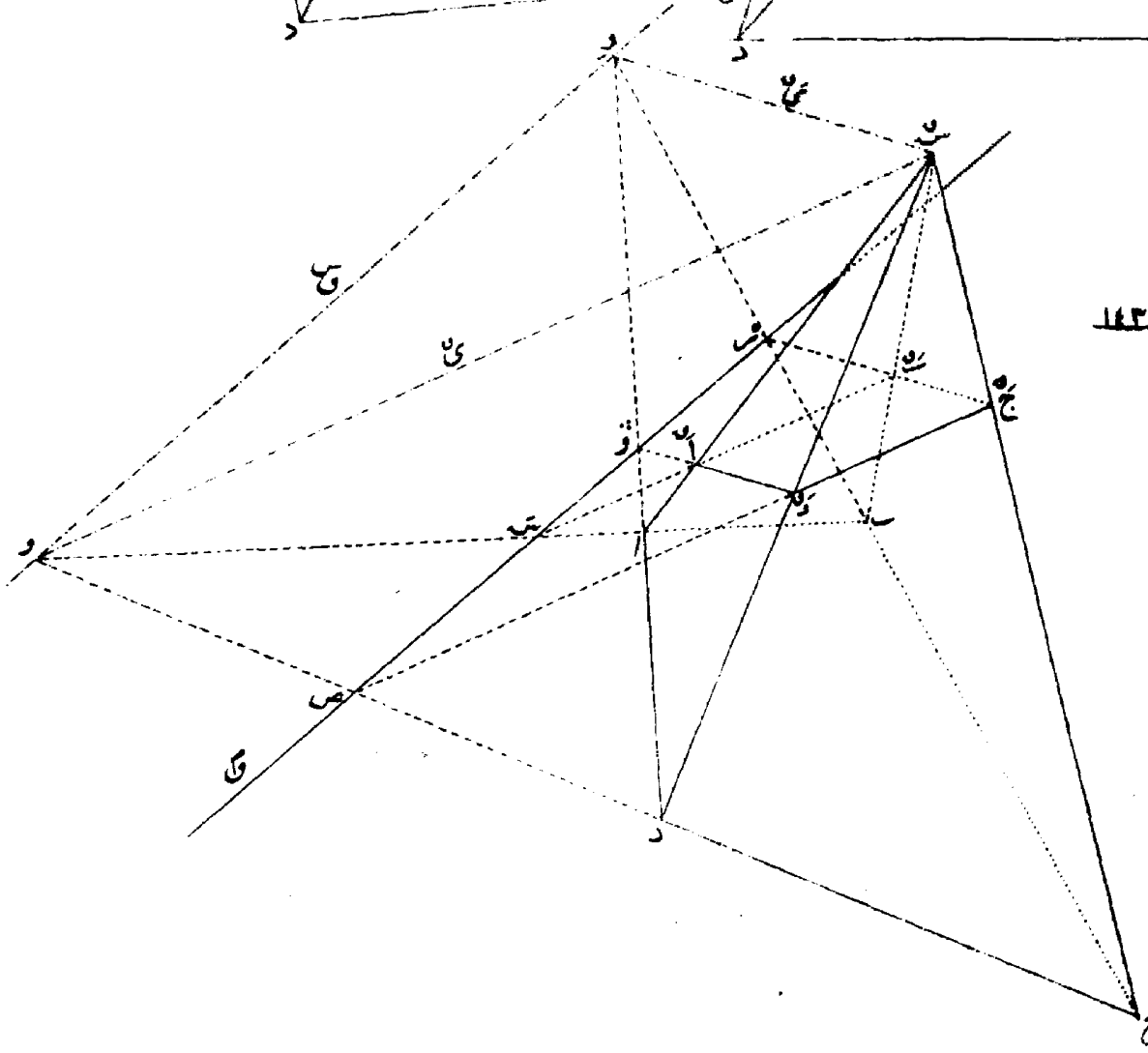

شكل ١٤٣

ش ١٤٤

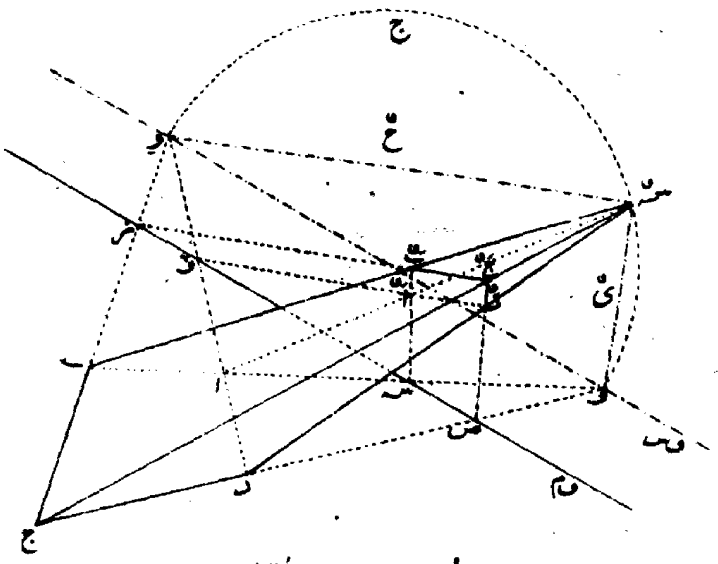

ش ١٤٥

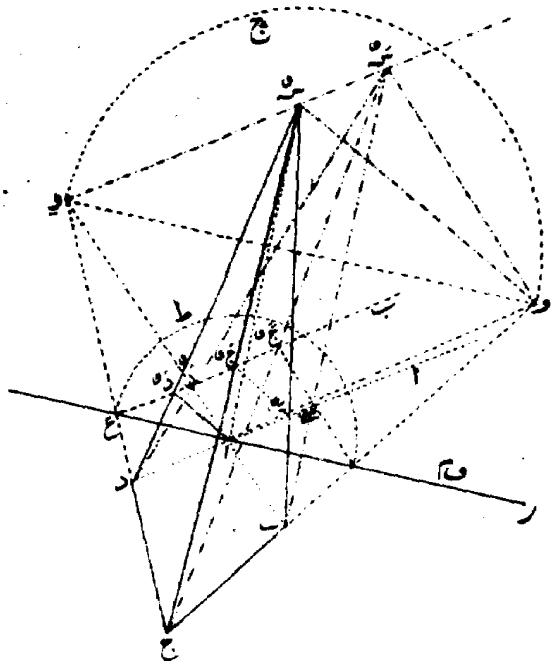

ش ١٤٥

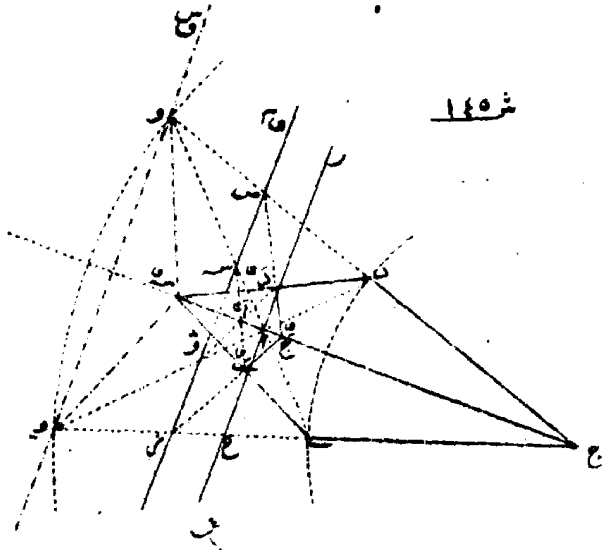

ش ١٤٥

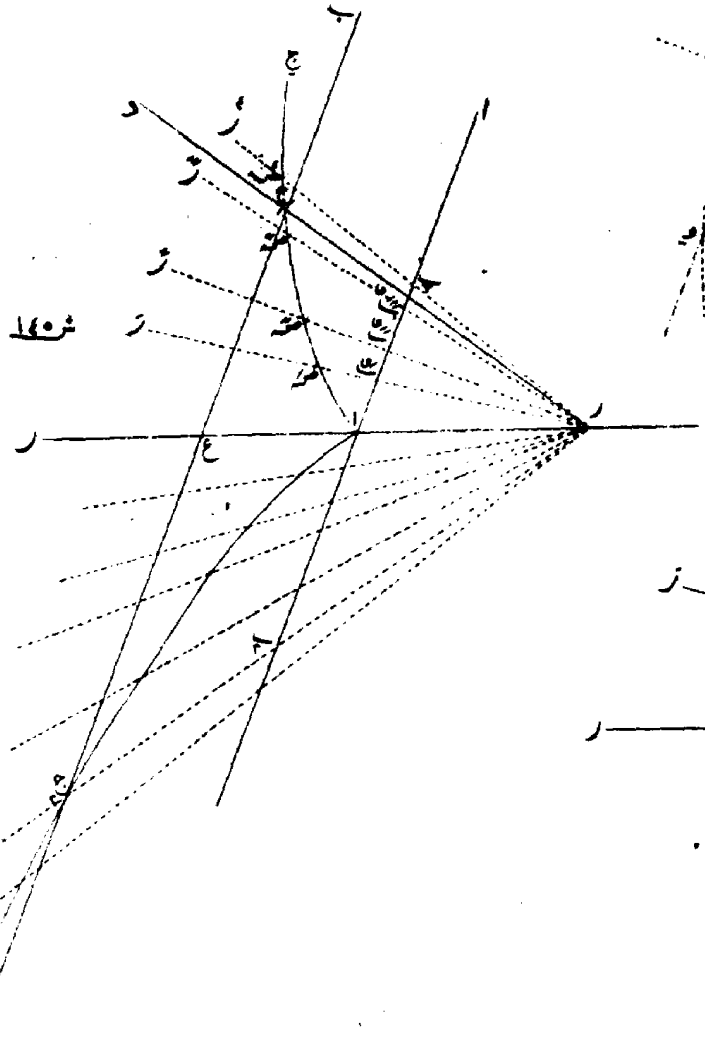

ش ١٤٥

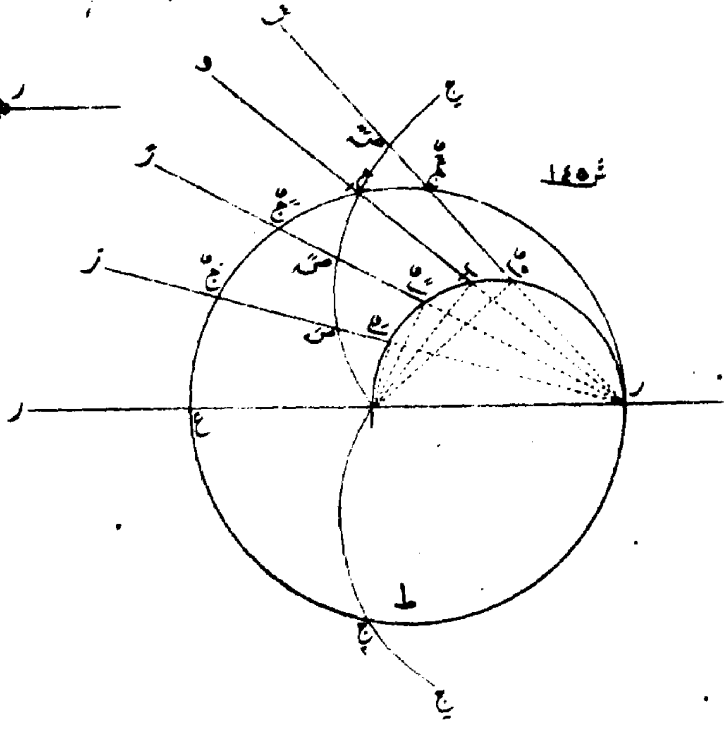

شكل ١٤٦

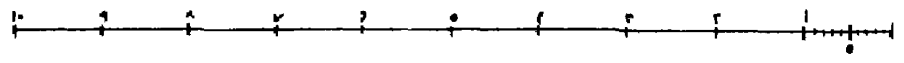

شكل ١٤٧



شكل ١٤٨

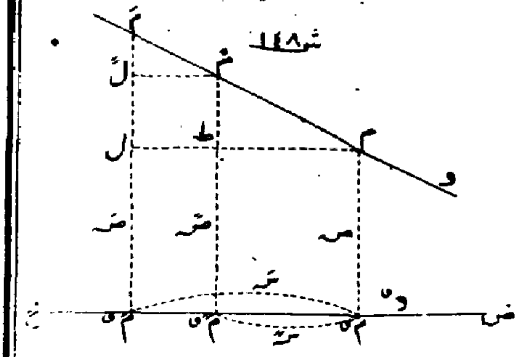

شكل ١٤٩

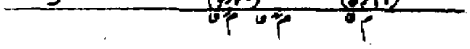

شكل ١٥٠

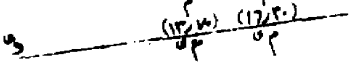

شكل ١٥١

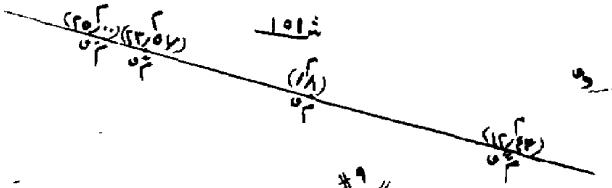

شكل ١٥٢

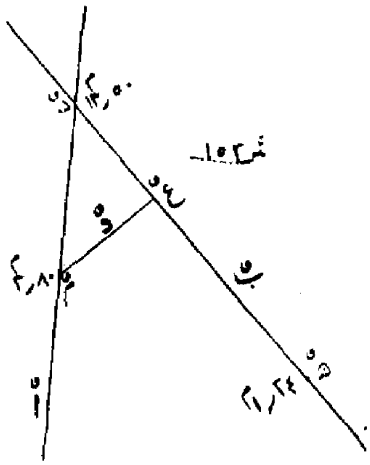

شكل ١٥٣

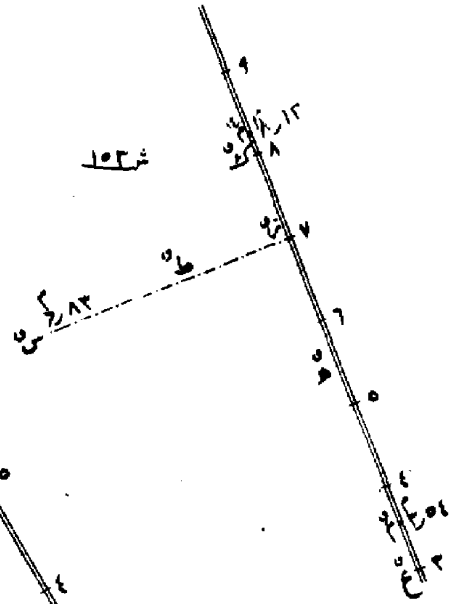

شكل ١٥٤

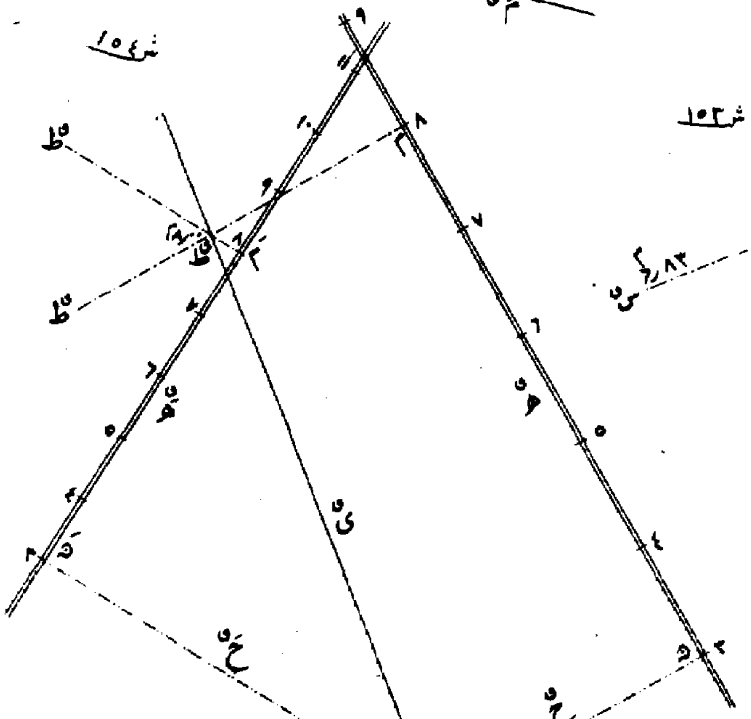

شكل ١٥٥

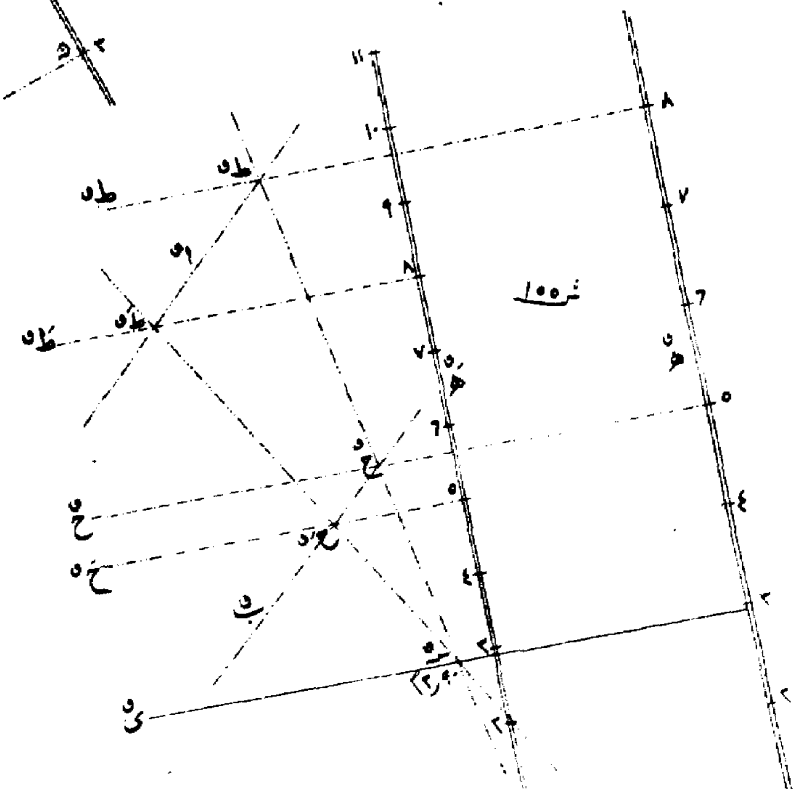

شكل ١٥٦

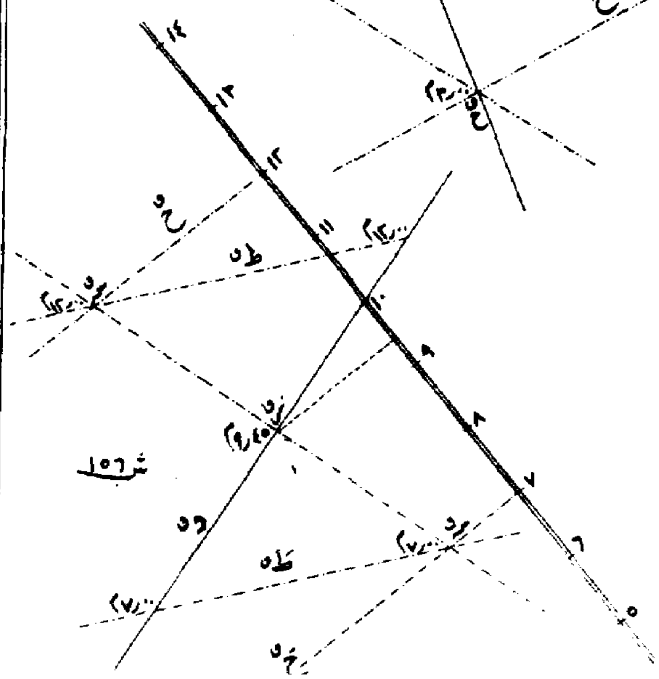

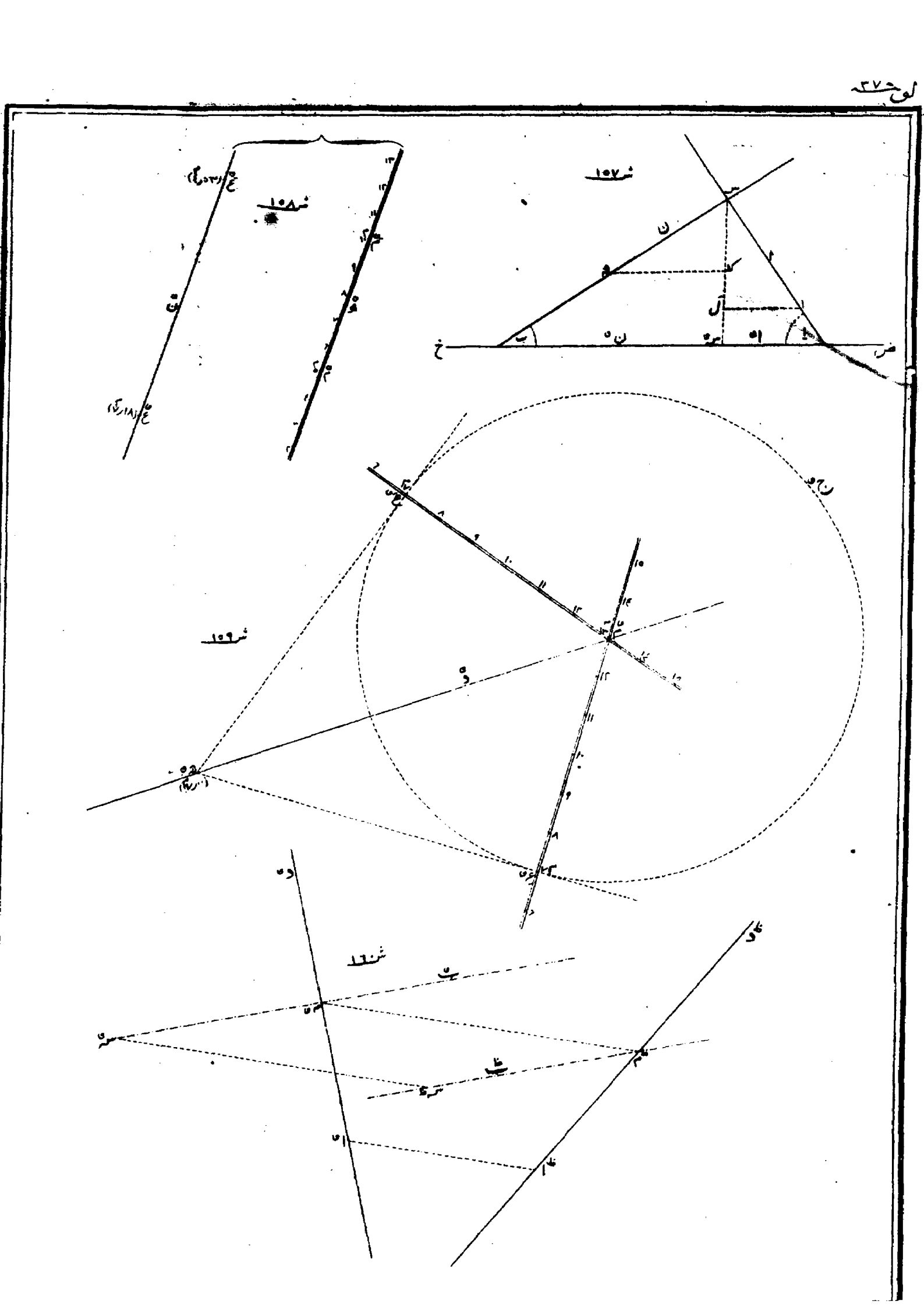
شكل ١٥٧
شكل ١٥٨
شكل ١٥٩
شكل ١٦٠

شكل ١٦١

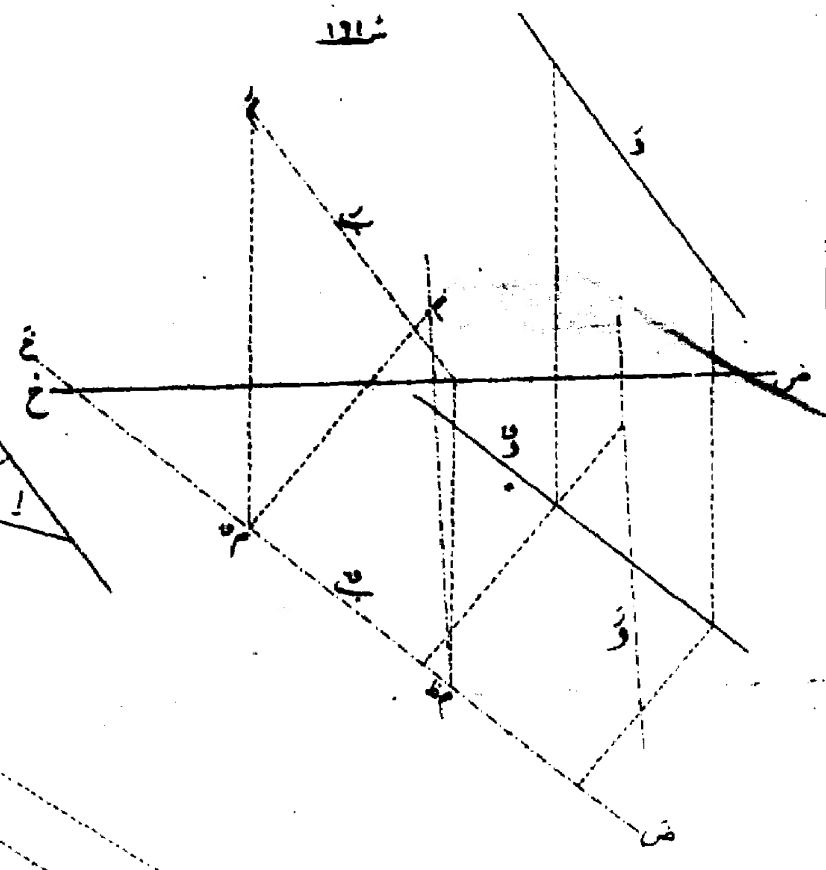

شكل ١٦٢

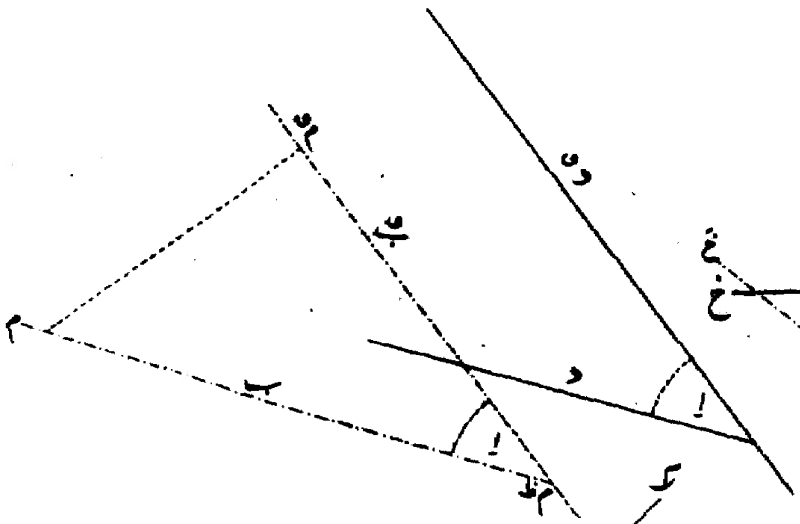

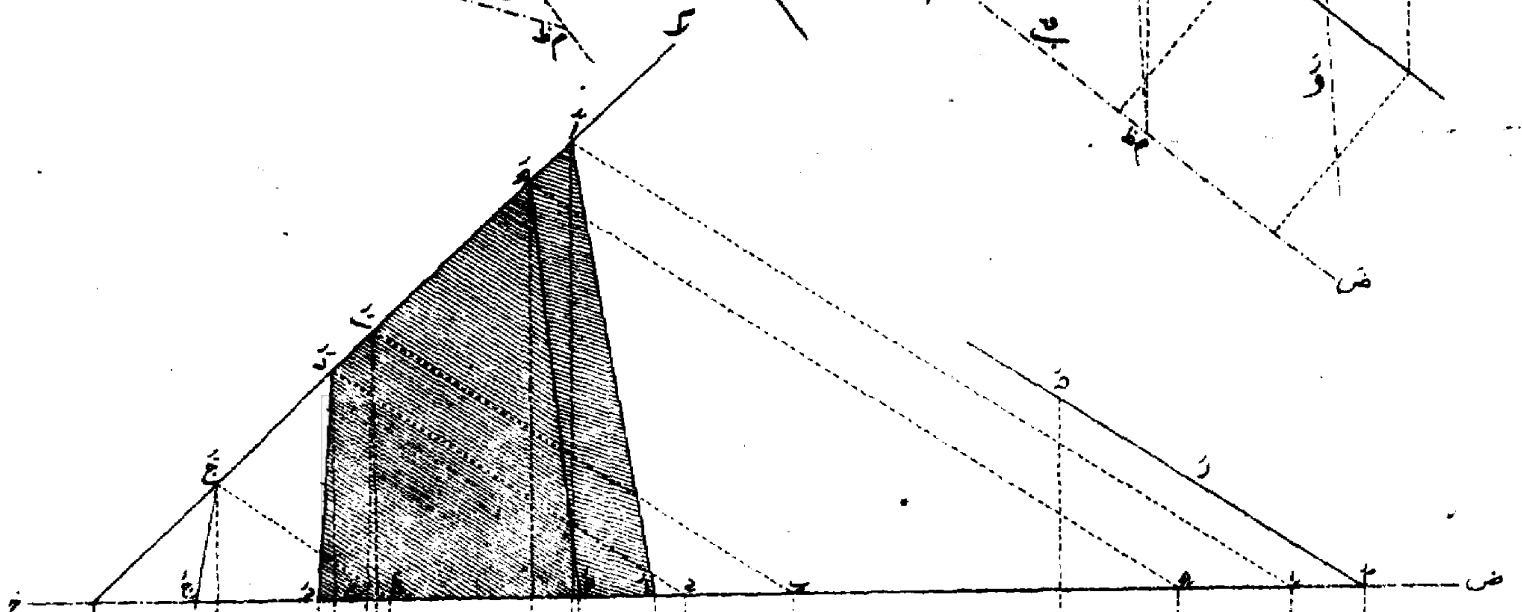

شكل ١٦٣

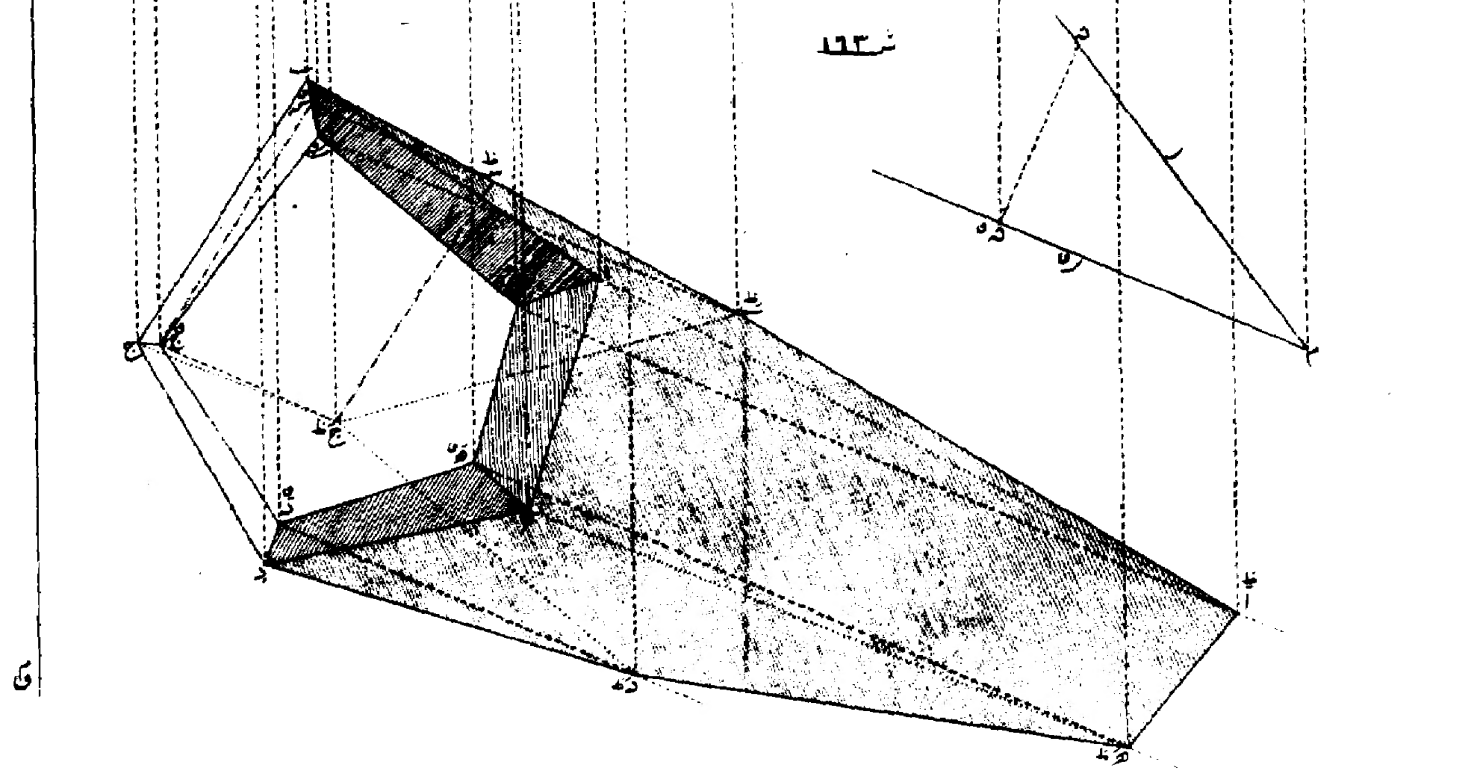

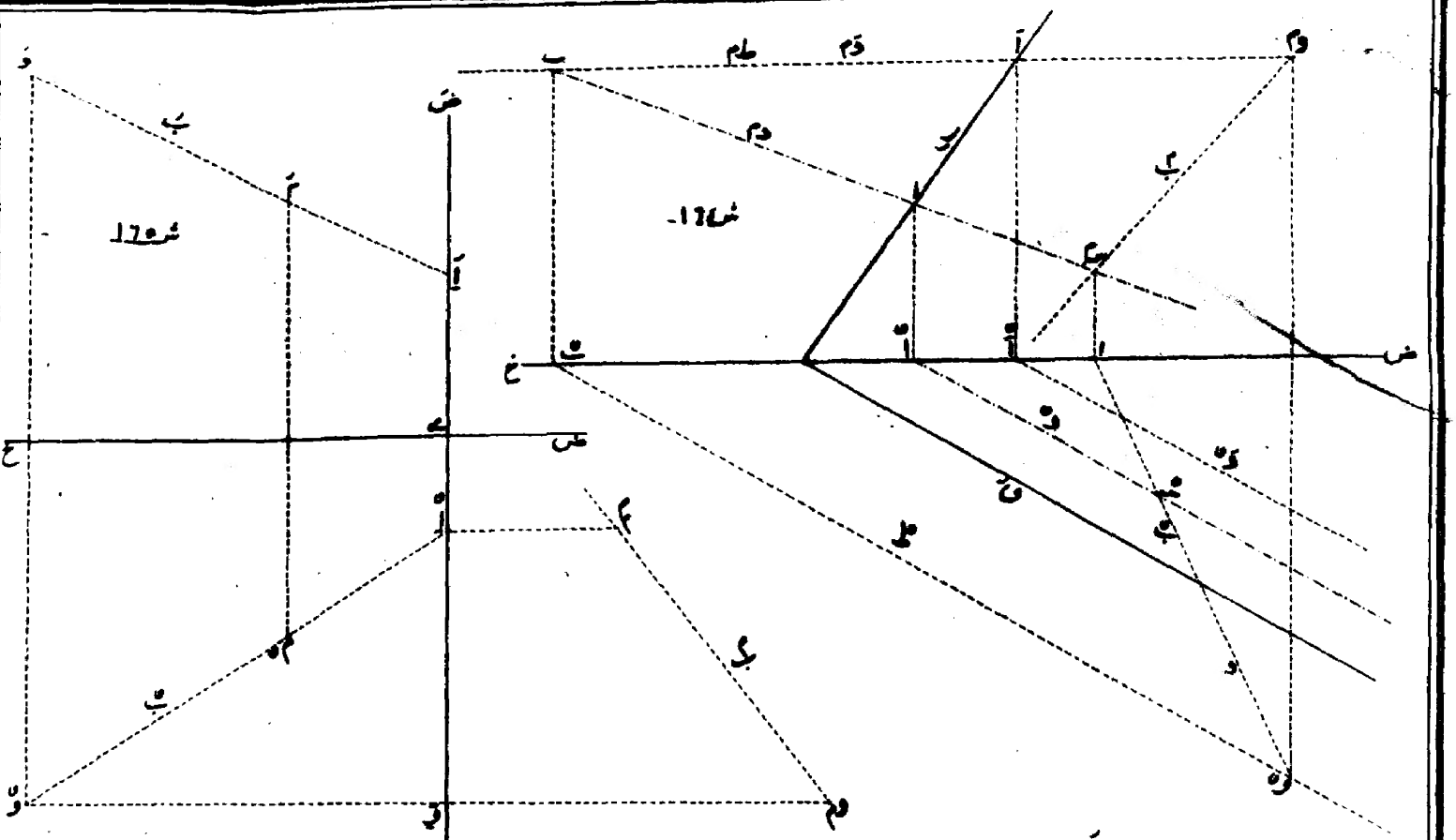

شكل ١٦٥

شكل ١٦٤

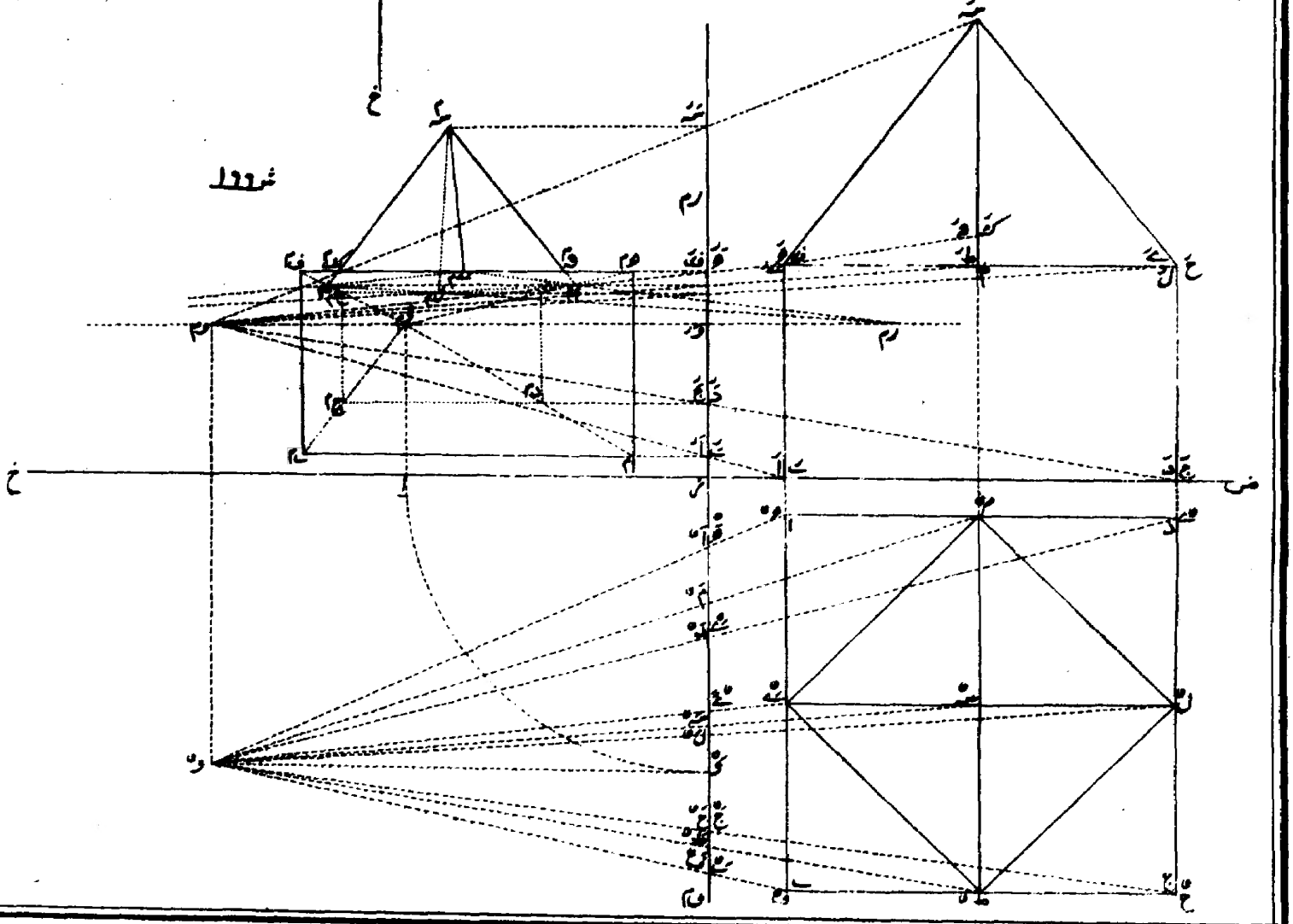

شكل ١٦٦

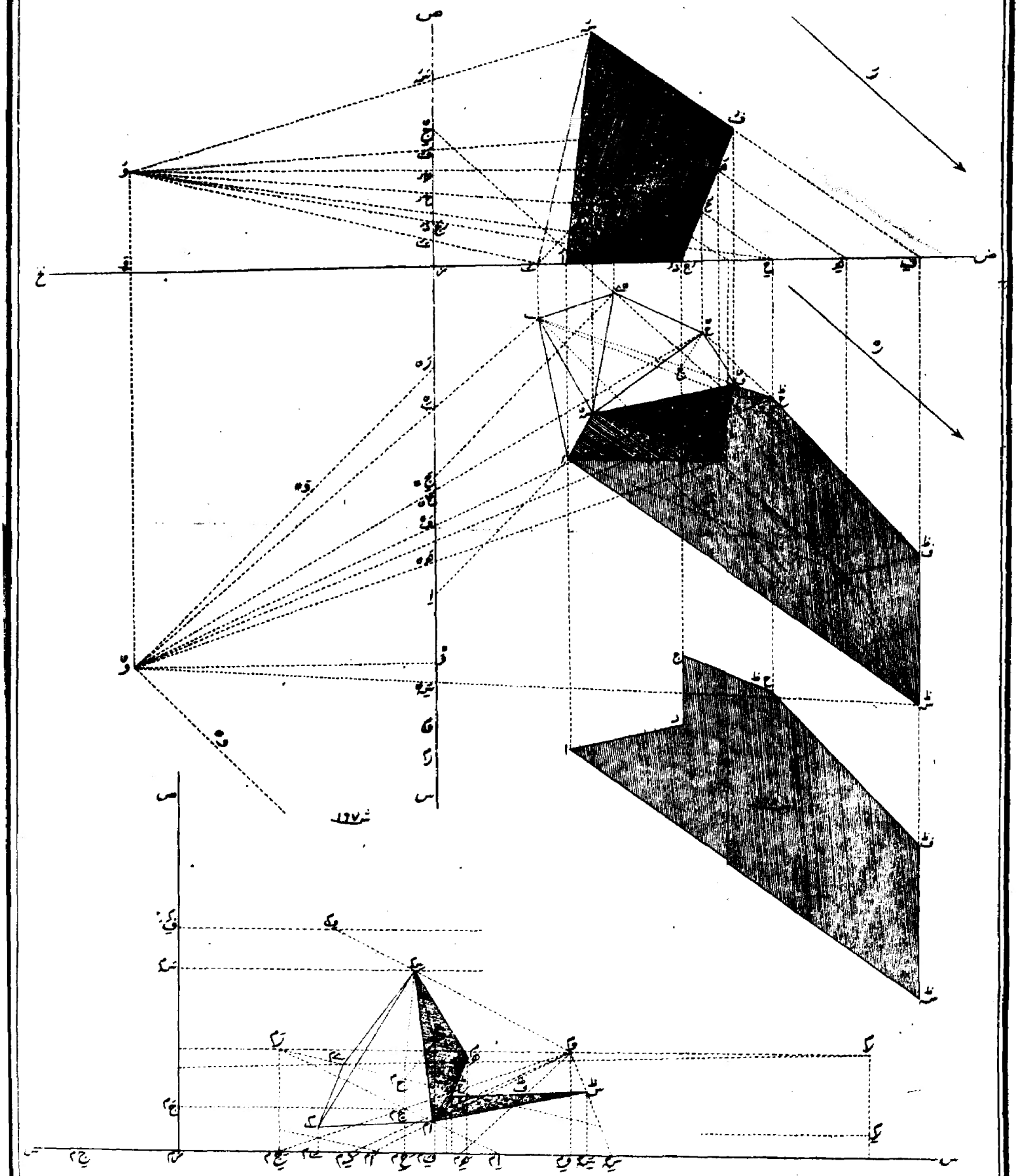

شكل ١٦٧